تم تحميل وعرض المادة من

موقع كتبي



www.kottby.net

موقع كتبي يعرض لكم الكتب الدراسية الطبعة الجديدة
وحلولها، وشرح للمناهج الدراسية، توزيع المناهج، تحاضير،
أوراق عمل، نماذج إختبارات عرض مباشر وتحميل PDF

حمل التطبيق من هنا

احصل عليه من AppGallery
تنزيل من App Store
احصل عليه من Google Play

موقع منهجي
mnhaji.com

الاختبار النهائي /للفصل الدراسي الأول
العـام الدراسي / ١٤٤٨هـ
المـــــادة / رياضيات
الصـــــف / الأول
الـــــزمن / ساعتان

اسم الطالب : ..... الصف الأول / .....

السؤال	الأول	الثاني	الثالث	الرابع	المصحح		المراجع		الدرجة النهائية
الدرجة					الاسم		الاسم		
	٦	١٢	١١	١١	التوقيع		التوقيع		٤٠

السؤال الأول :

أ) حوط الشكل الذي يشترك مع المثلث داخل الإطار في أكثر من خاصية :

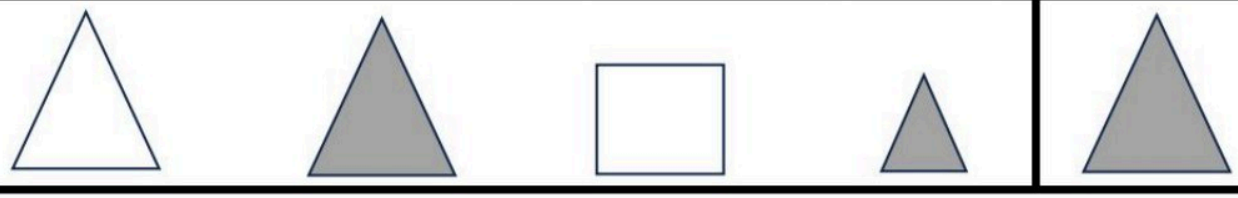

ب) صل بخط بين عناصر المجموعتين المتقابلتين،
ثم حوط الصورة التي بها عدد المجموعتان متساويان هي:





ج) صل بخط بين عناصر المجموعتين المتقابلتين، ثم حوط المجموعة التى عدد عناصرها أكثر :



د) صل بخط بين عناصر المجموعتين المتقابلتين ثم حوط المجموعة التى عناصرها أقل:



السؤال الثاني :

أ) عد الكرات داخل كل وعاء ثم أكتب عددها في المربع:



ب) اكتب الأرقام من الواحد الى الخمسة: -

١		٣		

ج) عدد أصابع الإنسان في اليد الواحدة =

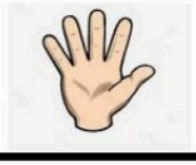

٢ ، ٣ ، ٤ ، ٥

د) عدد القطط في الصندوق =



٣ ، ٢ ، ١ ، ٠

هـ) ضع علامة X على الدب الذي في الوسط :-



و) حوط البالون الذي يقع فوق الشجرة ، وضع ✕ على البالون الذي يقع تحت الشجرة:



موقع منهجي
mnhaji.com

السؤال الثالث :

أ) حوط الحيوان الذي يسير قبل الآخرين و X على الحيوان الذي يسير بعد الآخرين:



ب) حوط الشكل التالي في النمط المعطى :



ج) اكتب العدد المناسب :



د) اكتب العدد أمام المجموعة ، ثم صل بخطوط بين المجموعتين ، ثم حوط المجموعة الأكثر:



هـ) اكتب الأعداد المفقودة :

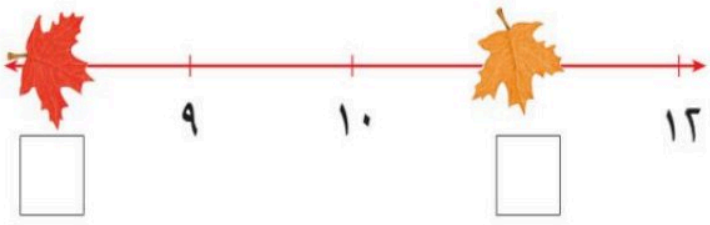

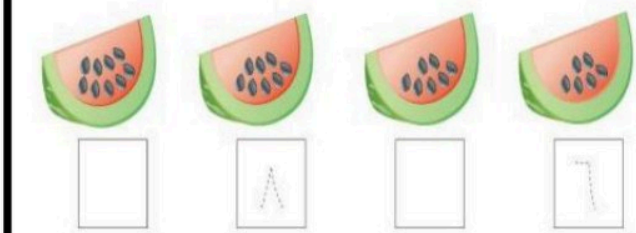

السؤال الرابع :

أ) حوط الولد الثاني ، وضع X على الوالد الأخير:



ب) اكتب الجمل العددية التالي :

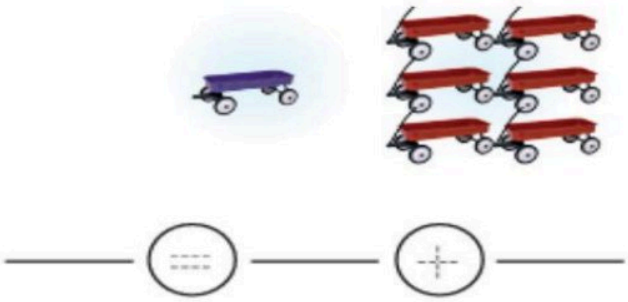

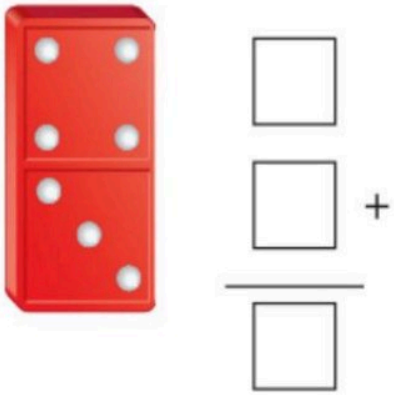

ج) اكتب مكونات العدد المعطى :

٥	=	___	+	___		
٥	=	___	+	___		
٧	=	___	+	___		
٧	=	___	+	___		

د) أوجد ناتج الجمع :



٠ + ٧ = _____

٤ + ٢ = _____

٢ + ٢ = _____

معلم المادة : .....

نهاية الأسئلة

مدير المدرسة: .....

موقع منهجي
mnhaji.com

نموذج الإجابة

الاختبار النهائي /للفصل الدراسي الأول
العـام الدراسي / ١٤٤٨هـ
المـــــادة / رياضيات
الصـــــف / الأول
الـــــزمن / ساعتان

اسم الطالب : ..... الصف الأول / .....

السؤال	الأول	الثاني	الثالث	الرابع	المصحح		المراجع		الدرجة النهائية
الدرجة					الاسم		الاسم		
	٦	١٢	١١	١١	التوقيع		التوقيع		٤٠

السؤال الأول :

أ) حوط الشكل الذي يشترك مع المثلث داخل الإطار في أكثر من خاصية :



ب) صل بخط بين عناصر المجموعتين المتقابلتين،
ثم حوط الصورة التي بها عدد المجموعتان متساويان هي:



ج) صل بخط بين عناصر المجموعتين المتقابلتين، ثم حوط المجموعة التي عدد عناصرها أكثر :

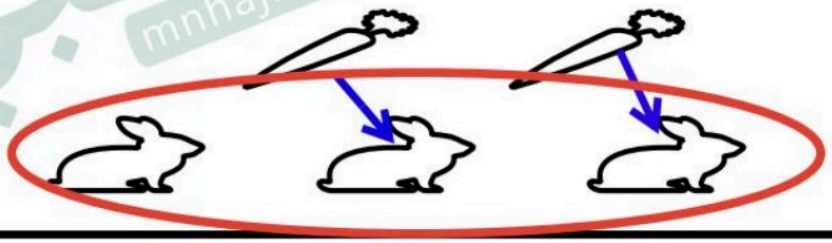

د) صل بخط بين عناصر المجموعتين المتقابلتين ثم حوط المجموعة التي عناصرها أقل:

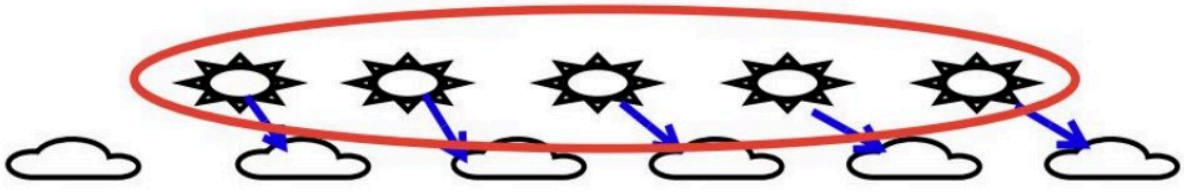

موقع منهجي
mnhaji.com

السؤال الثاني :

أ) عد الكرات داخل كل وعاء ثم أكتب عددها في المربع:



ب) اكتب الأرقام من الواحد الى الخمسة: -

١	٢	٣	٤	٥

ج) عدد أصابع الإنسان في اليد الواحدة = ٥



٢ ، ٣ ، ٤ ، (٥)

د) عدد القطط في الصندوق = ٠



٣ ، ٢ ، ١ ، (٠)

هـ) ضع علامة X على الدب الذي في الوسط :-



و) حوط البالون الذي يقع فوق الشجرة ، وضع ✕ على البالون الذي يقع تحت الشجرة:



موقع منهجي
mnhaji.com

السؤال الثالث :

أ) حوط الحيوان الذي يسير قبل الآخرين و X على الحيوان الذي يسير بعد الآخرين:



ب) حوط الشكل التالي في النمط المعطى :

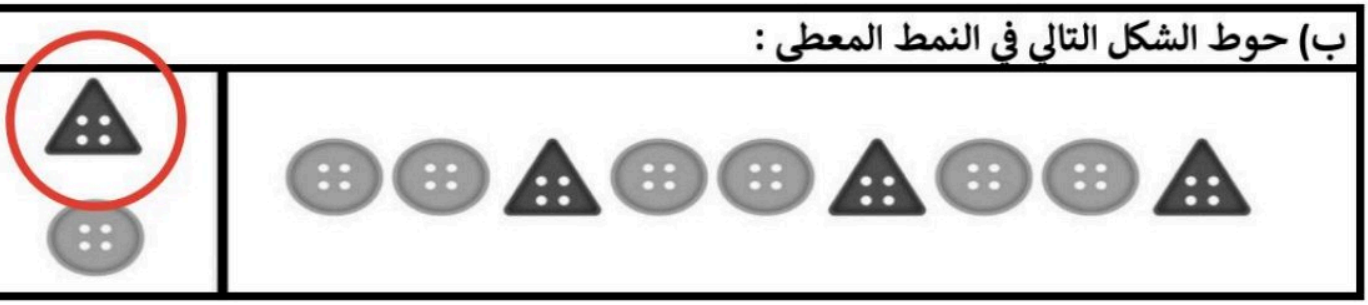

ج) اكتب العدد المناسب :



د) اكتب العدد أمام المجموعة ، ثم صل بخطوط بين المجموعتين ، ثم حوط المجموعة الأكثر:

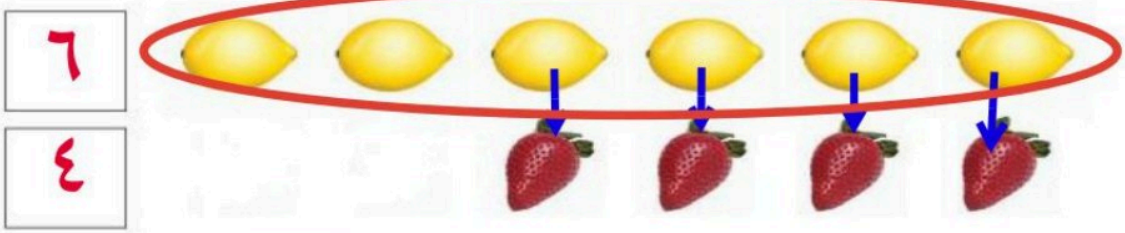

موقع منهجي
mnhaji.com

هـ) اكتب الأعداد المفقودة :

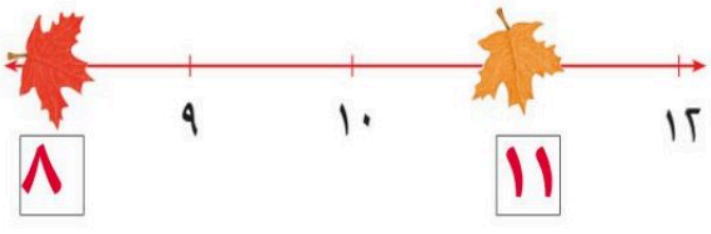



السؤال الرابع :

أ) حوط الولد الثاني ، وضع X على الوالد الأخير:



ب) اكتب الجمل العددية التالي :

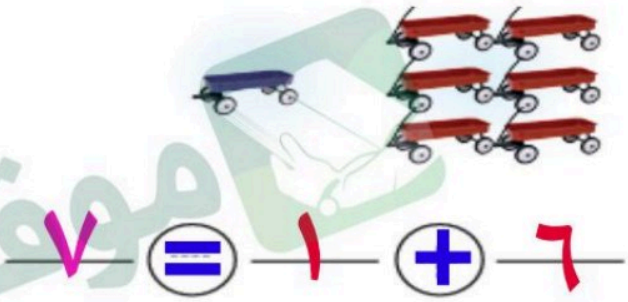

٦ + ١ = ٧



٤
٣ +
٧

ج) اكتب مكونات العدد المعطى :

١	+	٤	=	٥	٥	+	٢	=	٧
٣	+	٢	=	٥	٣	+	٤	=	٧

د) أوجد ناتج الجمع :



٠ + ٧ = ٧

٤ + ٢ = ٦

٢ + ٢ = ٤

معلم المادة : ..... **نهاية الأسئلة** **مدير المدرسة: .....**

موقع منهجي
mnhaji.com

التاريخ : / / ١٤٤٨هـ

الفترة:

الزمن:

اختبار مادة الرياضيات للصف أول الابتدائي الفصل الدراسي الأول

(الدور الأول) للعام الدراسي ١٤٤٨هـ

اسم الطالب / ـة رباعيًا: ..... رقم الجلوس : .....

ملاحظات

- ورقة الإجابة كاملة مسؤولية الطالبة حتى تنتهي من الاختبار وتسلمها
- تأكدي من كتابة الاسم الرباعي و رقم الجلوس في كل ورقة من أوراق الاختبار .
- قراءة السؤال كاملًا وحاولي فهمه جيدًا قبل الإجابة
- حافظي على هدوء اللجنة واتبعي تعليمات الملاحظات
- اكتبي بالقلم الأزرق الجاف فقط وعدم استخدام المزيل
- راجعي إجابتك جيدًا قبل تسليم الورقة

رقم السؤال	الدرجة رقماً	الدرجة كتابة	المصححة (أحمر)	المراجعة (أسود)	المدققة (أخضر)
السؤال الأول					
السؤال الثاني					
السؤال الثالث					
السؤال الرابع					
الدرجة النهائية	رقماً	كتابة			
٤٠					

معلمة المادة: أ. الختم مديرة المدرسة : أ.

الدرجة
١٠

السؤال الأول: أجب عما يلي

أ) حوط العناصر المماثلة للشكل الموجود داخل الإطار.



ب) حوط الشكل المماثل له ويضع علامة (✕) على الشكل المختلف.

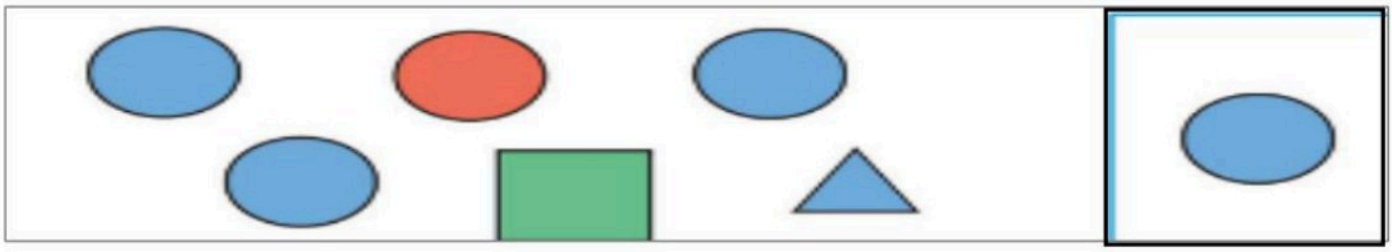

ب)صل بخط بين عناصر المجموعتين المتقابلتين، ثم حوط الصورة التي بها عدد المجموعتان متساويان .



ج) عد الأشياء التي في الصورة ثم اكتب عددها في المربع.

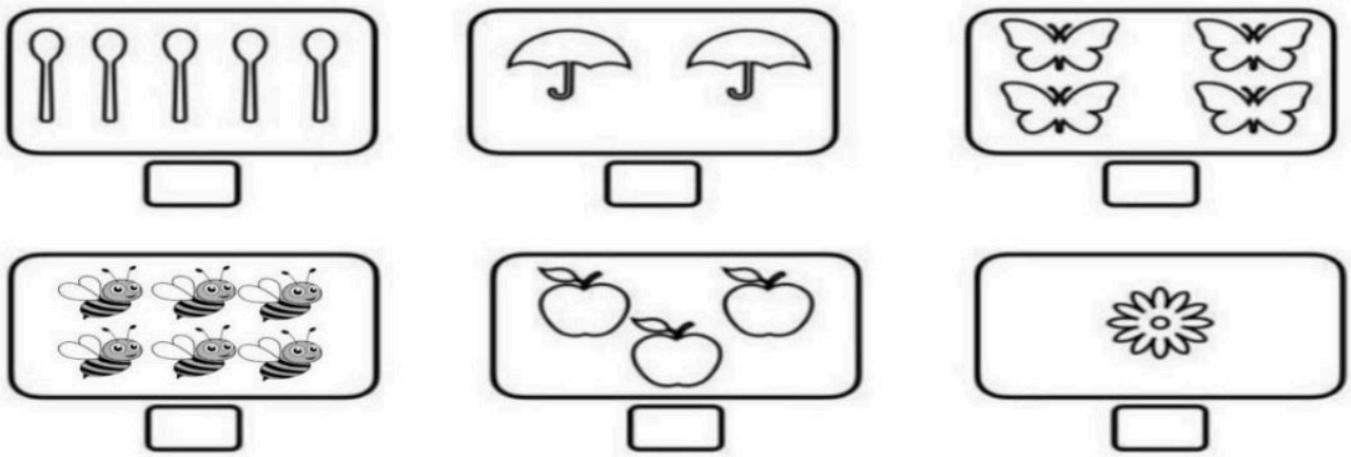

الدرجة
٦

السؤال الثاني:

أ) اختر الشكل التالي في النمط.



ب) اختر الحيوان التالي في النمط



جـ) ضع علامة (✕) على الدب الذي في الوسط.



د) حوط البالون الذي يقع فوق الشجرة ، وضع علامة (✕) على البالون الذي يقع تحت الشجرة.



هـ) اكتب الأعداد المفقودة في المربعات.

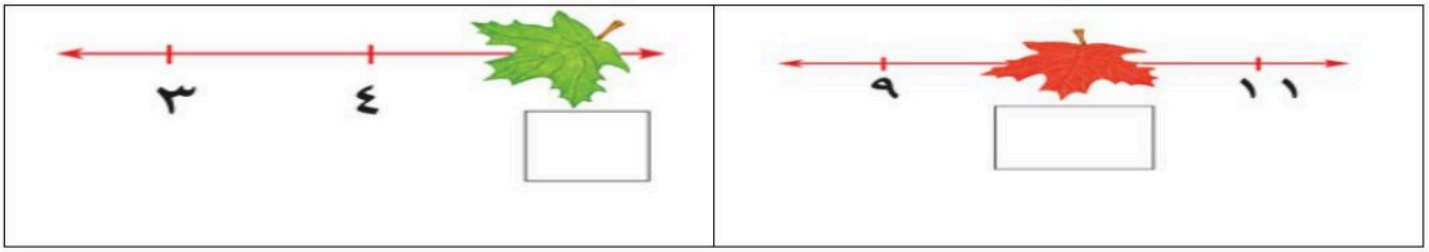

الدرجة
١٢

السؤال الثالث:

أ) اكتب الجمل العددية التالي :

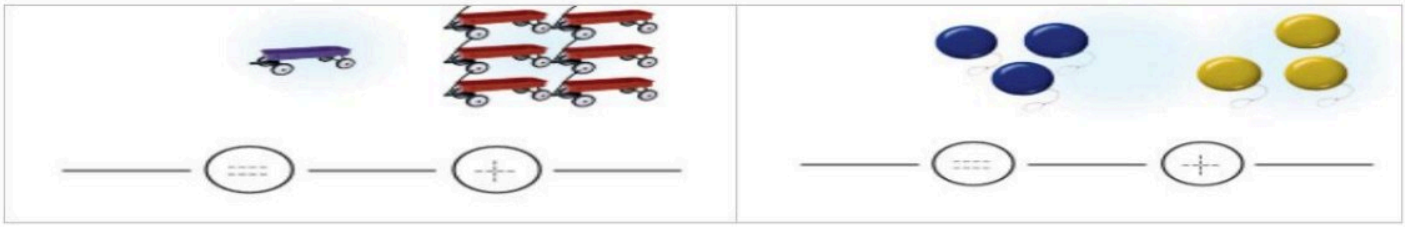

ب) أوجد ناتج الجمع .

٨ + ٠ = _____	٤ + ٢ = _____	٢ + ٢ = _____

ج) أوجد ناتج الجمع الراسي .



د) أوجد ناتج الجمع الوقفي.



الدرجة
١٢

السؤال الرابع:

أ) عد الأشياء ثم اكتب عددها في المربع.

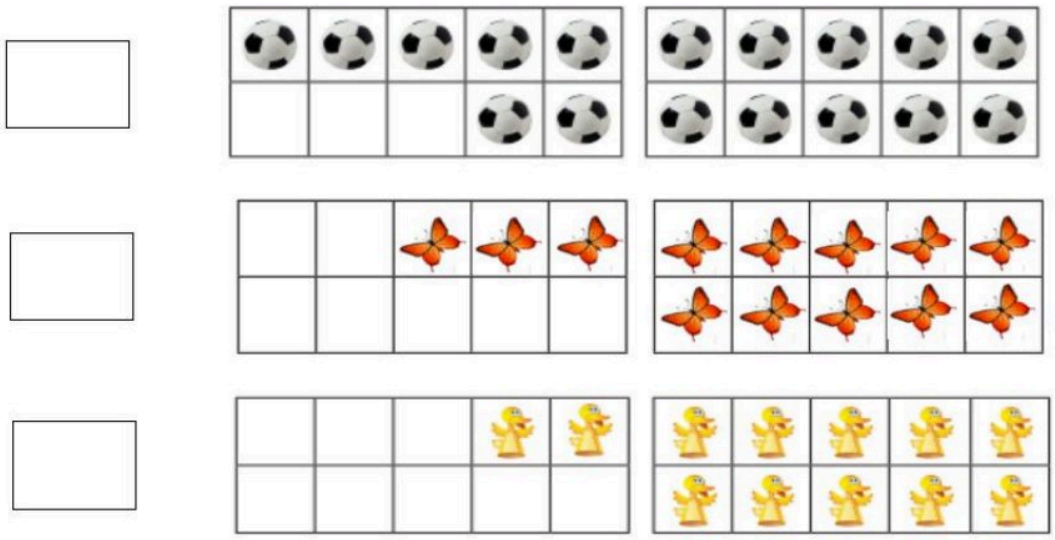

ب) اكتب الأعداد مرتبة من ١ إلى ٢٠ في الجدول التالي.

					٥				
٢٠									

الأسئلة

مع دعواتي لكم بالتفوق والنجاح

موقع منهجي
mnhaji.com

التاريخ : / / ١٤٤٨هـ

الفترة:

الزمن:

اختبار مادة الرياضيات للصف أول الابتدائي الفصل الدراسي الأول

(الدور الأول) للعام الدراسي ١٤٤٨هـ

اسم الطالب / ـة رباعيًا: ..... رقم الجلوس : .....

ملاحظات

- ورقة الإجابة كاملة مسؤولية الطالبة حتى تنتهي من الاختبار وتسلمها
- تأكدي من كتابة الاسم الرباعي و رقم الجلوس في كل ورقة من أوراق الاختبار .
- قراءة السؤال كاملًا وحاولي فهمه جيدًا قبل الإجابة
- حافظي على هدوء اللجنة واتبعي تعليمات الملاحظات
- اكتبي بالقلم الأزرق الجاف فقط وعدم استخدام المزيل
- راجعي إجابتك جيدًا قبل تسليم الورقة

رقم السؤال	الدرجة رقماً	الدرجة كتابة	المصححة (أحمر)	المراجعة (أسود)	المدققة (أخضر)
السؤال الأول					
السؤال الثالث					
السؤال الرابع					
الدرجة النهائية	رقماً	كتابة			
٤٠					

نموذج الإجابة

معلمة المادة: أ. الختم مديرة المدرسة : أ.

الدرجة
١٠

السؤال الأول: أجب عما يلي

أ) حوط العناصر المماثلة للشكل الموجود داخل الإطار.



ب) حوط الشكل المماثل له ويضع علامة (✕) على الشكل المختلف.



ب)صل بخط بين عناصر المجموعتين المتقابلتين، ثم حوط الصورة التي بها عدد المجموعتان متساويان .



ج) عد الأشياء التي في الصورة ثم اكتب عددها في المربع.

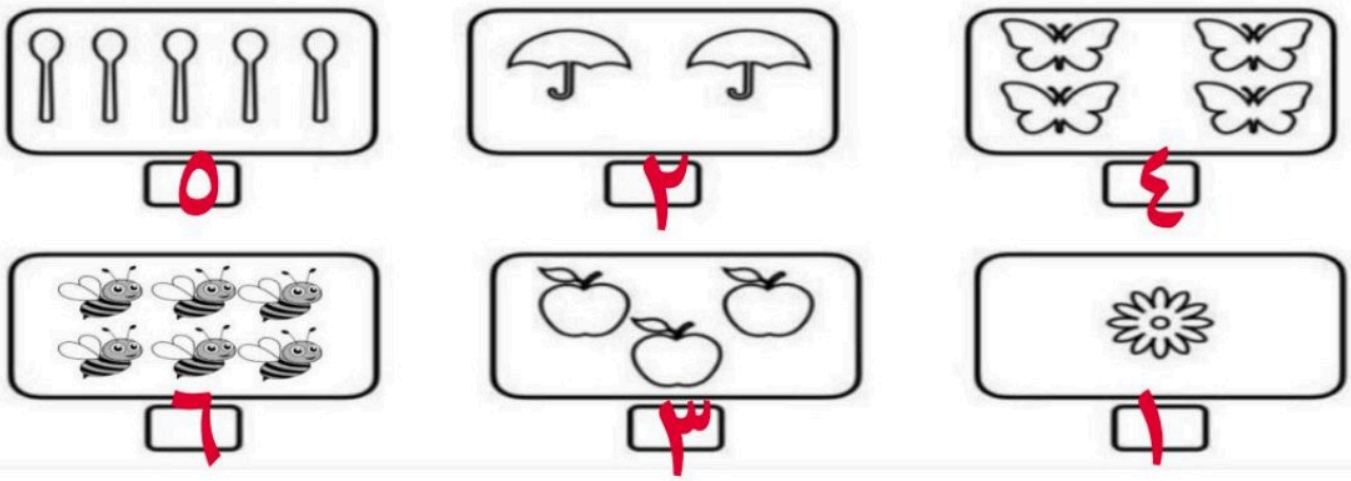

موقع منهجي
mnhaji.com

الدرجة
٦

السؤال الثاني:

أ) اختر الشكل التالي في النمط.



ب) اختر الحيوان التالي في النمط



جـ) ضع علامة (✕) على الدب الذي في الوسط.



د) حوط البالون الذي يقع فوق الشجرة ، وضع علامة (✕) على البالون الذي يقع تحت الشجرة.



هـ) اكتب الأعداد المفقودة في المربعات.

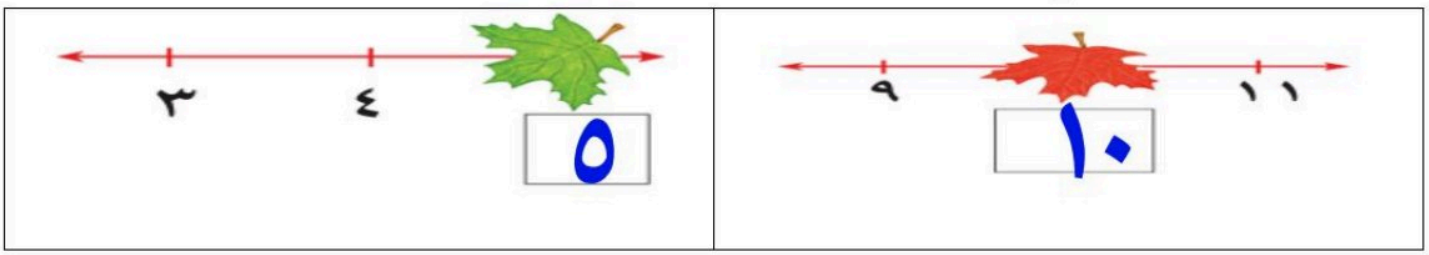

موقع منهجي
mnhaji.com

يتبع

الدرجة
١٢

السؤال الثالث:

أ) اكتب الجمل العددية التالي :

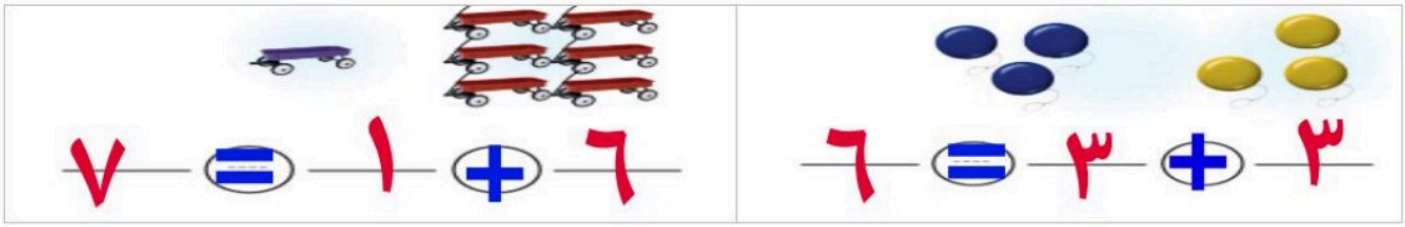

ب) أوجد ناتج الجمع .

٨ + ٠ = ٨	٤ + ٢ = ٦	٢ + ٢ = ٤

موقع منهجي
mnhaji.com

ج) أوجد ناتج الجمع الراسي .



د) أوجد ناتج الجمع الوقفي.

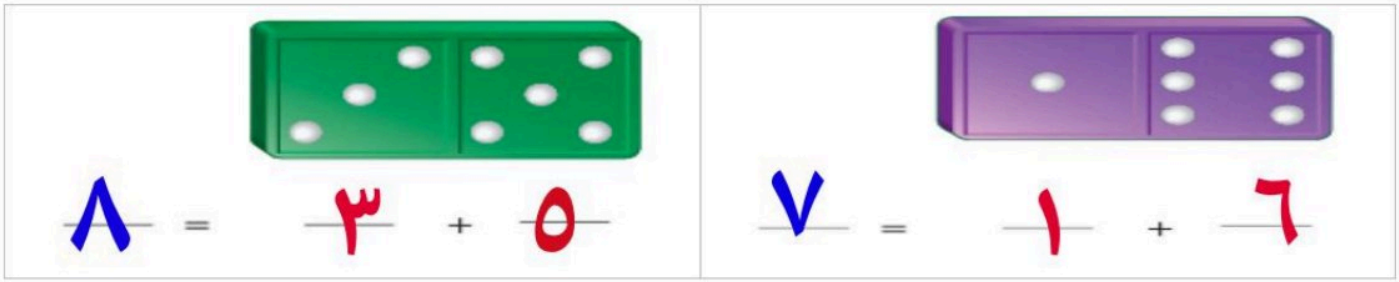

موقع منهجي
mnhaji.com

يتبع

الدرجة
١٢

السؤال الرابع:

أ) عد الأشياء ثم اكتب عددها في المربع.



١٧



١٣



١٢

ب) اكتب الأعداد مرتبة من ١ إلى ٢٠ في الجدول التالي.

١	٢	٣	٤	٥	٦	٧	٨	٩	١٠
١١	١٢	١٣	١٤	١٥	١٦	١٧	١٨	١٩	٢٠

الأسئلة

مع دعواتي لكم بالتفوق والنجاح

موقع منهجي
mnhaji.com

العام الدراسي	١٤٤٨هـ
الفصل الدراسي	الفصل الدراسي الاول
الدور	الاول
الصف/ المستوى	الاول الابتدائي
المادة	رياضيات
الزمن	ساعتان
عدد الأوراق	٤

اسم الطالبة		رقم الجلوس	

بيان تقدير الدرجات								
رقم السؤال	الدرجة المستحقة		المصححة		المراجعة		المدققة	
	رقماً	كتابة	الاسم	التوقيع	الاسم	التوقيع	الاسم	التوقيع
١								
٢								
المجموع			جمعه:		راجعه:		دققه :	
الدرجة بعد المراجعة			التوقيع:					

السؤال الأول : أ / أجيبي عما هو مطلوب فيما يأتي :

١ / حوط العناصر المماثلة للشكل الموجود داخل الإطار :-



٢ / صل بين عناصر المجموعات ثم حوط الصورة التي يكون بها عدد المجموعتان متساويان :-



٣ / ارسم موزة فوق القرد وضع خطا تحت الولد :-



٤ / حوط الحيوان الذي سيصل للماء قبل الآخرين :-



٥ / اختر الشكل التالي في النمط :-



٦ / حوطي القطة الثالثة ، وضعي X على القطة السابعة :



السؤال الأول : أ / أجيبي عما هو مطلوب فيما يأتي :

٧ / ضعي علامة X على الدب الذي يسير في الوسط :-



٨ /عدي الأشياء التي في الصورة واكتب عددها في المربع :-

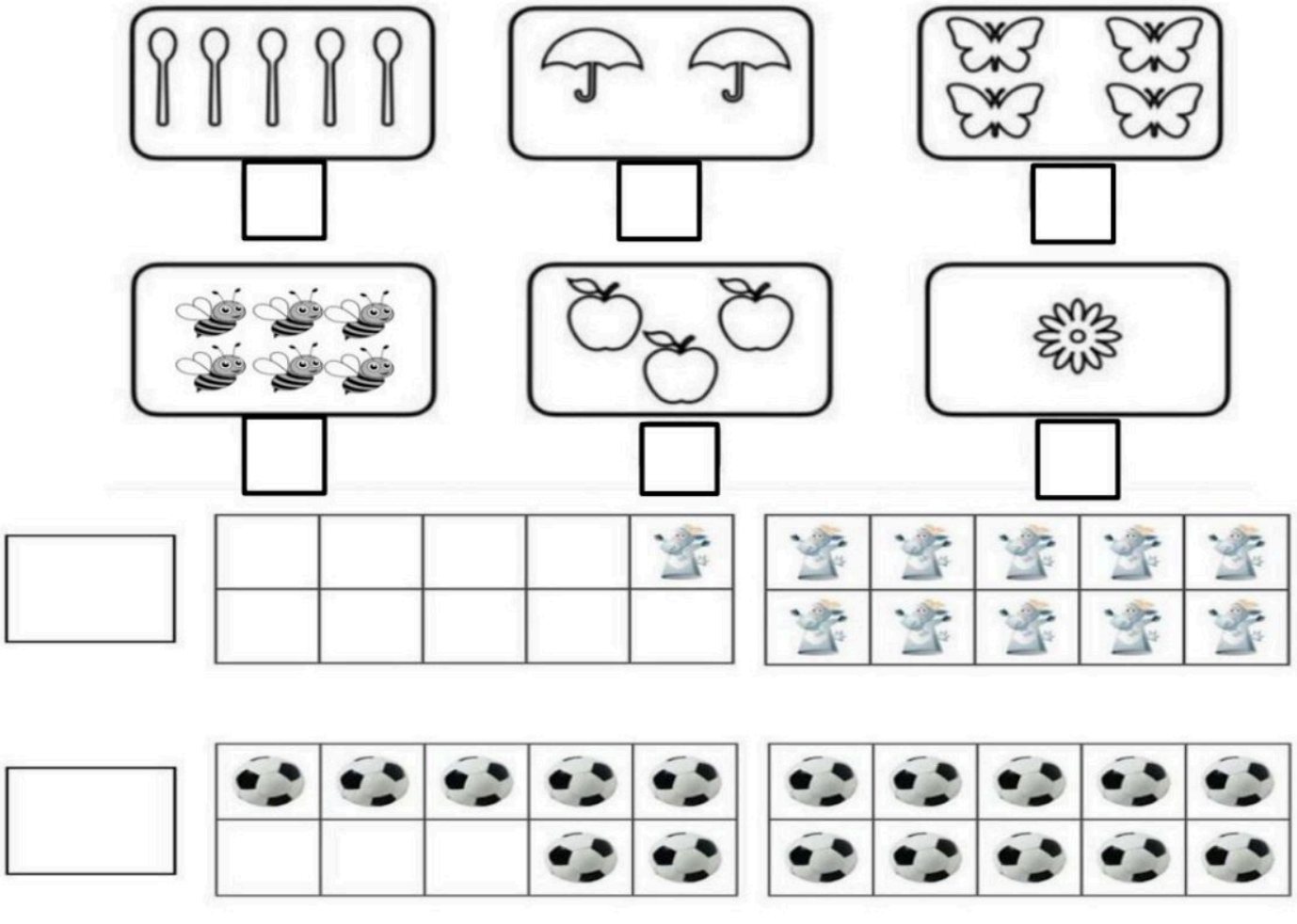

٩ / اختاري الرقم المناسب لعدد الأشياء في الصورة :-

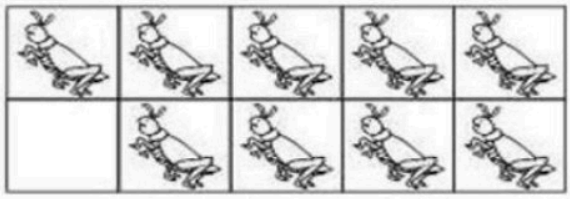

٨ ٩ ٧



٩ ١٠ ١١

موقع منهجي
mnhaji.com

السؤال الثاني : أ / اكتبي جملة الجمع المناسبة :

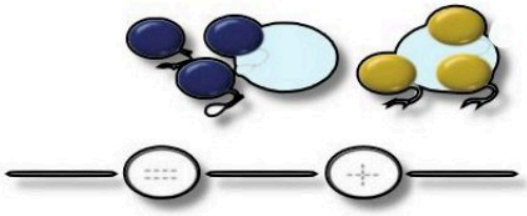

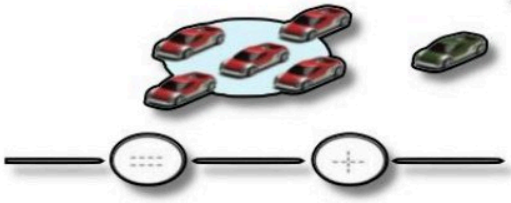



٣ + ٠ = ___

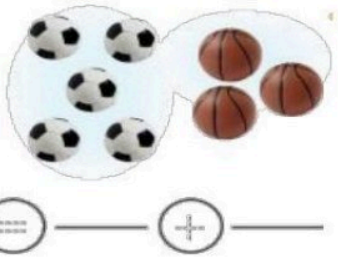



___ + ___ = ___

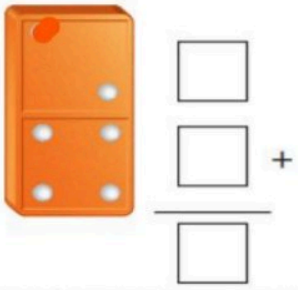

ب / أكملي خط الأعداد بكتابة العدد المغطى بورق الشجر :

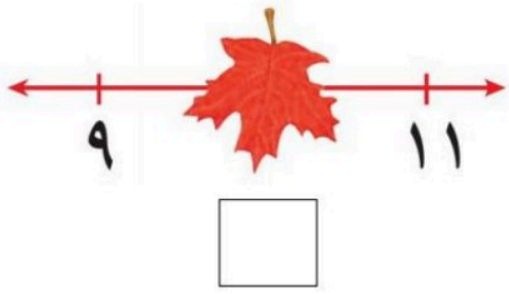

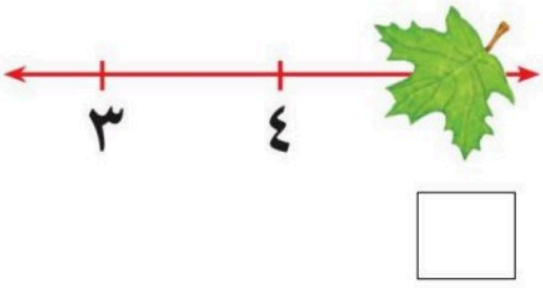

ج / اكملي كتابة الاعداد في الجدول التالي :

٢٠					١٥				١١

انتهت الأسئلة ...مع تمنياتنا لكم بالتوفيق .....معلمات الرياضيات

العام الدراسي	١٤٤٨هـ
الفصل الدراسي	الفصل الدراسي الاول
الدور	الاول
الصف/ المستوى	الاول الابتدائي
المادة	رياضيات
الزمن	ساعتان
عدد الأوراق	٤

اس

نموذج الإجابة

رقم السؤال	الدرجة المستحقة		المصححة		المراجعة		المدققة	
	رقماً	كتابة	الاسم	التوقيع	الاسم	التوقيع	الاسم	التوقيع
١								
٢								
المجموع			جمعه:		راجعه:		دققه :	
الدرجة بعد المراجعة			التوقيع:					

السؤال الأول : أ / أجيبي عما هو مطلوب فيما يأتي :

١ / حوط العناصر المماثلة للشكل الموجود داخل الإطار :-



٢ / صل بين عناصر المجموعات ثم حوط الصورة التي يكون بها عدد المجموعتان متساويان :-



٣ / ارسم موزة فوق القرد وضع خطا تحت الولد :-



٤ / حوط الحيوان الذي سيصل للماء قبل الآخرين :-



٥ / اختر الشكل التالي في النمط :-



٦ / حوطي القطة الثالثة ، وضعي X على القطة السابعة :



موقع منهجي
mnhaji.com

السؤال الأول : أ / أجيبي عما هو مطلوب فيما يأتي :

٧ / ضعي علامة X على الدب الذي يسير في الوسط :-



٨ /عدي الأشياء التي في الصورة واكتب عددها في المربع :-

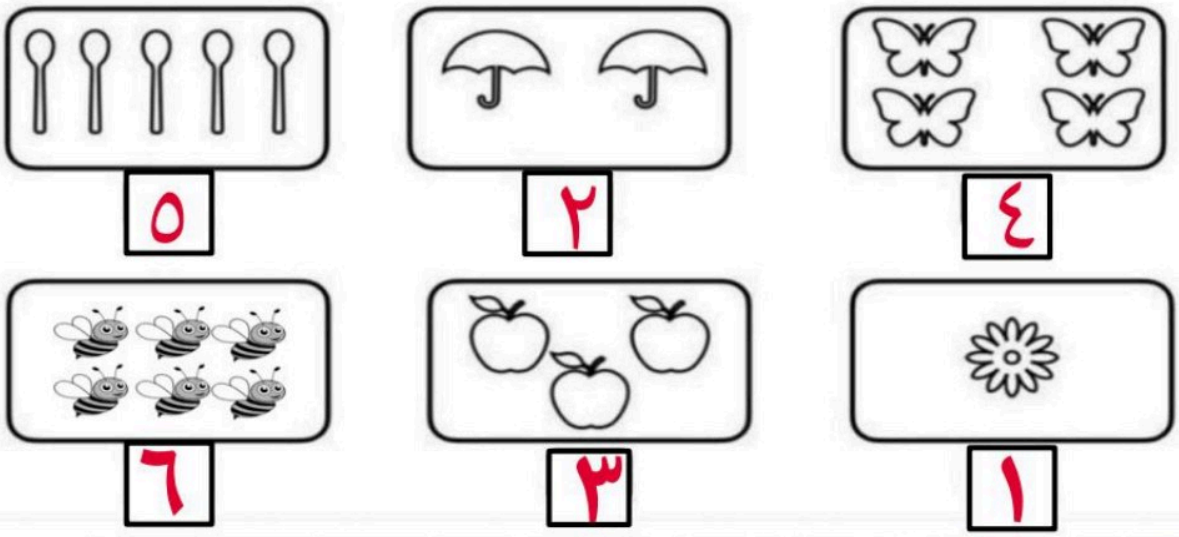





٩ / اختاري الرقم المناسب لعدد الأشياء في الصورة :-

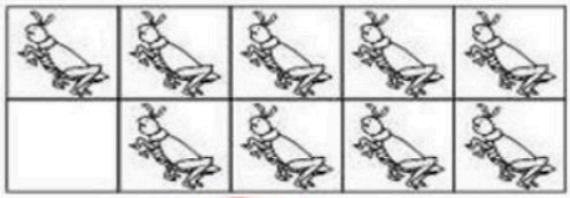

٨ ٩ ٧



٩ ١٠ ١١

موقع منهجي
mnhaji.com

السؤال الثاني : أ / اكتبي جملة الجمع المناسبة :



٣ + ٣ = ٦

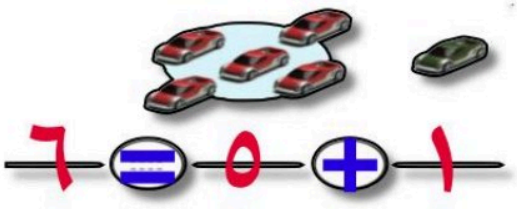

١ + ٥ = ٦



٣ + ٠ = ٣



٣ + ٥ = ٨



٢ + ٤ = ٦



١
٤ +
٥

ب / أكملي خط الأعداد بكتابة العدد المغطى بورق الشجر :



٩ ١٠ ١١



٣ ٤ ٥

ج / اكملي كتابة الاعداد في الجدول التالي :

١١	١٢	١٣	١٤	١٥	١٦	١٧	١٨	١٩	٢٠

انتهت الأسئلة ...مع تمنياتنا لكم بالتوفيق .....معلمات الرياضيات

موقع منهجي
mnhaji.com

اليوم : الأحد
التاريخ : ١٥/ ٧ / ١٤٤٨ هـ
المادة : رياضيات
الزمن : ساعتان ونصف

موقع منهجي
mnhaji.com

اختبار(الدور الأول) للفترة الدراسية الأولى للعام ١٤٤٧ / ١٤٤٨هـ

اسم الطالب:.....

رقم الجلوس:.....

رقم السؤال	الدرجة		اسم المصححة	التوقيع	اسم المراجعة	التوقيع
	رقماً	كتابةً				
السؤال الأول						
السؤال الثاني						
السؤال الثالث						
المجموع	ـــــــ ٤٠		جمعته الاسم: التوقيع:	راجعته الاسم: التوقيع:	دققته الاسم: التوقيع:	

راجع جميع اجاباتك ، وحافظ على نظافة الورقة وترتيبها ، ووضوح الخط .

عدد الأسئلة (٣) عدد الصفحات (٣)

معلمة المادة:

مديرة المدرسة:

السؤال الأول: اختارالإجابة الصحيحة فيما يلي : ١٥

١ـأحوط الشكل الذي يشترك مع  في الشكل والحجم؟

أ	ب	ج	د
			

2- أكمل الفراغ: في الصورة المجاورة عدد الدفاتر ..... عدد الأقلام.



أ	ب	ج	د
أكثر من	أقل من	يساوي	

٣- عدد حبات الفراولة  هو :

أ	ب	ج	د
١	٢	٣	٤

٤- أي من هذه المجموعات يحتوي على ٥ برتقالات ؟

أ	ب	ج	د
			

٥- اكتب عدد السمكات في الوعاء :



أ	ب	ج	د
٠	١	٢	٣

٦-البالون الذي فوق الشجرة هو:

أ	ب	ج	د
			

٧- من هو الحيوان الذي يسير قبل الحيوانات الأخرى ؟



أ	ب	ج	د
			

٨- وحدة النمط الآتي هي :



أ	ب	ج	د
			

٩- ما العدد المفقود في ☐ ؟

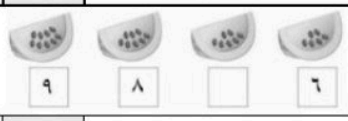

أ	ب	ج	د
٦	٧	٨	٩

١٠- ترتيب الولد المحاط بدائرة هو ؟



أ	ب	ج	د
٤	٦	٨	٩

يتبع

موقع منهجي
mnhaji.com

١١- ما العدد المفقود خلف الورقة ؟



أ	١٢	ب	١٣	ج	١٤	د	١٥

١٢- انظر إلى الصورة ، ماهي جملة الجمع الصحيحة ؟

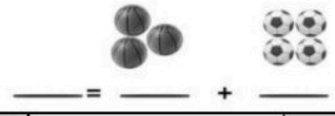

أ	٢ + ٢ = ٤	ب	٥ = ٠ + ٥	ج	١ + ٢ = ٣	د	٤ + ٣ = ٧

١٣- العدد الأكبر من العدد ١٦ هو ؟

أ	٢٠	ب	١٥	ج	١٤	د	١١

١٤ – يمكن تكوين العدد ١٠ بجمع :

أ	٥ + ٥	ب	٢ + ٣	ج	٤ + ٣	د	١ + ٤

١٥- يزيد عدد الحيوانات في كل مجموعة بنمط معين، حدد ذلك النمط ؟

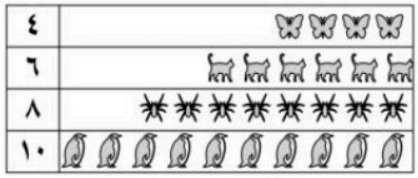

أ	يزيد بمقدار ٢	ب	يزيد بمقدار ٤	ج	يزيد بمقدار ٥	د	يزيد بمقدار ٦

السؤال الثاني: أصل بين المجموعة والعدد المناسب لها : ١٠

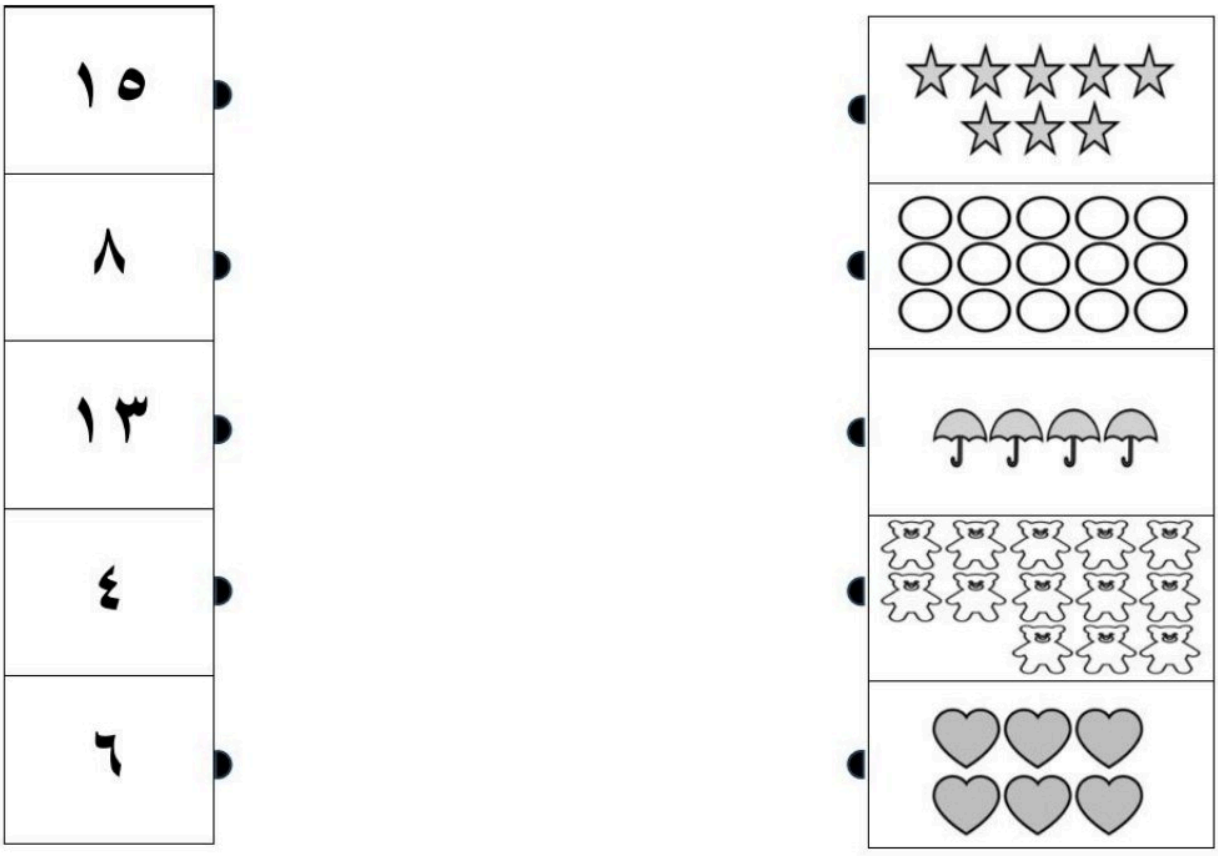

١٥

السؤال الثالث:

١- عد الموزات، ثم أكمل الرسم ليكون عدد الموزات ١٠ :

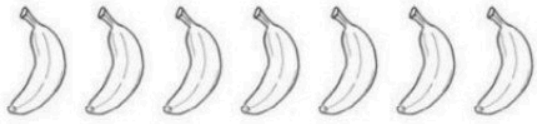

٢- حوط الصورة التالية في النمط المعطى :



٣- أكمل كتابة الأعداد المفقودة من ١ إلى ٢٠ :

١	٢		٤		٦		٧		١٠
١١		١٣	١٤	١٥		١٧	١٨		٢٠

٤- اكتب الأعداد، ثم أوجد ناتج الجمع :



_____ + _____ = _____



\+

٥- توجد ٣ طيور على الغصن، انضم إليها ٢ آخرين، فما عدد الطيور جميعها؟



..... طيور

~ انتهت الأسئلة ~

موقع منهجي
mnhaji.com

اليوم : الأحد
التاريخ : ١٥/ ٧ / ١٤٤٨ هـ
المادة : رياضيات
الزمن : ساعتان ونصف

اختبار(الدور الأول) للفترة الدراسية الأولى للعام ١٤٤٧ / ١٤٤٨هـ

اسم الطالب:.....

رقم الجلوس:.....

نموذج الإجابة

رقم الـ						التوقيع
السؤ الأو						
السؤال الثاني						
السؤال الثالث						
المجموع	ـــــــ ٤٠		جمعته	راجعته	دققته	
			الاسم: التوقيع:	الاسم: التوقيع:	الاسم: التوقيع:	

راجع جميع اجاباتك ، وحافظ على نظافة الورقة وترتيبها ، ووضوح الخط .

عدد الأسئلة (٣) عدد الصفحات (٣)

معلمة المادة:

مديرة المدرسة:

السؤال الأول: اختارالإجابة الصحيحة فيما يلي : ١٥

١ـأحوط الشكل الذي يشترك مع  في الشكل والحجم؟

أ		ب		ج		د	

2- أكمل الفراغ: في الصورة المجاورة عدد الدفاتر ..... عدد الأقلام.



أ	أكثر من	ب	أقل من	ج	يساوي	د	

٣- عدد حبات الفراولة  هو :

أ	١	ب	٢	ج	٣	د	٤

٤- أي من هذه المجموعات يحتوي على ٥ برتقالات ؟

أ		ب		ج		د	

٥- اكتب عدد السمكات في الوعاء :



أ	٠	ب	١	ج	٢	د	٣

٦-البالون الذي فوق الشجرة هو:

أ		ب		ج		د	

٧- من هو الحيوان الذي يسير قبل الحيوانات الأخرى ؟



أ		ب		ج		د	

٨- وحدة النمط الآتي هي :



أ		ب		ج		د	

٩- ما العدد المفقود في ☐ ؟



أ	٦	ب	٧	ج	٨	د	٩

١٠- ترتيب الولد المحاط بدائرة هو ؟



أ	٤	ب	٦	ج	٨	د	٩

يتبع

موقع منهجي
mnhaji.com

١١- ما العدد المفقود خلف الورقة ؟



أ	١٢	ب	١٣	ج	١٤	د	١٥

١٢- انظر إلى الصورة ، ماهي جملة الجمع الصحيحة ؟

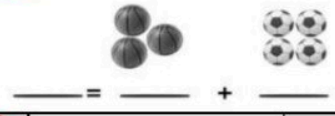

أ	٢ + ٢ = ٤	ب	٥ + ٠ = ٥	ج	١ + ٢ = ٣	د	٤ + ٣ = ٧

١٣- العدد الأكبر من العدد ١٦ هو ؟

أ	٢٠	ب	١٥	ج	١٤	د	١١

١٤ – يمكن تكوين العدد ١٠ بجمع :

أ	٥ + ٥	ب	٢ + ٣	ج	٤ + ٣	د	١ + ٤

١٥- يزيد عدد الحيوانات في كل مجموعة بنمط معين، حدد ذلك النمط ؟

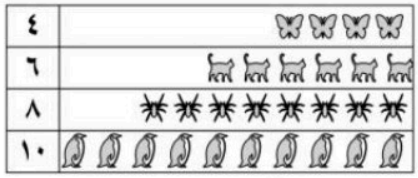

أ	يزيد بمقدار ٢	ب	يزيد بمقدار ٤	ج	يزيد بمقدار ٥	د	يزيد بمقدار ٦

موقع منهجي
mnhaji.com

السؤال الثاني: أصل بين المجموعة والعدد المناسب لها : ١٠

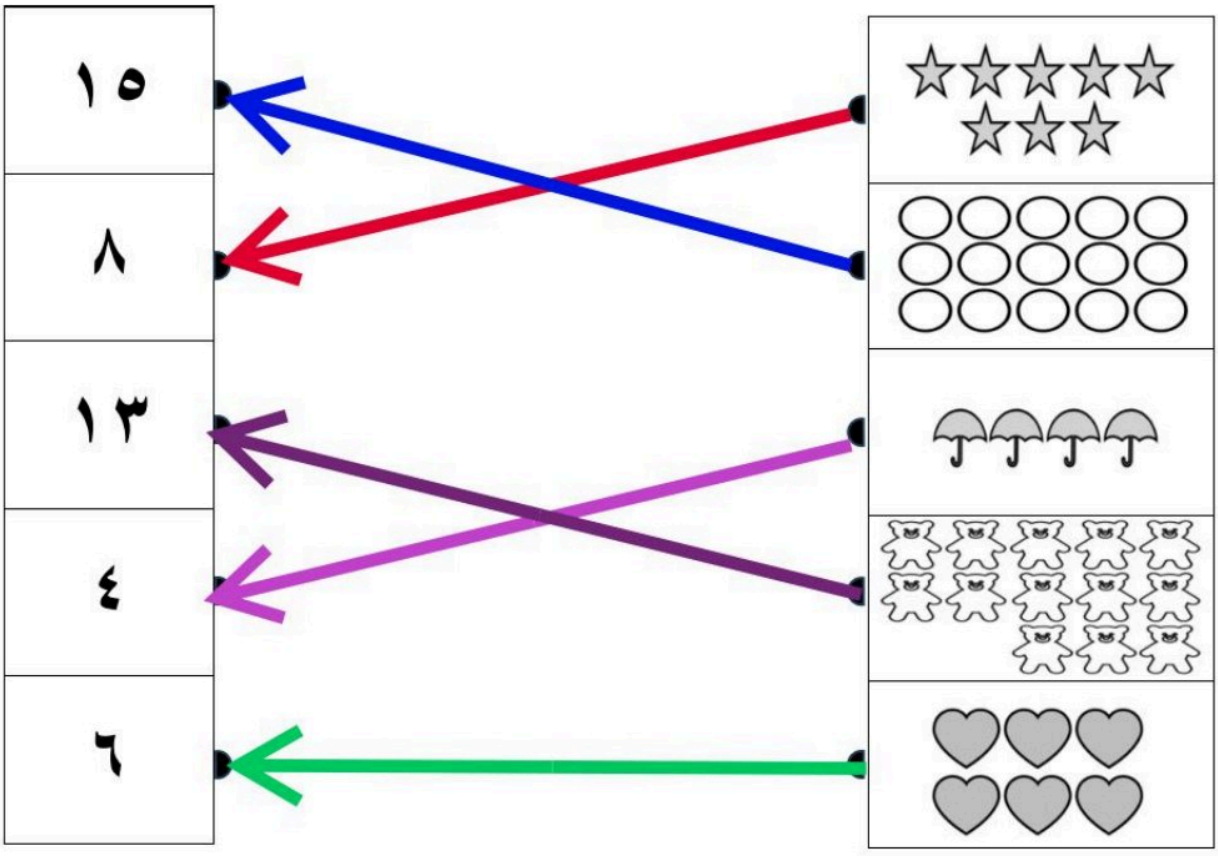

يتبع

١٥

السؤال الثالث:

١- عد الموزات، ثم أكمل الرسم ليكون عدد الموزات ١٠ :

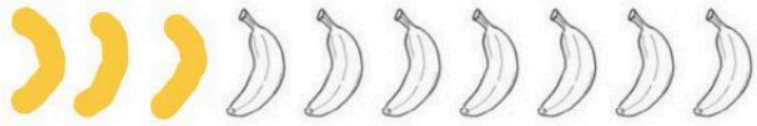

٢- حوط الصورة التالية في النمط المعطى :



٣- أكمل كتابة الأعداد المفقودة من ١ إلى ٢٠ :

١	٢	٣	٤	٥	٦	٧	٨	٩	١٠
١١	١٢	١٣	١٤	١٥	١٦	١٧	١٨	١٩	٢٠

٤- اكتب الأعداد، ثم أوجد ناتج الجمع :



٥ + ٠ = ٥



٤
٣ +
٧

٥- توجد ٣ طيور على الغصن، انضم إليها ٢ آخرين، فما عدد الطيور جميعها؟



.....٥..... طيور

~ انتهت الأسئلة ~

موقع منهجي
mnhaji.com

التاريخ : ___ / ___ / ١٤٤٨هـ

المادة : رياضيات الصف : الأول ابتدائي

الزمن : ساعتان ونصف الفترة : _____

الدور : الأول

موقع منهجي
mnhaji.com

_____

_____

الاختبار النهائي لمادة الرياضيات للصف الأول الابتدائي الفصل الدراسي الأول ١٤٤٨هـ

السؤال	السؤال (١)	السؤال (٢)	السؤال (٣)	المجموع	الدرجة كتابة
الدرجة					

المصحح		التوقيع		المراجع		التوقيع	

اسم الطالب	.....	الصف	الأول (____)	رقم الجلوس	_____

● السؤال (١)

	١٤

أ حوّط الشيء داخل الإطار الذي له الصفة نفسها:





ب اختر الإجابة الصحيحة :



عدد حبات الجبن

أكثر من

أقل من

عدد الفئران

جـ اكتب عدد عناصر كل مجموعة ، ثم حوّط المجموعة الأكبر :





د عُدّ الأشياء ، ثم اكتب العدد في المكان المخصص :



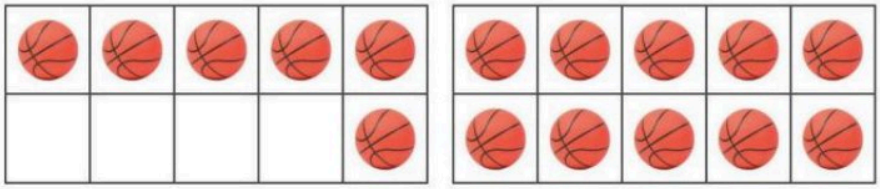

تابع باقي الأسئلة خلف الورقة

● السؤال (٢)

	٤

أ حوّط البالون الذي يقع فوق الشجرة:



ب حوّط الزر التالي في النمط:



● السؤال (٣)

	٢٢

أ عُدّ الفراشات ، ثم اكتب العدد في المكان المخصص:



ب اكتب العدد المغطى بورقة الشجر في الفراغ :

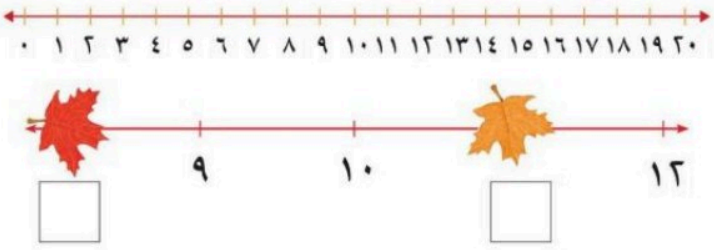

جـ اكتب ناتج الجمع :

١ + ٦ = _____	٩ + ٠ = _____
٥	٣
+ ٤	+ ١

❖ انتهت الأسئلة ❖

(مع أطيب الدعوات لكم بالنجاح والتفوّق)

معلمة المادة

.....

موقع منهجي
mnhaji.com

نموذج الإجابة

التاريخ : ___/___/١٤٤٨هـ
المادة : رياضيات الصف : الأول ابتدائي
الزمن : ساعتان ونصف الفترة : _____
الدور : الأول

الاختبار النهائي لمادة الرياضيات للصف الأول الابتدائي الفصل الدراسي الأول ١٤٤٨هـ

السؤال	السؤال (١)	السؤال (٢)	السؤال (٣)	المجموع	الدرجة كتابة
الدرجة					

المصحح		التوقيع		المراجع		التوقيع	

اسم الطالب	.....	الصف	الأول (____)	رقم الجلوس	_____

● السؤال (١) ١٤ | ١٤

أ حوّط الشيء داخل الإطار الذي له الصفة نفسها:



درجتان

ب اختر الإجابة الصحيحة :



عدد حبات الجبن [أكثر من] [أقل من] عدد الفئران

درجتان

جـ اكتب عدد عناصر كل مجموعة ، ثم حوّط المجموعة الأكبر :



درجتان ٤ درجتان



٣ درجتان

د عُدّ الأشياء ، ثم اكتب العدد في المكان المخصص :



٧ درجتان

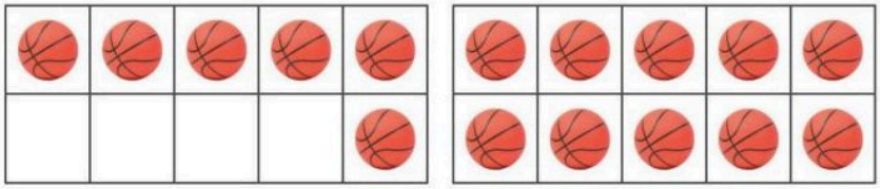

١٦ درجتان

تابع باقي الأسئلة خلف الورقة

موقع منهجي
mnhaji.com

● السؤال (٢)

٤	٤

أ حوّط البالون الذي يقع فوق الشجرة:

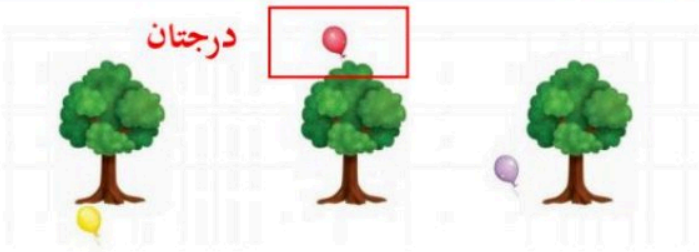

ب حوّط الزر التالي في النمط:



٢٢	٢٢

● السؤال (٣)

أ عُدّ الفراشات ، ثم اكتب العدد في المكان المخصص:



درجتان لكل فراغ

١٠ درجات

ب اكتب العدد المغطى بورقة الشجر في الفراغ :

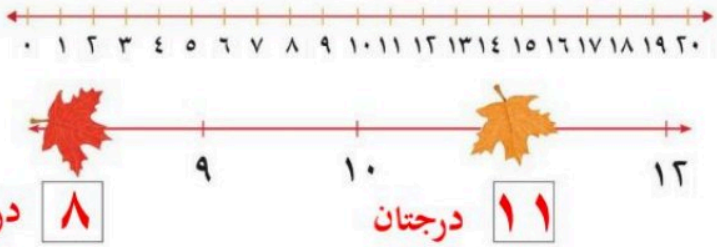

٨ درجتان

١١ درجتان

جـ اكتب ناتج الجمع :

١ + ٦ = ٧ درجتان

٩ + ٠ = ٩ درجتان

٥ + ٤ = ٩ درجتان

٣ + ١ = ٤ درجتان

❖ انتهت الأسئلة ❖

(مع أطيب الدعوات لكم بالنجاح والتفوّق)

معلمة المادة

.....

موقع منهجي
mnhaji.com

المادة / رياضيات
الصف / الأول ابتدائي
الزمن / ساعتان ونصف
الفترة / الأولى

موقع منهجي
mnhaji.com

اختبار الفصل الدراسي الأول (الدورالاول) للعام الدراسي ١٤٤٨ هـ

السؤال الأول	السؤال الثاني	السؤال الثالث	المجموع (٤٠)	الدرجة النهائية كتابة

الاسم / ..... رقم الجلوس .....

س١- أحوط العناصر المماثلة للشكل الموجود داخل الإطار:

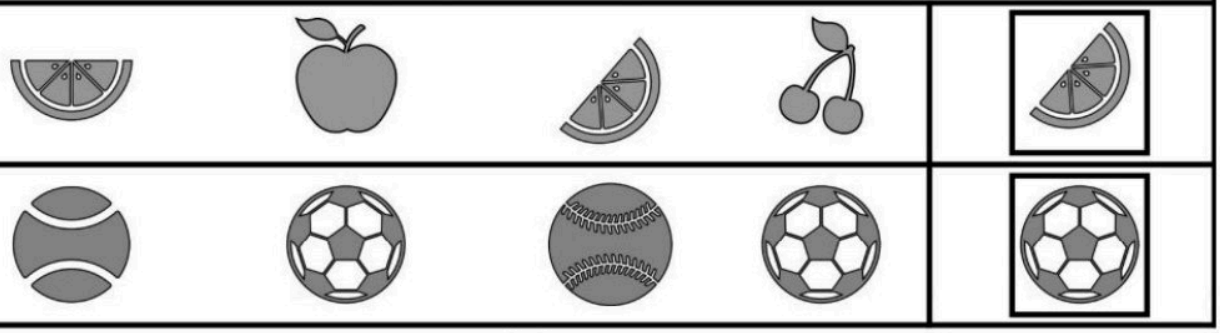

س٢- أحوط الشكل الذي يشترك مع الشكل 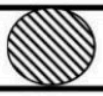 في أكثر من خاصية :



س١- أعد وأكتب العدد المناسب لكل مجموعة :

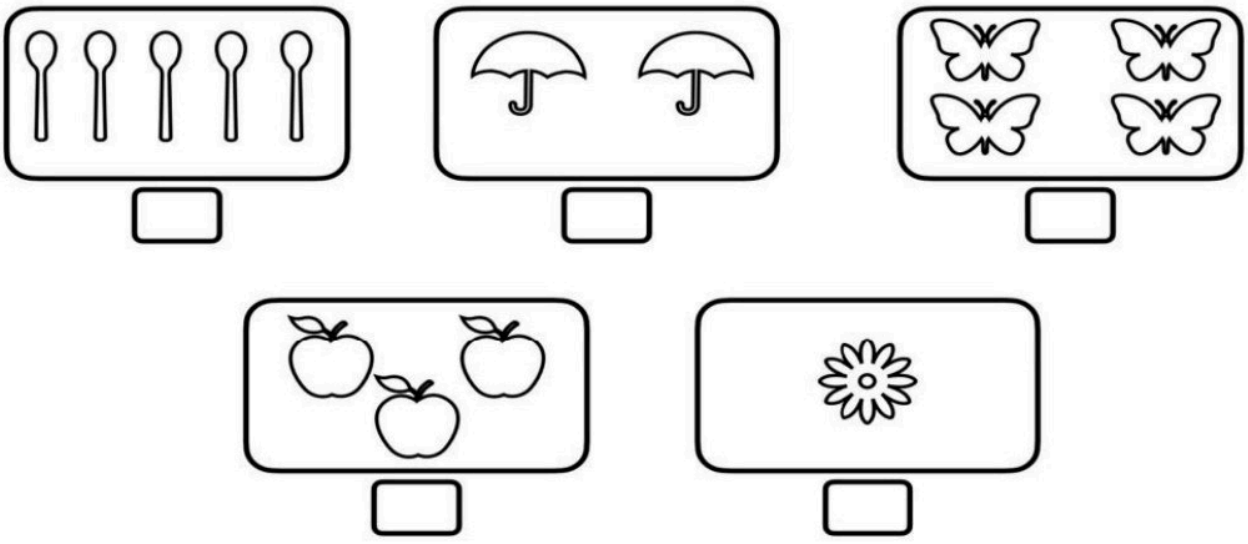

س١- أعد وأكتب العدد المناسب لكل مجموعة :

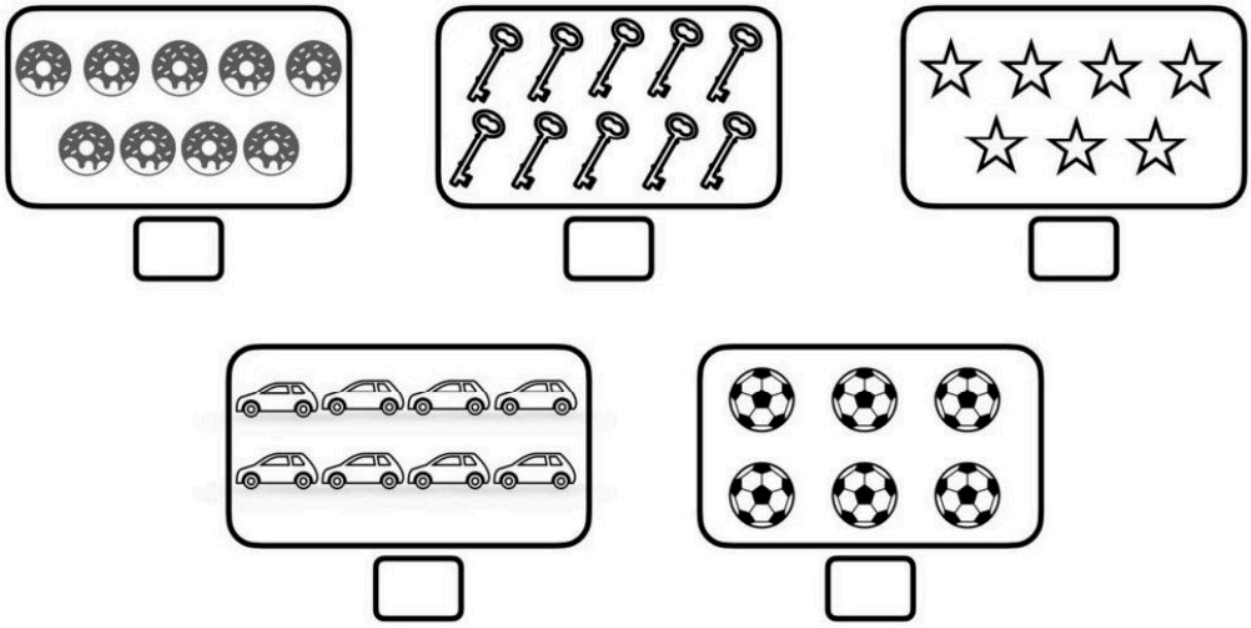

س١- أعد وأكتب العدد المناسب لكل مجموعة :

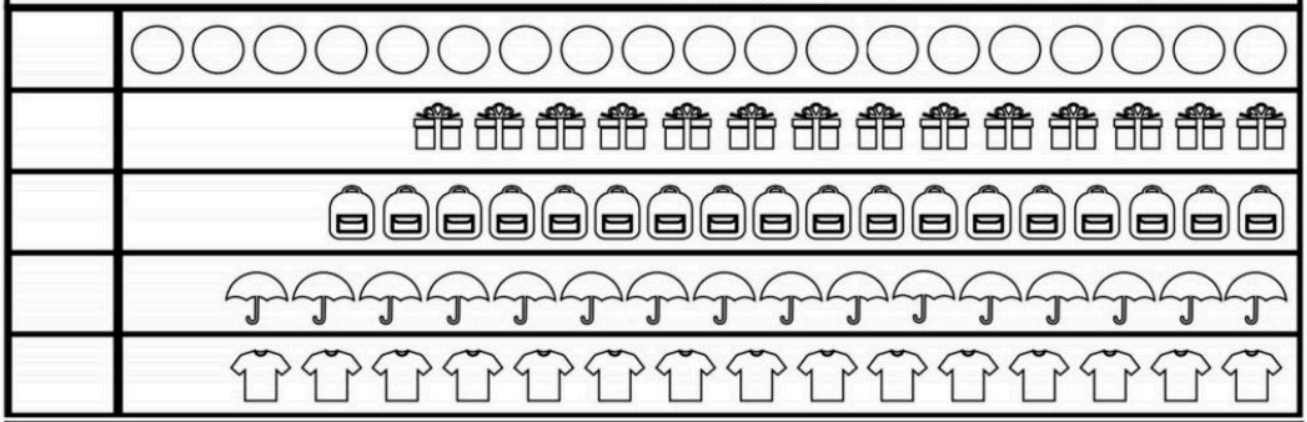

س٣:أكتب العدد المغطى بورق الشجر في الفراغ:



س :أكتب الأعداد من ١ الى ٢٠:

١	٢	٣							١٠
١١	١٢	١٣							٢٠

س :أكتب جملة الجمع المناسبة:



٣ + ٠ = ____



____ + ____ = ____



____ ( ) ____ ( ) ____



□ + □ = □

انتهت الأسئلة

مدير المدرسة

معلم المادة

موقع منهجي
mnhaji.com

نموذج الإجابة

المادة / رياضيات
الصف /
الزمن / ساعتان ونصف
الفترة / الأولى

اختبار الفصل الدراسي الأول (الدورالاول) للعام الدراسي ١٤٤٨ هـ

السؤال الأول	السؤال الثاني	السؤال الثالث	المجموع (٤٠)	الدرجة النهائية كتابة

الاسم / ..... نموذج اجابة ..... رقم الجلوس .....

س١- أحوط العناصر المماثلة للشكل الموجود داخل الإطار:

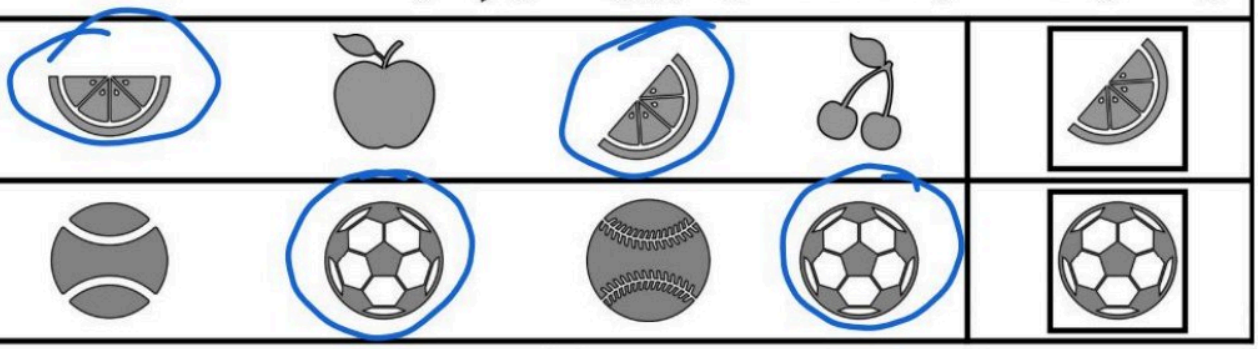

س٢- أحوط الشكل الذي يشترك مع الشكل في أكثر من خاصية :



س١- أعد وأكتب العدد المناسب لكل مجموعة :

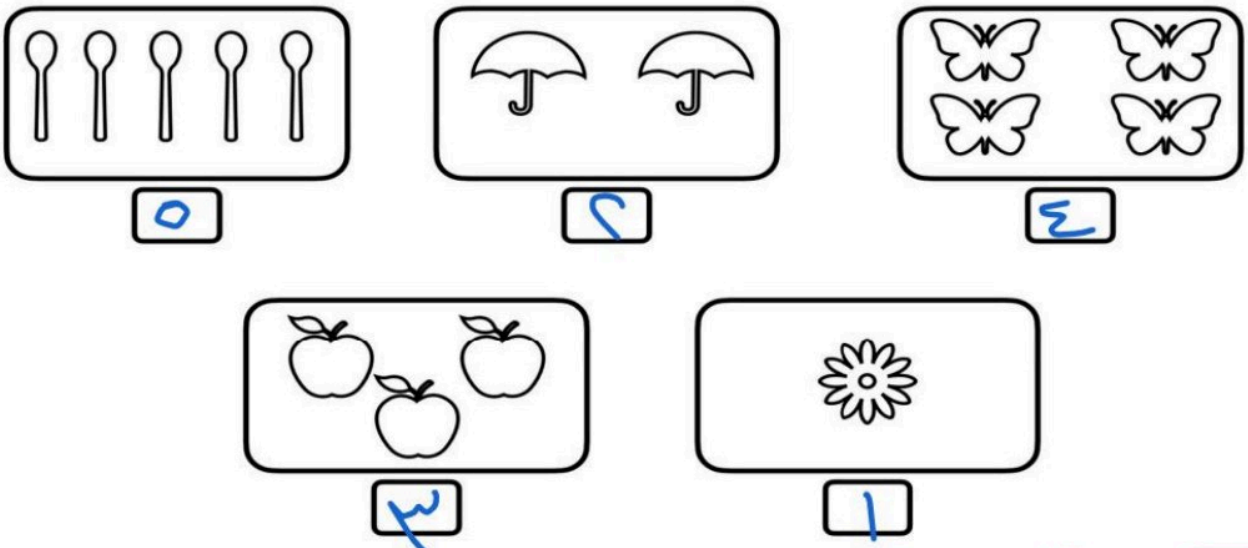

موقع منهجي
mnhaji.com

س١- أعد وأكتب العدد المناسب لكل مجموعة :

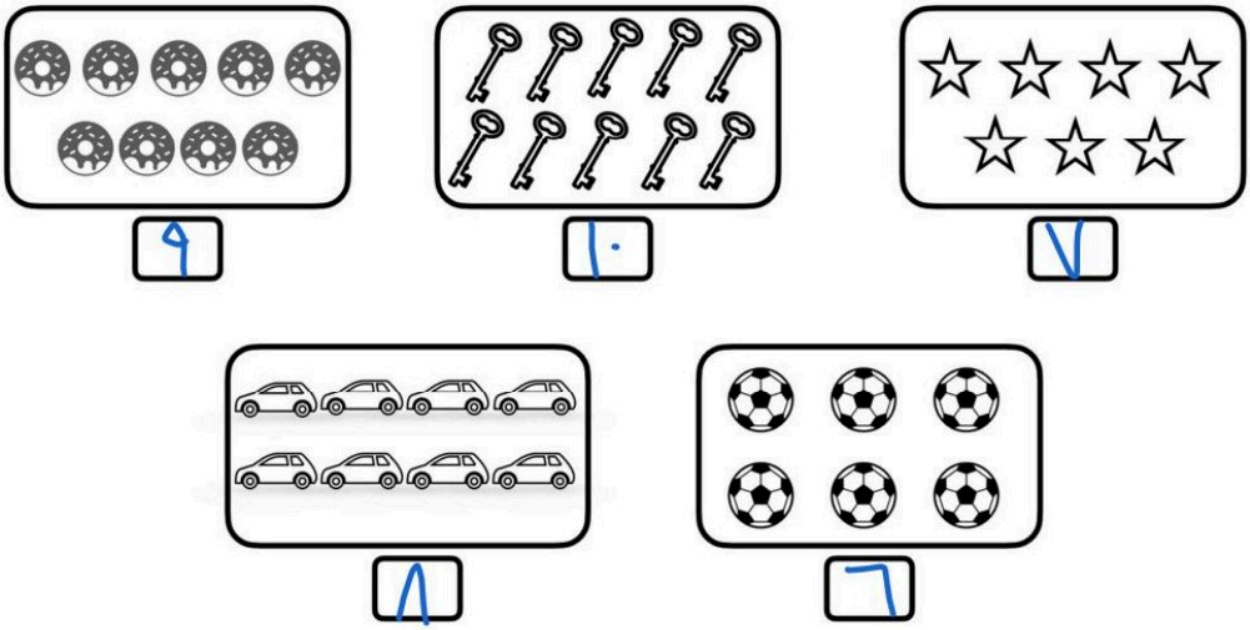

٧ ١٠ ٩

٦ ٨

١٥

س١- أعد وأكتب العدد المناسب لكل مجموعة :

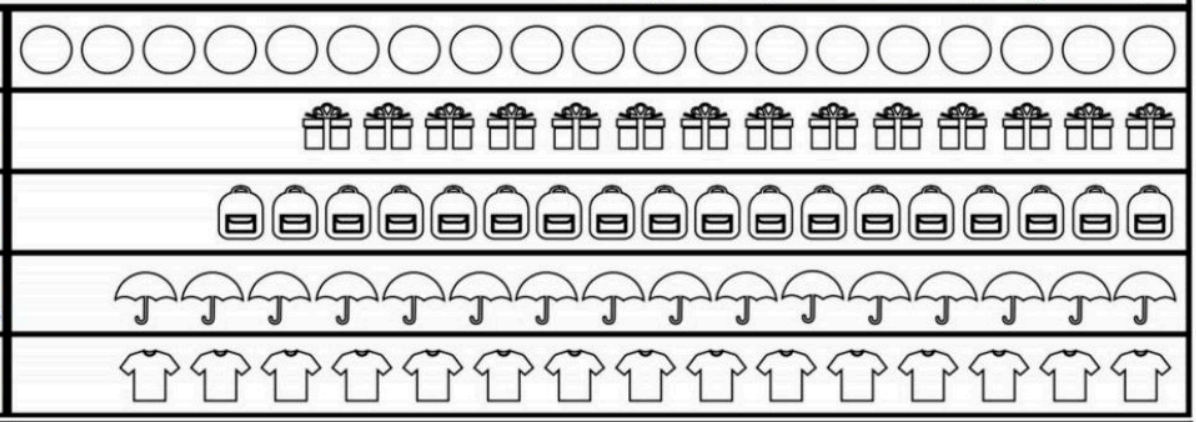

١٩
١٤
١٨
١٦
١٥

١٥

س٣:أكتب العدد المغطى بورق الشجر في الفراغ:

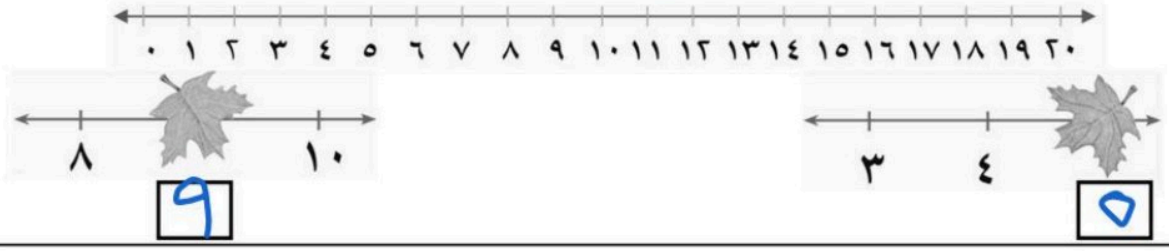

٩ ٥

١٢

س :أكتب الأعداد من ١ الى ٢٠:

١	٢	٣	٤	٥	٦	٧	٨	٩	١٠
١١	١٢	١٣	١٤	١٥	١٦	١٧	١٨	١٩	٢٠

١٢

موقع منهجي
mnhaji.com

س :أكتب جملة الجمع المناسبة:

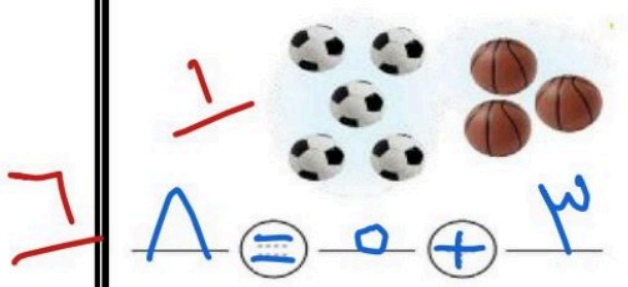

٣ + ٠ = ٣

٣ + ٥ = ٨



٢ + ٤ = ٦

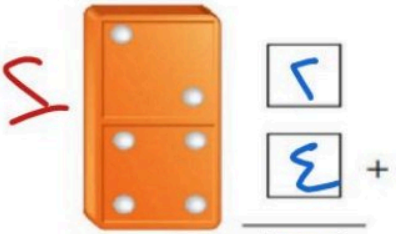

٢
٤ +
٦

انتهت الأسئلة

مدير المدرسة

معلم المادة

التاريخ : / / ١٤٤٨هـ

الفترة:

الزمن:

اختبار مادة الرياضيات للصف أول الابتدائي الفصل الدراسي الأول

(الدور الأول) للعام الدراسي ١٤٤٨هـ

اسم الطالب / ـة رباعيًا: ..... رقم الجلوس : .....

ملاحظات

- ورقة الإجابة كاملة مسؤولية الطالبة حتى تنتهي من الاختبار وتسلمها
- تأكدي من كتابة الاسم الرباعي و رقم الجلوس في كل ورقة من أوراق الاختبار .
- قراءة السؤال كاملًا وحاولي فهمه جيدًا قبل الإجابة
- حافظي على هدوء اللجنة واتبعي تعليمات الملاحظات
- اكتبي بالقلم الأزرق الجاف فقط وعدم استخدام المزيل
- راجعي إجابتك جيدًا قبل تسليم الورقة

رقم السؤال	الدرجة رقماً	الدرجة كتابة	المصححة (أحمر)	المراجعة (أسود)	المدققة (أخضر)
السؤال الأول					
السؤال الثاني					
السؤال الثالث					
السؤال الرابع					
الدرجة النهائية	رقماً	كتابة			
٤٠					

معلمة المادة: أ. الختم مديرة المدرسة : أ.

السؤال الأول: أجب عما يلي

١٤

أ)حوط العناصر المماثلة للشكل الموجود داخل الإطار





ب) صل بين عناصر المجموعتين ثم حوط المجموعة الأكثر

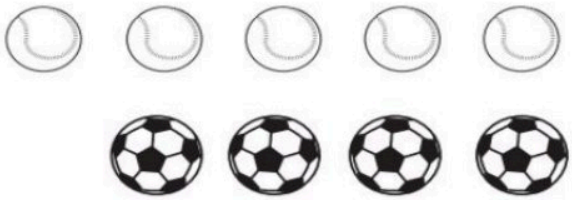

د) عدّ الأزهار في كل مجموعة واكتب الرقم في المربع

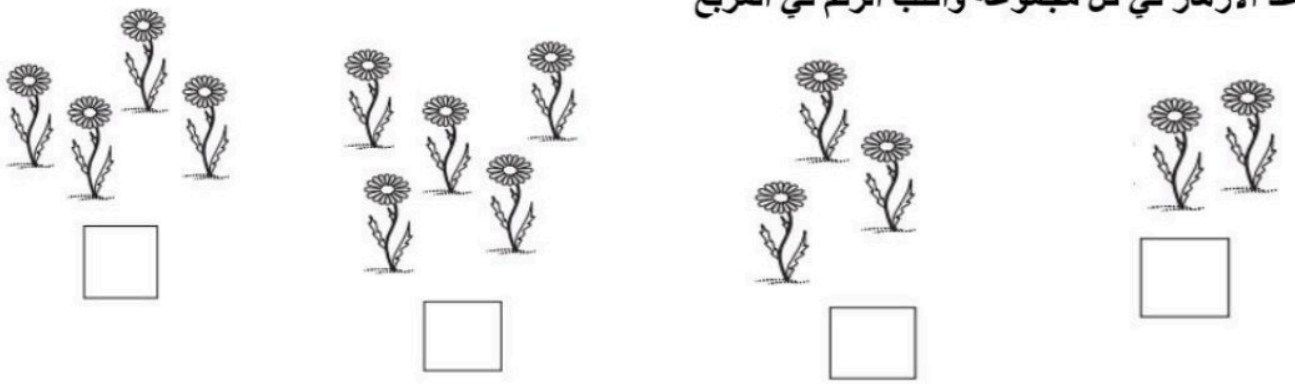

هـ) اكتب الأعداد المفقودة في المربعات



و) ارسم كرات في الكيس
بنفس العدد الموجود في المربعات

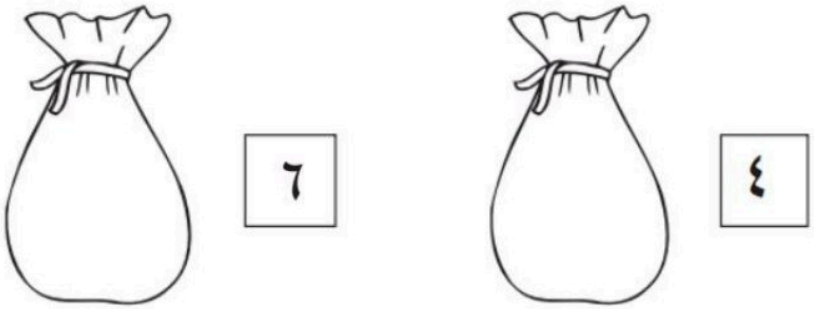

السؤال الثاني: أجب عن المطلوب

٦

أ) حوط الحيوان الذي سيصل قبل الآخرين

١-



٢-



ب) اختر الحيوان التالي في النمط



السؤال الثالث: أكتب جملة الجمع المناسبة

٨

أ)



_____ + _____ = _____

ب)



_____ + _____ = _____

جـ)



_____ + _____ = _____

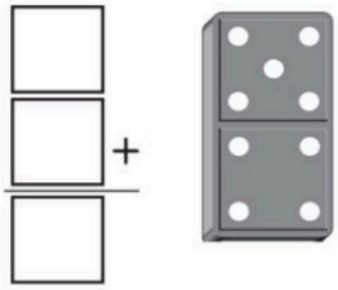

موقع منهجي
mnhaji.com

السؤال الرابع: أجب عن الأسئلة التالية

١٢

أ) حوّط السيارة الثالثة



ب) كون العدد ٧ بطريقتين مختلفتين



٧ = ☐ + ☐



٧ = ☐ + ☐

ج) قم بعدّ الأشياء في كل من المجموعتين واكتب أرقامهما ثم حوط المجموعة الأقل

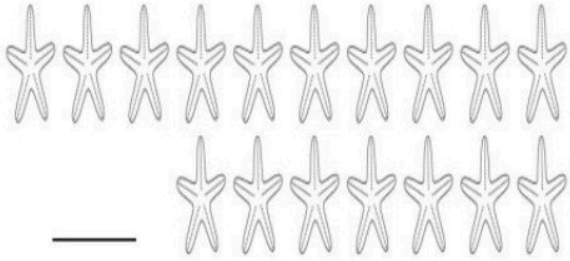



د) تتبع الأرقام من ١١ إلى ٢٠ لتصل لخط النهاية

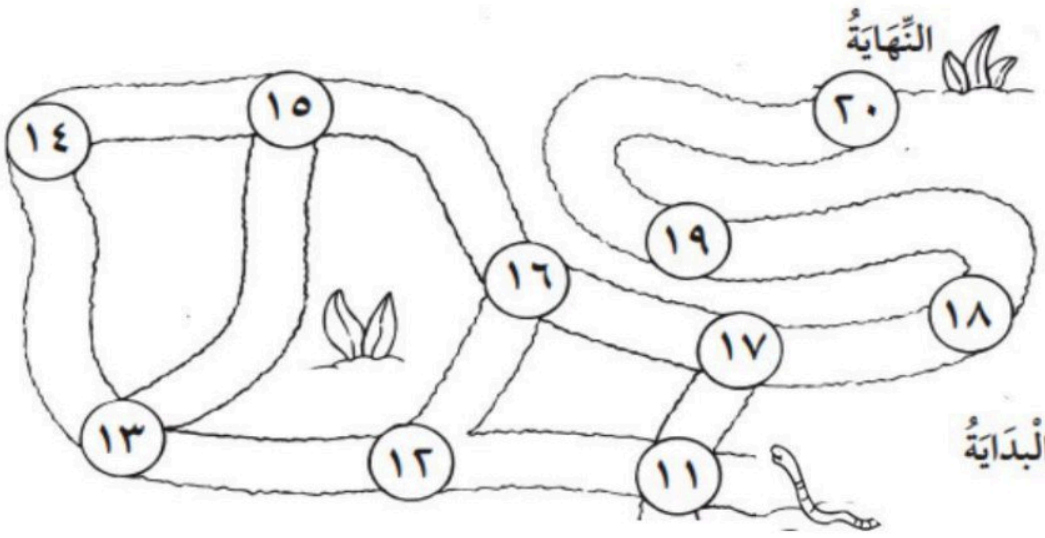

بالتوفيق يا صغاري .. معلمتكم/ نورة الغامدي

موقع منهجي
mnhaji.com

التاريخ : / / ١٤٤٨هـ

الفترة:

الزمن:

اختبار مادة الرياضيات للصف أول الابتدائي الفصل الدراسي الأول

(الدور الأول) للعام الدراسي ١٤٤٨هـ

اسم الطالب / ـة رباعيًا: ..... رقم الجلوس : .....

ملاحظات

- ورقة الإجابة كاملة مسؤولية الطالبة حتى تنتهي من الاختبار وتسلمها
- تأكدي من كتابة الاسم الرباعي و رقم الجلوس في كل ورقة من أوراق الاختبار .
- قراءة السؤال كاملًا وحاولي فهمه جيدًا قبل الإجابة
- حافظي على هدوء اللجنة واتبعي تعليمات الملاحظات
- اكتبي بالقلم الأزرق الجاف فقط وعدم استخدام المزيل
- راجعي إجابتك جيدًا قبل تسليم الورقة

نموذج الإجابة

السؤال الثاني					
السؤال الثالث					
السؤال الرابع					
الدرجة النهائية	رقماً	كتابة			
٤٠					

معلمة المادة: أ. الختم مديرة المدرسة : أ.

السؤال الأول: أجب عما يلي

نموذج الإجابة

١٤

أ)حوط العناصر المماثلة للشكل الموجود داخل الإطار





ب) صل بين عناصر المجموعتين ثم حوط المجموعة الأكثر

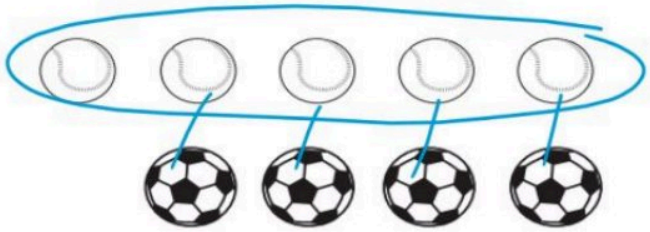

د) عدّ الأزهار في كل مجموعة واكتب الرقم في المربع

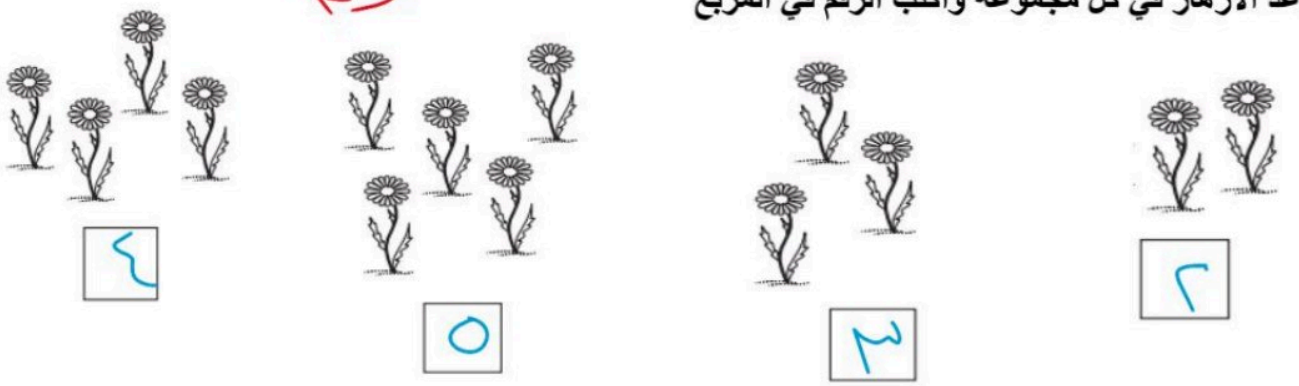

هـ) اكتب الأعداد المفقودة في المربعات



و) ارسم كرات في الكيس
بنفس العدد الموجود في المربعات

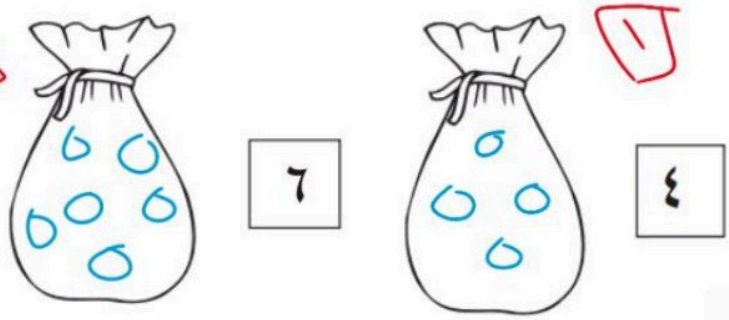

موقع منهجي
mnhaji.com

السؤال الثاني: أجب عن المطلوب

٦

ت) حوط الحيوان الذي سيصل قبل الآخرين (٢)

٣-



٤-



ث) اختر الحيوان التالي في النمط (٢)



السؤال الثالث: أكتب جملة الجمع المناسبة

موقع منهجي
mnhaji.com

٨

أ)



$\frac{٦}{١٢} + \frac{٣}{١٢} = \frac{٩}{١}$

ب)



$\frac{٣}{١٢} + \frac{٤}{١٢} = \frac{٧}{١}$

جـ)



$\frac{٥}{١٢} + \frac{٤}{١٢} = \frac{٩}{١}$



$\begin{array}{r} ٥ \\ +\ ٤ \\ \hline ٩ \end{array}$ (١/١٢ + ١/١٢ = ١)

السؤال الرابع: أجب عن الأسئلة التالية

١٢

ت) حوّط السيارة الثالثة



ث) كون العدد ٧ بطريقتين مختلفتين



٧ = ٥ + ٢



٧ = ٣ + ٤

ج) قم بعدّ الأشياء في كل من المجموعتين واكتب أرقامهما ثم حوط المجموعة الأقل

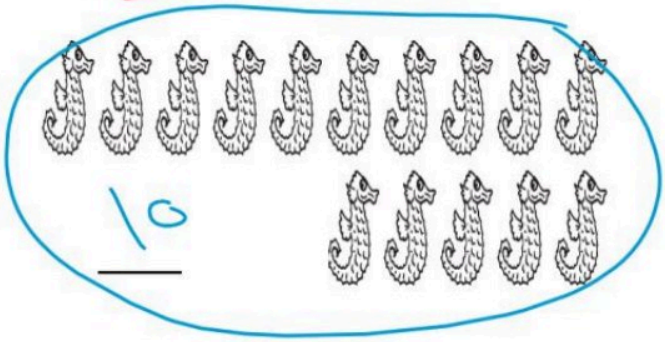

١٥

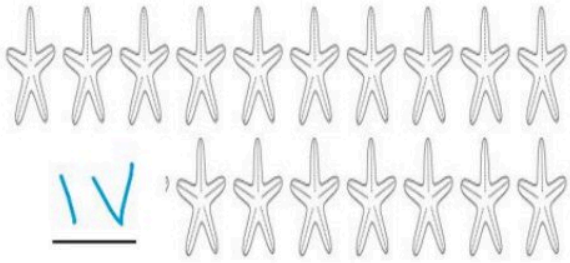

١٧

د) تتبع الأرقام من ١١ إلى ٢٠ لتصل لخط النهاية

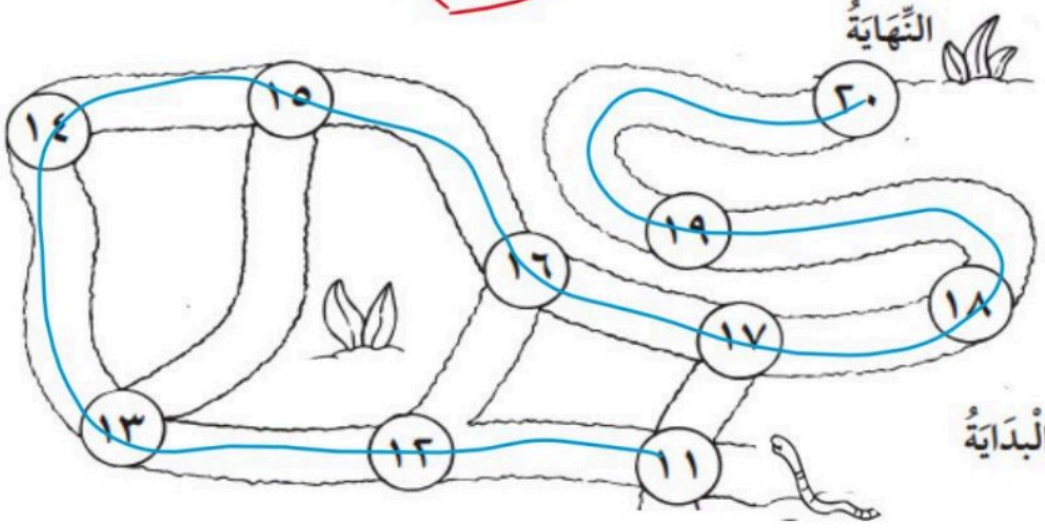

موقع منهجي
mnhaji.com

العام الدراسي	١٤٤٨هـ
الفصل الدراسي	الفصل الدراسي الاول
الدور	الاول
الصف/ المستوى	الاول الابتدائي
المادة	رياضيات
الزمن	ساعتان
عدد الأوراق	٤

اسم الطالبة		رقم الجلوس	

بيان تقدير الدرجات								
رقم السؤال	الدرجة المستحقة		المصححة		المراجعة		المدققة	
	رقماً	كتابة	الاسم	التوقيع	الاسم	التوقيع	الاسم	التوقيع
١								
٢								
المجموع			جمعه:		راجعه:		دققه :	
الدرجة بعد المراجعة			التوقيع:					

السؤال الأول /

٢٠

١- حوط العناصر المماثلة للشكل الموجود داخل الإطار



٢- صل بين عناصر المجموعتين المتقابلتين



٣- حوط المجموعة التى عناصرها اكثر

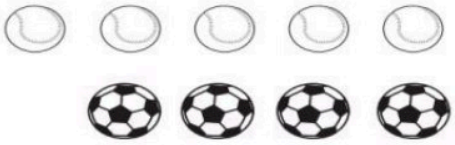

٤- ارسم دائرة فوق القرد



٥- ضع خطًا تحت الولد



٦- حوط الحيوان الذى سيصل للماء قبل الآخرين



٧- اختر الشكل التالى فى النمط



٨- ضع علامة × على السمكة التى فى الوسط



٩- حوط القطة الثانية



موقع منهجي
mnhaji.com

١٠- اختر الرقم المناسب لعدد الأشياء فى الصورة

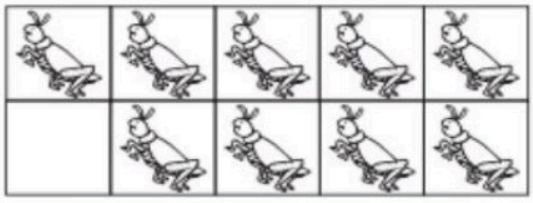

٨ ٩ ٧

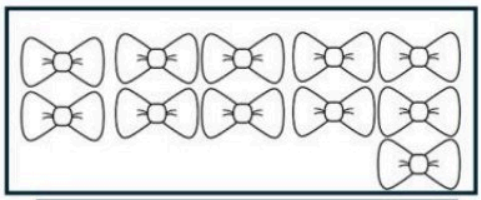

١١ ١٤ ١٧



٨ ٩ ١٠



١١ ١٨ ١٥

١١- اختر ناتج الجمع

٣ + ١ =		
٢	٤	٦

٥ + ٥ =		
١٠	٧	٨

١٢- عد الأشياء التى فى الصورة واكتب عددها فى المربع

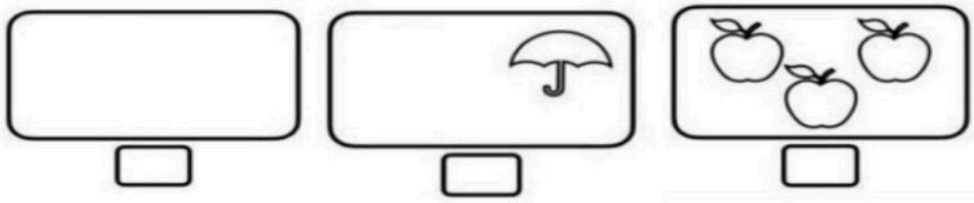

١٣-ارسم كرات فى الكيس بنفس العدد الموجود فى المربعات



٤ ٥

السؤال الثانى /

٢٠

١- **اكتب جملة الجمع التى تمثل الصور التالية**

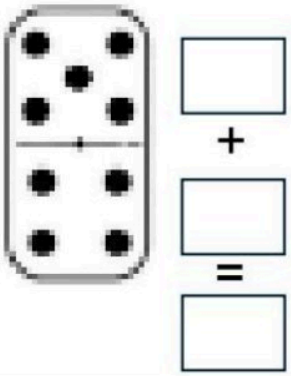



٢- **اكتب ناتج الجمع**



٠ + ٣ = ☐

☐ = ☐ + ☐

٣- **اكمل كتابة الأعداد التالية بالترتيب**

٠		٢		٤		٦		٨		١٠		١٢		١٤		١٦		١٨		٢٠

انتهت الأسئلة

بالتوفيق

موقع منهجي
mnhaji.com

أسئلة اختبار مادة الرياضيات الفصل الدراسي الأول للعام الدراسي ١٤٤٨ هـ
الدور الأول - الصف الأول الابتدائي

اسم الطالب/	
رقم الجلوس	
اليوم	
التاريخ	... / ... / ١٤٤٨ هـ
زمن الاختبار	ساعتان ونصف

رقم السؤال	الدرجة رقما	الدرجة كتابة	
درجة السؤال الأول			
درجة السؤال الثاني			
اسم المصحح		المجموع النهائي	
اسم المراجع			٤٠

السؤال الأول: أ) أختار الإجابة الصحيحة فيما يأتي

٢٠	

١	 عدد الكتب ..... عدد علب الألوان					
	أ	يساوي	ب	أقل من	جـ	أكثر من
٢	 عدد الضفادع ..... عدد الذباب					
	أ	أكثر من	ب	أقل من	جـ	يساوي
٣	 عدد الوردات هو					
	أ	٣	ب	٥	جـ	٤
٤	 عدد القطط في الصندوق هو					
	أ	٠	ب	٦	جـ	٩
٥	 عدد الهدايا هو					
	أ	٦	ب	٨	جـ	١
٦	 عدد الكرات هو					
	أ	١١	ب	١٧	جـ	١٥
٧	٠ + ٩ =					
	أ	٠	ب	٩	جـ	١١
٨						
	أ	٥ + ٢ =٧	ب	٤+٣ =٧	جـ	٦ + ١ =٧

٩	٢ + ٢ =					
	أ	١	ب	٤	جـ	٩
١٠	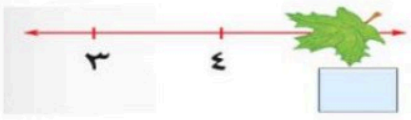					
	أ	١	ب	٥	جـ	٠
١١						
	أ	١٢	ب	٢٠	جـ	١٩
١٢	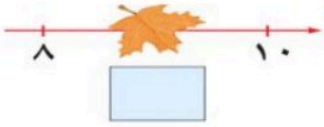					
	أ	٦	ب	١١	جـ	٩
١٣	٣ + ٥ =					
	أ	٧	ب	٢	جـ	٨

ب) ١/ أكمل الجدول التالي:



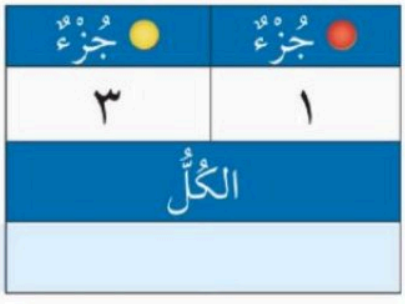

موقع منهجي
mnhaji.com

اقلب الصفحة

٢/ أختار النمط في الصورة:



٣/ أكتب الأعداد:



السؤال الثاني:

٢٠

١/ أكتب جملة الجمع:

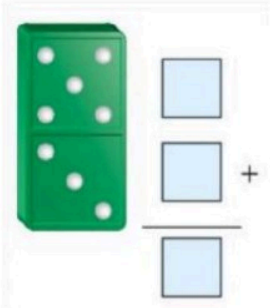

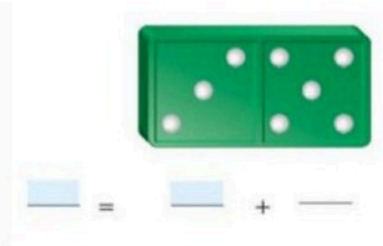

٢/ أكون العدد:

٨ = ___ + ___

٨ = ___ + ___

٩ = ___ + ___

٩ = ___ + ___

اقلب الصفحة

٣/ أحـوط البالون الذي فوق الشجرة
وأضع X على البالون تحت الشجرة

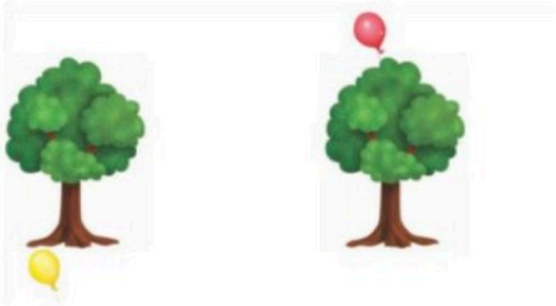

٤/ أحوط الشكل المختلف في الرسم:



٥/ أضع X على الشكل المتشابه:



٦/ أكمل الجدول التالي:

١		٣		٥
	٧		٩	
١١	١٢			١٥
١٦		١٨		

موقع منهجي
mnhaji.com

انتهت الأسئلة

معلم المادة: محمد عبدالله الدوسري

مدير المدرسة: عبدالله سعد

المادة	رياضيات	موقع منهجي mnhaji.com	
الصف	الأول الابتدائي		
الزمن			
التاريخ	/ /١٤٤٨هـ	عدد الصفحات	٣

أسئلة اختبار الدور الأول للفترة الدراسية الاولى للعام ١٤٤٨هـ

اسم الطالب		اللجنة		رقم الجلوس	

السؤال	الدرجة رقماً	الدرجة كتابة	المصحح/ة	المراجع/ة	المدقق/ة
السؤال(١)	٢٨				
السؤال(٢)	٨				
السؤال(٣)	٤				
المجموع	٤٠				

السؤال الأول: اختر الإجابة الصحيحة لكل مما يلي: — درجة السؤال(١) — ٢٨ درجة

١ **اختار الشكل المشابه للصورة داخل الاطار**



أ  ب  ج  د 

٢ **عدد الارانب في المربع يساوي**



أ ٢ ب ٣ ج ٤ د ١

٣ **اختار الشكل الذي داخل الإطار:**



أ  ب  ج  د 

٤ **عدد الزهور في المربع يساوي....**



أ ١ ب ٥ ج ٣ د ٧

يتبع الأسئلة..

٥	عدد الكرات داخل الشكل يساوي.... 							
أ	٥	ب	٣	ج	٦	د	٧	
٦	عدد القبعات في الصورة 							
أ	٤	ب	٢	ج	٦	د	٣	
٧	عدد القطط في الصورة 							
أ	٠	ب	٢	ج	٣	د	١	
٨	عدد اصابع اليد يساوي..... 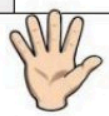							
أ	٥	ب	٦	ج	٢	د	٤	
٩	حوط على البالون الذي يقع فوق الشجرة							
أ		ب		ج		د		
١٠	ناتج الجمع يساوي ٥ + ٠ =..... 							
	١	ب	٦	ج	٥	د	٠	
١١	ناتج جمع ٤ + ٢ =..... 							
أ	٤	ب	٢	ج	٦	د	٧	
١٢	ناتج جمع ٦ + ١ = ... 							
أ	٥	ب	١	ج	٧	د	٩	
١٣	ناتج جمع ٣ + ٣ =..... 							
	٢	ب	٧	ج	٨	د	٦	

يتبع الأسئلة..

أ							
١٤	العددالمفقود في المربع هو..... 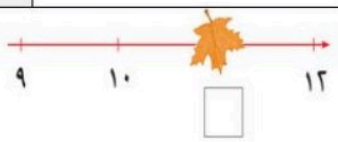						
أ	١٠	ب	١١	ج	٨	د	١٣

السؤال الثاني: أكمل الفراغ بما يناسب:	درجة السؤال(٣)	٨ درجات

١	اكمل العدد المفقود في المربع 
٢	اكتب الجملة العددية 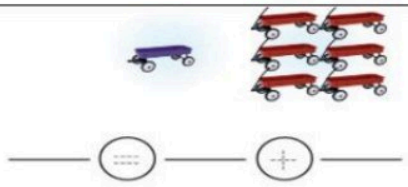
٣	اكتب الجملة العددية 
٤	اوجد ناتج الجمع ٣ + ١ = ____

السؤال الثالث: اكتب الاعداد من ١ الى ٢٠	درجة السؤال(٤)	٤ درجات

١									
									٢٠

موقع منهجي
mnhaji.com

انتهت الأسئلة مع تمنياتي لكم التوفيق والنجاح ،،،،،،

معلم المادة: