تم تحميل وعرض المادة من

موقع كتبي



www.kottby.net

موقع كتبي يعرض لكم الكتب الدراسية الطبعة الجديدة
وحلولها، وشرح للمناهج الدراسية، توزيع المناهج، تحاضير،
أوراق عمل، نماذج إختبارات عرض مباشر وتحميل PDF

حمل التطبيق من هنا

احصل عليه من AppGallery
تنزيل من App Store
احصل عليه من Google Play

		المجموع الكلي
		٤٠

الاختبار النهائي لمادة العلوم للصف الخامس الإبتدائي

(الدور الأول) الفترة الدراسية الأولى للعام ١٤٤٧ / ١٤٤٨هـ

المادة	العلوم		الصف		الخامس
اليوم		التاريخ		زمن الاجابة	
اسم الطالب/ة					
رقم الجلوس		( )			

رقم السؤال	الدرجة المستحقة		اسم المصحح / ة	اسم المراجع / ة	اسم المدقق / ة
	الدرجة رقماً	الدرجة كتابة			
السؤال الأول (١٠)					
السؤال الثاني (٢٠)					
السؤال الثالث (١٠)					
المجموع (٤٠)					

السؤال الأول :

١٠

اختارى الاجابة الصحيحة فيما يلى :-

١	النباتات اللاوعائية تنمو في العادة قرب سطح الأرض لأنه ليس له			
	أوعية لنقل الماء والغذاء	غشاء لفقدان الماء	أعضاء حس حقيقية	أوراق
٢	أي ممالك المخلوقات الحية يعيش افرادها في ظروف بيئية قاسية			
	البدائيات	الطحالب	الحيوانات	النباتات
٣	تتشابه الفطريات والبكتيريا أنها			
	بعضها مفيد وبعضها ضار	بعضها حيواني وبعضها نباتي	تصنع غذاؤها بنفسها	بعضها فقاري وبعضها لافقاري.
٤	الخطوة الأولى في التكاثر الجنسية هي عملية			
	الإخصاب	التبرعم	النتح	الخضري
٥	تقوم بعملية البناء الضوئي لإنتاج الغذاء			
	الورقة	الخشب	الرائحة	الجذر
٦	لكل مخلوق حي دور خاص به يؤدية في مكان معين يسمى			
	السعة التحملية	التطفل	النظام البيئي	الإطار البيئي .
٧	أي التكيفات التالية يعد تكيف سلوكي			
	غطاء صلب للسلاحف	خف الجمل	رائحة كريهة لبعض النباتات	هجرة الطيور
٨	مياة تحزن في مسامات التربة الداخلية			
	الراكدة	السطحية	الجارية	الجوفية
٩	صنف العلماء المخلوقات الحية .... ممالك .			
	٢	٣	٥	٦
١٠	من معالم سطح الأرض المائية			
	الجبل	الصحاري	التلال	المحيطات

السؤال الثاني :

٢٠

١) اكملي الفراغات التالية بما يناسبها : (٥درجات)

(التعاقب – التكيف - الأوزون – التصنيف – دورة النيتروجين)

١ - ..... عملية تحول نظام بيئي الى نظام بيئي جديد ومختلف .

٢ -..... خاصية تساعد المخلوق الحي على العيش في بيئته .

٣-..... طبقة تحمينا من الأشعة الضارة .

٤ -..... علم تقسيم المخلوقات الحية الى مجموعات .

٥ -..... دورة مستمرة في الطبيعة .

---

٢) صلي العامود (أ) بما يناسبة من العامود (ب) : (٥ درجات)

١	الاخصاب	( )	خليط من بقايا مخلوقات حية او أجسامها بعد الموت .
٢	المملكة	( )	ينقل السكر الذي يصنع في الأوراق الى النبات .
٣	البركان	( )	نشط – ساكن
٤	اللحاء	( )	المستوى التصنيفي الذي يضم أكثر عدد من المخلوقات الحية .
٥	الدبال	( )	اتحاد مشيج مذكر مع مشيج مؤنث .

٣) ضعي علامة (√) أو علامة (×) أمام العبارات التالية : (١٠ درجات)

١	تعيش البكتيريا البدائية في اقسي الظروف مثل قاع البحر .	
٢	الكامبيوم يقوم بنقل الماء في النبات .	
٣	تحتوي الخلية النباتية على جدار خلوي وبلاستيدات خضراء .	
٤	الاحافير باقي مخلوقات حية عاشت في الوقت الحالي .	
٥	يتكون التعاقب الثانوي أسرع من التعاقب الأولى .	
٦	الوقود الاحفوري من الموارد المتجددة .	
٧	النباتات نوعان وعائية واللاوعائية .	
٨	الأسد من الحيوانات المنقرضة .	
٩	من الكوارث الطبيعية الزلازل والأعاصير .	
١٠	من الأمراض التي تسببها البكتيريا الزكام .	

السؤال الثالث : اكمل الفراغات التالية بما يناسبها :

١٠

أ) اكتبي البيانات على الرسم . **(٤درجات)**

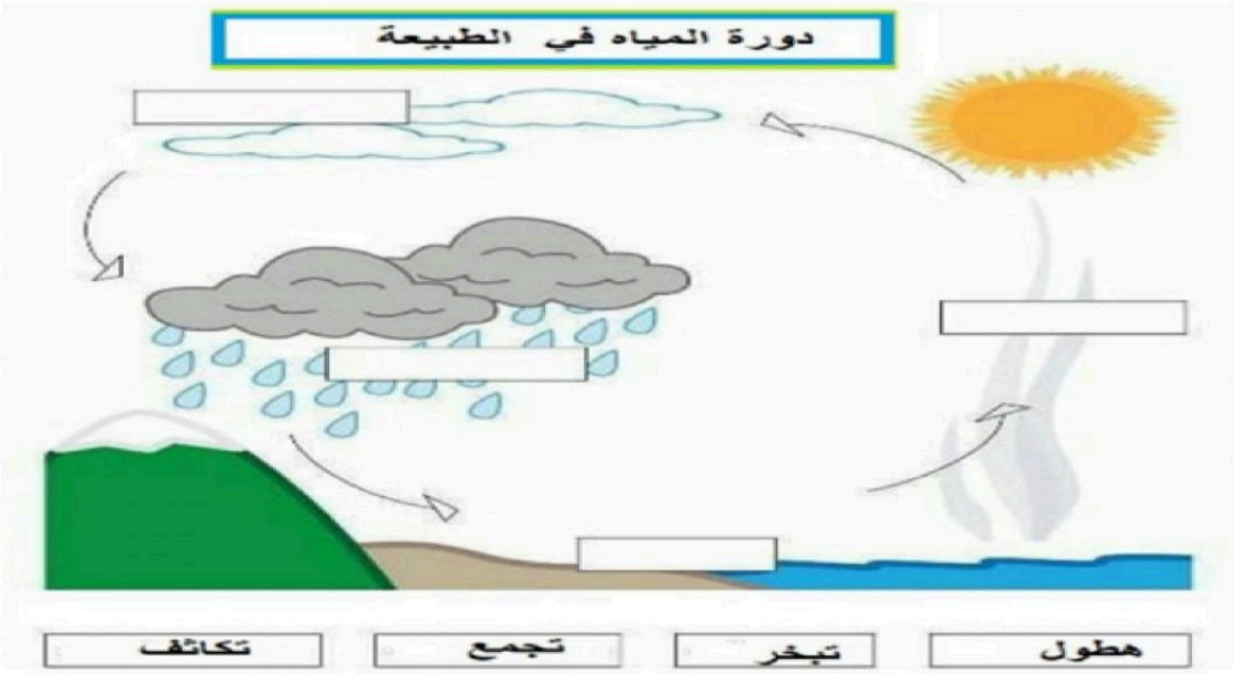

ب)الصور التالية مراحل التحول للفراشة ،لكي يكون التحول كامل وصحيح بتر نم ١ إلى ٤ :

(٤درجات)



....

ج) عددي استخدامات الماء في حياتنا : **(درجتان)**

١ -..... ٢ - .....

انتهت الأسئلة

مع خالص الدعاء بالتوفيق والسداد ،،

معلم / ة المادة .....

موقع منهجي
mnhaji.com

		المجموع الكلي
		٤٠

الاختبار النهائي لمادة العلوم للصف الخامس الإبتدائي

(الدور الأول) الفترة الدراسية الأولى للعام ١٤٤٧ / ١٤٤٨هـ

المادة	العلوم		الصف		الخامس
اليوم		التاريخ		زمن الاجابة	
اسم الطالب/ة					
رقم الجلوس		( )			

نموذج الإجابة

	الدرجة رقماً	الدرجة كتابة	المصحح / ة	المراجع / ة	المدقق / ة
السؤال الأول (١٠)					
السؤال الثاني (٢٠)					
السؤال الثالث (١٠)					
المجموع (٤٠)					

السؤال الأول :

١٠

اختارى الاجابة الصحيحة فيما يلى :-

١	النباتات اللاوعائية تنمو في العادة قرب سطح الأرض لأنه ليس له			
	أوعية لنقل الماء والغذاء	غشاء لفقدان الماء	أعضاء حس حقيقية	أوراق
٢	أي ممالك المخلوقات الحية يعيش افرادها في ظروف بيئية قاسية			
	البدائيات	الطحالب	الحيوانات	النباتات
٣	تتشابه الفطريات والبكتيريا أنها			
	بعضها مفيد وبعضها ضار	بعضها حيواني وبعضها نباتي	تصنع غذاؤها بنفسها	بعضها فقاري وبعضها لافقاري.
٤	الخطوة الأولى في التكاثر الجنسية هي عملية			
	الإخصاب	التبرعم	النتح	الخضري
٥	تقوم بعملية البناء الضوئي لإنتاج الغذاء			
	الورقة	الخشب	الرائحة	الجذر
٦	لكل مخلوق حي دور خاص به يؤدية في مكان معين يسمى			
	السعة التحملية	التطفل	النظام البيئي	الإطار البيئي .
٧	أي التكيفات التالية يعد تكيف سلوكي			
	غطاء صلب للسلاحف	خف الجمل	رائحة كريهة لبعض النباتات	هجرة الطيور
٨	مياة تحزن في مسامات التربة الداخلية			
	الراكدة	السطحية	الجارية	الجوفية
٩	صنف العلماء المخلوقات الحية .... ممالك .			
	٢	٣	٥	٦
١٠	من معالم سطح الأرض المائية			
	الجبل	الصحاري	التلال	المحيطات

موقع منهجي
mnhaji.com

السؤال الثاني :

٢٠

١) اكملي الفراغات التالية بما يناسبها : (٥درجات)

(التعاقب – التكيف - الأوزون – التصنيف – دورة النيتروجين)

١ - التعاقب عملية تحول نظام بيئي الى نظام بيئي جديد ومختلف .

٢ - التكيف خاصية تساعد المخلوق الحي على العيش في بيئته .

٣- الأوزون طبقة تحمينا من الأشعة الضارة .

٤ التصنيف علم تقسيم المخلوقات الحية الى مجموعات .

٥ - دورة النيتروجين دورة مستمرة في الطبيعة .

---

٢) صلي العامود (أ) بما يناسبة من العامود (ب) : (٥ درجات)

١	الاخصاب	(٥) خليط من بقايا مخلوقات حية او أجسامها بعد الموت .
٢	المملكة	(٤) ينقل السكر الذي يصنع في الأوراق الى النبات .
٣	البركان	(٣) نشط – ساكن
٤	اللحاء	(٢) المستوى التصنيفي الذي يضم أكثر عدد من المخلوقات الحية .
٥	الدبال	(١) اتحاد مشيج مذكر مع مشيج مؤنث .

٣) ضعي علامة (√) أو علامة (×) أمام العبارات التالية : (١٠ درجات)

١	تعيش البكتيريا البدائية في اقسي الظروف مثل قاع البحر .	✓
٢	الكامبيوم يقوم بنقل الماء في النبات .	✗
٣	تحتوي الخلية النباتية على جدار خلوي وبلاستيدات خضراء .	✓
٤	الاحافير باقي مخلوقات حية عاشت في الوقت الحالي .	✗
٥	يتكون التعاقب الثانوي أسرع من التعاقب الأولى .	✓
٦	الوقود الاحفوري من الموارد المتجددة .	✗
٧	النباتات نوعان وعائية واللاوعائية .	✓
٨	الأسد من الحيوانات المنقرضة .	✗
٩	من الكوارث الطبيعية الزلازل والأعاصير .	✓
١٠	من الأمراض التي تسببها البكتيريا الزكام .	✗

موقع منهجي mnhaji.com

السؤال الثالث : اكمل الفراغات التالية بما يناسبها :

١٠

أ) اكتبي البيانات على الرسم . **(٤درجات)**

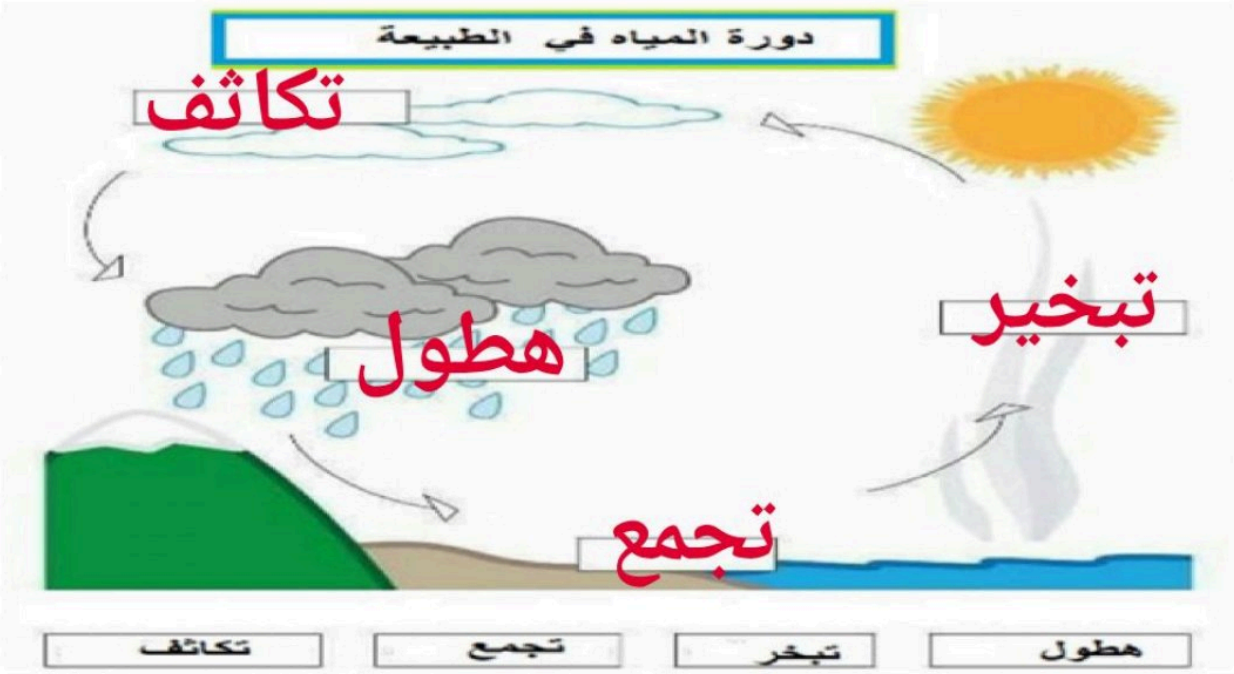

ب)الصور التالية مراحل التحول للفراشة ،لكي يكون التحول كامل وصحيح بتر نم ١ إلى ٤ :

(٤درجات)



ج) عددي استخدامات الماء في حياتنا : **(درجتان)**

١ - **الشرب - التنظيف** ٢ - **الوضوء - الزراعة**

انتهت الأسئلة

مع خالص الدعاء بالتوفيق و السداد ،،

موقع منهجي
mnhaji.com



40

اختبار نهاية الفصل الدراسي الأول

مادة العلوم للصف الخامس ابتدائي

للعام الدراسي ١٤٤٨هـ



اسم الطالبة : ..... رقم الجلوس: .....

رقم السؤال	الدرجة رقماً	الدرجة كتابةً	المصححة	المراجعة	المدققة
السؤال الأول (2)			أشواق الشهراني		
السؤال الثاني (20)					
السؤال الثالث (18)					
مجموع الدرجات (40)					



السؤال الأول (أكملي التالي):

٢

نصف درجة لكل فقرة

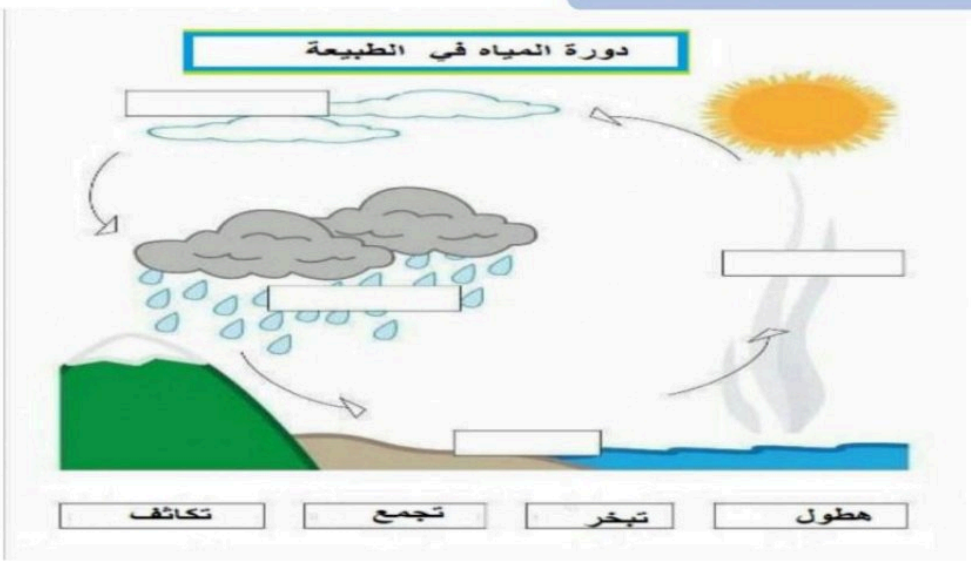

السؤال الثاني (اختار الإجابة الصحيحة):

٢٠

درجة لكل فقرة

1- المستوى التصنيفي الذي يضم أكبر عدد من المجموعات المخلوقات الحية يسمى :							
أ	مملكة	ب	شعبة	ج	طائفة	د	رتبة
2- النباتات اللاوعائية تنمو في العادة قرب سطح الأرض لأنه ليس لها							
أ	أوعية لنقل الماء والغذاء	ب	غشاء يمنع فقد الماء	ج	كلور فيل لإنتاج الغذاء	د	أعضاء حس حقيقية لاستشعار الخطر
3- من خصائص التكاثر الجنسي أنه :							
أ	يلزم وجود أب واحد فقط	ب	لا يتطلب وجود خلايا جنسية	ج	صفات الأبناء متطابقه تماماً مع الأب	د	الأبناء يحملون خليط من الصفات الوراثية للآباء
4- البدايات البكتيريا تتكاثر بواسطة							
أ	البذور	ب	التبرعم	ج	الانقسام	د	التكاثر الخضري
5- العلاقة التي يستفيد فيها أحد المخلوقات الحية بينما يتضرر المخلوق الحي الآخر تسمى							
أ	تطفل	ب	تكافل	ج	تعايش	د	افتراس
6 - أي العمليات التالية تطلق ثاني أكسيد الكربون							
أ	البناء الضوئي حرق الوقود	ب	البناء الضوئي التنفس	ج	التنفس التحلل	د	البناء الضوئي التحلل
7- متى يكون الحيوان مهدداً بالإنقراض ؟							
أ	إذا كان عدد أفراد نوعه قليلة جداً	ب	إذا كان قادر على الدفاع عن نفسه	ج	إذا استطاع حماية صغاره من الأخطار	د	إذا استطاع العيش إلى أماكن تعيش فيها الإنسان
8- ما السهول القاعية المنبسطة ؟							
أ	منطقة مسطحات واسعة في قاع المحيط	ب	جبال تحت بحرية	ج	وادي منحدر الجوانب	د	منحدر مغطى مياه ضحلة
9- الصهارة							
أ	ماء	ب	صخر منصهر	ج	صخر صلب	د	جبل
10- ما الذي يجعل الكثبان الرملية تنتقل مما مكان إلى آخر ؟							
أ	الماء	ب	الرياح	ج	الجاذبية	د	البركان

١١-يسمى الجزء الذي تعيش فيه جميع المخلوقات الحية على الأرض							
أ	الغلاف الحيوي	ب	الغلاف الجوي	ج	الغلاف الصخري	د	الغلاف المائي
١٢- ما الذي يسبب حدوث تسونامي في المحيطات ؟							
أ	البراكين	ب	العواصف فوق مياه المحيط	ج	الزلازل في المحيطات	د	الأعاصير القمعية
١٣-أي العوامل التالية له دورٌ رئيسٌ في حدوث التجوية الكيميائية للصخور							
أ	تجمد المياه في الشقوق	ب	الأمطار الحمضية	ج	تغير درجات الحرارة	د	نمو جذور الأشجار في الشقوق
١٤-أي الموارد التالية يعتبر موارد متجدده للطاقة							
أ	طاقة المياه	ب	النفط	ج	الغاز الطبيعي	د	الفحم الحجري
١٥-خزانات المياه الجوفية هي :							
أ	المياه التي تملأ المنخفضات فوق سطح الأرض	ب	المياه المخزنة في طبقات الصخور المسامية	ج	المياه في المحيطات والبحار	د	المياه في الجداول والأنهار
١٦- يعد استنزاف طبقة الأوزون في طبقات الجو العليا خطرا لأنه :							
أ	يزيد من تلوث الجو	ب	يمنع البكتيريا أن تحول النيتروجين إلى مواد تغذي التربة	ج	يسبب تشكل ضباب الدخاني	د	يسمح وصول الأشعة الضارة من الشمس إلى سطح الأرض
١٧- إذا قامت الدولة بإنشاء بحيرة كبيرة لتجميع المياه فإن البحيرة تسمى							
أ	خزان جوفي طبيعي	ب	خزان مياه اصطناعي	ج	بئر ارتوازي	د	بحيرة طبيعية
١٨- عملية نقل فتات الصخور من مكان إلى آخر على سطح الأرض							
أ	ترسيب	ب	تعرية	ج	تجوية كيميائية	د	تجوية فيزيائية
١٩- يتم في محطة الرصد تسجيل الأمواج الزلزالي التي تنتشر من							
أ	بؤرة الزلزال	ب	الستار	ج	اللب الخارجي	د	اللب الداخلي
٢٠-وادي ضيق جوانبه عالية جدا وجديدة الانحدار							
أ	التل	ب	الخانق	ج	الشاطئ	د	الشلال

موقع منهجي
mnhaji.com

السؤال الثالث : أ- ضعي المصطلحات التالية في مكانها المناسب):

١٠ درجة لكل فقرة

تسونامي	التجوية	الزلزال	دورة الكربون	البركان

1)	اهتزاز القشرة الأرضية
2)	فتحة في القشرة الأرضية تخرج منها السرة
3)	امواج قوية تحدث بسبب الزلازل التي في المحيطات
4)	دورة الكربون بين المخلوقات الحية و غيرها بشكل مستمر

ب- (أضع علامة ✔ او ✘ امام العبارات التالية) :

◯	1) التكاثر اللا جنسي هو إنتاج مخلوق حي جديد من خلية أم واحدة
◯	2) التصنيف هو علم تقسيم المخلوقات الحية إلى مجموعات بحسب درجة التشابه في الشكل وترتيب والوظائف بين أفراد كل مجموعة
◯	3) تسمى الحيوانات التي **ليس** لها عمود فقري بالحيوانات الفق رية
◯	4) المعراة البذور هي نباتات لا تنبت لها ازهار ولها بذور قاسية
◯	5) التحول هو سلسلة من مراحل النمو المميزة يختلف بعضها عن بعض
◯	6) الموطن هو المكان الذي يعيش فيه المخلوق الحي
◯	7) دورة الماء هي العملية المستمرة التي تتضمن تكوين مركبات النيتروجين داخل التربة
◯	8) الأنواع المهدده بالانقراض هي الأنواع التي لم يعد منها وجود على الأرض
◯	9) الأحفورة يا بقايا مخلوقات كان تعيش في الماضي البعيد
◯	10) الأوزون طبقة من طبقات الغلاف الصخري

ج- ميزي مما يلي التكيف التركيبى وأي منه تكيف سلوكى:

(خف الجمل/ تنقل الذئاب في مجموعات/ هجرة الطيور/ لون الفرو)

التكيف التركيبي	التكيف السلوكي

انتهت الأسئلة

دعواتي لكن بالتوفيق والنجاح

موقع منهجي
mnhaji.com

التاريخ :	
المادة	
الصف	
الزمن	

اخـتـبـار مادة العلوم للصف الخامس الابتدائي نهاية الفصل الدراسي الأول للعـام الدراسـي ١٤٤٨ هـ

اسم الطالبـ / ـة				
رقم الجلوس		الصف / الفصل		

الدرجة النهائية	مجموع الدرجات رقما	مجموع الدرجات كتابة

السؤال	الدرجة رقما	الدرجة كتابة	المصحـ / ـة	المدققـ/ ـــة
الأول			الاسم	الاسم
الثاني				
الثالث			التوقيع	التوقيع
الرابع				
مجموع الدرجات				

معلمـ / ـة المادة	



برزنتيشن علوم المرحلة الابتدائية

المعرفة التطبيق الاستدلال

السؤال الأول	أ_ ظلل الإجابة الصحيحة

١ أيُّ الممالك التالية تضم مخلوقاتٍ تشبه النباتات ومخلوقات تشبه الحيوانات في خواصِّها؟

أ البدائياتُ ب الفطرياتُ ج الطلائعيات د البكتيريا

٢ المستوى التصنيفي الذي يضم أكبر عدد من مجموعات المخلوقات الحية يسمَّى

أ مملكة ب شعبة ج طائفة د رتبة

٣ عندما يتحد المشيج المذكر مع المشيج المؤنث فإنَّه يحدث

أ تكاثر لاجنسي ب اخصاب ج الانقسام د التكاثر الخضري

٤ يتكون مجتمع الذروة في التعاقب الأولي من:

أ صخور جرداء ب أشناتٍ وحزازيات ج أعشاب وشجيرات د أشجار كبيرة وعالية

٥ ما الذي يسبب حدوث التسونامي في المحيطات؟

أ البراكين ب العواصف فوق المحيط ج الزلازل في المحيطات د الأعاصير القمعية

٦ أيُّ الموارد التالية يعد مورد متجدد للطاقة؟

أ النفط ب طاقة المياه ج الغاز الطبيعي د الفحم



٧ جزء الزهرة الذي يشير إليه السهم هو:

أ الميسم ب المتك ج القلم د المبيض

٨ يوجد في أمعاء الأبقار نوع من البكتيريا تساعدها على الهضم . العلاقة بين هذه البكتيريا والأبقار علاقة:

أ تطفل ب تبادل منفعة. ج تلون د افتراس

٩ تزداد الأشعة الضارة التي تصل إلى سطح الأرض بسبب استنزاف:

أ بخار الماء ب ثاني أكسيد الكربون ج الزراعة د طبقة الأوزون

١٠ توقف اندفاع الصهارة منها ولا يتوقع ثورانها مرة أخرى ، هذه العبارة تصنف

أ البراكين الهامدة ب البراكين النشطة ج التجوية د التعرية

السؤال الأول	ب	صنف الموارد التالية إلى متجددة، غير متجددة

الموارد	مورد متجدد	مورد غير متجدد
١ النفط		
٢ أشعة الشمس،		
٣ الرياح		
٤ الأمواج		
٥ الفحم		
٦ الغاز الطبيعيّ		

السؤال الثاني

أ – أكمل الفراغات بالكلمات المناسبة فيما يأتي

التعرية	موارد غير متجدد	التمويه	اللافقاريات
الغلاف الحيوي	المياه الجوفية	الانقسام	تكيف سلوكي

١ البدائيات والبكتيريا يتكاثران بواسطة .....

٢ تغير اللون والشكل الذي يسمح للمخلوق الحي بالاندماج مع بيئته يسمى .....

٣ ..... تحتاج إلى ملايين السنين لإعادة إنتاجها

٤ عملية نقل فتات الصخور من مكان إلى آخر على سطح الأرض تسمى .....

٥ الحيوانات التي ليس لها عمود فقري تسمى .....

٦ .....هي المياه المختزنة فوق طبقة الصخور المسامية.

٧ هجرة الطيور في جماعات في موسم الشتاء .....

السؤال الثاني

ب صل الصور التالية بالوصف المناسب لها



دورة النيتروجين



طاقة المياه



من اللافقاريات



نظام بيئي



الساق الجارية

موقع منهجي
mnhaji.com

السؤال الثالث	أ .ضع علامة ✓ أمام العبارة الصحيحة و علامة ✘ أمام العيارة الخاطئة

١	يسمى موقع حدوث الزلزال تحت سطح الأرض بالترسيب	
٢	تسمى المادة المنصهرة التي تخرج من خلال سطح الأرض وتتصلب اللابة	
٣	التعاقب الثانوي يحدث بسرعة أكبر من التعاقب الأولي بسبب وجود التربة والمخلوقات الحية	
٤	من خصائص التبرعم أنَّ الأبناء ينتجون عن أب واحد.	
٥	المح الموجود في بيوض الطيور يحافظ على الجنين دافئاً	
٦	إذا قامت الدولة بإنشاء بحيرة كبيرة لتجميع المياه فيها فإن هذه البحيرة تسمَّى بحيرةً طبيعيةً	
٧	ينشأ الوقود الأحفوري عن تحلل النبات والحيوان	
٨	الرياح تجعل الكثبان الرملية تنتقل من مكان إلى آخر	

ب ضع رقم المثال أمام المصطلح المناسب

المثال		المصطلح
١.متوافر على هيئة ثلوج أو جليد في القطبين.		الضباب الدخاني
٢.تقسيم المخلوقات الحية إلى مجموعات		المحاكاة
٣.سحابة عملاقة شبه صفراء تظهر فوق المدن الصناعية		الماء العذب
٤.تُحاكي الأفعى الملك ألوان الأفعى المرجانية السامة		التصنيف

ج أمامك رسم يوضح مقطعًا للأرض من الداخل. اكتب طبقات و أغلفة الأرض على الرسم في أماكنها الصحيحة

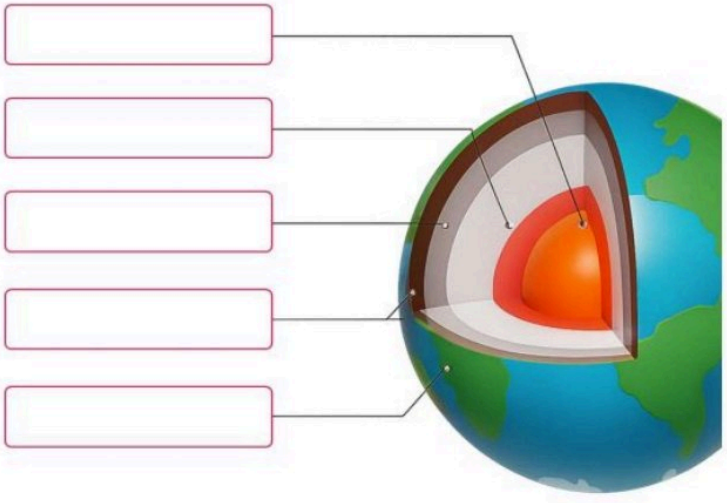

موقع منهجي
mnhaji.com
المعرفة التطبيق الاستدلال
برزنتيشن علوم المرحلة الابتدائية

التاريخ :	
المادة	
الصف	
الزمن	

اخـتـبـار مادة العلوم للصف الخامس الابتدائي نهاية الفصل الدراسي الأول للعـام الدراسـي ١٤٤٨ هـ

اسم الطالبـ / ـة				
رقم الجلوس		الصف / الفصل		

الدرجة النهائية	مجموع الدرجات رقما	مجموع الدرجات كتابة

نموذج الإجابة

الثالث			التوقيع	التوقيع
الرابع				
مجموع الدرجات				

معلمـ / ـة المادة	



برزنتيشن علوم المرحلة الابتدائية

المعرفة التطبيق الاستدلال

موقع منهجي
mnhaji.com

السؤال الأول

أ_ ضلل الإجابة الصحيحة

١ أيُّ الممالك التالية تضم مخلوقاتٍ تشبه النباتات ومخلوقات تشبه الحيوانات في خواصِّها؟

أ البدائياتُ ب الفطرياتُ ج الطلائعيات د البكتيريا

٢ المستوى التصنيفي الذي يضم أكبر عدد من مجموعات المخلوقات الحية يسمَّى

أ مملكة ب شعبة ج طائفة د رتبة

٣ عندما يتحد المشيج المذكر مع المشيج المؤنث فإنَّه يحدث

أ تكاثر لاجنسي ب اخصاب ج الانقسام د التكاثر الخضري

٤ يتكون مجتمع الذروة في التعاقب الأولي من:

أ صخور جرداء ب أشناتٍ وحزازيات ج أعشاب وشجيرات د أشجار كبيرة وعالية

٥ ما الذي يسبب حدوث التسونامي في المحيطات؟

أ البراكين ب العواصف فوق المحيط ج الزلازل في المحيطات د الأعاصير القمعية

٦ أيُّ الموارد التالية يعد مورد متجدد للطاقة؟

أ النفط ب طاقة المياه ج الغاز الطبيعي د الفحم

٧ جزء الزهرة الذي يشير إليه السهم هو:



أ الميسم ب المتك ج القلم د المبيض

٨ يوجد في أمعاء الأبقار نوع من البكتيريا تساعدها على الهضم . العلاقة بين هذه البكتيريا والأبقار علاقة:

أ تطفل ب تبادل منفعة. ج تلون د افتراس

٩ تزداد الأشعة الضارة التي تصل إلى سطح الأرض بسبب استنزاف:

أ بخار الماء ب ثاني أكسيد الكربون ج الزراعة د طبقة الأوزون

١٠ توقف اندفاع الصهارة منها ولا يتوقع ثورانها مرة أخرى ، هذه العبارة تصنف

أ البراكين الهامدة ب البراكين النشطة ج التجوية د التعرية

السؤال الأول

ب صنف الموارد التالية إلى متجددة، غير متجددة

الموارد	مورد متجدد	مورد غير متجدد
١ النفط	اشعة الشمس	الغاز الطبيعي
٢ أشعة الشمس،	الرياح	النفط
٣ الرياح	الامواج	الغاز الطبيعي
٤ الأمواج		
٥ الفحم		
٦ الغاز الطبيعيّ		

السؤال الثاني	أ ــ أكمل الفراغات بالكلمات المناسبة فيما يأتي

التعرية	موارد غير متجدد	التمويه	اللافقاريات
الغلاف الحيوي	المياه الجوفية	الانقسام	تكيف سلوكي

١ البدائيات والبكتيريا يتكاثران بواسطة ..... الانقسام

٢ تغير اللون والشكل الذي يسمح للمخلوق الحي بالاندماج مع بيئته يسمى ..... التمويه

٣ ..... موارد غير متجددة ..... تحتاج إلى ملايين السنين لإعادة إنتاجها

٤ عملية نقل فتات الصخور من مكان إلى آخر على سطح الأرض تسمى ..... التعرية

٥ الحيوانات التي ليس لها عمود فقري تسمى ..... اللافقاريات

٦ ..... المياه الجوفيه ..... هي المياه المختزنة فوق طبقة الصخور المسامية.

٧ هجرة الطيور في جماعات في موسم الشتاء ..... تكيف سلوكي

موقع منهجي
mnhaji.com

السؤال الثاني	ب	صل الصور التالية بالوصف المناسب لها

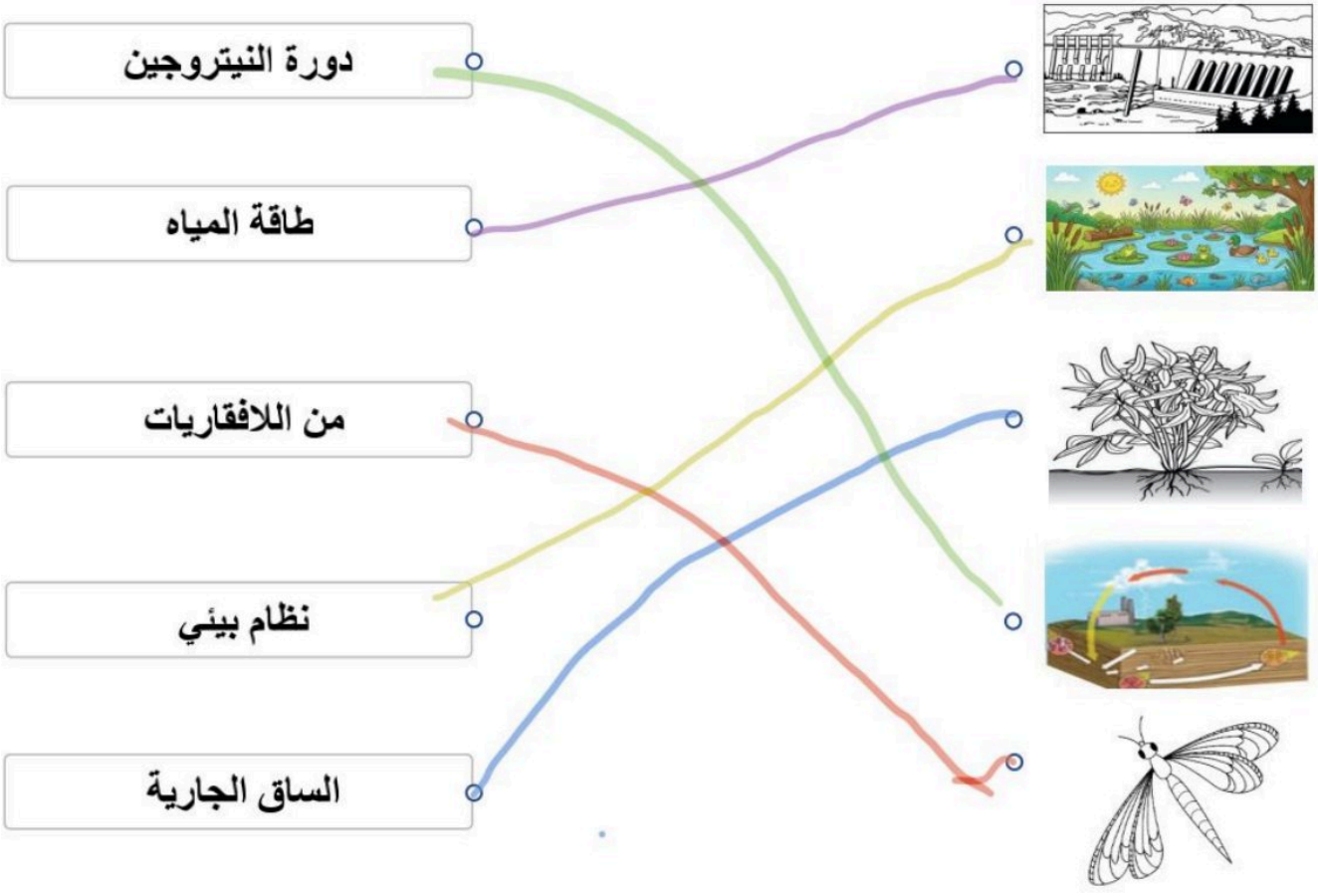

السؤال الثالث	أ .ضع علامة ✓ أمام العبارة الصحيحة و علامة ✘ أمام العيارة الخاطئة
١	يسمى موقع حدوث الزلزال تحت سطح الأرض بالترسيب ✘
٢	تسمى المادة المنصهرة التي تخرج من خلال سطح الأرض وتتصلب اللابة ✓
٣	التعاقب الثانوي يحدث بسرعة أكبر من التعاقب الأولي بسبب وجود التربة والمخلوقات الحية ✓
٤	من خصائص التبرعم أنَّ الأبناء ينتجون عن أب واحد. ✓
٥	المح الموجود في بيوض الطيور يحافظ على الجنين دافئاً ✘
٦	إذا قامت الدولة بإنشاء بحيرة كبيرة لتجميع المياه فيها فإن هذه البحيرة تسمَّى بحيرةً طبيعيةً ✘
٧	ينشأ الوقود الأحفوري عن تحلل النبات والحيوان ✓
٨	الرياح تجعل الكثبان الرملية تنتقل من مكان إلى آخر ✓

ب ضع رقم المثال أمام المصطلح المناسب

المثال		المصطلح
١.متوافر على هيئة ثلوج أو جليد في القطبين.	٣	الضباب الدخاني
٢.تقسيم المخلوقات الحية إلى مجموعات	٤	المحاكاة
٣.سحابة عملاقة شبه صفراء تظهر فوق المدن الصناعية	١	الماء العذب
٤.تُحاكي الأفعى الملك ألوان الأفعى المرجانية السامة	٢	التصنيف

ج أمامك رسم يوضح مقطعًا للأرض من الداخل. اكتب طبقات و أغلفة الأرض على الرسم في أماكنها الصحيحة



موقع منهجي
mnhaji.com
المعرفة التطبيق الاستدلال
برزنتيشن علوم المرحلة الابتدائية

		المجموع الكلي
		٤٠
اختبار مادة العلوم (الدور الأول) الفصل الدراسي الأول للعام الدراسي ١٤٤٨ هـ - ٢٠٢٦م		

المادة	العلوم		الصف		الخامس	
اليوم		التاريخ		زمن الاجابة		ساعتان
اسم الطالب/						
رقم الجلوس		اسم المصحح		اسم المراجع		
		التوقيع		التوقيع		

السؤال الأول :

أ- ضع علامة (√) عند العبارات الصحيحة وعلامة (×) عند الخاطئة:

١.	تعيش البكتريا البدائية في أقسى الظروف مثل قاع البحر	
٢.	الكامبيوم يقوم بنقل الماء في النبات	
٣.	تحتوي الخلية النباتية على جدار خلوي وبلاستيدات خضراء	
٤.	الاحافير باقي مخلوقات حية عاشت في الوقت الحالي	
٥.	يتكون التعاقب الثانوي أسرع من التعاقب الأولي	
٦.	الوقود الاحفوري من الموارد المتجددة	
٧.	النباتات نوعان وعائية واللاوعائية	
٨.	الاسد من الحيوانات المنقرضة	
٩.	من الكوارث الطبيعية الزلازل والأعاصير	
١٠.	من الأمراض التي تسببها البكتيريا الزكام	

السؤال الثاني :

أ- رقّم العامود (أ) بما يناسبه من العامود (ب) :

(أ)		(ب)
١- الاخصاب	.....	خليط من بقايا مخلوقات حية أو اجسامها بعد الموت
٢- المملكة	.....	ينقل السكر الذي يصنع في الاوراق إلى النبات
٣- البركان	.....	نشط ـ ساكن
٤- اللحاء	.....	المستوى التصنيفي الذي يضم أكبر عدد من المخلوقات الحية
٥- الدبال	.....	اتحاد مشيج مذكر مع مشيج مؤنث

ب- ما المصطلح العلمي المناسب للعبارات التالية :

(التعاقب ، التكيف ، الاوزون ، التصنيف ، دورة النيتروجين)

١- (.....) عملية تحول نظام بيئي إلى نظام بيئي جديد ومختلف.

٢- (.....) خاصية تساعد المخلوق الحي على العيش في بيئته.

٣- (.....) طبقة تحمينا من الاشعة الضارة.

٤- (.....) علم تقسيم المخلوقات الحية إلى مجموعات.

٥- (.....) دورة مستمرة في الطبيعية.

موقع منهجي
mnhaji.com

السؤال الثالث :

أ- اختار الإجابة الصحيحة فيما يلي من بين الأقواس:

١. النباتات اللاوعائية تنمو في العادة قرب سطح الأرض لأنه ليس له .....

أ	أوعية لنقل الماء والغذاء	ب	غشاء لفقدان الماء
ج	أعضاء حس حقيقية	د	أوراق

٢. أي ممالك المخلوقات الحية يعيش افرادها في ظروف بيئية قاسية

أ	البدائيات	ب	الطحالب
ج	الحيوانات	د	النباتات

٣. تتشابه الفطريات والبكتيريا أنها

أ	بعضها مفيد وبعضها ضار	ب	بعضها حيواني وبعضها نباتي
ج	تصنع غذاؤها بنفسها	د	بعضها فقاري وبعضها لافقاري

٤. الخطوة الأولى في التكاثر الجنسية هي عملية

أ	الإخصاب	ب	التبرعم
ج	النتح	د	الخضري

٥. تقوم بعملية البناء الضوئي لإنتاج الغذاء

أ	الورقة	ب	الخشب
ج	الرائحة	د	الجذر

٦. لكل مخلوق حي دور خاص به يؤديه في مكان معين يسمى

أ	السعه التحملية	ب	التطفل
ج	النظام البيئي	د	الإطار البيئي

٧. أي التكيفات التالية يُعدّ تكيف سلوكي

أ	غطاء صلب للسلاحف	ب	خف الجمل
ج	رائحة كريهة لبعض النباتات	د	هجرة الطيور

٨. مياه تخزن في مسامات التربة الداخلية

أ	الراكدة	ب	السطحية
ج	الجارية	د	الجوفية

٩. صنف العلماء المخلوقات الحية إلى ..... ممالك

أ	٢	ب	٣
ج	٥	د	٦

١٠. من معالم سطح الأرض المائية

أ	الجبل	ب	الصحاري
ج	التلال	د	المحيطات

السؤال الرابع :

أ- أكمل الفراغات التالية بالكلمة المناسبة:

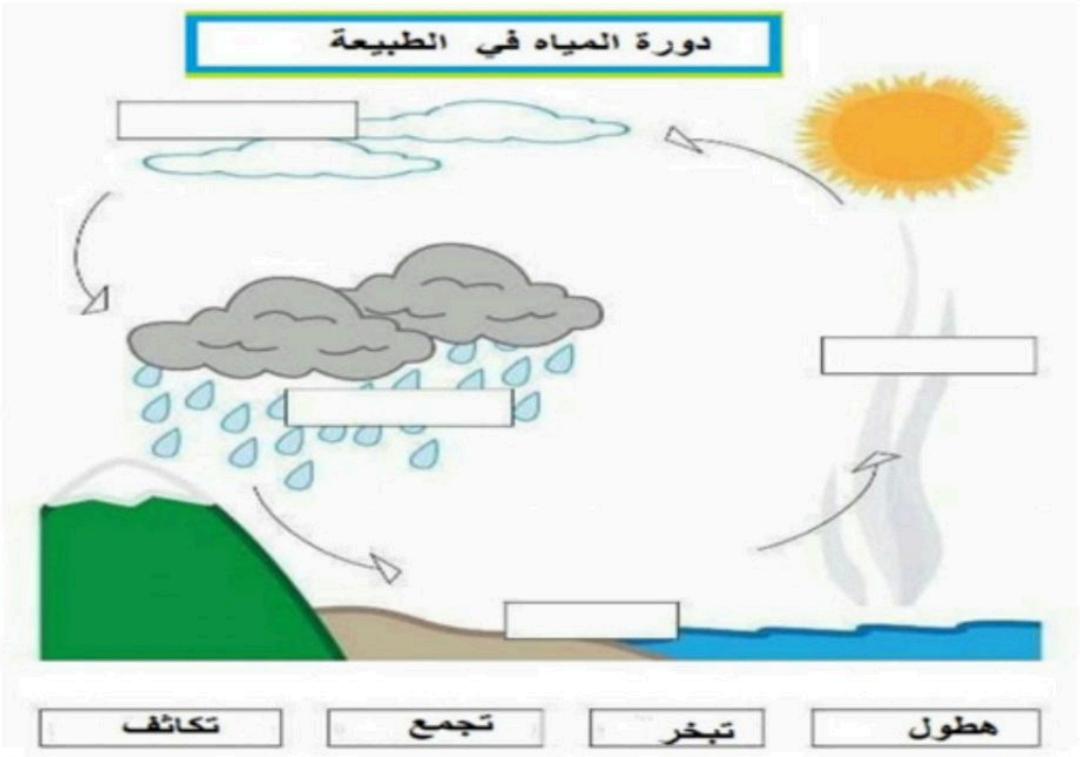

ب- الصور التالية مراحل التحول للفراشة، لكي يكون التحول كامل وصحيح رتب من ١ إلى ٤ :



....

ت- أذكر استخدامات الماء في حياتنا

١. .....

٢. .....

انتهت الأسئلة

معلم المادة/

موقع منهجي
mnhaji.com

مدير المدرسة /

نموذج الإجابة

			المجموع الكلي
			٤٠

اختبار مادة العلوم (الدور الأول) الفصل الدراسي الأول للعام الدراسي ١٤٤٨ هـ - ٢٠٢٦م

المادة	العلوم			الصف		الخامس
اليوم		التاريخ			زمن الاجابة	ساعتان
اسم الطالب/						
رقم الجلوس		اسم المصحح			اسم المراجع	
		التوقيع			التوقيع	

السؤال الأول :

أ- ضع علامة (√) عند العبارات الصحيحة وعلامة (×) عند الخاطئة:

١.	تعيش البكتريا البدائية في أقسى الظروف مثل قاع البحر	✓
٢.	الكامبيوم يقوم بنقل الماء في النبات	×
٣.	تحتوي الخلية النباتية على جدار خلوي وبلاستيدات خضراء	✓
٤.	الاحافير باقي مخلوقات حية عاشت في الوقت الحالي	×
٥.	يتكون التعاقب الثانوي أسرع من التعاقب الأولي	✓
٦.	الوقود الاحفوري من الموارد المتجددة	×
٧.	النباتات نوعان وعائية واللاوعائية	✓
٨.	الاسد من الحيوانات المنقرضة	×
٩.	من الكوارث الطبيعية الزلازل والأعاصير	✓
١٠.	من الأمراض التي تسببها البكتيريا الزكام	×

موقع منهجي
mnhaji.com

السؤال الثاني :

أ- رقّم العامود (أ) بما يناسبه من العامود (ب) :

(أ)		(ب)
١- الاخصاب	.....5.....	خليط من بقايا مخلوقات حية أو اجسامها بعد الموت
٢- المملكة	.....4.....	ينقل السكر الذي يصنع في الاوراق إلى النبات
٣- البركان	.....3.....	نشط ـ ساكن
٤- اللحاء	.....2.....	المستوى التصنيفي الذي يضم أكبر عدد من المخلوقات الحية
٥- الدبال	.....1.....	اتحاد مشيج مذكر مع مشيج مؤنث

ب- ما المصطلح العلمي المناسب للعبارات التالية :

(التعاقب ، التكيف ، الاوزون ، التصنيف ، دورة النيتروجين)

١- (.....التعاقب.....) عملية تحول نظام بيئي إلى نظام بيئي جديد ومختلف.

٢- (.....التكيف.....) خاصية تساعد المخلوق الحي على العيش في بيئته.

٣- (.....الاوزون.....) طبقة تحمينا من الاشعة الضارة.

٤- (.....التصنيف.....) علم تقسيم المخلوقات الحية إلى مجموعات.

٥- (.....دورة النيتروجين.....) دورة مستمرة في الطبيعية.

موقع منهجي
mnhaji.com

السؤال الثالث :

أ- اختار الإجابة الصحيحة فيما يلي من بين الأقواس:

١. النباتات اللاوعائية تنمو في العادة قرب سطح الأرض لأنه ليس له .....

أ	أوعية لنقل الماء والغذاء	ب	غشاء لفقدان الماء
ج	أعضاء حس حقيقية	د	أوراق

٢. أي ممالك المخلوقات الحية يعيش افرادها في ظروف بيئية قاسية

أ	البدائيات	ب	الطحالب
ج	الحيوانات	د	النباتات

٣. تتشابه الفطريات والبكتيريا أنها

أ	بعضها مفيد وبعضها ضار	ب	بعضها حيواني وبعضها نباتي
ج	تصنع غذاؤها بنفسها	د	بعضها فقاري وبعضها لافقاري

٤. الخطوة الأولى في التكاثر الجنسية هي عملية

أ	الإخصاب	ب	التبرعم
ج	النتح	د	الخضري

٥. تقوم بعملية البناء الضوئي لإنتاج الغذاء

أ	الورقة	ب	الخشب
ج	الرائحة	د	الجذر

٦. لكل مخلوق حي دور خاص به يؤديه في مكان معين يسمى

أ	السعه التحملية	ب	التطفل
ج	النظام البيئي	د	الإطار البيئي

٧. أي التكيفات التالية يُعدّ تكيف سلوكي

أ	غطاء صلب للسلاحف	ب	خف الجمل
ج	رائحة كريهة لبعض النباتات	د	هجرة الطيور

٨. مياه تخزن في مسامات التربة الداخلية

أ	الراكدة	ب	السطحية
ج	الجارية	د	الجوفية

٩. صنف العلماء المخلوقات الحية إلى ..... ممالك

أ	٢	ب	٣
ج	٥	د	٦

١٠. من معالم سطح الأرض المائية

أ	الجبل	ب	الصحاري
ج	التلال	د	المحيطات

موقع منهجي
mnhaji.com

السؤال الرابع :

أ- أكمل الفراغات التالية بالكلمة المناسبة:

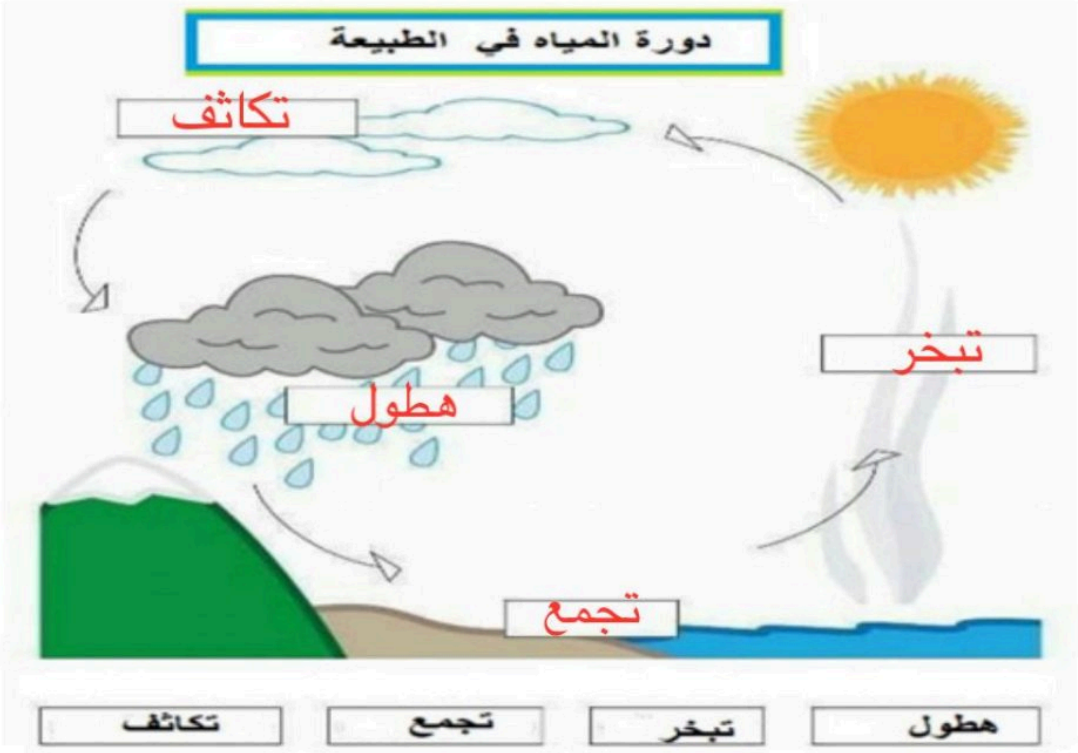

ب- الصور التالية مراحل التحول للفراشة، لكي يكون التحول كامل وصحيح رتب من ١ إلى ٤ :



ت- أذكر استخدامات الماء في حياتنا

١. الشرب - الاكل - التنظيف .....

٢. الوضوء - البناء .....

انتهت الأسئلة

معلم المادة/ مدير المدرسة /

موقع منهجي
mnhaji.com

المادة : علوم الدور : الأول	الصف : الخامس / 1448ه	زمن الإجابة : ساعة ونصف

12

السؤال الأول :

أ)اكتبي اسم المصطلح العلمي المناسب من بين الأقواس أمام الجمل التالية :

المصطلحات / (التعرية، -الإخصاب ،- التصنيف،- الزلازل،- التكيف،- التكاثر) :.

1- علم تقسيم المخلوقات الحية إلى مجموعات بحسب التشابه أوالتركيب او الوظيفة هو	
2- إنتاج أفراد جديدة من النوع نفسه	
3-خواص تركيبية وسلوكية	
4- اتحاد المشيج المذكرمع المشيج المؤنث	
5- عملية نقل الصخور وفتات التربة من مكان إلى آخر	
6- اهتزاز قشرة الأرض يسبب	

ب) عددي اثنان فقط من كل من :

1 - كيف تتغير الأنظمة البيئية ؟		
2- ماالمواد التي يحتاجها النبات في عملية البناء الضوئي ؟		
3- أغلفة الأرض ؟		
4- من طرق المحافظة على الطاقة ؟		

ج) أمامك رسما يوضح تركيب الزهرة :

حددي على الرسم الجزء الذكري والجزء الأنثوي فيها:

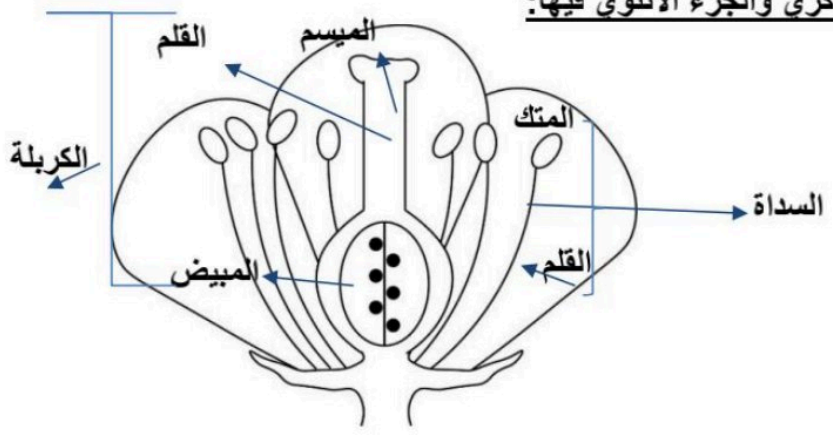

الجزء الذكري يسمى .....

الجزء الأنثوي يسمى .....

طالبتي الجميلة اقلبي الصفحة

المادة : علوم الدور : الأول	الصف : الخامس / 1448ه	زمن الإجابة : ساعة ونصف

14

السؤال الثاني :

أ)ضعي علامة (√) أمام العبارات الصحيحة وعلامة (x) أمام العبارات الخاطئة :.

1- الجزء الذي ينقل الماء والأملاح المعدنية ويحمل الأوراق هو الجذر	(.....)
2- في عملية التكاثر الجنسي ينتج الأفراد الجديدة من أب واحد فقط	(.....)
3- الحيوانات المنقرضة أي لم يعد لها وجود على الأرض مثل الديناصورات	(.....)
4- السماد يصنع من النباتات والحيوانات الميتة يسمى الدبال	(.....)
5- من الممالك التي تضم مخلوقات تشبه النباتات ومخلوقات تشبه الحيوانات هي الطلائعيات	(.....)
6- عملية تغير النظام البيئي إلى نظام بيئي جديد ومختلف تسمى الأنواع الرائدة	(.....)

ب) ماالفرق بين كل من :.

أوجه الاختلاف	مملكة الفطريات	مملكة النباتات
1-الحصول على الغذاء		

أوجه الاختلاف	البركان النشط	البركان الهامد
1-اندفاع الصهارة		

ج) تتبعي وبالأرقام ترتيب مراحل دورة حياة الفراشة على المخطط التنظيمي التالي :

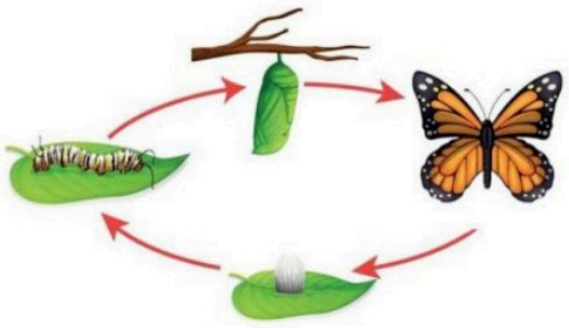

3-.....

2-.....

4-.....

1-.....

طالبتي الجميلة اقلبي الصفحة

موقع منهجي
mnhaji.com

المادة : علوم الدور : الأول	الصف : الخامس / 1448ه	زمن الإجابة : ساعة ونصف

14

السؤال الثالث

أ)اختاري الاجابة الصحيحة بوضع دائرة عليها:

1-- من معالم سطح الأرض على اليابسة ..:	أ.الجبال	ب. المحيطات	ج. الأنهار
2-أكبر مجموعة تصنف إليها المخلوقات الحية..:	أ.الفصيلة	ب- المملكة	ج.الشعبة
3- حركة الماء المستمرة بين الماء والهواء تسمى..:	أ.دورة الماء	ب. دورة الكربون	ج.دورة النيتروجين
4- انتقال حبوب اللقاح من المتك إلى الزهرة	أ.النمو	ب. التلقيح	ج. الإخصاب
5- بقايا نباتات أو حيوانات عاشت ملايين السنين وتحللت وحفظت في الصخورالرسوبية	أ.الأحافير	ب- الطاقة	ج. الغاز
6-يسمى جهاز قياس رصد الزلازل...:	أ- الترمومتر	ب. السيزمومتر	ج- الماموجرام

ب) ضعي الرقم المناسب من العمود (أ) مع ما يناسبه أمام العمود (ب) .....

(أ) أ	الرقم	ب
1-للجمل خف مسطح يساعده على السير في رمال الصحراء.		التشابه
2- الفيلة تسير مع صغارها في مجموعات لحماية صغارها ..		التعايش
3- العلاقة بين النحلة والزهرة		تبادل المنفعة
4- العلاقة بين الثور والعصفور		تكيف سلوكي
5-عند تطابق اللون والشكل مع البيئة		تكيف تركيبي

ج) 1- عللي السبب في تسمية النباتات اللاوعائية بهذا الاسم ؟

.....

2- يعد الوقود الأحفوري موردًا غير متجددًا ؟

.....

انتهت الأسئلة وفقك الله 😊 .. معلمة المادة.

موقع منهجي
mnhaji.com

		المجموع الكلي
		٤٠
اختبار مادة العلوم (الدور الأول) الفصل الدراسي الأول للعام الدراسي ١٤٤٨ هـ		

المادة	العلوم		الصف		الخامس
اليوم		التاريخ		زمن الاجابة	ساعة ونصف
اسم الطالب/ ة					
رقم الجلوس		( )			

رقم السؤال	الدرجة المستحقة		اسم المصحح / ة	اسم المراجع / ة	اسم المدقق / ة
	الدرجة رقماً	الدرجة كتابة			
السؤال الأول					
السؤال الثاني					
السؤال الثالث					
المجموع					

يتبــع

السؤال الأول :-

١٥

نضع أشاره (√) عند العبارات الصحيحة وعلامة (×) عند الخاطئة :-

١- تعيش البكتريا البدائية في أقسى الظروف مثل قاع البحر . (.....)

٢- الكامبيوم يقوم بنقل الماء في النبات . (.....)

٣- تحتوي الخلية النباتية على جدار خلوي وبلاستيدات خضراء (.....)

٤- تغير لون فرو الثعلب القطبي وسط الثلوج يسمى محاكاه . (.....)

٥- يتكون التعاقب الثانوي أسرع من التعاقب الأولي. (.....)

٦- الأخصاب الداخلي يحدث خارج جسم الأنثى . (.....)

٧- النباتات معراه البذور لا تنبت لها أزهار . (.....)

٨- العلاقة بين الحشرات والزهرة علاقة تطفل . (.....)

ما هي أجزاء النبات التي تقوم بالوظائف التالية :-

١- عملية البناء الضوئي ⟵ .....

٢- امتصاص الماء والاملاح المعدنية ⟵ .....

نصل العمود (أ) بما يناسبه من العمود (ب) :-

(أ)		(ب)
١- البتلات	.....	خليط من بقايا مخلوقات حية أو اجسامها بعد الموت
٢- المملكة	.....	ينقل السكر الذي يصنع في الاوراق إلى النبات
٣- الاخصاب	.....	تتميز بألوانها الجميلة لجذب الحشرات
٤- اللحاء	.....	المستوى التصنيفي الذي يضم أكبر عدد من المخلوقات الحية
٥- الدبال	.....	اتحاد مشيج مذكر مع مشيج مؤنث

يتبــع ↓

١٥

السؤال الثاني :-

أ) نختار الاجابة الصحيحة فيما يلي :-

١	تتكاثر الهيدرا لا جنسياً فيما يلي :-			
	(أ) التبرعم	(ب) الانشطار	(ج) الانقسام	(د) التكاثر الخضري
٢	من الأمثلة على التحول الناقص			
	(أ) الجرادة	(ب) الأسد	(ج) الفراشة	(د) النحلة
٣	لا يمكن تصنيفها ضمن الممالك الست			
	(أ) الفيروسات	(ب) البدائيات	(ج) الحيوانات	(د) البكتريا
٤	هي الجزء الأنثوي في الزهرة			
	(أ) السبلة	(ب) الكربلة	(ج) السداة	(د) البتلة
٥	انتقال الكربون بين المخلوقات الحية بشكل مستمر هو دورة			
	(أ) النيتروجين	(ب) الكربون	(ج) الماء	(د) الحياة
٦	تعيش الفطريات في الأماكن			
	(أ) الباردة	(ب) الرطبة	(ج) الحارة	(د) الجافة
٧	من النباتات اللاوعائية			
	(أ) الشيح	(ب) الحزازيات	(ج) الطلح	(د) الصنوبر
٨	علاقة يستفيد فيها أحد الطرفين دون أن يضر الطرف الأخر			
	(أ) التطفل	(ب) التعايش	(ج) التكافل	(د) المنفعة

أ) ما المصطلح العلمي المناسب للعبارات التالية :-

(المحاكاة , التصنيف , التحول , التكيف , التعاقب)

١- (.....) عملية تحول نظام بيئي إلى نظام بيئي جديد ومختلف .

٢- (.....) خاصية تساعد المخلوق الحي على العيش في بيئته .

٣- (.....) سلسلة من مراحل النمو المميزة يختلف بعضها عن بعض .

٤- (.....) علم تقسيم المخلوقات الحية إلى مجموعات .

٥- (.....) تقليد مخلوق حي لمخلوق حي آخر بهدف أخافه أعدائه .

ج) ما الاسباب المؤدية التي تغير النظام البيئي ؟

١- .....

٢- .....

١٠

السؤال الثالث :-

أ) نقارن بين التكاثر الجنسي واللا جنسي حسب المطلوب :-

المقارنة	التكاثر الجنسي	التكاثر اللا الجنسي
التعريف	.....	.....
أمثلة	.....	.....

ب) مثال لكلاً من :-

١- حيوان مهدد بالانقراض ⟵ .....

٢- نباتات وعائية ⟵ .....

٣- تكيف تركيبي للحيوان ⟵ .....

٤- حيوان يتكاثرلاجنسياً ⟵ .....

<على الرسم التالي تتبع دورة الماء بكتابة البيانات على الشكل :

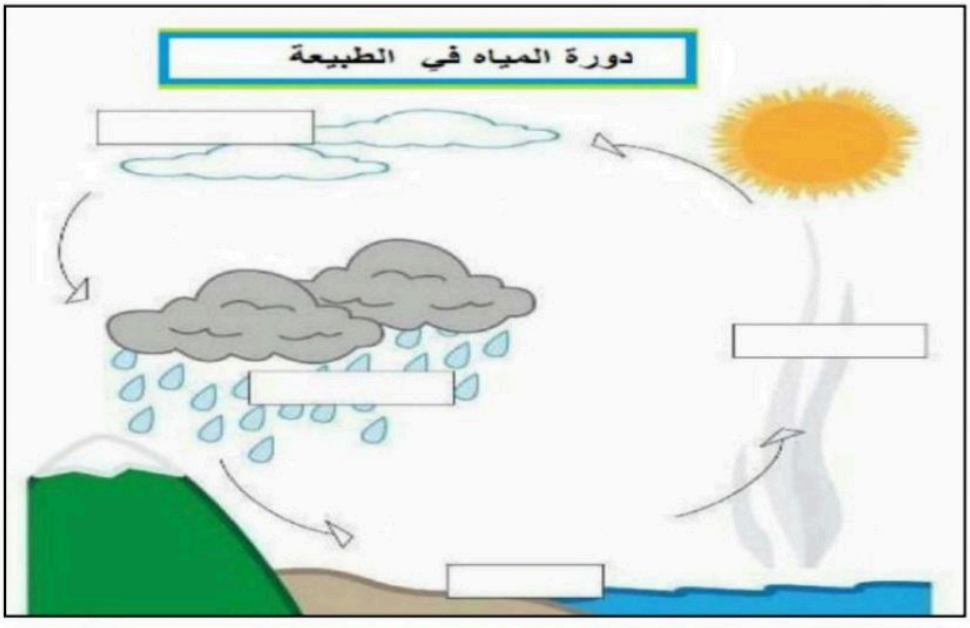

سكره الشمري

		المجموع الكلي
		٤٠
اختبار مادة العلوم (الدور الأول) الفصل الدراسي الأول للعام الدراسي ١٤٤٨ هـ		

المادة	العلوم		الصف		الخامس
اليوم		التاريخ		زمن الاجابة	ساعة ونصف
اسم الطالب/ة					

نموذج الإجابة

رقم السؤال	الدرجة المستحقة		اسم المصحح / ة	اسم المراجع / ة	اسم المدقق / ة
	الدرجة رقماً	الدرجة كتابة			
السؤال الأول					
السؤال الثاني					
السؤال الثالث					
المجموع					



موقع منهجي

mnhaji.com

يتبـــع



السؤال الأول :-

١٥

نضع أشاره (√) عند العبارات الصحيحة وعلامة (×) عند الخاطئة :-

١- تعيش البكتريا البدائية في أقسى الظروف مثل قاع البحر . (✓)

٢- الكامبيوم يقوم بنقل الماء في النبات . (×)

٣- تحتوي الخلية النباتية على جدار خلوي وبلاستيدات خضراء (✓)

٤- تغير لون فرو الثعلب القطبي وسط الثلوج يسمى محاكاه . (×)

٥- يتكون التعاقب الثانوي أسرع من التعاقب الأولي. (✓)

٦- الأخصاب الداخلي يحدث خارج جسم الأنثى . (×)

٧- النباتات معراه البذور لا تنبت لها أزهار . (✓)

٨- العلاقة بين الحشرات والزهرة علاقة تطفل . (×)

ما هي أجزاء النبات التي تقوم بالوظائف التالية :-

١- عملية البناء الضوئي ⟵ الاوراق

٢- امتصاص الماء والاملاح المعدنية ⟵ الجذور

نصل العمود (أ) بما يناسبه من العمود (ب) :-

(أ)		(ب)
١- البتلات	٥	خليط من بقايا مخلوقات حية أو اجسامها بعد الموت
٢- المملكة	٤	ينقل السكر الذي يصنع في الاوراق إلى النبات
٣- الاخصاب	١	تتميز بألوانها الجميلة لجذب الحشرات
٤- اللحاء	٢	المستوى التصنيفي الذي يضم أكبر عدد من المخلوقات الحية
٥- الدبال	٣	اتحاد مشيج مذكر مع مشيج مؤنث

موقع منهجي
mnhaji.com

يتبـــع ↓

١٥

السؤال الثاني :-

أ) نختار الاجابة الصحيحة فيما يلي :-

١	تتكاثر الهيدرا لا جنسياً فيما يلي :-			
	(أ) التبرعم	(ب) الانشطار	(ج) الانقسام	(د) التكاثر الخضري
٢	من الأمثلة على التحول الناقص			
	(أ) الجرادة	(ب) الأسد	(ج) الفراشة	(د) النحلة
٣	لا يمكن تصنيفها ضمن الممالك الست			
	(أ) الفيروسات	(ب) البدائيات	(ج) الحيوانات	(د) البكتريا
٤	هي الجزء الأنثوي في الزهرة			
	(أ) السبلة	(ب) الكربلة	(ج) السداة	(د) البتلة
٥	انتقال الكربون بين المخلوقات الحية بشكل مستمر هو دورة			
	(أ) النيتروجين	(ب) الكربون	(ج) الماء	(د) الحياة
٦	تعيش الفطريات في الأماكن			
	(أ) الباردة	(ب) الرطبة	(ج) الحارة	(د) الجافة
٧	من النباتات اللاوعائية			
	(أ) الشيح	(ب) الحزازيات	(ج) الطلح	(د) الصنوبر
٨	علاقة يستفيد فيها أحد الطرفين دون أن يضر الطرف الأخر			
	(أ) التطفل	(ب) التعايش	(ج) التكافل	(د) المنفعة

أ) ما المصطلح العلمي المناسب للعبارات التالية :-

(المحاكاة , التصنيف , التحول , التكيف , التعاقب)

١- (التعاقب) عملية تحول نظام بيئي إلى نظام بيئي جديد ومختلف .

٢- (التكيف) خاصية تساعد المخلوق الحي على العيش في بيئته .

٣- (التحول) سلسلة من مراحل النمو المميزة يختلف بعضها عن بعض .

٤- (التصنيف) علم تقسيم المخلوقات الحية إلى مجموعات .

٥- (المحاكاة) تقليد مخلوق حي لمخلوق حي آخر بهدف أخافه أعدائه .

ج) ما الاسباب المؤدية التي تغير النظام البيئي ؟

١- كوارث طبيعية مثل الزلازل والبراكين والجفاف .....

٢- الإنسان .....

موقع منهجي
mnhaji.com

السؤال الثالث :-

١٠

أ) نقارن بين التكاثر الجنسي واللا جنسي حسب المطلوب :-

المقارنة	التكاثر الجنسي	التكاثر اللا الجنسي
التعريف	انتاج أفراد جديدة من أبوين	إنتاج أفراد جديدة من أب واحد فقط
أمثلة	الانسان والحيوان	البكتريا والطلائعيات

ب) مثال لكلاً من :-

١- حيوان مهدد بالانقراض ⟵ غزال الريم وطائر الحبارى والنمر العربي

٢- نباتات وعائية ⟵ البرتقال والليمون

٣- تكيف تركيبي للحيوان ⟵ الفرو وخف الجمل والسنام

٤- حيوان يتكاثرلاجنسياً ⟵ البكتريا - الفطريات

<على الرسم التالي تتبع دورة الماء بكتابة البيانات على الشكل :

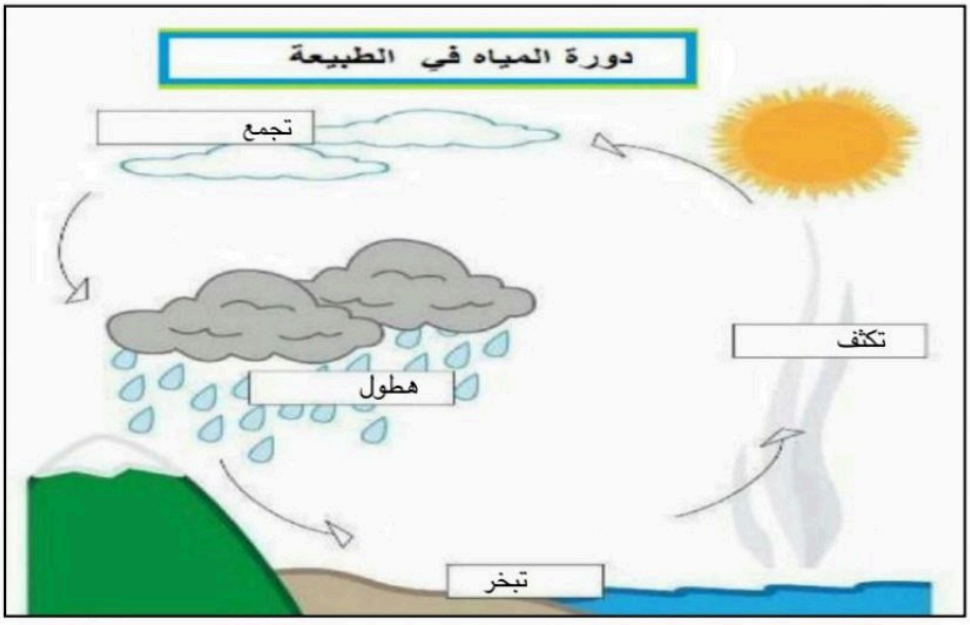

موقع منهجي
mnhaji.com

سكره الشمري

الفصل الدراسي : الأول
العام الدراسي : ١٤٤٨هـ
المـادة : علوم الصف : الخامس
الزمن : ساعة و نصف

اختبار نهائي علوم خامس الفصل الدراسي الأول لعام ١٤٤٨هـ			
أسم الطالب			
الصف	/ ٥	رقم الجلوس	

رقم السؤال	الدرجة المستحقة		المصحح	توقيعه	المراجع	توقيعه	المدقق	توقيعه
	رقماً	كتابة						
السؤال الأول								
السؤال الثاني								
السؤال الثالث								
السؤال الرابع								
المجموع								

السؤال الأول : ضع علامة (✓) أمام العبارة الصحيحة، وعلامة (✗) أمام العبارة الخاطئة ؟

		٢٠

١	النباتات و الحيوانات مخلوقات عديدة الخلية تصنع غذائها بنفسها .	( )
٢	الفقاريات حيوانات ليس لها عمود فقري .	( )
٣	وظيفة الساق امتصاص الماء و الأملاح من التربة و تخزين الغذاء .	( )
٤	معراة البذور نباتات لا تنبت لها أزهار و بذورها قاسية .	( )
٥	التحول سلسلة من مراحل النمو المميزة يختلف بعضها عن بعض .	( )
٦	الإخصاب الداخلي اتحاد المشيج المذكر مع المشيج المؤنث خارج جسم الأنثى .	( )
٧	النظام البيئي مكان يعيش فيه المخلوق الحي ويجد فيه حاجاته .	( )
٨	التعايش علاقة بين مخلوقين حيين يستفيد إحداهما ويسبب الضرر للآخر .	( )
٩	من موارد الطاقة غير المتجددة النفط و الفلزات .	( )
١٠	التعاقب عملية تحول النظام البيئي لنظام بيئي جديد مختلف .	( )

السؤال الثاني: أكتب الإجابة الصحيحة من المجموعة (أ) أمام ما يناسبها من المجموعة (ب) ؟

	٥

المجموعة (أ)	
١	الفيروسات
٢	البناء الضوئي
٣	التكاثر اللاجنسي
٤	التكيف
٥	التصنيف
٦	دورة الكربون

	المجموعة (ب)
	إنتاج أفراد جدد من أب واحد
	جميع أفرادها تسبب الضرر للمخلوقات الحية
	انتقال الكربون بين المخلوقات الحية وغيرها بشكل مستمر
	خاصية تساعد المخلوق الحي على العيش في بيئته
	عملية صنع الغذاء في النباتات

يتبع >>>

السؤال الثالث : أكمل الفراغات التالية بالكلمة المناسبة ؟

٥

الفطريات – الخشب – التحول الناقص – دورة النيتروجين – التكيف التركيبي – مجتمع الذروة

١- ..... المرحلة الأخيرة من مراحل التعاقب .

٢- ..... يمر المخلوق الحي بثلاث مراحل فقط .

٣- ..... نقل الماء و الأملاح في النبات في اتجاه واحد .

٤- ..... تغيرات في تراكيب الجسم الداخلية أو الخارجية .

٥- ..... مخلوقات حية تعيش في الأماكن الرطبة .

السؤال الرابع – أجب عن الأسئلة التالية ؟

١٠

أولا / اختر الإجابة الصحيحة فيما يلي ؟

١- يصنف النبات .



أ) وعائي

ب) لا وعائي

ج) زهري

٢- نوع الجذر .

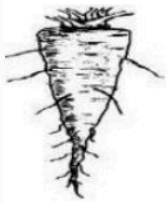

أ) ليفي

ب) هوائي

ج) وتدي

٣- التكاثر في المخلوق الحي .

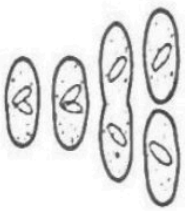

أ) تبرعم

ب) انقسام

ج) خضري

٤- التحول في الفراشة .

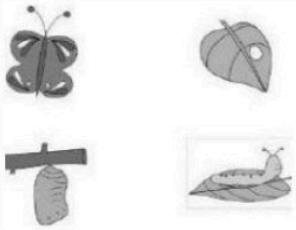

أ) كامل

ب) ناقص

ج) متساوي

٦- العلاقة بين الزهرة و النحلة .



أ) تعايش

ب) تبادل منفعة

ج) تطفل

٧- يمثل الشكل المجاور .



أ) البيات الشتوي

ب) البحث عن الغذاء

ج) التنقل في جماعات

٧- التمويه في الثعبان .

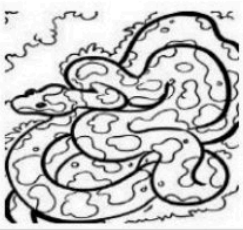

أ) تلون

ب) تشابه

ج) محاكاة

٨- يمثل الشكل دورة .



أ) الكربون

ب) النيتروجين

ج) الماء

ثانيا / أجب عن الأسئلة التالية ؟

١- ما الذي يميز التكاثر الجنسي ؟ .....

٢- أذكر عامل يغير النظام البيئي ؟ .....

" انتهت الأسئلة "

نموذج الإجابة

الفصل الدراسي : الأول
العام الدراسي : ١٤٤٨هـ
المادة : علوم الصف : الخامس
الزمن : ساعة و نصف

نموذج الإجابة لاختبار نهائي علوم خامس الفصل الدراسي الأول لعام ١٤٤٨هـ			
أسم الطالب			
الصف	٥ /	رقم الجلوس	

رقم السؤال	الدرجة المستحقة		المصحح	توقيعه	المراجع	توقيعه	المدقق	توقيعه
	رقماً	كتابة						
السؤال الأول								
السؤال الثاني								
السؤال الثالث								
السؤال الرابع								
المجموع								

السؤال الأول : ضع علامة (✓) أمام العبارة الصحيحة، وعلامة (✗) أمام العبارة الخاطئة ؟ درجتين لكل فقرة

١	النباتات و الحيوانات مخلوقات عديدة الخلية تصنع غذائها بنفسها .	(✗)
٢	الفقاريات حيوانات ليس لها عمود فقري .	(✗)
٣	وظيفة الساق امتصاص الماء و الأملاح من التربة و تخزين الغذاء .	(✗)
٤	معراة البذور نباتات لا تنبت لها أزهار و بذورها قاسية .	(✓)
٥	التحول سلسلة من مراحل النمو المميزة يختلف بعضها عن بعض .	(✓)
٦	الإخصاب الداخلي اتحاد المشيج المذكر مع المشيج المؤنث خارج جسم الأنثى .	(✗)
٧	النظام البيئي مكان يعيش فيه المخلوق الحي ويجد فيه حاجاته .	(✗)
٨	التعايش علاقة بين مخلوقين حيين يستفيد إحداهما ويسبب الضرر للآخر .	(✗)
٩	من موارد الطاقة غير المتجددة النفط و الفلزات .	(✓)
١٠	التعاقب عملية تحول النظام البيئي لنظام بيئي جديد مختلف .	(✓)

٢٠	

السؤال الثاني: أكتب الإجابة الصحيحة من المجموعة (أ) أمام ما يناسبها من المجموعة (ب) ؟ درجة لكل فقرة

المجموعة (أ)	
١	الفيروسات
٢	البناء الضوئي
٣	التكاثر اللاجنسي
٤	التكيف
٥	التصنيف
٦	دورة الكربون

المجموعة (ب)	
٣	إنتاج أفراد جدد من أب واحد
١	جميع أفرادها تسبب الضرر للمخلوقات الحية
٦	انتقال الكربون بين المخلوقات الحية وغيرها بشكل مستمر
٤	خاصية تساعد المخلوق الحي على العيش في بيئته
٢	عملية صنع الغذاء في النباتات

٥	

يتبع >>>

موقع منهجي
mnhaji.com

السؤال الثالث : أكمل الفراغات التالية بالكلمة المناسبة ؟ درجة لكل فقرة

٥

الفطريات – الخشب – التحول الناقص – دورة النيتروجين – التكيف التركيبي – مجتمع الذروة

١- مجتمع الذروة المرحلة الأخيرة من مراحل التعاقب .

٢- التحول الناقص يمر المخلوق الحي بثلاث مراحل فقط .

٣- الخشب نقل الماء و الأملاح في النبات في اتجاه واحد .

٤- التكيف التركيبي تغيرات في تراكيب الجسم الداخلية أو الخارجية .

٥- الفطريات مخلوقات حية تعيش في الأماكن الرطبة .

موقع منهجي
mnhaji.com

السؤال الرابع – أجب عن الأسئلة التالية ؟

١٠

أولا / اختر الإجابة الصحيحة فيما يلي ؟ درجة لكل فقرة

٢- يصنف النبات .



أ) وعائي

ب) لا وعائي

ج) زهري

٣- نوع الجذر .

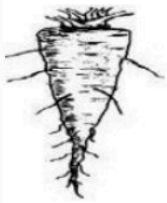

أ) ليفي

ب) هوائي

ج) وتدي

٤- التكاثر في المخلوق الحي .

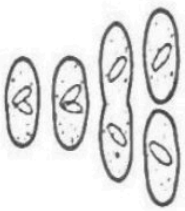

أ) تبرعم

ب) انقسام

ج) خضري

٥- التحول في الفراشة .

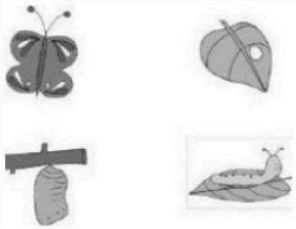

أ) كامل

ب) ناقص

ج) متساوي

٧- العلاقة بين الزهرة و النحلة .



أ) تعايش

ب) تبادل منفعة

ج) تطفل

٨- يمثل الشكل المجاور .



أ) البيات الشتوي

ب) البحث عن الغذاء

ج) التنقل في جماعات

٨- التمويه في الثعبان .



أ) تلون

ب) تشابه

ج) محاكاة

٩- يمثل الشكل دورة .



أ) الكربون

ب) النيتروجين

ج) الماء

ثانيا / أجب عن الأسئلة التالية ؟ درجة لكل فقرة

٣- ما الذي يميز التكاثر الجنسي ؟ خلط الصفات

٤- أذكر عامل يغير النظام البيئي ؟ العوامل الطبيعية أو الأنسان أو الحيوان

" انتهت الأسئلة "

الصف : خامس ابتدائي
المادة : علوم
الزمن : ساعة ونصف
التاريخ : / / 1448هـ

أسئلة الاختبار النهائي (الفصل الدراسي الأول) العام الدراسي 1448هـ

اسم الطالبة:..... رقم الجلوس:.....

رقم السؤال	الدرجة التي حصلت عليها الطالبة		المصححة	المراجعة	المدققة
	رقمًا	كتابة			
الأول		فقط لا غير			
الثاني		فقط لا غير			
الثالث		فقط لا غير			
المجموع		فقط لا غير			

السؤال الأول:

15

(أ) ضعي علامة (✓) أمام العبارة الصحيحة و (✗) أمام العبارة الخاطئة:

1- تعيش البدائيات في الينابيع الساخنة والحارة.	( )
2- تنقسم المملكة النباتية إلى نباتات وعائية فقط.	( )
3- الكامبيوم طبقة تفصل بين الخشب واللحاء.	( )
4- الاخصاب الخارجي يحدث داخل جسم الأنثى.	( )
5- النظام البيئي يتكون من عوامل حيوية وعوامل لاحيوية.	( )
6- التعاقب الأولي أسرع من التعاقب الثانوي.	( )
7- النمر العربي من الحيوانات المهددة بالانقراض.	( )
8- أول مرحلة من مراحل التعاقب الأولي الأشجار.	( )
9- من الكوارث الطبيعية الزلازل والأعاصير.	( )
10- من الأمراض التي تسببها البكتيريا الزكام.	( )

(ب) أكملي الجدول الذي أمامك حسب المطلوب:

وجه المقارنة	عدد الأباء	هل يوجد خلط للصفات؟	مثال
التكاثر الجنسي			
التكاثر اللاجنسي			

15

السؤال الثاني: (أ) اختاري الإجابة الصحيحة لكل فقرة من الفقرات التالية:

.1	مخلوقات حية تشبه في خصائصها النباتات والحيوانات هي ؟			
	☐ الطلائعيات	☐ البكتيريا	☐ الفيروسات	☐ البدائيات
.2	تعيش في الفطريات في الأماكن ؟			
	☐ الرطبة	☐ الجافة	☐ الباردة	☐ الحارة
.3	تتكاثر الهيدرا عن طريق ؟			
	☐ التبرعم	☐ الساق الجارية	☐ التجدد	☐ الانشطار
.4	الجزء الذكري في الزهرة يسمى ؟			
	☐ الكربلة	☐ السدأة	☐ السبلة	☐ البتلة
.5	العلاقة بين الأزهار والنحل هي علاقة ؟			
	☐ تبادل منفعة	☐ التعايش	☐ التطفل	☐ التزاوج
.6	المياه التي تتجمع فوق سطح الأرض تسمى ؟			
	☐ المياه العميقة	☐ المياه السطحية	☐ المياه الجوفية	☐ المياه الجارية
.7	علاقة بين مخلوقين حيّين أحدهما يستفيد والآخر يتضرر ؟			
	☐ التكافل	☐ التطفل	☐ التعايش	☐ تبادل منفعة
.8	تقليد مخلوق حي لمخلوق حي آخر بهدف تخويف إعداءه؟			
	☐ التلون	☐ المحاكاة	☐ التشابه	☐ التكيف
.9	النباتات التي تحتوي على أوعية ناقلة لنقل الماء والأملاح المعدنية تسمى ؟			
	☐ النباتات اللاوعائية	☐ النباتات الوعائية	☐ النباتات الخشبية	☐ النباتات الصغيرة
.10	أكبر شعب اللافقاريات هي شعبة ؟			
	☐ الأسماك	☐ المفصليات	☐ الرخويات	☐ شوكيات الجلد

(ب) أمامك مجموعة من المصطلحات اختاري المناسب ثم اكتبيه أمام كل تعريف:

(الدبال – التلقيح – الموطن – المغطاة البذور - التصنيف)

1. تقسيم المخلوقات الحية إلى مجموعات حسب التشابه.	.....
2. نباتات بذرية تنتج أزهار.	.....
3. المكان الذي يعيش فيه المخلوق ويحصل منه على الغذاء.	.....
4. انتقال حبوب اللقاح من المتك إلى الميسم في الزهرة.	.....
5. خليط من بقايا مخلوقات حية بعد موتها وتحللها.	.....

10

السؤال الثالث: (أ) اكتبي الكلمة المناسبة في المربع الصحيح لإكمال دورة الماء في الطبيعة

(التبخر – التكثف – الهطول – المياه الجوفية)

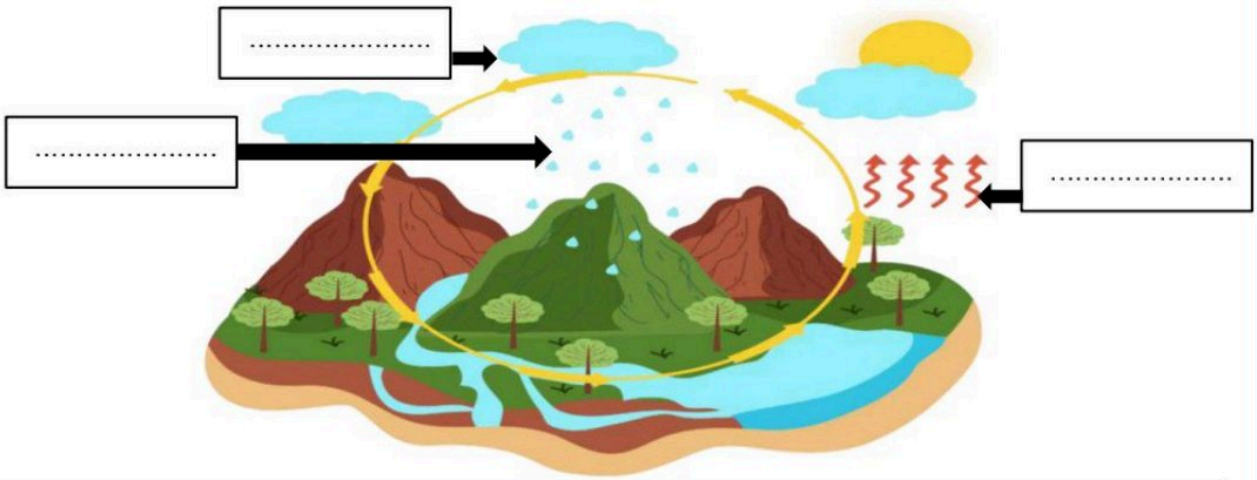

(ب) اختاري من العمود (أ) بما يناسبه من العمود (ب):

(أ)	الرقم	(ب)
1- الخشب		تصنع الغذاء للنبات.
2- اللحاء		يدعم النبات ويحمل الأوراق والأزهار.
3- الجذور		تثبت النبات في التربة وتمتص الماء والأملاح المعدنية.
4-الساق		أنابيب تنقل السكر من الأوراق إلى أجزاء النبات.
5- الورقة		أنابيب تنقل الماء والأملاح المعدنية من الجذور للأوراق.

(ج) اكتبي مراحل التحول الكامل:

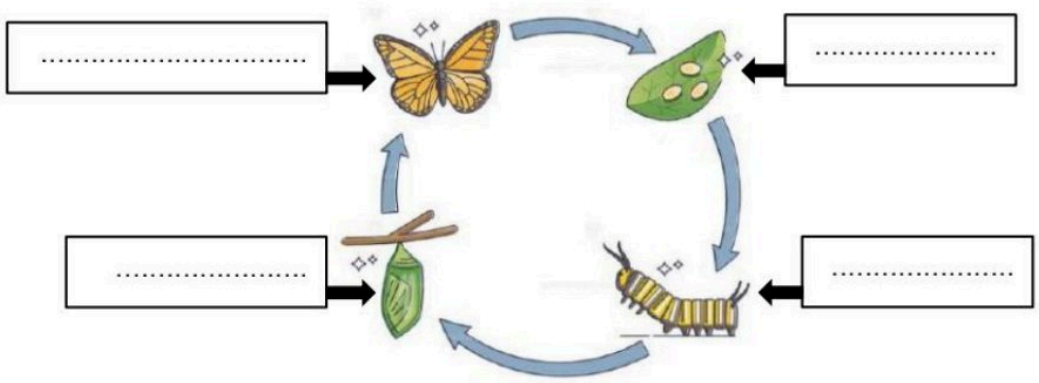

♥ انتهت الأسئلة طالبتي الجميلة ♥
مع تمنياتي لكِ بدوام التوفيق والنجاح
معلمة المادة

نموذج الإجابة

الصف : خامس ابتدائي
المادة : علوم
الزمن : ساعة ونصف
التاريخ : / / 1448هـ

أسئلة الاختبار النهائي (الفصل الدراسي الأول) العام الدراسي 1448هـ

اسم الطالبة:..... نموذج الإجابة رقم الجلوس:.....

رقم السؤال	الدرجة التي حصلت عليها الطالبة		المصححة	المراجعة	المدققة
	رقمًا	كتابة			
الأول		فقط لا غير			
الثاني		فقط لا غير			
الثالث		فقط لا غير			
المجموع		فقط لا غير			

السؤال الأول:

15

(أ) ضعي علامة (✓) أمام العبارة الصحيحة و (✗) أمام العبارة الخاطئة:

1- تعيش البدائيات في الينابيع الساخنة والحارة.	(✓)
2- تنقسم المملكة النباتية إلى نباتات وعائية فقط.	(✗)
3- الكامبيوم طبقة تفصل بين الخشب واللحاء.	(✓)
4- الاخصاب الخارجي يحدث داخل جسم الأنثى.	(✗)
5- النظام البيئي يتكون من عوامل حيوية وعوامل لاحيوية.	(✓)
6- التعاقب الأولي أسرع من التعاقب الثانوي.	(✗)
7- النمر العربي من الحيوانات المهددة بالانقراض.	(✓)
8- أول مرحلة من مراحل التعاقب الأولي الأشجار.	(✗)
9- من الكوارث الطبيعية الزلازل والأعاصير.	(✓)
10- من الأمراض التي تسببها البكتيريا الزكام.	(✗)

(ب) أكملي الجدول الذي أمامك حسب المطلوب:

وجه المقارنة	عدد الأباء	هل يوجد خلط للصفات؟	مثال
التكاثر الجنسي	2	نعم	الأسد ، الخ
التكاثر اللاجنسي	1	لا	البكتيريا ، الخ

موقع منهجي
mnhaji.com

15

السؤال الثاني: (أ) اختاري الإجابة الصحيحة لكل فقرة من الفقرات التالية:

.1	مخلوقات حية تشبه في خصائصها النباتات والحيوانات هي ؟			
	☐ الطلائعيات	☐ البكتيريا	☐ الفيروسات	☐ البدائيات
.2	تعيش في الفطريات في الأماكن ؟			
	☐ الرطبة	☐ الجافة	☐ الباردة	☐ الحارة
.3	تتكاثر الهيدرا عن طريق ؟			
	☐ التبرعم	☐ الساق الجارية	☐ التجدد	☐ الانشطار
.4	الجزء الذكري في الزهرة يسمى ؟			
	☐ الكربلة	☐ السدأة	☐ السبلة	☐ البتلة
.5	العلاقة بين الأزهار والنحل هي علاقة ؟			
	☐ تبادل منفعة	☐ التعايش	☐ التطفل	☐ التزاوج
.6	المياه التي تتجمع فوق سطح الأرض تسمى ؟			
	☐ المياه العميقة	☐ المياه السطحية	☐ المياه الجوفية	☐ المياه الجارية
.7	علاقة بين مخلوقين حيّين أحدهما يستفيد والآخر يتضرر ؟			
	☐ التكافل	☐ التطفل	☐ التعايش	☐ تبادل منفعة
.8	تقليد مخلوق حي لمخلوق حي آخر بهدف تخويف إعداءه؟			
	☐ التلون	☐ المحاكاة	☐ التشابه	☐ التكيف
.9	النباتات التي تحتوي على أوعية ناقلة لنقل الماء والأملاح المعدنية تسمى ؟			
	☐ النباتات اللاوعائية	☐ النباتات الوعائية	☐ النباتات الخشبية	☐ النباتات الصغيرة
.10	أكبر شعب اللافقاريات هي شعبة ؟			
	☐ الأسماك	☐ المفصليات	☐ الرخويات	☐ شوكيات الجلد

(ب) أمامك مجموعة من المصطلحات اختاري المناسب ثم اكتبيه أمام كل تعريف:

(الدبال – التلقيح – الموطن – المغطاة البذور – المعراة البذور- التصنيف)

1. تقسيم المخلوقات الحية إلى مجموعات حسب التشابه.	التصنيف
2. نباتات بذرية تنتج أزهار.	المغطاة البذور
3. المكان الذي يعيش فيه المخلوق ويحصل منه على الغذاء.	الموطن
4. انتقال حبوب اللقاح من المتك إلى الميسم في الزهرة.	التلقيح
5. خليط من بقايا مخلوقات حية بعد موتها وتحللها.	الدبال

موقع منهجي
mnhaji.com

10

السؤال الثالث: (أ) اكتبي الكلمة المناسبة في المربع الصحيح لإكمال دورة الماء في الطبيعة

(التبخر – التكثف – الهطول – المياه الجوفية)

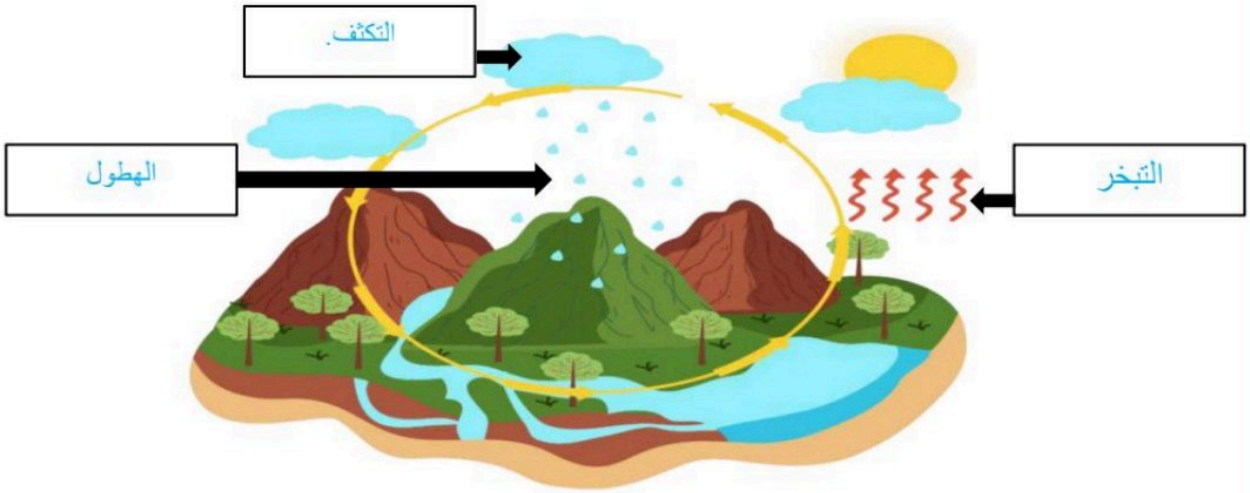

(ب) اختاري من العمود (أ) بما يناسبه من العمود (ب):

(أ)	الرقم	(ب)
1- الخشب	5	تصنع الغذاء للنبات.
2- اللحاء	4	يدعم النبات ويحمل الأوراق والأزهار.
3- الجذور	3	تثبت النبات في التربة وتمتص الماء والأملاح المعدنية.
4-الساق	2	أنابيب تنقل السكر من الأوراق إلى أجزاء النبات.
5- الورقة	1	أنابيب تنقل الماء والأملاح المعدنية من الجذور للأوراق.

(ج) اكتبي مراحل التحول الكامل:

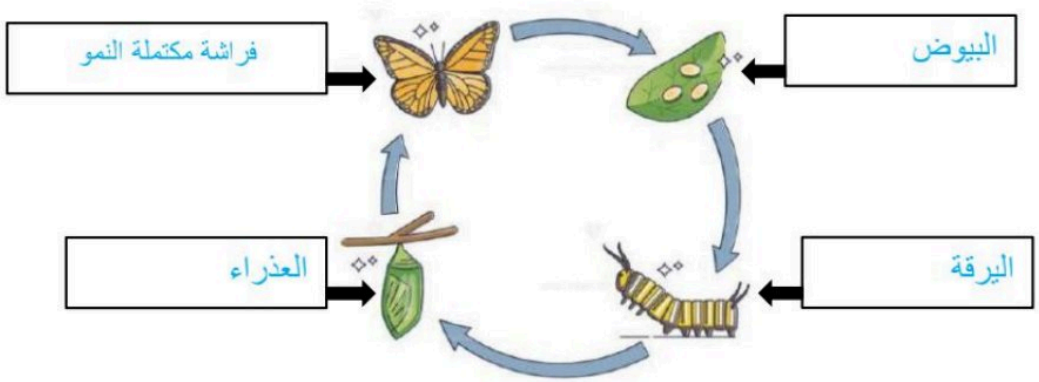

♥ انتهت الأسئلة طالبتي الجميلة ♥
مع تمنياتي لكِ بدوام التوفيق والنجاح

موقع منهجي
mnhaji.com

	المادة : علـوم التاريخ : الصف : الخامس الابتدائي الزمن : ساعتان

أسم الطالب :.....	رقم الجلوس	.....

اختبار مادة (العلوم) (الدور الأول) الفصل الدراسي الأول للعام الدراسي ١٤٤٨هـ

الدرجة رقماً		الدرجة كتابتاً		أسم المصحح	التوقيع	أسم المراجع	التوقيع
				سلطان الزهراني			

السؤال الأول : اختر الإجابة الصحيحة من بين ما يلي :-

١٠

١-	تتكاثر الهيدرا لا جنسياً فيما يلي :							
أ-	التبرعم	ب-	الانشطار	ج-	الانقسام	د-	التكاثر الخضري
٢-	من الأمثلة على التحول الناقص :							
أ-	الجرادة	ب-	الأسد	ج-	القراشة	د-	النحلة
٣-	لا يمكن تصنيفها ضمن الممالك الست :							
أ-	الفيروسات	ب-	الحيوانات	ج-	النباتات	د-	الفطريات
٤-	أصغر مستوى من مستويات التصنيف هو							
أ-	النوع	ب-	الرتبة	ج-	الطائفة	د-	الجنس
٥-	تحول المادة من الحالة الغازية للحالة السائلة:							
أ-	التكثف	ب-	الهطول	ج-	البرد	د-	التبخر
٦-	هي الجزء الأنثوي في الزهرة:							
أ-	السبلة	ب-	البتلة	ج-	السداة	د-	الكربلة
٧-	انتقال الكربون بين المخلوقات الحية بشكل مستمر هو دورة :							
أ-	النيتروجين	ب-	الماء	ج-	الحياة	د-	الكربون
٨-	تعيش الفطريات في الأماكن :							
أ-	الباردة	ب-	الحارة	ج-	الجافة	د-	الرطبة
٩-	من النباتات اللاوعائية :							
أ-	الشيح	ب-	الطلح	ج-	الصنوبر	د-	الحزازيات
١٠-	علاقة يستفيد فيها أحد الطرفين دون أن يضر الطرف الأخر :							
أ-	التطفل	ب-	المنفعة	ج-	التكافل	د-	التعايش

٣٠

أ/ ضع علامة (√) أمام العبارة الصحيحة وعلامة (X) أمام العبارة الخاطئة في كل مما يلي :-

١	تعيش البكتريا البدائية في أقسى الظروف مثل قاع البحر	
٢	تحتوي الخلية النباتية على جدار خلوي وبلاستيدات خضراء	
٣	يتكون التعاقب الثانوي أسرع من التعاقب الأولي	
٤	النباتات معراه البذور لا تنبت لها أزهار	
٥	تسمى الحيوانات التي لها عمود فقري بالفقاريات	
٦	الأخصاب الداخلي يحدث خارج جسم الأنثى	
٧	تغير لون فرو الثعلب القطبي وسط الثلوج يسمى محاكاة	
٨	العلاقة بين الحشرات والزهرة علاقة تطفل	
٩	الكامبيوم يقوم بنقل الماء في النبات	
١٠	المياه المختزنة ضمن مسامات الصخور والتربة هي المياه السطحية	

ب / نصل العمود (أ) بما يناسبه من العمود (ب) :-

(أ)		(ب)
١- البتلات	.....	فقدان الماء في النبات من الثغور
٢- المملكة	.....	خليط من بقايا مخلوقات حية أو اجسامها بعد الموت
٣- الاخصاب	.....	ينقل السكر الذي يصنع في الاوراق إلى النبات
٤- اللحاء	.....	تتميز بألوانها الجميلة لجذب الحشرات
٥- الدبال	.....	المستوى التصنيفي الذي يضم أكبر عدد من المخلوقات الحية
٦- النتح	.....	اتحاد مشيج مذكر مع مشيج مؤنث

ج/ ما المصطلح العلمي المناسب للعبارات التالية :-

(المحاكاة , التصنيف , التحول , التكيف , التعاقب)

١-- (.....) عملية تحول نظام بيئي إلى نظام بيئي جديد ومختلف .

٢- (.....) خاصية تساعد المخلوق الحي على العيش في بيئته .

٣- (.....) سلسلة من مراحل النمو المميزة يختلف بعضها عن بعض .

٣- (.....) علم تقسيم المخلوقات الحية إلى مجموعات .

٥- (.....) تقليد مخلوق حي لمخلوق حي آخر بهدف أخافه أعدائه .

د / رتب الصور(بالأرقام) بحيث نحصل على الترتيب الصحيح للتحول الكامل :-



معلم المادة / سلطان

المادة : علوم	
التاريخ :	
الصف : الخامس الابتدائي	
الزمن : ساعة ونصف	

أسم الطالب :	رقم الجلوس	.....	

اختبار مادة (العلوم) (الدور الأول) الفصل الدراسي الأول للعام الدراسي ١٤٤٨ هـ

الدرجة رقماً		ال...	...م المراجع	التوقيع

نموذج الإجابة

السؤال الأول : اختر الإجابة الصحيحة من بين ما يلي :-

١٠

١-	تتكاثر الهيدرا لا جنسياً فيما يلي :							
أ-	التبرعم	ب-	الانشطار	ج-	الانقسام	د-	التكاثر الخضري	
٢-	من الأمثلة على التحول الناقص :							
أ-	الجرادة	ب-	الأسد	ج-	القراشة	د-	النحلة	
٣-	لا يمكن تصنيفها ضمن الممالك الست :							
أ-	الفيروسات	ب-	الحيوانات	ج-	النباتات	د-	الفطريات	
٤-	أصغر مستوى من مستويات التصنيف هو							
أ-	النوع	ب-	الرتبة	ج-	الطائفة	د-	الجنس	
٥-	تحول المادة من الحالة الغازية للحالة السائلة:							
أ-	التكثف	ب-	الهطول	ج-	البرد	د-	التبخر	
٦-	هي الجزء الأنثوي في الزهرة:							
أ-	السبلة	ب-	البتلة	ج-	السداة	د-	الكربلة	
٧-	انتقال الكربون بين المخلوقات الحية بشكل مستمر هو دورة :							
أ-	النيتروجين	ب-	الماء	ج-	الحياة	د-	الكربون	
٨-	تعيش الفطريات في الأماكن :							
أ-	الباردة	ب-	الحارة	ج-	الجافة	د-	الرطبة	
٩-	من النباتات اللاوعائية:							
أ-	الشيح	ب-	الطلح	ج-	الصنوبر	د-	الحزازيات	
١٠-	علاقة يستفيد فيها أحد الطرفين دون أن يضر الطرف الأخر :							
أ-	التطفل	ب-	المنفعة	ج-	التكافل	د-	التعايش	

موقع منهجي
mnhaji.com

٢٠

السؤال الثاني :

أ/ضع علامة (√) أمام العبارة الصحيحة وعلامة (X) أمام العبارة الخاطئة في كل مما يلي :-

١	تعيش البكتريا البدائية في أقسى الظروف مثل قاع البحر	√
٢	تحتوي الخلية النباتية على جدار خلوي وبلاستيدات خضراء	√
٣	يتكون التعاقب الثانوي أسرع من التعاقب الأولي	√
٤	النباتات معراه البذور لا تنبت لها أزهار	√
٥	تسمى الحيوانات التي لها عمود فقري بالفقاريات	√
٦	الأخصاب الداخلي يحدث خارج جسم الأنثى	X
٧	تغير لون فرو الثعلب القطبي وسط الثلوج يسمى محاكاة	X
٨	العلاقة بين الحشرات والزهرة علاقة تطفل	X
٩	الكامبيوم يقوم بنقل الماء في النبات	X
١٠	المياه المختزنة ضمن مسامات الصخور والتربة هي المياه السطحية	X

ج/ ما المصطلح العلمي المناسب للعبارات التالية :-

(المحاكاة , التصنيف , التحول , التكيف , التعاقب)

١-- (..... التعـاقب .....) عملية تحول نظام بيئي إلى نظام بيئي جديد ومختلف .

٢- (..... التكيـف .....) خاصية تساعد المخلوق الحي على العيش في بيئته .

٣- (.....التحـول .....) سلسلة من مراحل النمو المميزة يختلف بعضها عن بعض .

٣- (..... التصنيف .....) علم تقسيم المخلوقات الحية إلى مجموعات .

٥- (.....المحاكاة .....) تقليد مخلوق حي لمخلوق حي آخر بهدف أخافه أعدائه .

١٠

السؤال الثالث : أ / نصل العمود (أ) بما يناسبه من العمود (ب) :-

(أ)		(ب)
١- البتلات	٦	فقدان الماء في النبات من الثغور
٢- المملكة	٥	خليط من بقايا مخلوقات حية أو اجسامها بعد الموت
٣- الاخصاب	٤	ينقل السكر الذي يصنع في الاوراق إلى النبات
٤- اللحاء	١	تتميز بألوانها الجميلة لجذب الحشرات
٥- الدبال	٢	المستوى التصنيفي الذي يضم أكبر عدد من المخلوقات الحية
٦- النتح	٣	اتحاد مشيج مذكر مع مشيج مؤنث

ب / رتب الصور(بالأرقام) بحيث نحصل على الترتيب الصحيح للتحول الكامل :-



١



٢



٣



٤

انتهت الأسئلة،

موقع منهجي
mnhaji.com

الصف : الخامس ابتدائي
المادة : العلوم
الزمن : ساعة ونصف
عدد الأوراق:

اختبار نهاية الفصل الدراسي الأول لمادة العلوم للصف الخامس ابتدائي للعام الدراسي ١٤٤٨هـ الدور الأول

اسم الطالبة رباعيا		رقم الجلوس	

السؤال	الدرجة رقما	الدرجة كتابة	اسم المصححة وتوقيعها	اسم المدققة وتوقيعها	اسم المراجعة وتوقيعها
الأول					
الثاني					
الثالث					
الرابع					
المجموع	٤٠				

السؤال الأول : أ/ اكتبي المصطلح العلمي فيما يلي أمام ما يناسبه من العبارات (١٠)

(النتح - التصنيف - دورة الماء -
الموطن - الأنواع الرائدة - التبرعم)

١. علم تقسيم المخلوقات الحية إلى مجموعات بحسب درجة التشابه(.....)
٢. عملية فقد الماء عن طريق الثغور في أوراق النباتات (.....)
٣. الأنواع الأولى التي عاشت في منطقة لا حياة فيها (.....)
٤. حركة الماء المستمرة بين سطح الأرض والهواء (.....)
٥. مكان يعيش فيه المخلوق الحي ويحصل منه على الغذاء (.....)

ب/ فيما يلي ضعي علامة (✓) أمام العبارة الصحيحة و علامة (×) أمام العبارة الخاطئة

١. أصغر مستوى في تصنيف المخلوقات الحية هو النوع ( )
٢. التحول الكامل في دورة حياة بعض الحيوانات يمر بثلاث مراحل فقط ( )
٣. يكون الحيوان مهددا بالانقراض اذا كان قادرا على الدفاع عن نفسه ( )
٤. عندما يحرق الإنسان الوقود الأحفوري يعود الكربون المختزن فيه إلى الغلاف الجوي ( )
٥. الحيوانات التي تعيش في الماء انسيابية الشكل. ( )

← يتبع (١)

١٠

السؤال الثاني : أ/ اقرأي النص التالي ثم اجيبي عن المطلوب

ذات ليلة من ليالي الصيف أخذت رمال الصحراء الذهبية تبرد شيئا فشيئا، خرج الجربوع باحثا عن طعام يسد به جوعه ، وجد بعض البذور متناثرة بين شجيرات من نبات العاذر فأخذ يجمعها في همة، كان هناك حركة خفية تقترب منه وعندما تنبه الجربوع رأى ثعبانا لمعت حراشفه .

من النص السابق استخرجي نوعين من أنواع التكيف

(.....)

(.....)

ب) اكملي العبارة التالية بما يناسبها

تصنع النباتات غذاءها بنفسها من خلال عملية ..... والتي تتم في الأوراق ويعبر عنها بالمعادلة الكيميائية التالية /

ثاني أكسيد الكربون + ماء + طاقة ← ..... + أكسجين

ج)



الصورة أعلاه تمثل نظام بيئي , وفق ما تعلمتِ حددي مايلي:

جماعة حيوية / .....

عامل من العوامل المحددة الحيوية /

.....

عامل من العوامل المحددة اللاحيوية/

.....



في أثناء عملية التعاقب الأولي ما المراحل الثلاث التي تسبق المرحلة التي تظهر في الصورة؟

..... ،

..... ،

..... ،

أشجار

← يتبع (٢)

السؤال الثالث / اختاري الإجابة الصحيحة فيما يلي من بين الأقواس /

١٠

١. ١ ـ النباتات اللاوعائية تنمو في العادة قرب سطح الأرض لأنه ليس له

أ	أوعية لنقل الماء والغذاء	ب	غشاء لفقدان الماء
ج	أعضاء حس حقيقية	د	أوراق

٢- أي ممالك المخلوقات الحية يعيش افرادها في ظروف بيئية قاسية

أ	الفيروسات	ب	الطحالب
ج	البدائيات	د	النباتات

٣- تتشابه الفطريات والبكتيريا أنها

أ	عديدة الخلايا	ب	بعضها مفيد وبعضها ضار
ج	تصنع غذاؤها بنفسها	د	بعضها فقاري وبعضها لافقاري

٤- الخطوة الأولى في التكاثر الجنسية هي عملية

أ	الانقسام	ب	التبرعم
ج	النتح	د	الإخصاب

٥- جزء من نبات الفراولة يمكنه إنتاج نباتات جديدة دون بذور

أ	الساق	ب	الأوراق
ج	الرائحة	د	الأخشاب

٦ – لكل مخلوق حي دور خاص به يؤديه في مكان معين يسمى

أ	السعه التحملية	ب	التطفل
ج	الإطار البيئ	د	التكيف

٧ _ أي التكيفات التالية يعد تكيف سلوكي

أ	غطاء صلب للسلاحف	ب	هجرة الطيور
ج	رائحة كريهة لبعض النباتات	د	أرجل مسطحة لبعض الحيوانات

٨ - أي العمليات التالية تطلق غاز ثاني أكسيد الكربون

أ	البناء الضوئي , حرق الوقود	ب	البناء الضوئي , التنفس
ج	التنفس , التحلل	د	البناء الضوئي , التحلل

٩ - أي أجزاء الزهرة يشير إليه السهم



أ	الميسم	ب	القلم
ج	المتك	د	المبيض

١٠ - عن الطريق البرق والنشاط الكربوني يتم تثبيت غاز ..

أ	النيتروجين	ب	الهيليوم
ج	الماء	د	الاكسجين

يتبع (٣)

السؤال الرابع / أ)

١٠



١. اكتبي

المفردات التالية في المواضع المناسبة على الصورة أعلاه

(الخشب , اللحاء , الكامبيوم)

ب) قارني بين التكاثر الجنسي واللا جنسي من حيث عدد الآباء , خلط صفات الآباء في الأبناء

نوع التكاثر	عدد الآباء	خلط الصفات
تكاثر لاجنسي		
تكاثر جنسي		

ج) صنفي العلاقات بين المخلوقات التالية بحسب نوعها

١. العلاقة بين سمك القرش والريمورا. (.....)

٢. العلاقة بين الدودة الشريطية والقناة الهضمية في جسم الإنسان.(.....)

د) مثلي لما يلي

١. طريقة من طرق التكاثر اللاجنسي (.....)

٢. شكل من أشكال الهطول في دورة الماء (.....)

٣. أحداث طبيعية تغير الأنظمة البيئية (.....)

انتهت الأسئلة .. مع صادق أمنياتي لكن بالتوفيق وتحقق الأمنيات

(٤) معلمة المادة /

الصف : الخامس ابتدائي
المادة : العلوم
الزمن : ساعة ونصف
عدد الأوراق:

اختبار نهاية الفصل الدراسي الأول لمادة العلوم للصف الخامس ابتدائي للعام الدراسي ١٤٤٨هـ الدور الأول

نموذج الإجابة

السؤال	الدرجة رقما	الدرجة كتابة	اسم المصححة وتوقيعها	اسم المدققة وتوقيعها	اسم المراجعة وتوقيعها
الأول					
الثاني					
الثالث					
الرابع					
المجموع	٤٠				

السؤال الأول : أ/ اكتبي المصطلح العلمي فيما يلي أمام ما يناسبه من العبارات (١٠)

(النتح - التصنيف - دورة الماء - الموطن - الأنواع الرائدة - التبرعم)

١. علم تقسيم المخلوقات الحية إلى مجموعات بحسب درجة التشابه(.... التصنيف..)
٢. عملية فقد الماء عن طريق الثغور في أوراق النباتات (..... النتح)
٣. الأنواع الأولى التي عاشت في منطقة لا حياة فيها (الأنواع الرائدة)
٤. حركة الماء المستمرة بين سطح الأرض والهواء (دورة الماء)
٥. مكان يعيش فيه المخلوق الحي ويحصل منه على الغذاء (الموطن)

ب/ فيما يلي ضعي علامة (✓) أمام العبارة الصحيحة و علامة (×) أمام العبارة الخاطئة

١. أصغر مستوى في تصنيف المخلوقات الحية هو النوع (✓)
٢. التحول الكامل في دورة حياة بعض الحيوانات يمر بثلاث مراحل فقط (×)
٣. يكون الحيوان مهددا بالانقراض اذا كان قادرا على الدفاع عن نفسه (×)
٤. عندما يحرق الإنسان الوقود الأحفوري يعود الكربون المختزن فيه إلى الغلاف الجوي (✓)
٥. الحيوانات التي تعيش في الماء انسيابية الشكل. (✓)

يتبع (١) ←

موقع منهجي
mnhaji.com

السؤال الثاني : أ/ اقرأي النص التالي ثم اجيبي عن المطلوب

١٠

ذات ليلة من ليالي الصيف أخذت رمال الصحراء الذهبية تبرد شيئا فشيئا، خرج الجربوع باحثا عن طعام يسد به جوعه ، وجد بعض البذور متناثرة بين شجيرات من نبات العاذر فأخذ يجمعها في همة، كان هناك حركة خفية تقترب منه وعندما تنبه الجربوع رأى ثعبانا لمعت حراشفه .

من النص السابق استخرجي نوعين من أنواع التكيف

(التخفي تكيف سلوكي)

(النشاط الليلي تكيف سلوكي)

ب) اكملي العبارة التالية بما يناسبها

تصنع النباتات غذاءها بنفسها من خلال عملية ....البناء الضوئي.... والتي تتم في الأوراق ويعبر عنها بالمعادلة الكيميائية التالية /

ثاني أكسيد الكربون + ماء + طاقة ← .....سكر..... + أكسجين

ج)



الصورة أعلاه تمثل نظام بيئي , وفق ما تعلمتِ حددي مايلي:

جماعة حيوية / الغزلان.....

عامل من العوامل المحددة الحيوية /

الأعشاب الأشجار النباتات

عامل من العوامل المحددة اللاحيوية/

الماء التربة الهواء



في أثناء عملية التعاقب الأولي ما المراحل الثلاث التي تسبق المرحلة التي تظهر في الصورة؟

.....أشنات ،

..... أعشاب ،

..... شجيرات ،

أشجار

موقع منهجي
mnhaji.com

← يتبع (٢)

السؤال الثالث / اختاري الإجابة الصحيحة فيما يلي من بين الأقواس /

١٠

١. ١ – النباتات اللاوعائية تنمو في العادة قرب سطح الأرض لأنه ليس له

أ	أوعية لنقل الماء والغذاء	ب	غشاء لفقدان الماء
ج	أعضاء حس حقيقية	د	أوراق

٢- أي ممالك المخلوقات الحية يعيش افرادها في ظروف بيئية قاسية

أ	الفيروسات	ب	الطحالب
ج	البدائيات	د	النباتات

٣- تتشابه الفطريات والبكتيريا أنها

أ	عديدة الخلايا	ب	بعضها مفيد وبعضها ضار
ج	تصنع غذاؤها بنفسها	د	بعضها فقاري وبعضها لافقاري

٤- الخطوة الأولى في التكاثر الجنسية هي عملية

أ	الانقسام	ب	التبرعم
ج	النتح	د	الإخصاب

٥– جزء من نبات الفراولة يمكنه إنتاج نباتات جديدة دون بذور

أ	الساق	ب	الأوراق
ج	الرائحة	د	الأخشاب

٦ – لكل مخلوق حي دور خاص به يؤديه في مكان معين يسمى

أ	السعه التحملية	ب	التطفل
ج	الإطار البيئ	د	التكيف

٧ _ أي التكيفات التالية يعد تكيف سلوكي

أ	غطاء صلب للسلاحف	ب	هجرة الطيور
ج	رائحة كريهة لبعض النباتات	د	أرجل مسطحة لبعض الحيوانات

٨ - أي العمليات التالية تطلق غاز ثاني أكسيد الكربون

أ	البناء الضوئي , حرق الوقود	ب	البناء الضوئي , التنفس
ج	التنفس , التحلل	د	البناء الضوئي , التحلل

٩ - أي أجزاء الزهرة يشير إليه السهم



أ	الميسم	ب	القلم
ج	المتك	د	المبيض

١٠ - عن الطريق البرق والنشاط الكربوني يتم تثبيت غاز ..

أ	النيتروجين	ب	الهيليوم
ج	الماء	د	الاكسجين

يتبع (٣)

موقع منهجي
mnhaji.com

السؤال الرابع / أ)

١٠

١. اكتبي

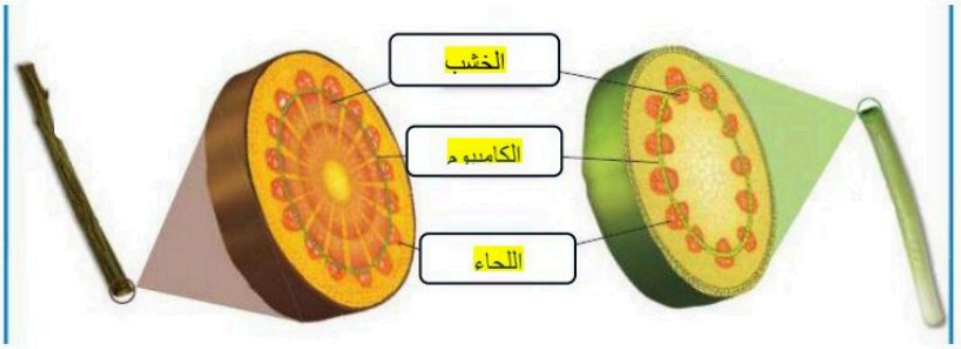

المفردات التالية في المواضع المناسبة على الصورة أعلاه

(الخشب , اللحاء , الكامبيوم)

ب) قارني بين التكاثر الجنسي واللا جنسي من حيث عدد الآباء , خلط صفات الآباء في الأبناء

نوع التكاثر	عدد الآباء	خلط الصفات
تكاثر لاجنسي	١	لايوجد
تكاثر جنسي	٢	نعم يوجد

ج) صنفي العلاقات بين المخلوقات التالية بحسب نوعها

١. العلاقة بين سمك القرش والريمورا. (علاقة تكافل تعايش.....)

٢. العلاقة بين الدودة الشريطية والقناة الهضمية في جسم الإنسان.(علاقة تطفل.....)

د) مثلي لما يلي

١. طريقة من طرق التكاثر اللاجنسي (الانقسام التبرعم التكاثر الخضري)

٢. شكل من أشكال الهطول في دورة الماء (الثلج البرد المطر ....)

٣. أحداث طبيعية تغير الأنظمة البيئية (الزلازل الفيضانات العواصف البراكين الجفاف)

انتهت الأسئلة .. مع صادق أمنياتي لكن بالتوفيق وتحقق الأمنيات

(٤) معلمة المادة /

موقع منهجي
mnhaji.com

		المادة: علوم الصف: الخامس الفصل الدراسي الأول - الدور الأول. الزمن: ساعة ونصف
اسم الطالب: ..... الدرجة كتابة :		الدرجة رقماً: ـــــــ ٤٠

ابدأ حلَّ الأسئلة مستعيناً بالله تعالى، مردِّداً: "اللهمَّ لا سهل إلا ما جعلته سهلاً، وأنت تجعل الحزن إذا شئت سهلاً"

١٨ /

السؤال الأول: ظلل الإجابة الصحيحة فيما يلي:

١. نباتات لا تنبت لها أزهار ولها بذور قاسية						
أ	معراة البذور	ب	مغطاة البذور	ج	الكامبيوم	
٢. تقوم بعملية البناء الضوئي لإنتاج الغذاء						
أ	الاوراق	ب	الساق	ج	الجذور	
٣. تفصل بين طبقتي الخشب واللحاء						
أ	الكامبيوم	ب	الجذور	ج	الجذور	
٤. مرحلة يحاط بها المخلوق الحي بشرنقة صلبة						
أ	العذراء	ب	الحورية	ج	اليرقة	
٥. من الأمثلة على التكيف التركيبي						
أ	خف الجمل	ب	هجرة الطيور	ج	تنقل الذئاب في مجموعات	
٦. أقصى عدد من أفراد الجماعة الحيوية يمكن للنظام البيئي دعمه						
أ	النظام البيئي	ب	الجماعة الحيوية	ج	السعة التحملية	
٧. خاصية تساعد المخلوق الحي على العيش في بيئتة						
أ	التموية	ب	التشابه	ج	التكيف	
٨. نوع العلاقة في الطائر والزهرة						
أ	تعايش	ب	تطفل	ج	تبادل منفعه	
٩. مياة تخزن في مسامات التربة والضحور						
أ	المياة السطحية	ب	المياة الجارية	ج	المياة الجوفية	

السؤال الثاني: تصنف المخلوقات الحية الى ست ممالك أذكرها ؟

٦/

اقلب الصفحة

السؤال الثالث: ضع علامة (√) إذا كانت الإجابة صحيحة، وعلامة (X) إذا كانت العبارة خاطئة فيما يلي: ١٠/

م	السؤال	العلامة
١	التعايش علاقة تسبب الضرر لأحد أطراف المخلوقات	
٢	النمر العربي من الحيوانات المهددة بالانقراض	
٣	النظام البيئي يتكون من عوامل حيوية وعوامل لا حيوية	
٤	المحاكاة هو تقليد مخلوق حي لمخلوق حي اخر بهدف تخويف أعداءه	
٥	أكبر شعب اللافقاريات هي شعبة المفصليات	
٦	التعاقب الثانوي يستغرق وقتا أقل من التعاقب الأولي	
٧	الموطن هو المكان الذي يعيش فيه المخلوق الحي ويحصل منه على غذاءه	
٨	تعد الثدييات الطائفة الأكثر شهرة في الفقاريات	
٩	النباتات الوعائية لها انابيب واوعية تنقل الماء والغذاء	
١٠	عندما يموت اخر مخلوق من النوع يصبح هذا النوع مهدد بالانقراض	

السؤال الرابع: اختر من العمود (أ) ما يناسبها من العمود (ب) فيما يلي : ٦/

(أ)	الحرف الصحيح	(ب)
١. الإخصاب		(أ) تعيش في الأماكن الرطبة
٢. التصنيف		(ب) أصغر مستوى من مستويات التصنيف
٣.الدبال		(ج) يقوم بتثبيت النبات في التربة
٤.الجذور		(د) خليط من بقايا مخلوقات حية بعد موتها وتحللها
٥.النوع		(هـ) علم قسّم المخلوقات الحية الى مجموعات
٦.الفطريات		(و) اتحاد مشيج مذكر مع مشيج مؤنث

انتهت الأسئلة

وفقك الله وسدد على درب الخير خطاك

معلم المادة / نوار العتيبي

# نموذج الإجابة	المادة: علوم الصف: الخامس الفصل الدراسي الأول - الدور الأول. الزمن: ساعة ونصف
اسم الطالب: ..... الدرجة كتابة : نموذج الاجابة	الدرجة رقماً: ـــــ ٤٠

ابدأ حلَّ الأسئلة مستعيناً بالله تعالى، مردِّداً: "اللهمَّ لا سهل إلا ما جعلته سهلاً، وأنت تجعل الحزن إذا شئت سهلاً"

السؤال الأول: ظلل الإجابة الصحيحة فيما يلي: لكل فقرة درجتين — ١٨ /

١. نباتات لا تنبت لها أزهار ولها بذور قاسية						
أ	معراة البذور	ب	مغطاة البذور	ج	الكامبيوم	
٢. تقوم بعملية البناء الضوئي لإنتاج الغذاء						
أ	الاوراق	ب	الساق	ج	الجذور	
٣. تفصل بين طبقتي الخشب واللحاء						
أ	الكامبيوم	ب	الجذور	ج	الجذور	
٤. مرحلة يحاط بها المخلوق الحي بشرنقة صلبة						
أ	العذراء	ب	الحورية	ج	اليرقة	
٥. من الأمثلة على التكيف التركيبي						
أ	خف الجمل	ب	هجرة الطيور	ج	تنقل الذئاب في مجموعات	
٦. أقصى عدد من أفراد الجماعة الحيوية يمكن للنظام البيئي دعمه						
أ	النظام البيئي	ب	الجماعة الحيوية	ج	السعة التحملية	
٧. خاصية تساعد المخلوق الحي على العيش في بيئتة						
أ	التموية	ب	التشابه	ج	التكيف	
٨. نوع العلاقة في الطائر والزهرة						
أ	تعايش	ب	تطفل	ج	تبادل منفعه	
٩. مياة تخزن في مسامات التربة والضحور						
أ	المياة السطحية	ب	المياة الجارية	ج	المياة الجوفية	

السؤال الثاني: تصنف المخلوقات الحية الى ست ممالك أذكرها ؟ لكل فقرة درجة — ٦/

موقع منهجي
mnhaji.com

اقلب الصفحة

السؤال الثالث: ضع علامة (√) إذا كانت الإجابة صحيحة، وعلامة (X) إذا كانت العبارة خاطئة فيما يلي: ١٠/

م	السؤال	العلامة
١	التعايش علاقة تسبب الضرر لأحد أطراف المخلوقات	×
٢	النمر العربي من الحيوانات المهددة بالانقراض	√
٣	النظام البيئي يتكون من عوامل حيوية وعوامل لا حيوية	√
٤	المحاكاة هو تقليد مخلوق حي لمخلوق حي اخر بهدف تخويف أعداءه	√
٥	أكبر شعب اللافقاريات هي شعبة المفصليات	√
٦	التعاقب الثانوي يستغرق وقتا أقل من التعاقب الأولي	√
٧	الموطن هو المكان الذي يعيش فيه المخلوق الحي ويحصل منه على غذاءه	√
٨	تعد الثدييات الطائفة الأكثر شهرة في الفقاريات	√
٩	النباتات الوعائية لها انابيب واوعية تنقل الماء والغذاء	√
١٠	عندما يموت اخر مخلوق من النوع يصبح هذا النوع مهدد بالانقراض	×

السؤال الرابع: اختر من العمود (أ) ما يناسبها من العمود (ب) فيما يلي : **لكل فقرة درجة** ٦/

(أ)	الحرف الصحيح	(ب)
١. الإخصاب	و	(أ) تعيش في الأماكن الرطبة
٢. التصنيف	هـ	(ب) أصغر مستوى من مستويات التصنيف
٣.الدبال	د	(ج) يقوم بتثبيت النبات في التربة
٤.الجذور	ج	(د) خليط من بقايا مخلوقات حية بعد موتها وتحللها
٥.النوع	ب	(هـ) علم قسّم المخلوقات الحية الى مجموعات
٦.الفطريات	أ	(و) اتحاد مشيج مذكر مع مشيج مؤنث

انتهت الأسئلة

وفقك الله وسدد على درب الخير خطاك

معلم المادة / نوار العتيبي

موقع منهجي
mnhaji.com

المادة : العلوم
الصف : الخامس
الزمن : ساعة ونصف
اليوم : .....
التاريخ : .....

اختبار مادة العلوم للصف الخامس الابتدائي
الفصل الدراسي الأول (الدور الأول) لعام ١٤٤٨هـ

الاسم: .....

س١	س٢	الدرجة	الدرجة كتابة	اسم المصححة	اسم المراجعة	اسم المدققة
٢٠	٢٠	٤٠	أربعون درجة فقط	التوقيع	التوقيع	التوقيع

السؤال الأول: ضعي علامة (√) أمام العبارة الصحيحة وعلامة (X) أما العبارة الخاطئة :

م	العبارة	الإجابة
١	تمتاز النباتات الوعائية بأنها تحتوي على أنابيب ناقلة	
٢	المملكة هي أكبر مستوى تصنيف للمخلوقات الحية وتضم مجموعة واسعة جدا من المخلوقات الحية	
٣	الساق اللينه مكونه من مادة الكلورفيل اما الساق الخشبيه مغطاة باللحاء	
٤	الخشب سلسلة من الانابيب تنقل الماء والاملاح المعدنيه تنقله في اتجاه واحد	
٥	معظم الطلائعيات وحيدة الخلية، ومعظم الفطريات تتكاثر لاجنسياً:	
٦	الخلايا الجنسية تؤدي الدور الأساسي في التكاثر الجنسي	
٧	الإخصاب هو الخطوة الأولى في التكاثر الجنسي	
٨	بعض العلاقات بين المخلوقات الحية تكون مفيدة لطرف ومضرة بالطرف الآخر تسمى علاقة التطفل	
٩	محاكاة الاشكال و الالوان الطبيعية في بيئتها بحيث يصعب تمييزها تسمى هذه العملية التمويه	
١٠	أول مرحلة في دورة الماء في على سطح الأرض هي تبخر الماء	
١١	عندما يموت اخر مخلوق من النوع ولم يعد له وجود على الارض يصبح هذا النوع منقرضا	
١٢	التعاقب الثانوي يستغرق وقتا أقل من التعاقب الأولي ؟	
١٣	عندما يموت آخر مخلوق من النوع يصبح هذا النوع مهدد بالانقراض	
١٤	تبدأ دورة الماء بتكثف الماء وتحوله من الحالة الغازية إلى الحالة السائلة ؟	
١٥	المياه التي تدخل إلى جوف الأرض تسمى مياه سطحية تختزن في مسامات التربة والصخور	
١٦	العلاقة بين مخلوقين سيتفيد أحدهما ويتضرر الآخر تعرف بعلاقة تبادل المنفعة	
١٧	لكل مخلوق حي دور خاص به يؤديه في مكان معين يسمى الموطن	
١٨	يقوم الساق بعملية البناء الضوئي	
١٩	من النباتات البذرية السرخسيات	
٢٠	تسمى الحيوانات التي لها عمود فقري لافقاريات	

السؤال الثاني: اختاري الاجابة الصحيحة:

١	المستوى التصنيفي الذي يصف أكبر عدد من مجموعات المخلوقات الحية يسمى:					
	أ	مملكة .	ب	شعبة.	ج	طائفة.
٢	أي المخلوقات الحية يتبع مملكة الفطريات ؟					
	أ	الخميرة	ب	الإسفنج	ج	الحصان
٣	أي الممالك التالية تضم مخلوقات تشبة النباتات، ومخلوقات تشبه الحيوانات في خواصها؟					
	أ	الطلائعيات	ب	البكتيريا.	ج	الفطريات.
٤	الخلية التي تحتوي على جدار خلوي هي الخلية					
	أ	النباتية	ب	الحيوانية	ج	الخلية النباتية والحيوانية
٥	اصغر مستوى يمكن تصنيف المخلوق الحي فيه					
	أ	النوع	ب	الشعبة	ج	المملكة
٦	تثبيت النبات في التربة، وتمتص الماء، والأملاح المعدنية من الأرض.					
	أ	الجذور	ب	الساق	ج	الأوراق
٧	تحمل الأوراق، والأزهار، وتنظم نقل الماء، والغذاء في النبات .					
	أ	الساق	ب	الجذور	ج	الأوراق
٨	تقوم بعملية مهمة في النبات، وهي عملية البناء الضوئي .					
	أ	الأوراق	ب	الجذور	ج	الساق
٩	الهيدرا مخلوق حي يتكاثر عن طريق.....					
	أ	التبرعم	ب	الإخصاب	ج	الانقسام
١٠	من خصائص التبرعم أن الأبناء...					
	أ	ينتجون عن أب واحد	ب	ينتجون عن بويضة مخصبة	ج	ينتجون عن أبوين اثنين
١١	تتنافس المخلوقات الحية باستمرار على الموارد ومنها					
	أ	ثاني أكسيد الكربون	ب	الماء	ج	الصخور
١٢	يسمى المكان الذي يعيش فيه المخلوق الحي ويحصل منه على غذائه					
	أ	التكيف	ب	الموطن	ج	التعايش
١٣	لكل مخلوق حي دور خاص يؤديه في موطن معين وضمن ظروف مناسبة يسمى بـ					
	أ	الموطن	ب	الإطار البيئي	ج	العامل المحدد
١٤	أرض واسعة يندر هطول الأمطار عليها					
	أ	الوادي	ب	الصحراء	ج	الشاطئ
١٥	أي مماليلي يعد تكيف تركيبي					
	أ	هجرة الطيور في جماعات	ب	حاسة الشم والاسنان القوية في سمك القرش	ج	هجوم الذئاب في جماعات
١٦	كيف يستطيع نبات الزنبق المائي التخلص من الأكسجين وأخذ ثاني أكسيد الكربون ؟					
	أ	توجد الثغور أسفل الورقة	ب	توجد الثغور على سطح الورقة	ج	لايمكنه تبادل الغازات
١٧	حيوانات ..... غالباً ما تنشط في الليل و تلزم مأواها في النهار لتفادي درجات الحرارة العالية					
	أ	المنطقة القطبية	ب	الصحراء	ج	البحار
١٨	من الحيوانات المنقرضة					
	أ	الطيور	ب	الدينصورات	ج	الأسود
١٩	تكون مجنمع جديد في منطقة تحتوي على مجتمع آخر قائم لم تدمره عناصره تماما يعرف ب:					
	أ	التعاقب الاولي	ب	التعاقب الثانوي	ج	مجتمع الذروة
٢٠	علاقة بين مخلوقين حيين يستفيد منها أحدهما دون أن يسبب أذى للآخر.					
	أ	علاقة التطفل.	ب	علاقة التعايش	ج	علاقة التكافل. علاقة التكافل.

انتهت الأسئلة ،،،،،، مع تمنياتي لكن بالتوفيق والنجاح ،،،،،، معلمة المادة /

نموذج الإجابة

المادة : العلوم
الصف : الخامس
الزمن : ساعة ونصف
اليوم : .....
التاريخ : .....

اختبار مادة العلوم للصف الخامس الابتدائي
الفصل الدراسي الأول (الدور الأول) لعام ١٤٤٨هـ

الاسم: .....

س١	س٢	الدرجة	الدرجة كتابة	اسم المصححة	اسم المراجعة	اسم المدققة
٢٠	٢٠	٤٠	أربعون درجة فقط	التوقيع	التوقيع	التوقيع

السؤال الأول: ضعي علامة (√) أمام العبارة الصحيحة وعلامة (X) أما العبارة الخاطئة :

م	العبارة	الإجابة
١	تمتاز النباتات الوعائية بأنها تحتوي على أنابيب ناقلة	√
٢	المملكة هي أكبر مستوى تصنيف للمخلوقات الحية وتضم مجموعة واسعة جدا من المخلوقات الحية	√
٣	الساق اللينه مكونه من مادة الكلورفيل اما الساق الخشبيه مغطاة باللحاء	√
٤	الخشب سلسلة من الانابيب تنقل الماء والاملاح المعدنيه تنقله في اتجاه واحد	√
٥	معظم الطلائعيات وحيدة الخلية، ومعظم الفطريات تتكاثر لاجنسياً:	√
٦	الخلايا الجنسية تؤدي الدور الأساسي في التكاثر الجنسي	√
٧	الإخصاب هو الخطوة الأولى في التكاثر الجنسي	√
٨	بعض العلاقات بين المخلوقات الحية تكون مفيدة لطرف ومضرة بالطرف الآخر تسمى علاقة التطفل	√
٩	محاكاة الاشكال و الالوان الطبيعية في بيئتها بحيث يصعب تمييزها تسمى هذه العملية التمويه	√
١٠	أول مرحلة في دورة الماء في على سطح الأرض هي تبخر الماء	√
١١	عندما يموت اخر مخلوق من النوع ولم يعد له وجود على الارض يصبح هذا النوع منقرضا	√
١٢	التعاقب الثانوي يستغرق وقتا أقل من التعاقب الأولي ؟	√
١٣	عندما يموت آخر مخلوق من النوع يصبح هذا النوع مهدد بالانقراض	×
١٤	تبدأ دورة الماء بتكثف الماء وتحوله من الحالة الغازية إلى الحالة السائلة ؟	×
١٥	المياه التي تدخل إلى جوف الأرض تسمى مياه سطحية تختزن في مسامات التربة والضخور	×
١٦	العلاقة بين مخلوقين سيتفيد أحدهما ويتضرر الآخر تعرف بعلاقة تبادل المنفعة	×
١٧	لكل مخلوق حي دور خاص به يؤديه في مكان معين يسمى الموطن	×
١٨	يقوم الساق بعملية البناء الضوئي	×
١٩	من النباتات البذرية السرخسيات	×
٢٠	تسمى الحيوانات التي لها عمود فقري لافقاريات	×

موقع منهجي
mnhaji.com

السؤال الثاني: اختاري الاجابة الصحيحة:

١	المستوى التصنيفي الذي يصف أكبر عدد من مجموعات المخلوقات الحية يسمى:					
	أ	مملكة.	ب	شعبة.	ج	طائفة.
٢	أي المخلوقات الحية يتبع مملكة الفطريات ؟					
	أ	الخميرة	ب	الإسفنج	ج	الحصان
٣	أي الممالك التالية تضم مخلوقات تشبة النباتات، ومخلوقات تشبه الحيوانات في خواصها؟					
	أ	الطلائعيات	ب	البكتيريا.	ج	الفطريات.
٤	الخلية التي تحتوي على جدار خلوي هي الخلية					
	أ	النباتية	ب	الحيوانية	ج	الخلية النباتية والحيوانية
٥	اصغر مستوى يمكن تصنيف المخلوق الحي فيه					
	أ	النوع	ب	الشعبة	ج	المملكة
٦	تثبيت النبات في التربة، وتمتص الماء، والأملاح المعدنية من الأرض.					
	أ	الجذور	ب	الساق	ج	الأوراق
٧	تحمل الأوراق، والأزهار، وتنظم نقل الماء، والغذاء في النبات .					
	أ	الساق	ب	الجذور	ج	الأوراق
٨	تقوم بعملية مهمة في النبات، وهي عملية البناء الضوئي .					
	أ	الأوراق	ب	الجذور	ج	الساق
٩	الهيدرا مخلوق حي يتكاثر عن طريق.....					
	أ	التبرعم	ب	الإخصاب	ج	الانقسام
١٠	من خصائص التبرعم أن الأبناء...					
	أ	ينتجون عن أب واحد	ب	ينتجون عن بويضة مخصبة	ج	ينتجون عن أبوين اثنين
١١	تتنافس المخلوقات الحية باستمرار على الموارد ومنها					
	أ	ثاني أكسيد الكربون	ب	الماء	ج	الصخور
١٢	يسمى المكان الذي يعيش فيه المخلوق الحي ويحصل منه على غذائه					
	أ	التكيف	ب	الموطن	ج	التعايش
١٣	لكل مخلوق حي دور خاص يؤديه في موطن معين وضمن ظروف مناسبة يسمى بـ					
	أ	الموطن	ب	الإطار البيئي	ج	العامل المحدد
١٤	أرض واسعة يندر هطول الأمطار عليها					
	أ	الوادي	ب	الصحراء	ج	الشاطئ
١٥	أي مماثلي يعد تكيف تركيبي					
	أ	هجرة الطيور في جماعات	ب	حاسة الشم والاسنان القوية في سمك القرش	ج	هجوم الذئاب في جماعات
١٦	كيف يستطيع نبات الزنبق المائي التخلص من الأكسجين وأخذ ثاني أكسيد الكربون ؟					
	أ	توجد الثغور أسفل الورقة	ب	توجد الثغور على سطح الورقة	ج	لايمكنه تبادل الغازات
١٧	حيوانات ..... غالباً ما تنشط في الليل و تلزم مأواها في النهار لتفادي درجات الحرارة العالية					
	أ	المنطقة القطبية	ب	الصحراء	ج	البحار
١٨	من الحيوانات المنقرضة					
	أ	الطيور	ب	الديناصورات	ج	الأسود
١٩	تكون مجتمع جديد في منطقة تحتوي على مجتمع آخر قائم لم تدمره عناصره تماما يعرف ب:					
	أ	التعاقب الاولي	ب	التعاقب الثانوي	ج	مجتمع الذروة
٢٠	علاقة بين مخلوقين حيين يستفيد منها أحدهما دون أن يسبب أذى للآخر.					
	أ	علاقة التطفل.	ب	علاقة التعايش	ج	علاقة التكافل. علاقة التكافل.

انتهت الأسئلة ،،،،،، مع تمنياتي لكن بالتوفيق والنجاح ،،،،،، معلمة المادة /

موقع منهجي
mnhaji.com

			السؤال	الدرجة		اسم المصححة وتوقيعها	اسم المراجعة وتوقيعها
				بالأرقام	بالحروف		
الاسم:		أسئلة مادة العلوم	الاول				
		الصف :خامس ابتدائي	الثاني				
			الثالث				
رقم الجلوس :		الفصل الدراسي الاول	الرابع				
الزمن :	ساعة ونصف	لعـ ١٤٤٧-١٤٤٨م هـ	المجموع				

السؤال الأول: (١١ درجه)

أختاري الإجابة الصحيحة :

١	مستوى التصنيف الذي يضم اكبر عدد من مجموعات المخلوقات الحيه		
	أ – مملكة	ب – شعبة	ج – طائفة
٢	اي المماليك التاليه تعيش افرادها في ظروف بيئيه قاسيه		
	أ –البكتيريا	ب – البدائيات	ج – الطلائعيات
٣	تسمى النباتات الزهريه		
	أ – مغطاة البذور	ب – معراة البذور	ج – ثغور
٤	تتكاثر البكتيريا عن طريق		
	أ – التبرعم	ب – الانقسام	ج – التحول
٥	انتقال حبوب اللقاح من الجزء الذكري الى الجزء الانثوي من زهره الى زهره اخرى يسمى		
	أ – تلقيح ذاتي	ب – تلقيح خلطي	ج – متك
٦	من الامثله على التكيف التركيبي		
	أ – خف الجمل	ب – هجرة الطيور	ج – تنقل الذئاب
٧	تسمى المياه التي تختزن في مسامات التربه والصخور		
	أ – السطحية	ب – الجارية	ج – الجوفية
٨	تحول الماده الماء من الحاله السائله للغازيه		
	أ – التكثف	ب – التبخر	ج – التجمد
٩	يسمى المرحله الاخيره من التعاقب		
	أ – التعاقب الاولي	ب – التعاقب الثانوي	ج – مجتكع الذروة
١٠	خليط من بقايا مخلوقات حيه او اجسامها بعد موتها وتحللها		
	أ – الدبال	ب – التعاقب	ج – الهطول

السؤال الثاني: **أ) املئي الفراغات التالية :** (١٦ درجه)

التصنيف - الكامبيوم - النباتات الوعائيه - التلقيح - الاخصاب - التكيف - الموطن - الجماعه الحيويه

١	..... انتقال حبوب اللقاح من السداة الى الكربلة
٢	..... اتحاد مشيج مذكر من الاب مع مشيج مؤنث من الام
٣	..... علم تقسيم المخلوقات الحيه الى مجموعات حسب التشابة
٤	..... تفصل بين طبقتي الخشب واللحاء
٥	..... نباتات لها انابيب واوعيه تنقل الماء والغذاء
٦	..... المكان الذي يعيش فيه المخلوق الحي ويحصل منه على الغذاء
٧	..... جميع افراد النوع الواحد الذي تعيش في النظام البيئي
٨	..... خاصيه تساعد المخلوق الحي على العيش في بيئته

ب) ضعي علامة (صح) أو (خطأ) أمام العبارات التالية:

١	الحيوانات التي لها عمود فقري تسمى فقاريات	( )
٢	التكاثر الجنسي هو انتاج مخلوقات جديده من اب واحد فقط	( )
٣	يمر التحول الكامل بثلاث مراحل فقط	( )
٤	يتكاثر النبات الفراوله عن طريق التبرعم	( )
٥	يوجد خلط في الصفات في التكاثر الجنسي	( )
٦	المياه التي لا تمتصها تربط التربة وتتدفق على شكل اوديه تسمى المياه الجاريه	( )
٧	الحيوانات المنقرضه هي التي لم يعد لها وجود على الارض	( )
٨	دوره الكربون هي حركه الماء المستمره بين سطح الارض والهواء	( )

السؤال الثالث: **صلي كل جهاز في العمود الاول بما يناسبه من الوظائف العمود الثاني : (٥ درجات)**

١	المياة السطحية	عمليه تغير النظام البيئي الى نظام بيئي جديد ومختلف
٢	التكثف	تحول الماده من الحاله الغازيه للحاله السائله
٣	التعاقب	مياه تتجمع تتجمع فوق سطح الارض
٤	دورة الكربون	علاقه بين مخلوقين حيين تكون مفيده لطرف ومضره للطرف الاخر
٥	التطفل	انتقال الكربون بين المخلوقات وغيرها باستمرار

السؤال الرابع : **عددي كلا مما يلي** **(٩ درجات)**

١) أشكال الهطول ..... و .....و .....

٢) أشكال الانقراض ..... و .....و .....

٣) الكوارث الطبيعية ..... و .....و .....

انتهت الأسئلة ، مع تمنياتي لكم بالتوفيق والنجاح ، الأستاذة : منى الخضراني