تم تحميل وعرض المادة من

موقع كتبي



www.kottby.net

موقع كتبي يعرض لكم الكتب الدراسية الطبعة الجديدة
وحلولها، وشرح للمناهج الدراسية، توزيع المناهج، تحاضير،
أوراق عمل، نماذج إختبارات عرض مباشر وتحميل PDF

حمل التطبيق من هنا

احصل عليه من AppGallery
تنزيل من App Store
احصل عليه من Google Play

أسئلة اختبار مادة الرياضيات الفصل الدراسي الأول للعام الدراسي ١٤٤٨ هـ
الصف الرابع الابتدائي

اسم الطالب/ ـة رباعيا	
رقم الجلوس	
اليوم	
التاريخ	... / ... / ١٤٤٨ هـ
زمن الاختبار	ساعتان

رقم السؤال	الدرجة رقما	الدرجة كتابة	
درجة السؤال الأول			
درجة السؤال الثاني			
درجة السؤال الثالث			
توقيع المصححة		المجموع النهائي	
توقيع المراجعه			٤٠

تعليمات الاختبارات :

١- الحضور للمدرسة مبكراً .

٢- الكتابة بالقلم الأزرق .

٣- يمنع استخدام الطامس منعًا باتًا .

٤- الالتزام بالهدوء داخل قاعة الاختبار .

٥- المحافظة على الكتب الدراسية و عدم رميها على الأرض .

٦- لا تترك سؤالاً بدون إجابة .

معلم/ـة المادة

١٣

السؤال الأول : أختار الإجابة الصحيحة فيما يأتي

١	القيمة المنزلية للرقم الذي تحته خط في العدد ١١٢٦٣٠					
	أ	٢٠٠٠	ب	٢٠٠٠٠٠٠٠٠	جـ	٢٠
٢	يكتب العدد (مئة وخمسة آلاف وستة وعشرين) بالصيغة القياسية					
	أ	١٠٥٠٢٦	ب	٦٢٥١	جـ	٥٢١٦٦٦٦
٣	يكتب العدد (٧٠٠٠ + ١٠٠٠٠ + ٦٠٠٠٠٠ + ٢٠٠٠٠٠٠) بالصيغة اللفظية					
	أ	مليونان وست مئةٍ وسبعة عشر ألفًا	ب	مئة ألف وستة وسبعين	جـ	ألف وسبعة وستون
٤	أقارن بين العددين ٥٠٤٠٢ ..... ٥٠٤٠٦					
	أ	>	ب	<	جـ	=
٥	تقريب العدد ٤٣٠٣٢ إلى أقرب عشرة آلاف					
	أ	٤٠٠٠٠	ب	٥٠٠٠٠٠٠	جـ	٣٠٠٠٠٠٠٠٠
٦	العدد المفقود في جملة الجمع (٥ + ...) + ٢ = ٥ + (٩ + ٢)					
	أ	٢	ب	٩	جـ	٠
٧	قاعدة الطرح المستعملة في جملة الطرح ١٥ - ٠ =١٥					
	أ	الإبدال	ب	الطرح من الصفر	جـ	التجميع
٨	تقدير ناتج الجمع ٢١ + ٧٣ ، إلى أقرب عشرة					
	أ	١٥٠	ب	٩٠	جـ	٥٠
٩	تقدير ناتج الطرح ١٥٦١ - ٣٠٥ ، إلى أقرب مئة					
	أ	٥٦٠٠	ب	١٣٠٠	جـ	٣٦٥
١٠	مع عائشة ٩٥ ريالًا ، إذا اشترت هديةً لأمها ب ٢٥ ريالًا ، يتبقى معها					
	أ	٤٠	ب	٧٠	جـ	٣٠
١١	ناتج ضرب ٣ × ٧٠٠٠					
	أ	٣٥٠٠٠	ب	٦٣٠٠٠	جـ	٢١٠٠٠
١٢	لدى سلوى ٢٠٠٤ مللترات من زيت الزيتون ، إذا ملأت علبة سعتها ١٨١٥ مللترًا ، يتبقى لديها من الزيت					
	أ	١٢	ب	٥٧٢١	جـ	١٨٩
١٣	إذا كان ثمن السيارة الجديدة ٨٤٦٠٠ وثمن السيارة المستعملة ٥٧٨٨٠ ، خالد سيوفر تقريبًا					
	أ	٦٠٠٠٠ - ٣٠٠٠٠ = ٣٠٠٠٠	ب	٩٠٠٠٠ - ٥٠٠٠٠ = ٤٠٠٠٠	جـ	٨٠٠٠ - ٦٠٠٠٠ = ٢٠٠٠٠

١٣

السؤال الثاني :

أضع علامة ✓ أمام العبارة الصحيحة وعلامة ✗ أمام العبارة الخاطئة

م	العبارة	العلامة
١	عندما نطرح نبدأ دائما في منزلة الآحاد	
٢	العدد الذي يجعل الجمله صحيحة (٢٣ + ... = ١٧ + ٢٣) هو العدد ٢٣	
٣	تكلفة شحن الكتاب الواحد ٤ ريالات ، فإن عدد الكتب التي يمكن شحنها بمبلغ ٣٢ ريال هو ٨ كتب	
٤	صندوق يحتوي ١٠ بطاقات مرقمة من ١- ١٠ ، سحبت بطاقة من الصندوق ، احتمال ظهور عدد أكبر من ١٠ هو احتمال مستحيل	
٥	٩.....٢ < ١١ ، الاشارة المناسبه لكي تكون الجمله صحيحة هي الطرح (-)	
٦	كتبت جمانة اليوم ٣ رسائل ، ورسالتين يوم أمس . العبارة المناسبه هي ٣ + ٢	
٧	مع سعاد الآن ٨ ريالات ، أعطاها والدها أمس ٤ ريالات وأعطت أخاها ريالين ، المبلغ الذي كان مع سعاد منذ البداية هو ٦ ريالات	
٨	قواسم العدد ٦ هي ١ ، ٢ ، ٣ ، ٦	
٩	المضاعفات الخمسه الأولى للعدد ٥ هي ٥ ، ١٠ ، ١٥ ، ٢٠ ، ٢٥	
١٠	كتب كل حرف من حروف كلمة (الرياضيات) على بطاقة احتمال اختيار بطاقة كتب عليها حرف (ن) هو مؤكد 	
١١	يقوم باسم بتوزيع ٤٠ صحيفة يوميا ، فإن ٩٠٠ هو تقدير معقول لعدد الصحف التي يوزعها باسم أسبوعيا	
١٢	ناتج ضرب ٤ × ٢١ هو ٩٦	
١٣	يتكون دفتر ملصقات من ٥ أوراق ، في كل ورقة ١٨ ملصقا . عدد الملصقات في الدفتر هو ٣٤١	

١٤

السؤال الثالث :

أ) أكمل الفراغات الآتيه بما يناسبها (درجة)

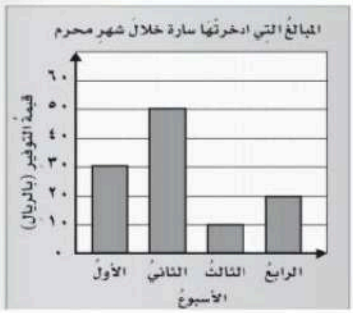

١/ يمثل التمثيل البياني المجاور المبالغ التي ادخرتها ساره خلال شهر محرم ، مالأسبوع الذي وفرت فيه ساره أكثر من ٤٠ ريال ؟ ..... وماهو الأسبوع الذي وفرت فيه ساره أقل من ١٥ ريال ؟ .....

القاعدةُ :				
المُدخَلة △	١	٢	٣	٤
المُخرَجة □	٣	٤	٥	■

٢/ اكتشف القاعدة ثم أكمل الجدول المجاور



٣/ التمثيل المجاور يبين وجبة الإفطار المفضلة ،
المشروب الأكثر تفضيلا لدى الطلاب هو .....
بينما المشروب الذي يمثل الجزء (ربع) هو .....

ب) أحل الأسئلة الآتيه (درجتان)

	٤٤			٦١١			
×	٢		×	٧			
	٥٧			١٣٥			
×	٢٥		×	١٨			

انتهت الأسئلة

موقع منهجي
mnhaji.com

نموذج الإجابة

أسئلة اختبار مادة الرياضيات الفصل الدراسي الأول للعام الدراسي ١٤٤٨ هـ
الصف الرابع الابتدائي

اسم الطالب/ ـة رباعيا	
رقم الجلوس	
اليوم	
التاريخ	... / ... / ١٤٤٨ هـ
زمن الاختبار	ساعتان

رقم السؤال	الدرجة رقما	الدرجة كتابة	
درجة السؤال الأول			
درجة السؤال الثاني			
درجة السؤال الثالث			
توقيع المصححة		المجموع النهائي	
توقيع المراجعه			٤٠

تعليمات الاختبارات :

١- الحضور للمدرسة مبكراً .

٢- الكتابة بالقلم الأزرق .

٣- يمنع استخدام الطامس منعًا باتًا .

٤- الالتزام بالهدوء داخل قاعة الاختبار .

٥- المحافظة على الكتب الدراسية و عدم رميها على الأرض .

٦- لا تترك سؤالاً بدون إجابة .

معلم/ـة المادة

السؤال الأول : أختار الإجابة الصحيحة فيما يأتي

١	القيمة المنزلية للرقم الذي تحته خط في العدد ١١٢٦٣٠ (٢٠٠٠)					
	أ	٢٠٠٠	ب	٢٠٠٠٠٠٠٠٠	جـ	٢٠
٢	يكتب العدد (مئة وخمسة آلاف وستة وعشرين) بالصيغة القياسية					
	أ	١٠٥٠٢٦	ب	٦٢٥١	جـ	٥٢١٦٦٦٦
٣	يكتب العدد (٧٠٠٠ + ١٠٠٠٠ + ٦٠٠٠٠٠ + ٢٠٠٠٠٠٠) بالصيغة اللفظية					
	أ	مليونان وست مئةٍ وسبعة عشر ألفًا (سبعة آلاف، عشرة آلاف، ستمئة ألف، مليونان)	ب	مئة ألف وستة وسبعين	جـ	ألف وسبعة وستون
٤	أقارن بين العددين ٥٠٤٠٢ ... ٥٠٤٠٦ (<)					
	أ	<	ب	>	جـ	=
٥	تقريب العدد ٤٣٠٣٢ إلى أقرب عشرة آلاف (≈ ٤٠٠٠٠) (بخيل)					
	أ	٤٠٠٠٠	ب	٥٠٠٠٠٠٠	جـ	٣٠٠٠٠٠٠٠٠
٦	العدد المفقود في جملة الجمع (٥ + ٩) + ٢ = ٥ + (٩ + ٢)					
	أ	٢	ب	٩	جـ	٠
٧	قاعدة الطرح المستعملة في جملة الطرح ١٥ - ٠ =١٥					
	أ	الإبدال	ب	الطرح من الصفر	جـ	التجميع
٨	تقدير ناتج الجمع ٢١ + ٧٣ ، إلى أقرب عشرة (≈ ٢٠ + ٧٠)					
	أ	١٥٠	ب	٩٠	جـ	٥٠
٩	تقدير ناتج الطرح ١٥٦١ - ٣٠٥ ، إلى أقرب مئة (١+)					
	أ	٥٦٠٠	ب	١٣٠٠	جـ	٣٦٥
١٠	مع عائشة ٩٥ ريالًا ، إذا اشترت هديةً لأمها ب ٢٥ ريالًا ، يتبقى معها					
	أ	٤٠	ب	٧٠	جـ	٣٠
١١	ناتج ضرب ٣ × ٧٠٠٠ = ٢١٠٠٠					
	أ	٣٥٠٠٠	ب	٦٣٠٠٠	جـ	٢١٠٠٠
١٢	لدى سلوى ٢٠٠٤ مللترات من زيت الزيتون ، إذا ملأت علبة سعتها ١٨١٥ مللترًا ، يتبقى لديها من الزيت					
	أ	١٢	ب	٥٧٢١	جـ	١٨٩
١٣	إذا كان ثمن السيارة الجديدة ٨٤٦٠٠ وثمن السيارة المستعملة ٥٧٨٨٠ ، خالد سيوفر تقريبًا ← نقرّب (١+) (≈ ٨٠٠٠٠) (≈ ٦٠٠٠٠)					
	أ	٦٠٠٠٠ - ٣٠٠٠٠ = ٣٠٠٠٠	ب	٩٠٠٠٠ - ٥٠٠٠٠ = ٤٠٠٠٠	جـ	٨٠٠٠٠ - ٦٠٠٠٠ = ٢٠٠٠٠

٩٥ − ٢٥ = ٧٠

طرح

طرح

خطأ مطبعي

١ ٩ ٩ ١٤
٢٠٠٤ −
١٨١٥
٠١٨٩

* تدرب على الترتيب العمودي في عمليتي الجمع والطرح .

موقع منهجي
mnhaji.com

١٣

السؤال الثاني :

أضع علامة ✓ أمام العبارة الصحيحة وعلامة ✗ أمام العبارة الخاطئة

م	العبارة	العلامة
١	عندما نطرح نبدأ دائما في منزلة الآحاد	✓
٢	العدد الذي يجعل الجمله صحيحة (٢٣ + .١٧ = ١٧ + ٢٣) هو العدد ٢٣ هو العدد ١٧	✗
٣	تكلفة شحن الكتاب الواحد ٤ ريالات ، فإن عدد الكتب التي يمكن شحنها بمبلغ ٣٢ ريال هو ٨ كتب ٨ كتب × ٤ ريالات = ٣٢ ريال	✓
٤	صندوق يحتوي ١٠ بطاقات مرقمة من ١- ١٠ ، سحبت بطاقة من الصندوق ، احتمال ظهور عدد أكبر من ١٠ هو احتمال مستحيل لا توجد بطاقات أكبر من ١٠ إذاً مستحيل .	✓
٥	٩.....٢ < ١١ ، الاشارة المناسبه لكي تكون الجمله صحيحة هي الطرح (-) ٧ < ١١ ✓	✓
٦	كتبت جمانة اليوم ٣ رسائل ، ورسالتين يوم أمس . العبارة المناسبه هي ٣ + ٢	✓
٧	مع سعاد الآن ٨ ريالات ، أعطاها والدها أمس ٤ ريالات وأعطت أخاها ريالين ، المبلغ الذي كان مع سعاد منذ البداية هو ٦ ريالات مع سعاد الآن ٨ = □ + ٤ - ٢ ، ٨ = ٦ + ٢	✓
٨	قواسم العدد ٦ هي ١ ، ٢ ، ٣ ، ٦ ٦ = ١×٦ ، ٢×٣ ← قواسم ٦ = ١ ، ٢ ، ٣ ، ٦	✓
٩	المضاعفات الخمسه الأولى للعدد ٥ هي ٥ ، ١٠ ، ١٥ ، ٢٠ ، ٢٥ ١×٥ ، ٢×٥ ، ٣×٥ ، ٤×٥	✓
١٠	كتب كل حرف من حروف كلمة (الرياضيات) على بطاقة احتمال اختيار بطاقة كتب عليها حرف (ن) هو مؤكد لا يوجد حرف (ن) في البطاقات ← إذا مستحيل 	✗
١١	يقوم باسم بتوزيع ٤٠ صحيفة يوميا ، فإن ٩٠٠ هو تقدير معقول لعدد الصحف التي يوزعها باسم أسبوعيا ٤٠ × ٧ = ٢٨٠ ٩٠٠ قيمة بعيدة عن ٢٨٠	✗
١٢	ناتج ضرب ٤ × ٢١ هو ٩٦ ٤ × ٢١ = ٨٤	✗
١٣	يتكون دفتر ملصقات من ٥ أوراق ، في كل ورقة ١٨ ملصقا . عدد الملصقات في الدفتر هو ٣٤١	✗

٤
١٨
٥ ×
٩٠

موقع منهجي
mnhaji.com

السؤال الثالث :

أ) أكمل الفراغات الآتيه بما يناسبها (درجة)



١/ يمثل التمثيل البياني المجاور المبالغ التي ادخرتها ساره خلال شهر محرم ، مالأسبوع الذي وفرت فيه ساره أكثر من ٤٠ ريال ؟ ..الأسبوع الثاني.. وماهو الأسبوع الذي وفرت فيه ساره أقل من ١٥ ريال ؟ ..الأسبوع الثالث..

٢/ اكتشف القاعدة ثم أكمل الجدول المجاور

القاعدة : ..... Δ + ٢ .....

المُدخلة △	١	٢	٣	٤
المُخرَجة □	٣	٤	٥	٦



٣/ التمثيل المجاور يبين وجبة الإفطار المفضلة ، المشروب الأكثر تفضيلا لدى الطلاب هو ..الحليب..
بينما المشروب الذي يمثل الجزء (ربع) هو ..عصير البرتقال..



← ربع القطاع الدائري

ب) أحل الأسئلة الآتيه (درجتان)

٤٤ × ٢ = ٨٨	٦١١ × ٧ = ٤٢٧٧
٥٧ × ٢٥ = ١٤٢٥ (٠٢٨٥ + ١١٤٠)	١٣٥ × ١٨ = ٢٤٣٠ (١٠٨٠ + ١٣٥٠)

انتهت الأسئلة

موقع منهجي
mnhaji.com

المادة	رياضيات
الصف	الرابع
الزمن	ساعتان

اختبار الفترة الدراسية الأولى

الدور الأول للعام ١٤٤٨هـ

معد الأسئلة		اليوم		التاريخ		درجة الاختبار	٤٠ درجة	
اسم الطالب		رقم الجلوس		رقم اللجنة	

السؤال الأول : إختر الإجابة الصحيحة فيما يلي : — درجة السؤال : عشر درجات لكل فقرة درجة

السؤال الأول : العدد التالي (٨٠٦ ٣٠٢) يكتب بالصيغة التحليلية

أ	٦ + ٨٠٠ + ٢٠٠٠ + ٣٠٠٠٠	ب	٦ + ٨٠ + ٢٠٠ + ٣٠٠٠	ج	٦ + ٨٠ + ٢ + ٣٠	د	٦ + ٨ + ٢ + ٣

السؤال الثاني : القيمة المنزلية للرقم الذي تحته خط (٨٠٦ ٣٠٢ ١)

أ	٣٠٠٠٠	ب	٣٠٠٠٠٠	ج	٣٠٠٠	د	٣٠٠

السؤال الثالث : الإشارة المناسبة لتكون الجملة التالية صحيحة (٩٠١٥ ◯ ٩١٠٥)

أ	=	ب	>	ج	<	د	#

السؤال الرابع : رتب الأعداد التالية من الأصغر إلى الأكبر : (٣٤٥٦ ، ٤٣٥٦ ، ٣٤٦٥ ، ٦٥٤٣)

أ	٣٤٥٦ ، ٤٣٥٦ ، ٣٤٦٥ ، ٦٥٤٣	ب	٦٥٤٣ ، ٤٣٥٦ ، ٣٤٦٥ ، ٣٤٥٦	ج	٣٤٦٥ ، ٣٤٥٦ ، ٤٣٥٦ ، ٦٥٤٣	د	٣٤٥٦ ، ٣٤٦٥ ، ٤٣٥٦ ، ٦٥٤٣

السؤال الخامس : العدد التالي : (٧٦٢١) مقرب إلى أقرب ألف .

أ	٧٦٢٠	ب	٧٦٠٠	ج	٨٠٠٠	د	٧٠٠٠

السؤال السادس : العدد المفقود و الخاصية المستخدمة لما يلي : (☐ + ٥ = ٥)

أ	صفر ، طرح صفر من العدد	ب	صفر ، العنصر المحايد	ج	صفر ، التجميع	د	صفر ، الإبدال

السؤال السابع : ناتج عملية الجمع التالية : (١٦٧ + ٧٢)

أ	٢٣٩	ب	١٣٩	ج	٢٤٠	د	٢٤٠

السؤال الثامن : قدر ناتج العملية بالتقريب إلى أقرب مئة : (٥٦١ + ٢٣١)

أ	٩٠٠	ب	٨٠٠	ج	٧٠٠	د	٦٠٠

السؤال العاشر : ناتج عملية الطرح التالي : (٧٠٧ — ٥٣٥)

أ	٢٣٢	ب	٢٧٢	ج	١٧٢	د	٢٧١

السؤال العاشر : زارت فاطمة حديقة الحيوانات مع أمها و أبيها ، فإذا كان ثمن تذكرة الدخول ٤ وبالات للكبار ، و ريالين للصغار ، فكم ريال دفع والد فاطمة ثمناً لتذاكر الدخول ؟

أ	٤	ب	٦	ج	٨	د	١٠

يتبع

السؤال الثاني : إختر الإجابة الصحيحة فيما يلي :								درجة السؤال : عشر درجات لكل فقرة درجة
١ - أي مما يلي ليست عبارة عددية								
أ	٢٨ - ٩ = ١٩	ب	١٧ + ٣	ج	٤١ + ٦٦	د	١٢ + ٢ + ٦	
٢ - أي مما يلي يمثل الجملة العددية بالرسم المجاور ؟ 								
أ	٦ + ١ = ٧	ب	٧ - ١ = ٦	ج	٥ + ١ = ٦	د	٧ - ٢ = ٥	
٣ - أوجد ناتج : (٥٠ × ٧٠٠ =)								
أ	١٢٠٠	ب	٣٥٠٠	ج	٣٥٠٠٠	د	١٥٠٠٠	
٤ - تقدير ناتج ضرب (٤ × ٤٣٢)								
أ	١٠٠٠	ب	١١٠٠	ج	١٢٠٠	د	١٦٠٠	
٥ - لعملية المناسبة التي تجعل الجمله العددية صحيحة (٩ ... ٢ < ١١)								
أ	=	ب	+	ج	−	د	×	
٦ - لدى منى ٣ ملفات : (أحمر ، أخضر ، أزرق) كم الطرق التي يمكن ترتيب الملفات فيها ؟								
أ	٥	ب	٦	ج	٧	د	٨	
٧ - مع سعاد ٨ ريالات ، أعطاها والدها أمس ٤ ريالات ، وأعطت أخاها ريالين ، كم كان معها بالبداية ؟								
أ	٦	ب	٧	ج	٨	د	٩	
٨ - ما الأسبوع الذي ظهر فيه زوار المعرض أقل 								
أ	الأول	ب	الثاني	ج	الثالث	د	الرابع	
٩ - إذا تم تدوير المؤشر فإن احتمال ظهور عدد فردي 								
أ	مستحيل	ب	أقل احتمالاً	ج	مؤكد	د	أكثر احتمالاً	
١٠ - من خصائص عملية الضرب :								
أ	التأخير	ب	التقديم	ج	الإبدال	د	المساواة	

يتبع

السؤال الثالث : ضع علامة (✓) بعد العبارة الصحيحة وعلامة (✗) بعد العبارة الخاطئة فيما يلي :		درجة السؤال : ثمان درجات لكل فقرة درجة
١	عندما نطرح نبدأ دائما في منزلة الآحاد	
٢	يستعمل التمثيل بالأعمدة ، ليوضح كيف تتغير مجموعة من البيانات مع مرور الزمن .	
٣	يمكن تنظيم البيانات في لوحة إشارات او جدول تكراري	
٤	صندوق يحتوي ١٠ بطاقات مرقمة من ١- ١٠ ، سحبت بطاقة من الصندوق ، احتمال ظهور عدد أكبر من ١٠ هو احتمال مستحيل	
٥	كتبت جمانة اليوم ٣ رسائل ، ورسالتين يوم أمس . العبارة المناسبه هي ٣ + ٢	
٦	عند كتابة العدد بالكلمات فإن هذه الطريقة تسمى الصيغة القياسية	
٧	نجد قيمة المخرجة باستعمال عكس قاعدة الدالة	
٨	لتسهيل قراءة العدد، فإننا نجزئ أرقامه من اليمين إلى اليسار، وتجعل كل ثلاث أرقام معاً لتشكيل ما يسمى دورة الأعداد	

السؤال الرابع : أجب عما يلي حسب المطلوب: درجة السؤال : أربع درجات لكل فقرة درجة

أ اكتشف القاعدة ثم طبقها لتكمل الجدول :

القاعدة :				
المدخلة ▲	٣	٦		٢٥
المخرجة □	٧	١٠	١٦	

ب يمشي محمد (٣٠) دقيقة في اليوم فكم دقيقة يمشي في (٧) أيام؟

.....

ج أوجد قواسم العدد ١٨ ؟

..... ، ..... ، ..... ، ..... ، ..... ، ..... .

د أوجد المضاعفات الخمسة الأولى للعدد ٧ ؟

..... ، ..... ، ..... ، ..... ، ..... .

السؤال الخامس : أوجد ناتج ما يلي : درجة السؤال : ثمان درجات لكل فقرة درجتان

٣٩٤ + ٨٤ =	٥٢٦ − ٤٠٣ =	٢٧ × ٣ =	١٠٦ × ١٢ =

موقع منهجي
mnhaji.com

المادة	رياضيات
الصف	الرابع
الزمن	ساعتان

اختبار الفترة الدراسية الأولى

الدور الأول للعام ١٤٤٨هـ

نموذج الإجابة

معد الأسئلة		درجة :	
اسم الطالب		رقم اللجنة	



السؤال الأول : إختر الإجابة الصحيحة فيما يلي :

السؤال الأول : العدد التالي (٣٠٢ ٨٠٦) يكتب بالصيغة التحليلية

أ	٦ + ٨٠٠ + ٢٠٠٠ + ٣٠٠٠٠	ب	٦ + ٨٠ + ٢٠٠ + ٣٠٠٠	ج	٦ + ٨٠ + ٢ + ٣٠	د	٦ + ٨ + ٢ + ٣

السؤال الثاني : القيمة المنزلية للرقم الذي تحته خط (١ ٣٠٢ ٨٠٦)

أ	٣٠٠٠٠	ب	٣٠٠٠٠٠	ج	٣٠٠٠	د	٣٠٠

السؤال الثالث : الإشارة المناسبة لتكون الجملة التالية صحيحة (٩٠١٥ ○ ٩١٠٥)

أ	=	ب	>	ج	<	د	#

السؤال الرابع : رتب الأعداد التالية من الأصغر إلى الأكبر : (٣٤٥٦ ، ٤٣٥٦ ، ٣٤٦٥ ، ٦٥٤٣)

أ	٣٤٥٦ ، ٤٣٥٦ ، ٣٤٦٥ ، ٦٥٤٣	ب	٦٥٤٣ ، ٤٣٥٦ ، ٣٤٦٥ ، ٣٤٥٦	ج	٣٤٦٥ ، ٣٤٥٦ ، ٤٣٥٦ ، ٦٥٤٣	د	٣٤٥٦ ، ٣٤٦٥ ، ٤٣٥٦ ، ٦٥٤٣

السؤال الخامس : العدد التالي : (٧٦٢١) مقرب إلى أقرب ألف .

أ	٧٦٢٠	ب	٧٦٠٠	ج	٨٠٠٠	د	٧٠٠٠

السؤال السادس : العدد المفقود و الخاصية المستخدمة لما يلي : (☐ + ٥ = ٥)

أ	صفر ، طرح صفر من العدد	ب	صفر ، العنصر المحايد	ج	صفر ، التجميع	د	صفر ، الإبدال

السؤال السابع : ناتج عملية الجمع التالية : (١٦٧ + ٧٢)

أ	٢٣٩	ب	١٣٩	ج	٢٤٠	د	٢٤٠

السؤال الثامن : قدر ناتج العملية بالتقريب إلى أقرب مئة : (٥٦١ + ٢٣١)

أ	٩٠٠	ب	٨٠٠	ج	٧٠٠	د	٦٠٠

السؤال العاشر : ناتج عملية الطرح التالي : (٧٠٧ — ٥٣٥)

أ	٢٣٢	ب	٢٧٢	ج	١٧٢	د	٢٧١

السؤال العاشر : زارت فاطمة حديقة الحيوانات مع أمها و أبيها ، فإذا كان ثمن تذكرة الدخول ٤ ريالات للكبار ، و ريالين للصغار ، فكم ريال دفع والد فاطمة ثمناً لتذاكر الدخول ؟

أ	٤	ب	٦	ج	٨	د	١٠

يتبع

موقع منهجي
mnhaji.com

السؤال الثاني : إختر الإجابة الصحيحة فيما يلي :

١ - أي مما يلي ليست عبارة عددية

الخيار (أ) لوجود علامة (=) فأصبحت جملة عددية .

أ	٢٨ - ٩ = ١٩	ب	١٧ + ٣	ج	٤١ + ٦٦	د	١٢ + ٢ + ٦

٢ - أي مما يلي يمثل الجملة العددية بالرسم المجاور ؟



أ	٦ + ١ = ٧	ب	٧ - ١ = ٦	ج	٥ + ١ = ٦	د	٧ - ٢ = ٥

٣ - أوجد ناتج : (٥٠ × ٧٠٠ = ٣٥٠٠٠)

أ	١٢٠٠	ب	٣٥٠٠	ج	٣٥٠٠٠	د	١٥٠٠٠

٤ - تقدير ناتج ضرب (٤ ٣٢ × ٤) ٤٠٠ × ٤

٤ × ٤٠٠ = ١٦٠٠

أ	١٠٠٠	ب	١١٠٠	ج	١٢٠٠	د	١٦٠٠

٥ - لعملية المناسبة التي تجعل الجمله العددية صحيحة (٩ ... ٢ < ١١)

لابد أن يكون الناتج أصغر

٧

أ	=	ب	+	ج	−	د	×

٦ - لدى منى ٣ ملفات : (أحمر ، أخضر ، أزرق) كم الطريق التي يمكن ترتيب الملفات فيها ؟

ح خ ز

نشيء قائمة منظمة

ح خ ز ، ح ز خ ، خ ح ز ، خ ز ح ، ز ح خ ، ز خ ح

أ	٥	ب	٦	ج	٧	د	٨

٧ - مع سعاد ٨ ريالات ، أعطاها والدها أمس ٤ ريالات ، وأعطت أخاها ريالين ، كم كان معها بالبداية ؟

مع سعاد الآن ٨ ريال

٨ = ☐ + ٤ − ٢

٨ = ٦ + ٢

إذاً كان مع سعاد ٦ ريالات في البداية .

٨ - ما الأسبوع الذي ظهر فيه زوار المعرض أقل



أ	الأول	ب	الثاني	ج	الثالث	د	الرابع

٩ - إذا تم تدوير المؤشر فإن احتمال ظهور عدد فردي

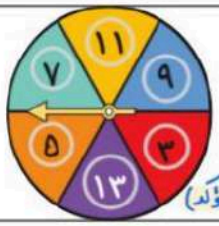

الأعداد الفردية هي الأعداد التي لا أستطيع تسميتها على العدد ٢ بالتساوي .

نلاحظ أن جميع الأعداد في المؤشر هي أعداد فردية إذاً (مؤكد)

أ	مستحيل	ب	أقل احتمالاً	ج	مؤكد	د	أكثر احتمالاً

١٠ - من خصائص عملية الضرب :

١ الإبدال

٣ خاصية العنصر المحايد

العنصر المحايد الضربي هو (١)

٣ التجميع

أ	التأخير	ب	التقديم	ج	الإبدال	د	المساواة

يتبع

السؤال الثالث : ضع علامة (✓) بعد العبارة الصحيحة وعلامة (✗) بعد العبارة الخاطئة فيما يلي : — درجة السؤال : ثمان درجات لكل فقرة درجة

١	عندما نطرح نبدأ دائما في منزلة الآحاد (الضرب والجمع والطرح) نبدأ من منزلة الآحاد	✓
٢	يستعمل التمثيل بالأعمدة ، ليوضح كيف تتغير مجموعة من البيانات مع مرور الزمن . التمثيل بالخطوط	✗
٣	يمكن تنظيم البيانات في لوحة إشارات او جدول تكراري	✓
٤	صندوق يحتوي ١٠ بطاقات مرقمة من ١- ١٠ ، سحبت بطاقة من الصندوق ، احتمال ظهور عدد أكبر من ١٠ هو احتمال مستحيل	✓
٥	كتبت جمانة اليوم ٣ رسائل ، ورسالتين يوم أمس . العبارة المناسبه هي ٣ + ٢	✓
٦	عند كتابة العدد بالكلمات فإن هذه الطريقة تسمى الصيغة القياسية كلمات ← لفظية — أرقام ← قياسية — جمع منازل ← تحليلية	✗
٧	نجد قيمة المخرجة باستعمال عكس قاعدة الدالة نجد قيمة المدخلة — راجع الأمثلة صفحة ١٢١	✗
٨	لتسهيل قراءة العدد، فإننا نجزئ أرقامه من اليمين إلى اليسار، وتجعل كل ثلاث أرقام معاً لتشكيل ما يسمى دورة الأعداد	✓

السؤال الرابع : أجب عما يلي حسب المطلوب: — درجة السؤال : أربع درجات لكل فقرة درجة

أ) اكتشف القاعدة ثم طبقها لتكمل الجدول :

القاعدة : ..... + ٤ ..... ٥

المدخلة ▲	٣	٦	١٢	٢٥
المخرجة □	٧	١٠	١٦	٢٩

(+٤) (+٤) (-٤) (+٤)

• العملية العكسية للجمع هي الطرح

ب) يمشي محمد (٣٠) دقيقة في اليوم فكم دقيقة يمشي في (٧) أيام؟

الحل : ٣٠ × ٧ = ٢١٠ ، إذاً يمشي في (٧) أيام ٢١٠ دقيقة

ج) أوجد قواسم العدد ١٨ ؟ — أي عددين أضربهما في بعض وحاصل الناتج ١٨ تعتبر هذه الأعداد قواسم للعدد ١٨ .

١٨ × ١ ، ٩ × ٢ ، ٦ × ٣

قواسم العدد ١٨ : (١ ، ٢ ، ٣ ، ٦ ، ٩ ، ١٨)

١ ، ٢ ، ٣ ، ٦ ، ٩ ، ١٨ .

د) أوجد المضاعفات الخمسة الأولى للعدد ٧ ؟

١× ، ٢× ، ٣× ، ٤× ، ٥×

٧ ، ١٤ ، ٢١ ، ٢٨ ، ٣٥ .

السؤال الخامس : أوجد ناتج ما يلي : — درجة السؤال : ثمان درجات لكل فقرة درجتان

١) ٣٩٤ + ٨٤ = ٤٧٨

٢) ٥٢٦ − ٤٠٣ = ١٢٣

٣) ٢٧ × ٣ = ٨١ — ٣×٢=٦ ، ٦+٢=٨

٤) ١٠٦ × ١٢ = ٢١٢ + ١٠٦٠ = ١٢٧٢ — صفر منزلة العشرات

موقع منهجي mnhaji.com

المادة / رياضيات
الصف / الرابع الابتدائي
الزمن / ساعتان
الفترة / الأولى

اختبار الفصل الدراسي الأول (الدور الأول) للعام الدراسي ١٤٤٨ هـ

الاسم/ ..... الفصل ..... رقم الجلوس .....

السؤال الأول	السؤال الثاني	السؤال الثالث	المجموع	الدرجة النهائية كتابة
٢٠	١٠	١٠	٤٠	

السؤال الأول : اختر الاجابة الصحيحة فيما يلي : ٢٠

١ ـ الصيغة التحليلية للعدد ٥٢٤٦٠ هي :

أ	٦٠+٤٠٠+٢٠٠٠+٥٠٠٠٠	ب	٦ + ٤ + ٢ + ٥	ج	٦+٤٠+٢٠٠+٥٠٠٠٠	د	٦٠+٤٠٠+٢٠٠+٥٠٠٠

٢ ـ للمقارنة بين ٣٠٤٩٩٩ ◯ ٣٠٥٠٤٩ استعمل :

أ	<	ب	>	ج	=	د	+

٣ ـ ثمن حاسوب ٢٩٦٠ ريال ، يقرب هذا العدد إلى أقرب ألف كالتالي :

أ	١٠٠٠	ب	٢٠٠٠	ج	٣٠٠٠	د	٥٠٠٠

٤ ـ إذا كان عامل يتقاضى ٢٠ ريال في الساعة ، فكم ساعة عليه أن يعمل ليتقاضى ١٢٠ ريال

أ	٦	ب	٨	ج	١٠	د	١٢

٥ ـ العدد الذي يجعل الجملة ٣ + (٤ + ٢) = (٣ +◯) + ٢ هو :

أ	٢	ب	٤	ج	٣	د	٥

٦ـ تقدير ناتج جمع ٥٤٥ + ٢٦٨ مقربًا لأقرب مئة هو

أ	٤٠٠	ب	٥٠٠	ج	٧٠٠	د	٨٠٠

٧ـ في مكتبة محمد ٤٩ كتابًا أضاف إليها ١١ كتاب فكم أصبح في مكتبته ؟

أ	٤٠	ب	٥٠	ج	٥٥	د	٦٠

٨ـ حدد المطلوب هل الاجابة الدقيقة أم التقدير ثم حل المسألة
مع والدة أمل ٩٧ ريال إذا اشترت ساعة وبقي معها ٣٢ ريال فكم ريال ثمن الساعة؟

أ	الإجابة الدقيقة ، ٦٥	ب	الإجابة الدقيقة ، ١٢٩	ج	التقدير ، ٦٠	د	التقدير ، ١٢٠

٩ ـ التمثيل الذي يستعمل لتوضيح كيف تتغير مجموعة من البيانات مع مرور الزمن هو ؟

أ	التمثيل بالأعمدة	ب	التمثيل بالخطوط	ج	التمثيل بالقطاعات الدائرية	د	التمثيل بالصور

١٠ـ أي مما يلي ليست عبارة عددية

أ	٤١ + ٦٦	ب	١٧ + ٣	ج	٢٨ ـ ١٩ = ٩	د	١٢ + ٦ + ٢

١١ ـ من خلال التمثيل المجاور،
اليوم الذي تم فيه قضاء وقت أقصر في حل واجب الرياضيات هو يوم

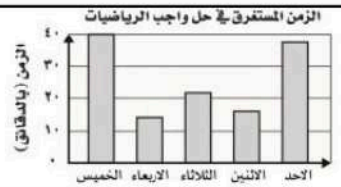

أ	الأحد	ب	الاثنين	ج	الثلاثاء	د	الأربعاء

١٢ ـ (لدى مزارع ٦ بقرات اذا باع ٣ منها فكم بقرة تتبقى لديه) الجملة العددية التي تمثل المسألة هي :

أ	٦ + ٣	ب	٦ + ٣ = ٩	ج	٦ ـ ٣ = ٣	د	٦ ـ ٣

١٣ـ قواسم العدد ١٥ هي ؟

أ	١ ، ٤ ، ٢ ، ١٥	ب	١ ، ٣ ، ٥ ، ١٥	ج	١ ، ٥ ، ١٠ ، ١٥	د	١ ، ٢ ، ٥ ، ١٠

١٤ـ لدى صيادين ٥ صناديق ، في كل صندوق ٩٠٠ طعم للسمك ، فكم طعما يوجد مع الصيادين ؟

أ	٤٥٠٠	ب	٥٤٠٠	ج	٣٥٠٠	د	٦٣٠٠

١٥ـ المضاعفات الثلاثة الأولى للعدد ٣ هي :

أ	٦ ، ١٠ ، ١٥	ب	٣ ، ٦ ، ٩	ج	٣ ، ٦ ، ١١	د	١ ، ٢ ، ٣

١٦ـ في غرفة الصف ٢٤ طاولة على كل طاولة كتابان ، ما عدد الكتب على الطاولات جميعها ؟

أ	٤٠	ب	٤٦	ج	٤٨	د	٥٠

١٧ـ يتكون دفتر ملصقات من ٥ أوراق في كل ورقة ١٢ ملصقًا فكم ملصقا في الدفتر ؟

أ	٢٠	ب	٣٠	ج	٥٠	د	٦٠

١٨ـ ناتج ضرب ١٢ × ٢٠ يساوي

أ	٢٤٠	ب	٢٠٠	ج	١٨٠	د	١٥٠

١٩ـ يجري خالد ٢٢ مكالمة كل اسبوع فكم مكالمة تقريبا يجري في ٣٢ اسبوع ؟

أ	١٠٠	ب	٢٠٠	ج	٣٠٠	د	٦٠٠

٢٠ ـ إذا كان ثمن الوجبة ١٤ ريال ، فما ثمن ١٢ وجبة ؟

أ	١٠٠	ب	١٢٠	ج	١٤٠	د	١٦٨

السؤال الثاني : أ) ضع علامة (✓) أمام العبارة الصحيحة وعلامة (✗) أمام العبارة الخاطئة فيما يلي : ٤

١ـ	القيمة المنزلية للرقم ٨ في العدد ١٨٧٦٥ هي ٨٠٠	
٢ـ	تسمى فرصة الحصول على ناتج الاحتمال	
٣ـ	يمثل العدد ٥ بالاشارات 𝍸	
٤ـ	الرسم المجاور يمثل الجملة العددية ٦ ـ ٢ = ٤ 	

موقع منهجي
mnhaji.com

ب) يبين الجدول المجاور المسافات التي تقطعها ٤ أنواع من الحيتان رتب هذه المسافات تصاعديًا

٢

الحوت	الأزرق	الرمادي	الاحدب	القاتل
المسافة (كلم)	١٦٠٠	١٢٥٠٠	٣٥٠٠	٨٠٠

.....

ج) أوجد ناتج مايلي :

٤

٣٨٤	١٥٢	١٣
٢٦٥ +	٢ ×	١٦ ×
———	———	———

السؤال الثالث : أجب عما يلي :

١٠

أ) نظم البيانات التالية في لوحة إشارات

١

الأدوات المدرسية المبيعة خلال ساعة	
الأدوات	التكرار
الممحاة	٥
المقص	١

الأدوات المدرسية المبيعة خلال ساعة	
الأدوات	الإشارات
الممحاة	
المقص	

ب) اذا تم تدوير المؤشر، صف احتمال كل من النواتج الآتية مستعملا الكلمات (مؤكد ، أكثر امكانية ، متساوي الامكانية ، أقل احتمال ، مستحيل)

٢

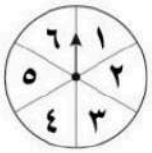

عدد أقل من ٥ : ..... عدد أكبر من ٦ .....

ج) عدد سور القرآن الكريم ١١٤ سورة حفظت فاطمة ٤٢ سورة ، كم عليها أن تحفظ لتتم حفظ القرآن كاملاً :

٢

.....

.....

د) أكمل الجدولين التاليين :

٢

القاعدة : △+ ٣				
المدخلة △	٤	٥	٦	٧
المخرجة □				

القاعدة : △× ٤				
المدخلة △	٢	٣	٤	٥
المخرجة □				

هـ) مع سعاد ٨ ريالات أعطاها والدها أمس ٤ ريالات، وأعطت أخاها ريالين . فكم ريالا كان معها في البداية؟

٢

.....

و) حل المسألة التالية باستعمال خط التمثيل :

١

يوجد في محفظة منصور ٥ أوراق نقدية قيمتها مجتمعة ٧٥ ريالاً . ماهذه الأوراق ؟

.....

.....

انتهت الأسئلة

مع أطيب الأمنيات لكم بالتوفيق والنجاح

معلم/ة المادة :

نموذج الإجابة

المادة / رياضيات
الصف / الرابع الابتدائي
الزمن / ساعتان
الفترة / الأولى

اختبار الفصل الدراسي الأول (الدور الأول) للعام الدراسي ١٤٤٨ هـ

الاسم/ ..... الفصل ..... رقم الجلوس .....

السؤال الأول	السؤال الثاني	السؤال الثالث	المجموع	الدرجة النهائية كتابة
٢٠	١٠	١٠	٤٠	

موقع منهجي
mnhaji.com

السؤال الأول : اختر الاجابة الصحيحة فيما يلي :

١ ـ الصيغة التحليلية للعدد ٥٢٤٦٠ هي :

أ	٦٠+٤٠٠+٢٠٠٠+٥٠٠٠٠	ب	٦ + ٤ + ٢ + ٥	ج	٦+٤٠+٢٠٠+٥٠٠٠٠	د	٦٠+٤٠٠+٢٠٠+٥٠٠٠

٢ ـ للمقارنة بين ٣٠٤٩٩٩ ⊘ ٣٠٥٠٤٩ استعمل :

أ	<	ب	>	ج	=	د	+

٣ ـ ثمن حاسوب ٢٩٦٠ ريال ، يقرب هذا العدد إلى أقرب ألف كالتالي : ٢٩٦٠ ≈ ٣٠٠٠

أ	١٠٠٠	ب	٢٠٠٠	ج	٣٠٠٠	د	٥٠٠٠

٤ ـ إذا كان عامل يتقاضى ٢٠ ريال في الساعة ، فكم ساعة عليه أن يعمل ليتقاضى ١٢٠ ريال

الساعات	١	٢	٣	٤	٥	٦
الريال	٢٠	٤٠	٦٠	٨٠	١٠٠	١٢٠

أ	٦	ب	٨	ج	١٠	د	١٢

٥ ـ العدد الذي يجعل الجملة ٣ + (٤ + ٢) = (٣ + ٤) + ٢ هو :

أ	٢	ب	٤	ج	٣	د	٥

٦ ـ تقدير ناتج جمع ٥٤٥ + ٢٦٨ مقربًا لأقرب مئة هو ٥٠٠ + ٣٠٠ = ٨٠٠

أ	٤٠٠	ب	٥٠٠	ج	٧٠٠	د	٨٠٠

٧ ـ في مكتبة محمد ٤٩ كتابًا أضاف إليها ١١ كتاب فكم أصبح في مكتبته ؟

أ	٤٠	ب	٥٠	ج	٥٥	د	٦٠

٨ ـ حدد المطلوب هل الاجابة الدقيقة أم التقدير ثم حل المسألة
مع والدة أمل ٩٧ ريال إذا اشترت ساعة وبقي معها ٣٢ ريال فكم ريال ثمن الساعة؟

بقي معها ٣٢ ريال ← إذاً المطلوب الإجابة الدقيقة : .
نوجد السعر = ٩٧ - ٣٢ = ٦٥ ريال

أ	الإجابة الدقيقة ، ٦٥	ب	الإجابة الدقيقة ، ١٢٩	ج	التقدير ، ٦٠	د	التقدير ، ١٢٠

٩ ـ التمثيل الذي يستعمل لتوضيح كيف تتغير مجموعة من البيانات مع مرور الزمن هو ؟

أ	التمثيل بالأعمدة	ب	التمثيل بالخطوط	ج	التمثيل بالقطاعات الدائرية	د	التمثيل بالصور

١٠ ـ أي مما يلي ليست عبارة عددية

إذا رجدت علامة = تسمى جملة عددية

أ	٤١ + ٦٦	ب	١٧ + ٣	ج	٢٨ - ١٩ = ٩	د	١٢ + ٦ + ٢

• التمثيل بالأعمدة : للمقارنة بين البيانات باستعمال أعمدة ذات أطوال مختلفة .

• التمثيل بالقطاعات الدائرية : للمقارنة بين البيانات كجزء من الكل باستعمال أجزاء من دائرة .

★ الفقرة ⑨ دائماً تتكرر في (٧) و (X) والإختيار من متعدد .

١١ ـ من خلال التمثيل المجاور،
اليوم الذي تم فيه قضاء وقت أقصر في حل واجب الرياضيات هو يوم



أ	الأحد	ب	الاثنين	ج	الثلاثاء	د	الأربعاء

١٢ ـ (لدى مزارع ٦ بقرات اذا باع ٣ منها فكم بقرة تتبقى لديه) الجملة العددية التي تمثل المسألة هي :

أ	٦ + ٣	ب	٦ + ٣ = ٩	ج	٦ ـ ٣ = ٣	د	٦ ـ ٣

١٣ـ قواسم العدد ١٥ هي ؟

أ	١ ، ٤ ، ٢ ، ١٥	ب	١ ، ٣ ، ٥ ، ١٥	ج	١ ، ٥ ، ١٠ ، ١٥	د	١ ، ٢ ، ٥ ، ١٠

١٤ـ لدى صيادين ٥ صناديق ، في كل صندوق ٩٠٠ طعم للسمك ، فكم طعما يوجد مع الصيادين ؟

أ	٤٥٠٠	ب	٥٤٠٠	ج	٣٥٠٠	د	٦٣٠٠

١٥ـ المضاعفات الثلاثة الأولى للعدد ٣ هي : ٣ = ٣ ، ٦ ، ٩

أ	٦ ، ١٠ ، ١٥	ب	٣ ، ٦ ، ٩	ج	٣ ، ٦ ، ١١	د	١ ، ٢ ، ٣

١٦ـ في غرفة الصف ٢٤ طاولة على كل طاولة كتابان ، ما عدد الكتب على الطاولات جميعها ؟ ٢٤ × ٢ = ٤٨

أ	٤٠	ب	٤٦	ج	٤٨	د	٥٠

١٧ـ يتكون دفتر ملصقات من ٥ أوراق في كل ورقة ١٢ ملصقًا فكم ملصقا في الدفتر ؟

أ	٢٠	ب	٣٠	ج	٥٠	د	٦٠

١٨ـ ناتج ضرب ١٢ × ٢٠ يساوي ٢٤٠

أ	٢٤٠	ب	٢٠٠	ج	١٨٠	د	١٥٠

١٩ـ يجري خالد ٢٢ مكالمة كل اسبوع فكم مكالمة تقريبا يجري في ٣٢ اسبوع ؟ تقرب ≈ ٢٠ × ٣٠ = ٦٠٠

أ	١٠٠	ب	٢٠٠	ج	٣٠٠	د	٦٠٠

٢٠ ـ إذا كان ثمن الوجبة ١٤ ريال ، فما ثمن ١٢ وجبة ؟

أ	١٠٠	ب	١٢٠	ج	١٤٠	د	١٦٨

السؤال الثاني : أ) ضع علامة (✓) أمام العبارة الصحيحة وعلامة (✗) أمام العبارة الخاطئة فيما يلي : ٤

١ـ	القيمة المنزلية للرقم ٨ في العدد ١٨٧٦٥ هي ٨٠٠	✗
٢ـ	تسمى فرصة الحصول على ناتج الاحتمال	✓
٣ـ	يمثل العدد ٥ بالاشارات ////	✓
٤ـ	الرسم المجاور يمثل الجملة العددية ٦ ـ ٢ = ٤	✓

موقع منهجي
mnhaji.com

تصاعدياً صه الأصغر للأكبر.

ب) يبين الجدول المجاور المسافات التي تقطعها ٤ أنواع من الحيتان رتب هذه المسافات تصاعديًا ٢

الحوت	الأزرق	الرمادي	الاحدب	القاتل
المسافة (كلم)	١٦٠٠	١٢٥٠٠	٣٥٠٠	٨٠٠

٨٠٠ ، ١٦٠٠ ، ٣٥٠٠ ، ١٢٥٠٠

ج) أوجد ناتج مايلي : ٤

٣٨٤ + ٢٦٥ = ٦٤٩

١٥٢ × ٢ = ٣٠٤

١٣ × ١٦ = ١٣٠ + ٧٨ = ٢٠٨

السؤال الثالث : أجب عما يلي : ١٠

أ) نظم البيانات التالية في لوحة إشارات ١

الأدوات المدرسية المبيعة خلال ساعة	
الأدوات	التكرار
الممحاة	٥
المقص	١

الأدوات المدرسية المبيعة خلال ساعة	
الأدوات	الإشارات
الممحاة	𝍸
المقص	|

ب) اذا تم تدوير المؤشر، صف احتمال كل من النواتج الآتية مستعملا الكلمات (مؤكد ، أكثر امكانية ، متساوي الامكانية ، أقل احتمال ، مستحيل) ٢



عدد أقل من ٥ : أكثر امكانية عدد أكبر من ٦ ..... مستحيل لا يوجد في المؤشر

٤ أعداد منه ٦ أعداد أكثر من نصف العدد

ج) عدد سور القرآن الكريم ١١٤ سورة حفظت فاطمة ٤٢ سورة ، كم عليها أن تحفظ لتتم حفظ القرآن كاملاً : ٢

نطرح : ١١٤ - ٤٢ = ٧٢

إذاً عليها أن تحفظ ٧٢ سورة

د) أكمل الجدولين التاليين : ٢

انتبه للقاعدة

القاعدة : △ + ٣

المدخلة △	٤	٥	٦	٧
المخرجة □	٧	٨	٩	١٠

٤+٣ ، ٥+٣ ، ٦+٣ ، ٧+٣

القاعدة : △ × ٤

المدخلة △	٢	٣	٤	٥
المخرجة □	٨	١٢	١٦	٢٠

٢×٤ ، ٣×٤ ، ٤×٤ ، ٥×٤

هـ) مع سعاد ٨ ريالات أعطاها والدها أمس ٤ ريالات، وأعطت أخاها ريالين . ٢

فكم ريالا كان معها في البداية؟ مع سعاد الآن ٨ ريالات

٨ = □ + ٤ - ٢

٨ = □ + ٢

و) حل المسألة التالية باستعمال خط التمثيل : ١

٨ = ٦ + ٢ إذاً كان معها في البداية ٦ ريالات

يوجد في محفظة منصور ٥ أوراق نقدية قيمتها مجتمعة ٧٥ ريالاً . ماهذه الأوراق ؟

نرسم ٥ أوراق نقدية

ثم نوجد المبلغ ٧٥ ريالاً

٥٠ ، ١٠ ، ٥ ، ٥ ، ٥

انتهت الأسئلة

معلم/ة المادة :

موقع منهجي
mnhaji.com

اليوم :
التاريخ : / / ١٤٤٨ هـ
المادة : رياضيات
الزمن : ساعتان

اختبار الدور الأول للفترة الدراسية الأولى للعام الدراسي ١٤٤٧ / ١٤٤٨ هـ

اسم الطالب		الرابع الابتدائي	الفصل		رقم الجلوس	

		التصحيح			
رقم السؤال	الدرجة رقمًا	الدرجة كتابةً	المصحح	المراجع	المدقق
السؤال الأول					
السؤال الثاني					
السؤال الثالث					
السؤال الرابع					

		المجموع			
المجموع	الدرجة رقمًا	الدرجة كتابةً	جمعهُ	راجعهُ	دققهُ

معلم المادة /

مدير المدرسة /

راجع جميع اجاباتك، وحافظ على نظافة الورقة ، وترتيبها ، ووضوح الخط.

عدد الأسئلة **(٥)** عدد الصفحات (٤)

	موقع منهجي mnhaji.com	الاختبار النهائي للفصل الدراسي الأول ١٤٤٨هـ
		الدور: الأول
		المادة: رياضيات
		الصف: الرابع
		الزمن: ساعتان

	الدرجة رقما	الدرجة كتابة	اسم المعلم	التوقيع
المصحح				
المراجع				

اسم الطالب	.....	رقم الجلوس	.....	الصف / الرابع	.....

١٢

السؤال الأول : أ) اختر الإجابة الصحيحة فيما يلي :

١ - قيمة الرقم ٧ في العدد ٤٧٥٩٨١٣ هي :

أ	٧٠٠٠٠٠٠	ب	٧٠٠٠٠٠	ج	٧٠٠٠٠	د	٧٠٠٠

٢ - يكتب العدد (تسع ملايين وخمس مئة وأربعون ألف وست مئة واثنان وثلاثون) بالصيغة القياسية كالتالي :

أ	٩٥٦٤٣	ب	٩٥٤٦٣٢	ج	٩٥٤٠٦٣٢	د	٢٣٦٠٤٥٩

٣ - الخاصية المستعملة في الجملة العددية التالية ٢٥ + ١٨ = ١٨ + ٢٥ هي خاصية :

أ	الابدال	ب	التجميع	ج	العنصر المحايد	د	طرح عدد من نفسه

٤ - أي مما يلي يمثل الجملة العددية في الرسم المجاور؟ 

أ	٥ +٢ = ٧	ب	٥ -٢ = ٣	ج	٥ + ٢	د	٥ × ٢

٥ - عند تقريب العدد ٧٩١٢٧٥ إلى أقرب مئة ألف يصبح :

أ	٨٠٠٠٠	ب	٧٠٠٠٠	ج	٧٠٠٠٠٠	د	٨٠٠٠٠٠

٦ - تقدير ناتج جمع ٥٤٥ + ٢٦٨ مقربا إلى أقرب مئة هو:

أ	٤٠٠	ب	٥٠٠	ج	٦٠٠	د	٨٠٠

ب) ضع علامة (✓) أمام العبارة الصحيحة وعلامة (✗) أمام العبارة الخاطئة فيما يلي:

١- الرسم المجاور يمثل الجملة العددية ٤ + ١ = ٥  ( )

٢ - الخاصية المستعملة في ٦ + ٠ = ٦ هي خاصية العنصر المحايد . ( )

٣ - من قواعد الطرح الابدال ( )

٤ - يمثل العدد ٥ بالاشارات كالتالي 𝍸 ( )

٥ - الأعداد التالية مرتبة من الأصغر إلى الأكبر ١٢٣٧٨ ، ١٢٧٨٣ ، ١٢٨٧٣ ( )

٦ - الترتيب الصحيح للخطوات الأربع لحل المسألة هو : أفهم – حل – تحقق – خطط ( )

يتبع

٨

السؤال الثاني : أ) ضع إشارة (+ أو -) لتكون الجملة صحيحة:

١- ١١ > ٩ ◯ ٢ ٢- ٤٥ ◯ ٤٠ = ٥

ب) قواسم العدد ١٢ هي : .....

ج) المضاعفات الخمسة الأولى للعدد ٥ هي : .....

د) قارن بوضع الاشارة المناسبة < ، > ، =

١) ٣٤٧٣ ◯ ٣٤٧٢ ٢) ١٠٠٢٧٣٠١ ◯ ١٠٢٠٧٣٠

١٢

السؤال الثالث : أ) قدر ناتج الضرب :

١- ٣٦٧ × ١٧ = ... ٢- ٥٨٤ × ١٢ = ...

ب) أوجد ناتج الضرب مستعملاً الحساب الذهني :

١- ٣ × ٩٠٠ = ... ٢- ٢٠ × ٧٠٠ = ...

ج) أوجد ناتج العمليات التالية:

٢٥٣٤	٣٩٤	٢٠	١٣٢	٨٣١
+ ٦٤٨٠	+ ٨٤	× ٤	× ٥	× ٢٤
———	———	———	———	———

د) رتب الأعداد من الأصغر الى الأكبر

٢٩٨٣٧٩٣ ، ٥٣٧٠٨٥٥ ، ٥١٨٠٩٢٢ ، ١٩٤٢٢٧٤

..... ، ..... ، ..... ، .....

٨

السؤال الرابع : أ) إذا تم تدوير المؤشر فصف احتمال النواتج،

استعمل (مؤكد ، أكثر احتمال ، متساوي الامكانية ، أقل احتمال ، مستحيل)



١- عدد زوجي ..... ٢ - عدد فردي .....

٣ - عدد أقل من ١٠ ..... ٤ - عدد أكبر من ٨ .....

ب) أكمل الجدول التالي :

القاعدة : △ ÷ ٢				
المدخلة △	٨	١٠	١٢	١٤
المخرجة □				

تمت الأسئلة مع تمنياتي لكم بالتوفيق

معلم المادة : صلاح الحبرتي

موقع منهجي
mnhaji.com

اليوم :
التاريخ : / / ١٤٤٨ هـ
المادة : رياضيات
الزمن : ساعتان

اختبار الدور الأول للفترة الدراسية الأولى للعام الدراسي ١٤٤٧ / ١٤٤٨ هـ

اسم الطالب		الرابع الابتدائي	الفصل		رقم الجلوس	

رقم السؤال	الدرجة رقمًا	التصحيح: الدرجة كتابةً	التصحيح: المصحح	التصحيح: المراجع	التصحيح: المدقق
السؤال الأول					
السؤال الثاني					
السؤال الثالث					
السؤال الرابع					

نموذج الإجابة

المجموع	الدرجة رقمًا	المجموع: الدرجة كتابةً	جمعه	راجعه	دققه

معلم المادة /

مدير المدرسة /

راجع جميع اجاباتك، وحافظ على نظافة الورقة ، وترتيبها ، ووضوح الخط.

عدد الأسئلة (٥) عدد الصفحات (٤)

		الاختبار النهائي للفصل الدراسي الأول ١٤٤٨هـ
		الدور: الأول
		المادة: رياضيات
		الصف: الرابع
		الزمن: ساعتان

	الدرجة رقما	الدرجة كتابة	اسم المعلم	التوقيع
المصحح				
المراجع				

اسم الطالب	.....	رقم الجلوس	.....	الصف / الرابع	.....



١٢

السؤال الأول : أ) اختر الإجابة الصحيحة فيما يلي :

١ - قيمة الرقم ٧ في العدد ٤٧٥٩٨١٣ هي :

أ	٧٠٠٠٠٠٠	ب	٧٠٠٠٠٠	ج	٧٠٠٠٠	د	٧٠٠٠

٢ - يكتب العدد (تسع ملايين وخمس مئة وأربعون ألف وست مئة واثنان وثلاثون) بالصيغة القياسية كالتالي :

أ	٩٥٦٤٣	ب	٩٥٤٦٣٢	ج	٩٥٤٠٦٣٢	د	٢٣٦٠٤٥٩

٣ - الخاصية المستعملة في الجملة العددية التالية ٢٥ + ١٨ = ١٨ + ٢٥ هي خاصية :

أ	الابدال	ب	التجميع	ج	العنصر المحايد	د	طرح عدد من نفسه

٤ - أي مما يلي يمثل الجملة العددية في الرسم المجاور؟



أ	٥ +٢ = ٧	ب	٥ -٢ = ٣	ج	٥ + ٢	د	٥ × ٢

٥ - عند تقريب العدد ٧٩١٢٧٥ إلى أقرب مئة ألف يصبح :

أ	٨٠٠٠٠	ب	٧٠٠٠٠	ج	٧٠٠٠٠٠	د	٨٠٠٠٠٠

٦ - تقدير ناتج جمع ٥٤٥ + ٢٦٨ مقربا إلى أقرب مئة هو:

أ	٤٠٠	ب	٥٠٠	ج	٦٠٠	د	٨٠٠

ب) ضع علامة (✓) أمام العبارة الصحيحة وعلامة (✗) أمام العبارة الخاطئة فيما يلي:

١- الرسم المجاور يمثل الجملة العددية ٤ + ١ = ٥ (✗)

٢ - الخاصية المستعملة في ٦ + ٠ = ٦ هي خاصية العنصر المحايد . (✓)

٣ - من قواعد الطرح الابدال (✗)

٤ - يمثل العدد ٥ بالاشارات كالتالي 𝍸 (✓)

٥ - الأعداد التالية مرتبة من الأصغر إلى الأكبر ١٢٣٧٨ ، ١٢٧٨٣ ، ١٢٨٧٣ (✓)

٦ - الترتيب الصحيح للخطوات الأربع لحل المسألة هو : أفهم – حل – تحقق – خطط (✗)

يتبع

السؤال الثاني : أ) ضع إشارة (+ أو -) تتكون الجملة صحيحة:

٨

١- ١١ > ٩ (-) ٢ ٢- ٤٥ (-) ٤٠ = ٥

ب) قواسم العدد ١٢ هي : ١ ، ٢ ، ٣ ، ٤ ، ٦ ، ١٢

ج) المضاعفات الخمسة الأولى العدد ٥ هي : ٥ ، ١٠ ، ١٥ ، ٢٠ ، ٢٥

د) قارن بوضع الاشارة المناسبة < ، > ، =

١) ٣٤٧٣ (<) ٣٤٧٢ ٢) ١٠٢٧٣٠١ (>) ١٠٢٠٧٣٠

السؤال الثالث : أ) قدر ناتج الضرب :

١٢

١- ٣٦٧ × ١٧ = ٤٠٠ × ٢٠ = ٨٠٠٠ ٢- ٥٨٤ × ١٢ = ٦٠٠ × ١٠ = ٦٠٠٠

ب) أوجد ناتج الضرب مستعملاً الحساب الذهني :

١- ٣ × ٩٠٠ = ٢٧٠٠ ٢- ٢٠ × ٧٠٠ = ١٤٠٠٠

ج) أوجد ناتج العمليات التالية:

٨٣١	١٣٢	٢٠	٣٩٤	٢٥٣٤
× ٢٤	× ٥	× ٤	+ ٨٤	+ ٦٤٨٠
٣٣٢٤	٦٦٠	٨٠	٤٧٨	٩٠١٤

١٦٦٢٠ + ١٩٩٤٤

د) رتب الاعداد من الأصغر الى الأكبر

٢٩٨٢٧٩٣ ، ٥٣٧٠٨٥٥ ، ٥٨٨٠٩٢٢ ، ١٩٤٢٧٤

٢ ، ٤ ، ٣ ، ١

السؤال الرابع : أ) إذا تم تدوير المؤشر فصف احتمال النواتج،

٨



استعمل (مؤكد ، أكثر احتمال ، متساوي الامكانية ، أقل احتمال ، مستحيل)

١- عدد زوجي ..مؤكد.. ٢ - عدد فردي ..مستحيل..

٣ - عدد أقل من ١٠ ..أكثر احتمال.. ٤ - عدد أكبر من ٨ ..أقل احتمال..

ب) أكمل الجدول التالي :

القاعدة : △ + ٢				
المدخلة △	٨	١٠	١٢	١٤
المخرجة □	٤	٥	٦	٧

موقع منهجي
www.mnhaji.com

التاريخ : ___/___/١٤٤٨هـ

المادة : رياضيات الصف : الرابع ابتدائي

الزمن : ساعتان ونصف الفترة : _____

اختبار الدور الأول الفترة الدراسية الأولى لمادة الرياضيات للصف الرابع الابتدائي للعام الدراسي ١٤٤٨هـ

السؤال	السؤال (١)	السؤال (٢)	السؤال (٣)	المجموع	الدرجة كتابة
الدرجة					

المصحح	□	التوقيع		المراجع		التوقيع	

اسم الطالب	.....	الصف	الرابع (____)	رقم الجلوس	_____

● السؤال (١) | | ١٥

أ اختر الإجابة الصحيحة

١ القيمة المنزلية للرقم الذي تحته خط في العدد : ٩٢٦٧٩٤

أ	٩٠٠٠	ب	٩٠٠٠٠	جـ	٩٠٠٠٠٠

٢ يكتب العدد (٢٠٠٧) بالصيغة اللفظية :

أ	ألفين وسبعة	ب	ألفين وسبع مئة	جـ	ألفين وسبعين

٣ الصيغة القياسية للعدد (خمسة وعشرين ألفا وأربع مئة وثمانية) هي :

أ	٢٥٠٠٤٠٨	ب	٢٥٠٠٠٤٠٨	جـ	٢٥٤٠٨

٤ قارن باختيار الإشارة المناسبة (> ، < ، =) في ◯ : ٥٩٨٠ ◯ ٥٠٩٠

أ	<	ب	>	جـ	=

٥ قرّب العدد إلى أقرب قيمة منزلية معطاه : ٤٢٨٢ ، ألفٍ

أ	٥٠٠٠	ب	٤٠٠٠	جـ	٤٢٠٠

ب أوجد ناتج العمليات الآتية :

٣٩٤ + ٨٤ = _____

٦٠٤ − ٤٩٢ = _____

تابع باقي الأسئلة خلف الورقة

● السؤال (٢)

	١٠

أ استعمل التمثيل بالأعمدة المجاور للإجابة عن الأسئلة الآتية :

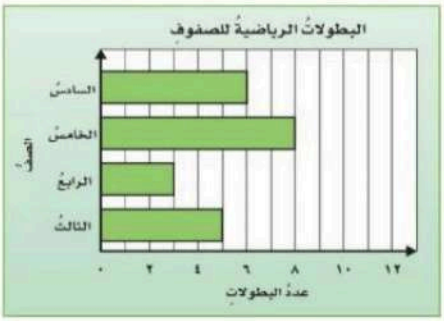

١ ما الصَّفُّ الذِي حصلَ علَى أكبرِ عددٍ منَ البطولاتِ؟ .....

٢ ما الصَّفُّ الذِي حصَلَ علَى ٣ بطولاتٍ؟ .....

٣ كمْ تزيدُ بطولاتُ الصَّفِّ الخامسِ على الصَّفِّ السادسِ؟

.....

ب إذا تم تدوير المؤشر ، فصف احتمال النواتج ، استعمل (مؤكد ، أكثر احتمالاً ، متساوي الإمكانية ، أقل احتمالاً ، مستحيل)



١ عددٌ فرديٌّ ..... ٢ عددٌ زوجيٌّ .....

٣ عددٌ أقلُّ من ٣ ..... ٤ الأعدادُ ٥ أوْ ١١ أوْ ١٣ .....

● السؤال (٣)

	١٥

أ ضع علامة (✓) أمام العبارة الصحيحة ، وعلامة (✗) أمام العبارة الخطأ :

		الإجابة
١	الجملة العددية هي عبارة تتضمن أعدادًا وإحدى الإشارات التالية : (> ، < ، =).	
٢	جميع قواسم العدد ٦ هي : ٢ ، ٣ فقط	
٣	المضاعفات الخمسة الأولى للعدد ٤ هي : ٤ ، ٨ ، ١٢ ، ١٦ ، ٢٠	
٤	مستعملاً الحساب الذهني ، فأن ناتج ٨ × ٦٠٠ = ٤٨٠٠	

ب أكمل كل جدولٍ فيما يلي :

القاعدة : △ ـ ٤				
المدخلة △	١٥	١٢	٩	٦
المخرجة □				

القاعدة : △ ÷ ٢				
المدخلة △	٨	١٠	١٢	١٤
المخرجة □				

جـ أوجد ناتج الضرب :

١٠٦
× ١٢

❖ انتهت الأسئلة ❖

(مع أطيب الدعوات لكم بالنجاح والتفوّق)

معلمة المادة

.....

موقع منهجي
mnhaji.com

نموذج الإجابة

التاريخ : ___/___/١٤٤٨هـ
المادة : رياضيات الصف : الرابع ابتدائي
الزمن : ساعتان ونصف الفترة : ____

اختبار الدور الأول الفترة الدراسية الأولى لمادة الرياضيات للصف الرابع الابتدائي للعام الدراسي ١٤٤٨هـ

السؤال	السؤال (١)	السؤال (٢)	السؤال (٣)	المجموع	الدرجة كتابة
الدرجة					

المصحح	□	التوقيع		المراجع		التوقيع	

اسم الطالب	.....	الصف	الرابع (____)	رقم الجلوس	_____

● السؤال (١) | ١٥ |

أ اختر الإجابة الصحيحة

١ القيمة المنزلية للرقم الذي تحته خط في العدد : ٩٢٦٧٩٤

أ	٩٠٠٠	ب	٩٠٠٠٠	جـ	٩٠٠٠٠٠

٢ يكتب العدد (٢٠٠٧) بالصيغة اللفظية :

أ	ألفين وسبعة	ب	ألفين وسبع مئة	جـ	ألفين وسبعين

٣ الصيغة القياسية للعدد (خمسة وعشرين ألفا وأربع مئة وثمانية) هي :

أ	٢٥٠٠٤٠٨	ب	٢٥٠٠٠٤٠٨	جـ	٢٥٤٠٨

٤ قارن باختيار الإشارة المناسبة (> ، < ، =) في ● : ٥٩٨٠ ● ٥٠٩٠

أ	<	ب	>	جـ	=

٥ قرّب العدد إلى أقرب قيمة منزلية معطاه : ٤٢٨٢ ، ألفٍ

أ	٥٠٠٠	ب	٤٠٠٠	جـ	٤٢٠٠

ب أوجد ناتج العمليات الآتية :

$$\begin{array}{r} {}^{1}3\,9\,4 \\ +\quad 8\,4 \\ \hline 4\,7\,8 \end{array}$$

$$\begin{array}{r} {}^{5}\cancel{6}\,{}^{10}\cancel{4} \\ -\quad 4\,9\,2 \\ \hline 1\,1\,2 \end{array}$$

موقع منهجي mnhaji.com

تابع باقي الأسئلة خلف الورقة

● السؤال (٢)

	١٠

أ استعمل التمثيل بالأعمدة المجاور للإجابة عن الأسئلة الآتية :

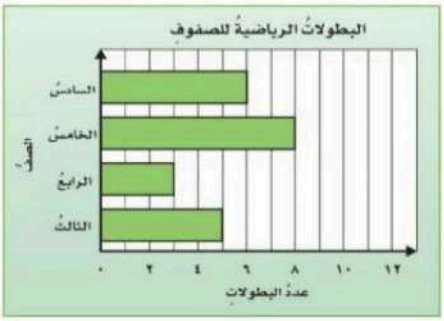

١ ما الصَّفُّ الذِي حصلَ علَى أكبرِ عددٍ منَ البطولاتِ؟ **الخامس**

٢ ما الصَّفُّ الذِي حصَلَ علَى ٣ بطولاتٍ؟ **الرابع**

٣ كمْ تزيدُ بطولاتُ الصَّفِّ الخامسِ على الصَّفِّ السادسِ؟

الزيادة = ٨ ـ ٦ = ٢ (بطولتين)

ب إذا تم تدوير المؤشر ، فصف احتمال النواتج ، استعمل (مؤكد ، أكثر احتمالاً ، متساوي الإمكانية ، أقل احتمالاً ، مستحيل)

١ عددٌ فرديٌّ **مؤكد**

٢ عددٌ زوجيٌّ **مستحيل**

٣ عددٌ أقلُّ من ٣ **مستحيل**

٤ الأعدادُ ٥ أوْ ١١ أوْ ١٣ **متساوي الإمكانية**



● السؤال (٣)

	١٥

أ	ضع علامة (✓) أمام العبارة الصحيحة ، وعلامة (✗) أمام العبارة الخطأ :	الإجابة
١	الجملة العددية هي عبارة تتضمن أعدادًا وإحدى الإشارات التالية : (> ، < ، =).	✓
٢	جميع قواسم العدد ٦ هي : ٢ ، ٣ فقط	✗
٣	المضاعفات الخمسة الأولى للعدد ٤ هي : ٤ ، ٨ ، ١٢ ، ١٦ ، ٢٠	✓
٤	مستعملاً الحساب الذهني ، فأن ناتج ٨ × ٦٠٠ = ٤٨٠٠	✓

ب أكمل كل جدولٍ فيما يلي :

القاعدة : △ ـ ٤				
المدخلة △	١٥	١٢	٩	٦
المخرجة □	١١	٨	٥	٢

القاعدة : △ ÷ ٢				
المدخلة △	٨	١٠	١٢	١٤
المخرجة □	٤	٥	٦	٧

جـ أوجد ناتج الضرب :

$$\begin{array}{r} {\scriptstyle 1}\\ 106 \\ \times\ 12 \\ \hline 212 \\ +\ 1060 \\ \hline 1272 \end{array}$$

❖ انتهت الأسئلة ❖

(مع أطيب الدعوات لكم بالنجاح والتفوّق)

معلمة المادة

.....

موقع منهجي
mnhaji.com

		المادة: رياضيات
		الصف : الرابع
		الزمن:
		التاريخ : / /

اختبار مادة الرياضيات الفصل الدراسي الأول للصف الرابع الابتدائي (الدور الاول) لعام ١٤٤٨هـ

اسم الطالبة رباعي :.....الصف : ..... رقم الجلوس:.....

السؤال	الدرجة رقماً	الدرجة كتابةً	اسم المصححة	التوقيع	اسم المراجعة	التوقيع	اسم المدققة	التوقيع
الأول								
الثاني								
المجموع								

معلمة المادة :

		المادة: رياضيات
		الصف: الرابع الابتدائي
		الزمن: ساعتان ونصف
		عدد الأوراق: ٥

الاختبار النهائي لمادة الرياضيات للصف الرابع الفصل الدراسي الأول من العام الدراسي ١٤٤٨هـ

الاسم	.....	الصف ٤ /.....	رقم الجلوس	

السؤال الأول: (أ) اختاري الإجابة الصحيحة لكل مما يلي:

١	القيمة المنزلية لرقم ٤ في العدد ٤٦٩٣٦٢١ هي:								٢٠
	أ	٤٠	ب	٤٠٠	ج	٤٠٠٠	د	٤٠٠٠٠٠	
٢	يقول سامي أن عنوان شارعه يحتوي الرقم ٣ في منزلة المئات ، أي مما يأتي يمثل عنوان الشارع:								
	أ	٣١٥٧	ب	٦٢٤٣	ج	٤٣٥٢	د	٢٤٣١	
٣	ما العدد الذي يقل عن ٢٩٥٦٧٨ بمقدار ٥٠٠٠٠:								
	أ	٢٤٥٦٧٨	ب	٢٣٥٦٧٨	ج	٢٥٥٦٧٨	د	٢٩١٦٧٨	
٤	الرقم الذي يجعل الجملة العددية التالية صحيحة ٨٢٣٥٩ > ٥٩□٨٢ هو								
	أ	٢	ب	٣	ج	٤	د	٥	
٥	خاصية الجمع المستعملة في ٧٤ + ٠ = ٧٤ هي:								
	أ	الإبدال	ب	التجميع	ج	العنصر المحايد	د	لا شيء مما سبق	
٦	٢ × ٤٠٠٠ =.....								
	أ	٨٠	ب	٨٠٠	ج	٨٠٠٠	د	٨٠٠٠٠	
٧	يأكل طائر صغير ١٤ دودة كل يوم ، فكم دودة يأكل في ٢٠ يومًا :								
	أ	١٠٠	ب	٢٨٠	ج	١٢٠	د	٢٠٠	
٨	وضع عمر كتبه في ١٠ صناديق في كل صندوق ١٠ كتب ، فكم كتابًا لديه :								
	أ	٢٠	ب	١٠	ج	١٠٠	د	٢٠٠	
٩	تقدير ناتج العملية ٤٧٥ - ٢٢٩ بتقريب الأعداد إلى أقرب مئة هو:								
	أ	١٠٠	ب	٢٠٠	ج	٣٠٠	د	٤٠٠	
١٠	أي العمليات التالية تجعل الجملة العددية التالية: ٤٥ □ ٤٠ = ٥ صحيحة؟								
	أ	+	ب	×	ج	—	د	÷	

يتبع

١١	ماناتج ٨٥٨٤ - ٣٤٤٢ =							
	أ	١٢٠٦٢	ب	١٠٣١٢	ج	٦١٢٤	د	٥١٤٢
١٢	مع أحمد ٨٠ ريالا ، اشترى كتابًا بمبلغ ٤٨ ريال ، و أقلامًا بمبلغ ١٣ ريال ، فكم ريالًا تقريبًا بقي معه ؟							
	أ	١٠ ريالات	ب	٢٠ ريالًا	ج	٣٠ ريالًا	د	٤٠ ريالًا
١٣	تبين لوحة الإشارات المجاورة عدد السيارات التي باعها أحد معارض السيارات ، ما اليومان الذي باع فيهما أقل عدد من السيارات ؟							
	أ	السبت والأربعاء	ب	الأحد والثلاثاء	ج	الأثنين والأربعاء	د	الثلاثاء والخميس
١٤	ما العدد الذي يكون من قواسم العدد ١٥ هو							
	أ	٢	ب	٣	ج	٤	د	٦
١٥	قدر ناتج ضرب ٢١٤ × ٣ = ...:							
	أ	٤٠٠	ب	٥٠٠	ج	٣٠٠	د	٦٠٠
١٦	من التمثيل بالقطاعات الدائرية المجاور الجزء الذي يمثل الرحلة الميدانية المفضلة لدى أكثر طلاب الصف الرابع هو:							
	أ	$\frac{١}{٤}$	ب	$\frac{١}{٢}$	ج	$\frac{١}{٣}$	د	$\frac{٣}{٤}$
١٧	اشترت مريم ١٦ قلادة ، أعطت ١٠ منها لصديقاتها ، كم قلادة بقيت معها؟ ما الجملة العددية التي توضح الحل							
	أ	١٦+١٠=٢٦	ب	١٤+١٠=٢٤	ج	١٦-١٠=٦	د	١٤-١٠=٤
١٨	وزع معلم طلاب الصف الرابع وعددهم ٢٥ طالبًا على ٥ فرق متساوية ، أي العبارات التالية يمثل عناصر الفريق؟							
	أ	٢٥ +٥	ب	٢٥ ÷ ٥	ج	٢٥ - ٥	د	٢٥ × ٥
١٩	أي الأعداد التالية من مضاعفات الرقم ٤							
	أ	٢ ، ٦ ، ٨	ب	٤ ، ٨ ، ١٢	ج	٦ ، ٨ ، ١٠	د	١٥ ، ١٦ ، ١٧
٢٠	كتبت عبير خمسة أعداد على السبورة ١٥ ، ١٢ ، ٩ ، ٦ ، ٣، أي مما يلي يصف القاعدة التي كتبت بها الأعداد							
	أ	اضافة ٤	ب	طرح ٣	ج	اضافة ٢	د	طرح ٢

السيارات المبيعة

اليوم	الإشارات
السبت	|||| ||||
الأحد	||||
الإثنين		||||
الثلاثاء	||||
الأربعاء	||| ||||

الرّحلات الميدانيّة المُفضّلة لطلاب الصّف الرّابع



يتبع

السؤال الثاني:

٢٠	أ) ضع كلمة (صح) أمام العبارة الصحيحة وكلمة (خطأ) أمام العبارة الخاطئة

١	٧٦١٠١ (>) ٧٧٠٠٠	
٢	عند تقريب العدد ٤٢٨٢ إلى أقرب ألف يكون الناتج ٤٠٠٠	
٣	لدى أحمد ٤ علب أقلام ، في كل علبة ٢٢ قلمًا ، فإن عدد أقلام أحمد ٨٠ قلمًا	
٤	يكتب العدد ٩ + ٢٠ + ٣٠٠ + ٧٠٠٠٠ بالصيغة القياسية ٧٣٢٩	
٥	ناتج ضرب ٤٥ × ٣ = ١٣٥	
٦	الأعداد التالية مرتبة تصاعديا ٣٩٢٧١ ، ٢٩٣٧١ ، ٧٣٩٢١	
٧	في ناتج ضرب ٥٠ × ٦٠ يوجد ثلاثة أصفار	
٨	من خلال التمثيل بالأعمدة ، فإن مقدار الماء الذي تستعمله الأسرة كل يوم هو ٣٠٠ 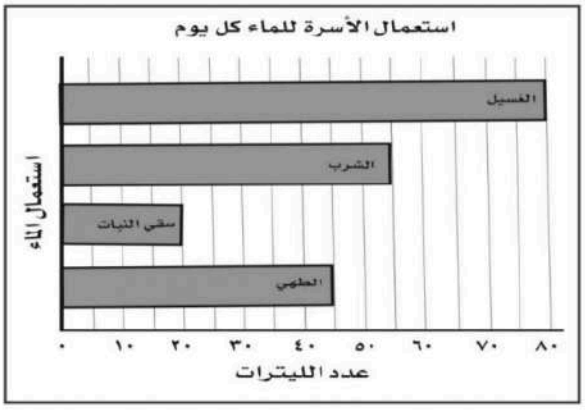	
٩	من خلال التمثيل بالخطوط المجاور ، نلاحظ أن خالد يقضي وقتًا أطول بمشاهدة التلفاز يوم الخميس 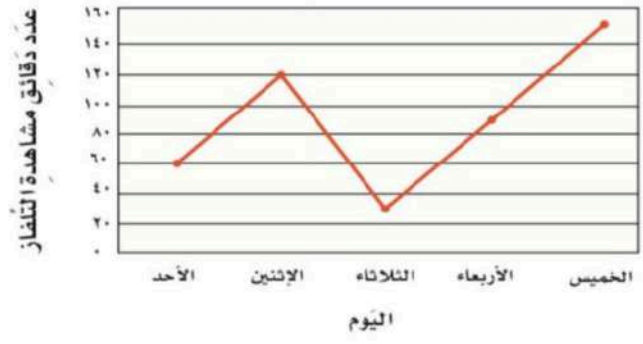	
١٠	قرأت فرح كتابًا مكون من ١٢ فصل ، يحتوي كل فصل ١٨ صفحة ، فإن العدد التقريبي لصفحات الكتاب هو ٢٠٠ صفحة	

موقع منهجي mnhaji.com

يتبع

موقع منهجي
mnhaji.com

ب: أجيب عما يلي :

أ

١- اكتب العدد ٣٧٤٢٦٣٥٥ بالصيغة اللفظية

.....

.....

٢- كان عدد زوار أحد المتاحف يوم الأربعاء ١٨٢٣ زائرًا ، ويوم الخميس ٢٥٤٣ زائرًا ، فما عدد الزوار في اليومين ؟

ب

أوجد ناتج الضرب :

$$\begin{array}{r} ٤٣ \\ \times\ ١٢ \\ \hline \end{array}$$

ج

استعمل مؤشر القرص الدوار لوصف الاحتمالات (مؤكد - أقل احتمالًا - أكثر احتمالًا - متساوي الامكانية - مستحيل):

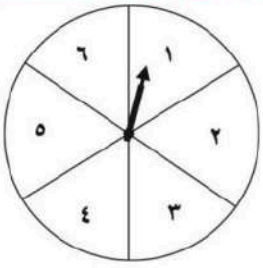

١) توقف المؤشر عند العدد ٥ .....

٢) توقف المؤشر عند العدد ١ أو ٢ أو ٣ .....

٣) توقف المؤشر عند عدد زوجي أو فردي .....

٤) توقف المؤشر عند العدد ٧ .....

د

اكمل الجداول التالية:

القاعدة: Δ + ٣	
المدخلة (Δ)	المخرجة (□)
٤	
٧	
١٠	
١٥	

القاعدة: Δ÷٥	
المدخلة (Δ)	المخرجة (□)
١٠	
١٥	
٢٠	
٢٥	

تمت الأسئلة أرجوا لكن التوفيق

		المادة: رياضيات
		الصف : الرابع
		الزمن:
		التاريخ : / /

نموذج الإجابة

اختبار مادة الرياضيات الفصل الدراسي الأول للصف الرابع الابتدائي (الدور الاول) لعام ١٤٤٨هـ

اسم الطالبة رباعي :.....الصف : ..... رقم الجلوس:.....

السؤال	الدرجة رقماً	الدرجة كتابةً	اسم المصححة	التوقيع	اسم المراجعة	التوقيع	اسم المدققة	التوقيع
الأول	٢٠	عشرون درجة						
الثاني	٢٠	عشرون درجة						
المجموع	٤٠	أربعون درجة						

معلمة المادة :

المادة: رياضيات	موقع منهجي mnhaji.com	
الصف: الرابع الابتدائي		
الزمن: ساعتان ونصف		
عدد الأوراق: ٥		

الاختبار النهائي لمادة الرياضيات للصف الرابع الفصل الدراسي الأول من العام الدراسي ١٤٤٨هـ

الاسم	الصف ٤ /.....	رقم الجلوس	

السؤال الأول: (أ) اختاري الإجابة الصحيحة لكل مما يلي: ٢٠

١	القيمة المنزلية لرقم ٤ في العدد ٤٦٩٣٦٢١ هي: ٢٠								
	أ	٤٠	ب	٤٠٠	ج	٤٠٠٠	د	٤٠٠٠٠٠	
٢	يقول سامي أن عنوان شارعه يحتوي الرقم ٣ في منزلة المئات ، أي مما يأتي يمثل عنوان الشارع:								
	أ	٣١٥٧	ب	٦٢٤٣	ج	٤٣٥٢	د	٢٤٣١	
٣	ما العدد الذي يقل عن ٢٩٥٦٧٨ بمقدار ٥٠٠٠٠:								
	أ	٢٤٥٦٧٨	ب	٢٣٥٦٧٨	ج	٢٥٥٦٧٨	د	٢٩١٦٧٨	
٤	الرقم الذي يجعل الجملة العددية التالية صحيحة ٨٢٣٥٩ > ٥٩□٨٢ هو								
	أ	٢	ب	٣	ج	٤	د	٥	
٥	خاصية الجمع المستعملة في ٧٤ + ٠ = ٧٤ هي:								
	أ	الإبدال	ب	التجميع	ج	العنصر المحايد	د	لا شيء مما سبق	
٦	٢ × ٤٠٠٠ =.....								
	أ	٨٠	ب	٨٠٠	ج	٨٠٠٠	د	٨٠٠٠٠	
٧	يأكل طائر صغير ١٤ دودة كل يوم ، فكم دودة يأكل في ٢٠ يومًا :								
	أ	١٠٠	ب	٢٨٠	ج	١٢٠	د	٢٠٠	
٨	وضع عمر كتبه في ١٠ صناديق في كل صندوق ١٠ كتب ، فكم كتابًا لديه :								
	أ	٢٠	ب	١٠	ج	١٠٠	د	٢٠٠	
٩	تقدير ناتج العملية ٤٧٥ - ٢٢٩ بتقريب الأعداد إلى أقرب مئة هو:								
	أ	١٠٠	ب	٢٠٠	ج	٣٠٠	د	٤٠٠	
١٠	أي العمليات التالية تجعل الجملة العددية التالية: ٤٥ □ ٤٠ = ٥ صحيحة؟								
	أ	+	ب	×	ج	—	د	÷	

يتبع

موقع منهجي
mnhaji.com

١١	ماناتج ٨٥٨٤ - ٣٤٤٢ =							
	أ	١٢٠٦٢	ب	١٠٣١٢	ج	٦١٢٤	د	٥١٤٢
١٢	مع أحمد ٨٠ ريالا ، اشترى كتابًا بمبلغ ٤٨ ريال ، و أقلامًا بمبلغ ١٣ ريال ، فكم ريالًا تقريبًا بقي معه ؟							
	أ	١٠ ريالات	ب	٢٠ ريالًا	ج	٣٠ ريالًا	د	٤٠ ريالًا
١٣	تبين لوحة الإشارات المجاورة عدد السيارات التي باعها أحد معارض السيارات ، ما اليومان الذي باع فيهما أقل عدد من السيارات ؟							
	أ	السبت والأربعاء	ب	الأحد والثلاثاء	ج	الأثنين والأربعاء	د	الثلاثاء والخميس
١٤	ما العدد الذي يكون من قواسم العدد ١٥ هو							
	أ	٢	ب	٣	ج	٤	د	٦
١٥	قدر ناتج ضرب ٢١٤ × ٣ = ... :							
	أ	٤٠٠	ب	٥٠٠	ج	٣٠٠	د	٦٠٠
١٦	من التمثيل بالقطاعات الدائرية المجاور الجزء الذي يمثل الرحلة الميدانية المفضلة لدى أكثر طلاب الصف الرابع هو:							
	أ	$\frac{١}{٤}$	ب	$\frac{١}{٢}$	ج	$\frac{١}{٣}$	د	$\frac{٣}{٤}$
١٧	اشترت مريم ١٦ قلادة ، أعطت ١٠ منها لصديقاتها ، كم قلادة بقيت معها؟ ما الجملة العددية التي توضح الحل							
	أ	١٦+١٠=٢٦	ب	١٤+١٠=٢٤	ج	١٦-١٠=٦	د	١٤-١٠=٤
١٨	وزع معلم طلاب الصف الرابع وعددهم ٢٥ طالبًا على ٥ فرق متساوية ، أي العبارات التالية يمثل عناصر الفريق؟							
	أ	٢٥ +٥	ب	٢٥ ÷ ٥	ج	٢٥ - ٥	د	٢٥ × ٥
١٩	أي الأعداد التالية من مضاعفات الرقم ٤							
	أ	٢ ، ٦ ، ٨	ب	٤ ، ٨ ، ١٢	ج	٦ ، ٨ ، ١٠	د	١٥ ، ١٦ ، ١٧
٢٠	كتبت عبير خمسة أعداد على السبورة ١٥ ، ١٢ ، ٩ ، ٦ ، ٣، أي مما يلي يصف القاعدة التي كتبت بها الأعداد							
	أ	اضافة ٤	ب	طرح ٣	ج	اضافة ٢	د	طرح ٢

السيارات المبيعة

اليوم	الإشارات
السبت	|||| ||||
الأحد	||||
الإثنين		||||
الثلاثاء	||||
الأربعاء	||| ||||

الرحلات الميدانية المفضلة لطلاب الصف الرابع



موقع منهجي
mnhaji.com

يتبع

٢٠
٢٠

السؤال الثاني: ١٠ درجات

أ) ضع كلمة (صح) أمام العبارة الصحيحة وكلمة (خطأ) أمام العبارة الخاطئة

١	٧٦١٠١ (>) ٧٧٠٠٠	صح
٢	عند تقريب العدد ٤٢٨٢ إلى أقرب ألف يكون الناتج ٤٠٠٠	صح
٣	لدى أحمد ٤ علب أقلام ، في كل علبة ٢٢ قلمًا ، فإن عدد أقلام أحمد ٨٠ قلمًا	خطأ
٤	يكتب العدد ٩ + ٢٠ + ٣٠٠ + ٧٠٠٠٠ بالصيغة القياسية ٧٣٢٩	خطأ
٥	ناتج ضرب ٤٥ × ٣ = ١٣٥	صح
٦	الأعداد التالية مرتبة تصاعديا ٣٩٢٧١ ، ٢٩٣٧١ ، ٧٣٩٢١	خطأ
٧	في ناتج ضرب ٥٠ × ٦٠ يوجد ثلاثة أصفار	صح
٨	من خلال التمثيل بالأعمدة ، فإن مقدار الماء الذي تستعمله الأسرة كل يوم هو ٣٠٠ لتر 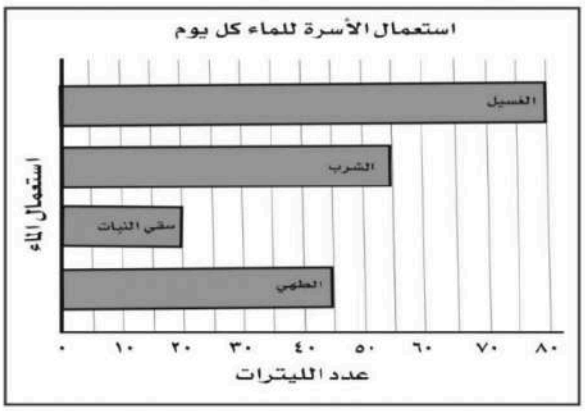	خطأ
٩	من خلال التمثيل بالخطوط المجاور ، نلاحظ أن خالد يقضي وقتًا أطول بمشاهدة التلفاز يوم الخميس 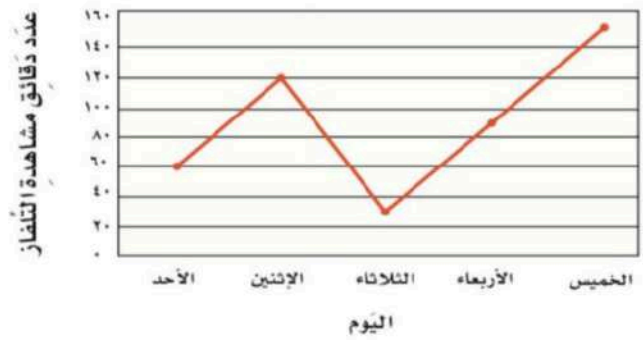	صح
١٠	قرأت فرح كتابًا مكون من ١٢ فصل ، يحتوي كل فصل ١٨ صفحة ، فإن العدد التقريبي لصفحات الكتاب هو ٢٠٠ صفحة	صح

موقع منهجي mnhaji.com

يتبع

ب: أجيب عما يلي :

١٠ درجات

أ

١- اكتب العدد ٣٧٤٢٦٣٥٥ بالصيغة اللفظية

درجتان

سبعة وثلاثون مليونًا و أربع مئة وستة وعشرون ألفًا
وثلاث مئة وخمسة وخمسون

٢- كان عدد زوار أحد المتاحف يوم الأربعاء ١٨٢٣ زائرًا ، ويوم الخميس ٢٥٤٣ زائرًا ، فما عدد الزوار في اليومين ؟

درجتان

١
١ ٨ ٢ ٣
+ ٢ ٥ ٤ ٣
٤ ٣ ٦ ٦ زائر

ب

أوجد ناتج الضرب :

درجتان

٤٣ × ٢١

٦ ٨
١
٠ ٣ ٤
٦ ١ ٥

ج

استعمل مؤشر القرص الدوار لوصف الاحتمالات (مؤكد - أقل احتمالًا- أكثر احتمالًا- متساوي الامكانية - مستحيل):

درجتان

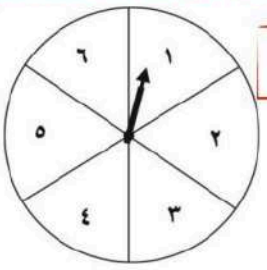

١) توقف المؤشر عند العدد ٥ ..... أقل احتمالًا
٢) توقف المؤشر عند العدد ١ أو ٢ أو ٣ ..... متساوي الإمكانية
٣) توقف المؤشر عند عدد زوجي أو فردي ..... مؤكد
٤) توقف المؤشر عند العدد ٧ ..... مستحيل

د

اكمل الجداول التالية:

درجتان

القاعدة: Δ + ٣	
المدخلة (Δ)	المخرجة (□)
٤	٧
٧	١٠
١٠	١٣
١٥	١٨

القاعدة: Δ÷٥	
المدخلة (Δ)	المخرجة (□)
١٠	٢
١٥	٣
٢٠	٤
٢٥	٥

موقع منهجي
mnhaji.com

تمت الأسئلة أرجوا لكن التوفيق

المادة / رياضيات
الصف / الرابع الابتدائي
الزمن / ساعتان
الفترة / الأولى

اختبار الفصل الدراسي الأول (الدور الأول) للعام الدراسي ١٤٤٨ هـ

الاسم / ..... رقم الجلوس .....

السؤال الأول	السؤال الثاني	السؤال الثالث	المجموع	الدرجة النهائية كتابة
٢٠	١٠	١٠	٤٠	

السؤال الأول : أ) اختر الإجابة الصحيحة فيما يلي : ١٨

١- يكتب العدد (أربعة ملايين ومئة وأربعة وتسعون ألف ومئتان وخمسة عشر) بالصيغة القياسية كالتالي :

أ	٤٤٩٥١	ب	٤١٩٤٢١٥	ج	٩٤٤١٢٥١	د	٥٩٤١٢٤

٢- الصيغة التحليلية للعدد ٥٢٤٦٠ هي :

أ	٦٠+٤٠٠+٢٠٠٠+٥٠٠٠٠	ب	٦ + ٤ + ٢ + ٥	ج	٦+٤٠+٢٠٠+٥٠٠٠٠	د	٦٠+٤٠٠+٢٠٠+٥٠٠٠

٣- أي مما يلي يمثل ترتيبا صحيحا من الأصغر الى الاكبر

أ	١٨٠٩ ، ١٨٩٠ ، ١٩٨٠	ب	١٨٩٠ ، ١٨٠٩ ، ١٩٨٠	ج	١٩٨٠ ، ١٨٠٩ ، ١٨٩٠	د	١٩٨٠ ، ١٨٩٠ ، ١٨٠٩

٤- عند تقريب العدد ٣١٩٠٢٣٦ إلى أقرب مليون يصبح :

أ	٤٠٠٠٠٠٠	ب	٣٠٠٠٠٠٠	ج	٤٠٠٠٠	د	٣٠٠٠٠

٥- تستغرق مريم ٥ دقائق لتغليف هدية، كم دقيقة تستغرقها لتغليف ١٠ هدايا ؟

أ	٣٠ دقيقة	ب	٤٠ دقيقة	ج	٥٠ دقيقة	د	٥٥ دقيقة

٦- تقدير ناتج جمع ٥٤٥ + ٢٦٨ مقربا الى أقرب مئة هو :

أ	٤٠٠	ب	٥٠٠	ج	٦٠٠	د	٨٠٠

٧- قاعدة الطرح المستعملة في ٣٥ - ● = ٠ هي :

أ	العنصر المحايد	ب	طرح العدد من نفسه	ج	التجميع	د	الابدال

٨- تقدير ناتج طرح ٥٩٥ - ٢٧٨ مقربا إلى أقرب مئة يساوي :

أ	١٠٠	ب	٢٠٠	ج	٣٠٠	د	٤٠٠

٩- في مكتبة محمد ٤٩ كتابا أضاف اليها ١١ كتابا فكم أصبح في مكتبته؟

أ	٤٠	ب	٥٠	ج	٥٥	د	٦٠

١٠- لدى أحمد مزرعة مربعة الشكل أراد عمل سياج لها، إذا كان طول ضلع المزرعة ٢٠ متر فكم متر يحتاج لعمل السياج؟

أ	٥٠	ب	٦٠	ج	٧٠	د	٨٠

١١ـ حدد العدد المختلف فيما يلي :

أ	١٠٠٠٠	ب	١٠ مئات	ج	عشرة آلاف	د	١٠٠ مئة

١٢ـ احتمال اختيار كرة سوداء من كيس به ٣ كرات زرقاء وكرتان حمراء وكرة صفراء دون النظر اليها هو :

أ	مؤكد	ب	أكثر احتمال	ج	متساوي الامكانية	د	مستحيل

١٣ـ (لدى مزارع ٦ بقرات اذا باع ٣ منها فكم بقرة تتبقى لديه) الجملة العددية التي تمثل المسألة هي :

أ	٦ +٣	ب	٦ + ٣ = ٩	ج	٦ ـ ٣ =٣	د	٦ ـ ٣

١٤ـ أي مما يلي ليست عبارة عددية :

أ	٤١ + ٦٦	ب	١٧ + ٣	ج	٢٨ ـ ١٩ = ٩	د	١٢ + ٦ + ٢

١٥ـ زوج الأعداد الذي لايمكن أن تراه في جدول قاعدته ((اضرب في ٤)) هو :

أ	٥ و ٢٠	ب	٨ و ٢٤	ج	٩ و ٣٦	د	١٠ و ٤٠

١٦ـ من خلال التمثيل المجاور،
اليوم الذي تم فيه قضاء وقت أطول في حل واجب الرياضيات هو يوم



أ	الاحد	ب	الخميس	ج	الثلاثاء	د	الاثنين

١٧ ـ الجزء الذي يمثل الذين يفضلون كرة القدم في التمثيل المجاور هو :



أ	$\frac{١}{٤}$	ب	$\frac{١}{٢}$	ج	$\frac{١}{٣}$	د	$\frac{٣}{٤}$

١٨ ـ قاعدة الدالة في الجدول المجاورهي :

القاعدة :				
المدخلة △	٩	١٥	١٨	٢١
المخرجة □	٣	٥	٦	٧

أ	△ + ٦	ب	△ ÷ ٣	ج	△ × ٦	د	△ + ٣

ب) قارن بوضع الإشارة المناسبة (< ، > ، =) ٢

٨٤٠٢ ◯ ٨٠٩٩ ، ٥٠٠+٨٠+٩ ◯ ٩ + ٧٠٠

السؤال الثاني : أ) ضع علامة (✓) أمام العبارة الصحيحة وعلامة (✗) أمام العبارة الخاطئة فيما يلي : ٤

١ـ القيمة المنزلية للرقم ٨ في العدد ١٨٧٦٥ هي ٨٠٠٠	
٢ـ العدد الذي يجعل الجملة العددية التالية (٥٨ + ٩٨ = ◯ + ٥٨) صحيحية هو ٩٨	
٣ـ العملية التي تجعل الجملة العددية التالية (١٨ ◯ ٩ = ٩) صحيحة هي (+)	
٤ـ الرسم المجاور يمثل الجملة العددية ٦ ـ ٢ = ٤	

ب) بين إذا كان المطلوب التقدير أم الاجابة الدقيقة. ثم حل المسألة : ٢
اذا كان ثمن أحد أنواع أقلام الحبر ١٠ ريالات فكم يدفع فهد ليشتري ثلاثة أقلام من هذا النوع؟

.....

ج) أوجد ناتج مايلي : ٤

٣٩٤	٥٢٤	٤٠٠٥
+ ٢٦٤	- ١٤٢	- ٢٧٣

السؤال الثالث : أجب عما يلي : ١٠

أ) نظم البيانات التالية في لوحة إشارات : ١

الأدوات المدرسية المبيعة خلال ساعة	
الأدوات	التكرار
الممحاة	٥
المقص	١

الأدوات المدرسية المبيعة خلال ساعة	
الأدوات	الإشارات
الممحاة	
المقص	

ب) سجلت مريم ألوان السمك في حوض الزينة فكانت على النحو التالي ، نظم هذه البيانات من خلال جدول تكراري ٢

حمراء ، حمراء ، حمراء ، حمراء ، حمراء ، صفراء ، صفراء ، صفراء ، صفراء ، زرقاء ، زرقاء ، بيضاء

ألوان سمك الزينة	
الألوان	التكرار

ج) اذا تم تدوير المؤشر، استعمل الاعداد لوصف احتمال كل من النواتج الآتية : ٢

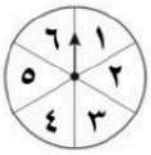

عدد فردي : ..... عدد أكبر من ٦ .....

د) أكمل الجدول التالي : ٢

القاعدة : △ + ٣				
المدخلة △	٤	٥	٦	٧
المخرجة □				

هـ) مع سعاد ٨ ريالات أعطاها والدها أمس ٤ ريالات، وأعطت أخاها ريالين . فكم ريالا كان معها في البداية؟ ١

.....

و) إذا علمت أن في كل كيس ٤ كرات فاستعمل الجدول المجاور لتجد العدد الكلي للكرات في أعداد مختلفة من الأكياس . ٢

القاعدة : △ × ٤				
المدخلة △	٢	٣	٤	٥
المخرجة □				

انتهت الأسئلة

مع أطيب الأمنيات لكم بالتوفيق والنجاح

معلم/ة المادة :

Abu Sanad

المادة / رياضيات
الصف / الرابع الابتدائي
الزمن / ساعتان
الفترة / الأولى

نموذج الإجابة

اختبار الفصل الدراسي الأول (الدور الأول) للعام الدراسي ١٤٤٨ هـ

الاسم / ..... رقم الجلوس .....

السؤال الأول	السؤال الثاني	السؤال الثالث	المجموع	الدرجة النهائية كتابة
٢٠	١٠	١٠	٤٠	

السؤال الأول : أ) اختر الإجابة الصحيحة فيما يلي : ١٨

١- يكتب العدد (أربعة ملايين ومئة وأربعة وتسعون ألف ومئتان وخمسة عشر) بالصيغة القياسية كالتالي :

أ	٤٤٩٥١	ب	٤١٩٤٢١٥	ج	٩٤٤١٢٥١	د	٥٩٤١٢٤

٢- الصيغة التحليلية للعدد ٥٢٤٦٠ هي :

أ	٦٠+٤٠٠+٢٠٠٠+٥٠٠٠٠	ب	٦ + ٤ + ٢ + ٥	ج	٦+٤٠+٢٠٠+٥٠٠٠٠	د	٦٠+٤٠٠+٢٠٠+٥٠٠٠

٣- أي مما يلي يمثل ترتيبا صحيحا من الأصغر الى الاكبر

أ	١٨٠٩ ، ١٨٩٠ ، ١٩٨٠	ب	١٨٩٠ ، ١٨٠٩ ، ١٩٨٠	ج	١٩٨٠ ، ١٨٠٩ ، ١٨٩٠	د	١٩٨٠ ، ١٨٩٠ ، ١٨٠٩

٤- عند تقريب العدد ٣١٩٠٢٣٦ إلى أقرب مليون يصبح :

أ	٤٠٠٠٠٠٠	ب	٣٠٠٠٠٠٠	ج	٤٠٠٠٠	د	٣٠٠٠٠

٥- تستغرق مريم ٥ دقائق لتغليف هدية، كم دقيقة تستغرقها لتغليف ١٠ هدايا ؟

أ	٣٠ دقيقة	ب	٤٠ دقيقة	ج	٥٠ دقيقة	د	٥٥ دقيقة

٦- تقدير ناتج جمع ٥٤٥ + ٢٦٨ مقربا الى أقرب مئة هو :

أ	٤٠٠	ب	٥٠٠	ج	٦٠٠	د	٨٠٠

٧- قاعدة الطرح المستعملة في ٣٥ - ٣٥ = ٠ هي :

أ	العنصر المحايد	ب	طرح العدد من نفسه	ج	التجميع	د	الابدال

٨- تقدير ناتج طرح ٥٩٥ - ٢٧٨ مقربا إلى أقرب مئة يساوي :

٦٠٠ - ٣٠٠

أ	١٠٠	ب	٢٠٠	ج	٣٠٠	د	٤٠٠

٩- في مكتبة محمد ٤٩ كتابا أضاف اليها ١١ كتابا فكم أصبح في مكتبته؟

أ	٤٠	ب	٥٠	ج	٥٥	د	٦٠

١٠- لدى أحمد مزرعة مربعة الشكل أراد عمل سياج لها، إذا كان طول ضلع المزرعة ٢٠ متر فكم متر يحتاج لعمل السياج؟

أ	٥٠	ب	٦٠	ج	٧٠	د	٨٠

موقع منهجي
mnhaji.com

١١ـ حدد العدد المختلف فيما يلي :

أ	١٠٠٠٠	ب	١٠ مئات	ج	عشرة آلاف	د	١٠٠ مئة

١٢ـ احتمال اختيار كرة سوداء من كيس به ٣ كرات زرقاء وكرتان حمراء وكرة صفراء دون النظر اليها هو :

أ	مؤكد	ب	أكثر احتمال	ج	متساوي الامكانية	د	مستحيل

١٣ـ (لدى مزارع ٦ بقرات اذا باع ٣ منها فكم بقرة تتبقى لديه) الجملة العددية التي تمثل المسألة هي :

أ	٦ +٣	ب	٦ + ٣ = ٩	ج	٦ ـ ٣ =٣	د	٦ ـ ٣

١٤ـ أي مما يلي ليست عبارة عددية :

أ	٤١ + ٦٦	ب	١٧ + ٣	ج	٢٨ ـ ١٩ = ٩	د	١٢ + ٦ + ٢

١٥ـ زوج الأعداد الذي لايمكن أن تراه في جدول قاعدته ((اضرب في ٤)) هو :

أ	٥ و ٢٠	ب	٨ و ٢٤	ج	٩ و ٣٦	د	١٠ و ٤٠

٢٨ ÷ ٤ = ٧

١٦ـ من خلال التمثيل المجاور،
اليوم الذي تم فيه قضاء وقت أطول في حل واجب الرياضيات هو يوم



أ	الاحد	ب	الخميس	ج	الثلاثاء	د	الاثنين

١٧ ـ الجزء الذي يمثل الذين يفضلون كرة القدم في التمثيل المجاور هو :



أ	$\frac{١}{٤}$	ب	$\frac{١}{٢}$	ج	$\frac{١}{٣}$	د	$\frac{٣}{٤}$

١٨ ـ قاعدة الدالة في الجدول المجاورهي :

القاعدة :				
المدخلة △	٩	١٥	١٨	٢١
المخرجة □	٣	٥	٦	٧

أ	△ + ٦	ب	△ ÷ ٣	ج	△ × ٦	د	△ + ٣

ب) قارن بوضع الإشارة المناسبة (< ، > ، =) ٢

٨٤٠٢ < ٨٠٩٩ ، ٥٠٠+٨٠+٩ > ٧٠٠ + ٩ ، ٥٨٩ > ٧٠٩

السؤال الثاني : أ) ضع علامة (✓) أمام العبارة الصحيحة وعلامة (✗) أمام العبارة الخاطئة فيما يلي : ٤

١ـ القيمة المنزلية للرقم ٨ في العدد ١٨٧٦٥ هي ٨٠٠٠	✗
٢ـ العدد الذي يجعل الجملة العددية التالية (٥٨ + ٩٨ = ◯ + ٥٨) صحيحة هو ٩٨	✓
٣ـ العملية التي تجعل الجملة العددية التالية (١٨ ◯ ٩ = ٩) صحيحة هي (+)	✗
٤ـ الرسم المجاور يمثل الجملة العددية ٦ ـ ٢ = ٤	✓

ب) بين إذا كان المطلوب التقدير أم الاجابة الدقيقة. ثم حل المسألة : ٢
اذا كان ثمن أحد أنواع أقلام الحبر ١٠ ريالات فكم يدفع فهد ليشتري ثلاثة أقلام من هذا النوع؟
الاجابة الدقيقة: ١٠ + ١٠ + ١٠ = ٣٠ ريال
٣ × ١٠ = ٣٠ ريال

موقع منهجي
mnhaji.com

ج) أوجد ناتج مايلي : ٤

٤ ٩ ٣	٤ ~~٢~~ ~~٥~~ ٤	٥ ~~٣~~ ~~٤~~ ١٠ ٣
+ ٢ ٦ ٤	- ١ ٤ ٢	- ٢ ٧ ٣
٦٦٨	٣٨٢	٣٧٣٢

السؤال الثالث : أجب عما يلي : ١٠

أ) نظم البيانات التالية في لوحة إشارات : ١

الأدوات المدرسية المبيعة خلال ساعة	
الأدوات	التكرار
الممحاة	٥
المقص	١

الأدوات المدرسية المبيعة خلال ساعة	
الأدوات	الإشارات
الممحاة	~~||||~~
المقص	١

ب) سجلت مريم ألوان السمك في حوض الزينة فكانت على النحو التالي ، نظم هذه البيانات من خلال جدول تكراري ٢

حمراء ، حمراء ، حمراء ، حمراء ، حمراء ، صفراء ، صفراء ، صفراء ، زرقاء ، زرقاء ، بيضاء

ألوان سمك الزينة	
الألوان	التكرار
حمراء	٥
صفراء	٣
زرقاء	٢
بيضاء	١

ج) اذا تم تدوير المؤشر، استعمل الاعداد لوصف احتمال كل من النواتج الآتية : ٢

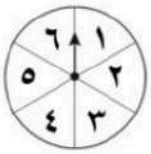

عدد فردي : ٣ من ٦ عدد أكبر من ٦ صفر

د) أكمل الجدول التالي : ٢

القاعدة : △ + ٣				
المدخلة △	٤	٥	٦	٧
المخرجة □	٧	٨	٩	١٠

هـ) مع سعاد ٨ ريالات أعطاها والدها أمس ٤ ريالات، وأعطت أخاها ريالين .
فكم ريالا كان معها في البداية؟ ١

كان معها في البدايه = ٨ + ٢ - ٤ = ٦ ريال

و) إذا علمت أن في كل كيس ٤ كرات فاستعمل الجدول المجاور لتجد العدد الكلي للكرات في أعداد مختلفة من الأكياس . ٢

القاعدة : △ × ٤				
المدخلة △	٢	٣	٤	٥
المخرجة □	٨	١٢	١٦	٢٠

انتهت الأسئلة

مع أطيب الأمنيات لكم بالتوفيق والنجاح

معلم/ة المادة :

موقع منهجي
mnhaji.com

				المادة	رياضيات		
				الصف	رابع	الفصل	
				الزمن	ساعتان		
				اسم الطالب			
المصحح	حمد الذويخ	المراجع		المدقق		الدرجة	رقمًا / كتابة
التوقيع		التوقيع		التوقيع			

أسئلة اختبار مادة الرياضيات الفصل الدراسي الأول للعام ١٤٤٨هـ

السؤال الأول / اختر الإجابة الصحيحة في الجمل التالية وذلك بوضع علامة (✓) في المربع الصحيح : ١٥

١	قدر ناتج الطرح ٣٩٩ -١٢٣ إلى أقرب مئة		٢	عدد الكتب العلمية	
أ-	☐	١٠٠	أ-	☐	٣٠
ب-	☐	٢٠٠	ب-	☐	٢٠
ج-	☐	٣٠٠	ج-	☐	١٠
د-	☐	٤٠٠	د-	☐	٥



٣	(٣+٢٠+٥٠٠+٦٠٠٠) يكتب بالصيغة القياسية :		٤	النقطة ب =	
أ-	☐	١٢٥٦	أ-	☐	١
ب-	☐	٣٥٢٦	ب-	☐	٢
ج-	☐	٦٥٢٣	ج-	☐	٣
د-	☐	٣٢٥٦	د-	☐	٤

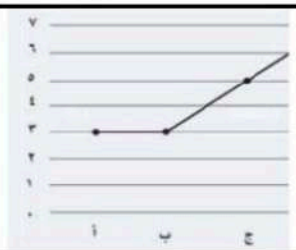

٥	القيمة المنزلية للرقم الذي تحته خط ١٢٣٤٥٦٧٨		٦	أكثر الأدوات بيعاً	
أ-	☐	٢٠٠٠٠	أ-	☐	الممحاة
ب-	☐	٢٠٠٠٠٠	ب-	☐	الصمغ
ج-	☐	٢٠٠٠٠٠٠	ج-	☐	القلم الرصاص
د-	☐	٥٠٠٠٠٠٠	د-	☐	المقص

الأدواتُ المدرسيةُ المبيعةُ خلالَ ساعة

الأدواتُ	الإشاراتُ
المِمْحاةُ	卌
الصمغُ	||
القلمُ الرصاص	卌 |||
المِقصّ	|

٧	الخاصية المستعملة في العملية : ٤+١ = ١+٤		٨	أكثر الرحلات تفضيلاً للطلاب	
أ-	☐	خاصية الإبدال	أ-	☐	حائل
ب-	☐	خاصية العنصر المحايد	ب-	☐	جدة
ج-	☐	خاصية التجميع	ج-	☐	الرياض
د-	☐	قاعدة طرح العدد من نفسه	د-	☐	الخبر

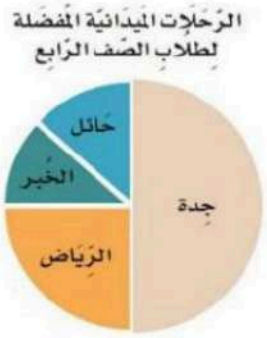

٩	العدد ٥٤٩ مقربًا إلى أقرب عشرة		١٠	احتمال وقوفُ المؤشرِ عندَ الرقم (٤) :	
أ-	☐	٥٣٠	أ-	☐	٥ من ٦
ب-	☐	٥٤٠	ب-	☐	٣ من ٦
ج-	☐	٥٥٠	ج-	☐	٢ من ٦
د-	☐	٥٦٠	د-	☐	١ من ٦

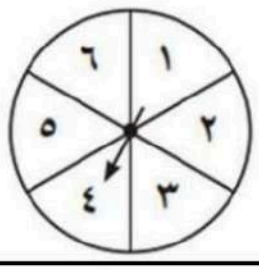

بقية الأسئلة في الصفحة التالية

السؤال الثاني / اكتشف القاعدة ثم طبقها لتكمل الجدول : ٢

القاعـــــدة :				
المدخـــلات △	١	٢	٣	٤
المخرجـــات □	٣	٤	٥	.....

السؤال الثالث/ اُكْتُبِ العمليَّةَ (+ أوْ -) الَّتِي تجعلُ الجُملَ العدديَّةَ الآتيةَ صحيحةً: ٢

أ) ١٤ ◯ ٢ = ٥ + ٧ ب) ٨ > ٧ ◯ ٢

السؤال الرابع / مَثِّلِ الجُملَةَ العدديَّةَ بالرَّسمِ و بالكلماتِ: ٢

باعَ متجرٌ ٤ أقلام يومَ الأربعاء ، وَ ٣ أقلام يومَ الخميس ، فكمْ قلماً بِيعتْ في اليومينِ؟

بالرسم :

.....

بالكلمات :

.....

السؤال الخامس / اِستعملْ خُطَّةَ الاستدلالِ المنطقيِّ لحلِّ المسائلِ التَّاليةِ: ٢

معَ سُعادَ الآنَ ٩ ريالاتٍ. أعطاهَا والدُها أمسِ ٥ ريالاتٍ، وأعطتْ أخاهَا ٣ ريالات . فكمْ ريالاً كانَ معهَا في البِدايةِ؟

.....

السؤال السادس / اُكْتُبْ عِبارةً وجملةً عدديَّةً: ٢

أ/ كتبتْ أسماء اليومَ ٤ قصص ، و٣ قصص يومَ أمسِ، فكمْ قصة كتبتْهَا أسماء في اليومينِ؟

العبارة العددية : ..... الجملة العددية : .....

السؤال السابع / اِسْتَعْمِلِ الخطَّةَ المناسبةَ لحلِّ المسألة التَّاليةِ: ٢

أ) تَسْتغرِقُ هند ١٠ دقائقَ لصنع كعكة. كمْ دقيقةً تستغرقُها لِتصنع ٥ كعكات ؟

.....

ب) إذا كانَ ثمنُ الثوب ٥٠ ريالٌ، والشماغ ٣٠ ريالاتٍ. واشتريْتَ الاثنينِ معًا، فكمْ يُعِيدُ إليكَ البائعُ إذَا أعطيتَهُ ١٠٠ ريالٌ ؟

.....

السؤال الثامن/قارنْ بينَ العددَيْنِ في كلٍّ ممَّا يأتِي مُستعملاً (< ، > ، =) : ٢

أ) ٤٥٥٦٩٩ ◯ ٤٥٦٦٩٩ ب) ٣٣٠٥٦ ◯ ٣٣٠٩٩

بقية الأسئلة في الصفحة التالية

السؤال التاسع / رَتِّبِ الأعداد من الأكبر إلى الأصغر (٤٣٧٠٧ ، ٥٢٧٩٧ ، ٧٨٠٥٨) ٢

.....

السؤال العاشر / بَيِّن هَل المطلوب التقدير أم الإجابة الدقيقة ثم حلها ؟ ٢

دفع محمد ١٥ ريالٌ ثمن وجبة الغداء ، و١٠ ريالات ثمن شراء لعبة، ١٥ ريالاً لأشياء أخرى، فما مجموع ما دفعة ؟

.....

.....

السؤال الحادي عشر / أكمل الجدول التالي : ٢

القاعـــــدة : △ × ٣				
المدخـــلات △	١	٢	٣	٤
المخرجـــات □				

السؤال السابع / أوجِدْ ناتجَ عمليات الجمعِ والطرح في كل مما يلي: ٣

أ) ٥٦٨ + ٤٥

ب) ٧٠٦ - ١٥٤

ج) ٥٤٣ - ٤٣٢

السؤال الثامن /حُلَّ المسألة الآتية باستعمال خُطَّة إنشاء جدول: ٢

إذا كان سعر الكتابِ الواحدِ ٥ ريالاتٍ، فكمْ كتابًا يمكنُ شراءه بِ ٣٠ ريالاً؟ أكمل الجدول التالي لتعرف ذلك.

عدد الكتب						
التكلفة						

عدد الكتب: .....

تمت الأسئلة
مع تمنياتي لكم بالتوفيق والنجاح

			المادة	رياضيات	
			الصف	رابع	الفصل
			الزمن	ساعتان	
المصحح					
التوقيع			الدرجة	رقمًا	كتابة

نموذج الإجابة

أسئلة اختبار مادة الرياضيات الفصل الدراسي الأول للعام ١٤٤٨هـ

السؤال الأول / اختر الإجابة الصحيحة في الجمل التالية وذلك بوضع علامة (✓) في المربع الصحيح : ١٥

١	قدر ناتج الطرح ٣٩٩ -١٢٣ إلى أقرب مئة		٢	عدد الكتب العلمية	
أ-	☐ ١٠٠		أ-	☐ ٣٠	
ب-	☐ ٢٠٠		ب-	☐ ٢٠	
ج-	☑ ٣٠٠		ج-	☑ ١٠	
د-	☐ ٤٠٠		د-	☐ ٥	
٣	(٣+٢٠+٥٠٠+٦٠٠٠) يكتب بالصيغة القياسية :		٤	النقطة ب =	
أ-	☐ ١٢٥٦		أ-	☐ ١	
ب-	☐ ٣٥٢٦		ب-	☐ ٢	
ج-	☑ ٦٥٢٣		ج-	☑ ٣	
د-	☐ ٣٢٥٦		د-	☐ ٤	
٥	القيمة المنزلية للرقم الذي تحته خط ١٢٣٤٥٦٧٨		٦	أكثر الأدوات بيعاً	
أ-	☐ ٢٠٠٠٠		أ-	☐ الممحاة	
ب-	☐ ٢٠٠٠٠٠		ب-	☐ الصمغ	
ج-	☑ ٢٠٠٠٠٠٠		ج-	☑ القلم الرصاص	
د-	☐ ٥٠٠٠٠٠٠		د-	☐ المقص	
٧	الخاصية المستعملة في العملية : ٤+١ = ١+٤		٨	أكثر الرحلات تفضيلاً للطلاب	
أ-	☑ خاصية الإبدال		أ-	☐ حائل	
ب-	☐ خاصية العنصر المحايد		ب-	☑ جدة	
ج-	☐ خاصية التجميع		ج-	☐ الرياض	
د-	☐ قاعدة طرح العدد من نفسه		د-	☐ الخبر	
٩	العدد ٥٤٩ مقربًا إلى أقرب عشرة		١٠	احتمال وقوفُ المؤشرِ عندَ الرقم (٤) :	
أ-	☐ ٥٣٠		أ-	☐ ٥ من ٦	
ب-	☐ ٥٤٠		ب-	☐ ٣ من ٦	
ج-	☑ ٥٥٠		ج-	☐ ٢ من ٦	
د-	☐ ٥٦٠		د-	☑ ١ من ٦	



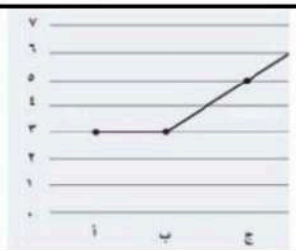

الأدوات المدرسية المبيعة خلال ساعة	
الأدوات	الإشارات
المِمحاة	////
الصمغ	//
القلم الرصاص	/// ////
المقص	/

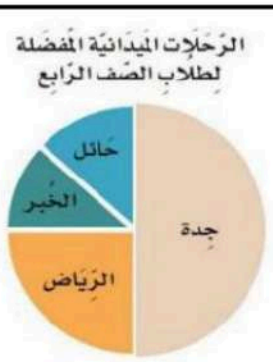

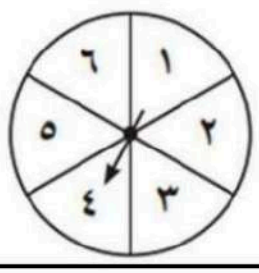

بقية الأسئلة في الصفحة التالية

موقع منهجي
mnhaji.com

السؤال الثاني / اكتشف القاعدة ثم طبقها لتكمل الجدول : ٢

القاعـــدة : ٥ + ٢				
المدخـــلات △	١	٢	٣	٤
المخرجـات □	٣	٤	٥	٦ .....

السؤال الثالث/ اُكْتُبِ العمليَّةَ (+ أوْ -) الَّتِي تجعلُ الجُملَ العدديَّةَ الآتيةَ صحيحةً: ٢

أ) ١٤ − ٢ = ٥ + ٧ ب) ٨ > ٧ + ٢

السؤال الرابع / مَثِّلِ الجُملَةَ العدديَّةَ بالرَّسمِ و بالكلماتِ: ٢

باعَ متجرٌ ٤ أقلام يومَ الأربعاء ، وَ ٣ أقلام يومَ الخميس ، فكمْ قلماً بِيعتْ في اليومينِ؟

بالرسم :

..... ○○○○ + ○○○ = ○○○○○○○ .....

بالكلمات :

..... أربعة + ثلاثة يساوي لسبعة .....

السؤال الخامس / اِستعملْ خُطَّةَ الاستدلالِ المنطقيِّ لحلِّ المسائلِ التَّاليةِ: ٢

معَ سُعادَ الآنَ ٩ ريالاتٍ. أعطاهَا والدُها أمسِ ٥ ريالاتٍ، وأعطتْ أخاهَا ٣ ريالات . فكمْ ريالاً كانَ معهَا في البِدايةِ؟

..... كان معها : ٩ + ٣ − ٥ = ٦ ريال .....

السؤال السادس / اُكْتُبْ عِبارةً وجملةً عدديَّةً: ٢

أ/ كتبتْ أسماء اليومَ ٤ قصص ، و٣ قصص يومَ أمسِ، فكمْ قصة كتبتْهَا أسماء في اليومينِ؟

العبارة العددية : ..... ٤ + ٣ ..... الجملة العددية : ..... ٤ + ٣ = ٧ .....

السؤال السابع / اِسْتَعْمِلِ الخطَّةَ المناسبةَ لحلِّ المسألة التَّاليةِ: ٢

أ) تَسْتغرِقُ هند ١٠ دقائقَ لصنع كعكة. كمْ دقيقةً تستغرقُها لِتصنع ٥ كعكات ؟

..... تلستغرقها هند = ١٠ × ٥ = ٥٠ دقيقة .....

ب) إذا كانَ ثمنُ الثوب ٥٠ ريالٌ، والشماغ ٣٠ ريالاتٍ. واشتريْتَ الاثنينِ معًا، فكمْ يُعِيدُ إليكَ البائعُ إذَا أعطيتَهُ ١٠٠ ريالٌ ؟

..... ٥٠ + ٣٠ = ٨٠ ـ يعيدلي البائع = ١٠٠ − ٨٠ = ٢٠ ريال .....

السؤال الثامن/قارنْ بينَ العددَيْنِ في كلٍّ ممَّا يأتِي مُستعملاً (< ، > ، =) : ٢

أ) ٤٥٥٦٩٩ > ٤٥٦٦٩٩ ب) ٣٣٠٥٦ < ٣٣٠٩٩

بقية الأسئلة في الصفحة التالية

موقع منهجي
mnhaji.com

السؤال التاسع / رَتِّبِ الأعداد من الأكبر إلى الأصغر (٤٣٧٠٧ ، ٥٢٧٩٧ ، ٧٨٠٥٨) ٢

٧٨٠٥٨ ـ ٥٢٧٩٧ ـ ٤٣٧٠٧

السؤال العاشر / بَيِّن هَل المطلوب التقدير أم الإجابة الدقيقة ثم حلها ؟ ٢

دفع محمد ١٥ ريالٌ ثمن وجبة الغداء ، و ١٠ ريالات ثمن شراء لعبة، ١٥ ريالاً لأشياء أخرى، فما مجموع ما دفعة ؟

الإجابة الدقيقة

مجموع ما دفعه = ١٥+١٠+١٥ = ٤٠ ريال

السؤال الحادي عشر / أكمل الجدول التالي : ٢

القاعـــدة : △ × ٣				
المدخـــلات △	١	٢	٣	٤
المخرجـــات □	٣	٦	٩	١٢

السؤال السابع / أوجِدْ ناتجَ عمليات الجمعِ والطرح في كل مما يلي: ٣

أ) ٥٦٨ + ٤٥ = ٦١٣

ب) ٦٧١٦ - ١٥٤ = ٥٥٤

ج) ٥٤٣ - ٤٣٢

السؤال الثامن /حُلّ المسألة الآتية باستعمال خُطّة إنشاء جدول: ٢

إذا كان سعر الكتابِ الواحدِ ٥ ريالاتٍ، فكمْ كتابًا يمكنُ شراءه بِ ٣٠ ريالاً؟ أكمل الجدول التالي لتعرف ذلك.

عدد الكتب	١	٢	٣	٤	٥	٦
التكلفة	٥	١٠	١٥	٢٠	٢٥	٣٠

عدد الكتب: ٦ كتب

تمت الأسئلة
مع تمنياتي لكم بالتوفيق والنجاح

موقع منهجي
mnhaji.com

المادة: رياضيات	موقع منهجي mnhaji.com	
الصف : الرابع الابتدائي		
الزمن: ساعتان ونصف		
عدد الأوراق: ٣		

الاختبار النهائي الفصل الدراسي الأول للصف الرابع الابتدائي (الدور الاول) لعام ١٤٤٨ هـ

الاسم	.....	الصف ٤ /	الدرجة المستحقة	
				٤٠

السؤال الأول: اختر الإجابة الصحيحة لكل مما يلي بتضليل الحرف الدال عليها:

١	الصيغة القياسية للعدد خمس مئة وستة وعشرون ألفاً واثنا عشر هي:							
	أ	٥٢٦٠١٢	ب	٥٢٦١٢	ج	١٢٥٢٦	د	١٢٠٥٢٦
٢	العدد ١٥٤٦٢ مقرباً لاقرب ألف هو:							
	أ	١٥٠	ب	١٥٠٠٠	ج	١٥	د	١٥٤٦٠
٣	الصيغة التحليلية للعدد ٣٢٤٠٥ هي:							
	أ	٥+ ٤٠٠ +٢٠٠٠ + ٣٠٠٠٠	ب	٤٠+٣٠٠+٤	ج	٥+٤٠+٢٠٠+٣٠	د	٢+٣+٤ +٥
٤	أي من الاعداد التالية هو العدد الأكبر							
	أ	٧٨٥٤٩٦	ب	٧٥٨٤٦٩	ج	٧٨٥٤٦٩	د	٧٥٨٤٩٦
٥	كتبت عبير خمسة أعداد على السبورة . أي مما يأتي يصف القاعدة التي كتبت بها الأعداد (١٥ ، ١٢ ، ٩ ، ٦ ، ٣)							
	أ	إضافة ٣	ب	طرح ٣	ج	إضافة ٢	د	طرح ٢
٦	الرقم الذي يجعل الجملة العددية التالية صحيحة ٢٣ +(٧+٤) = (..... + ٧) + ٤ هو:							
	أ	٨	ب	٢٣	ج	٧	د	١١
٧	قاعدة الطرح المستخدمة في : ٣٩ - ٣٩ = ٠ هي :							
	أ	العنصر المحايد	ب	طرح الصفر من العدد	ج	طرح العدد من نفسه	د	الابدال
٨	ما أفضل تقدير للعملية ٣٥ + ٤٢ هو							
	أ	٨٠	ب	٧٠	ج	٧	د	٧٧
٩	تستغرق هند ٥ دقائق لتغليف هدية . كم دقيقة تستغرقها لتغليف ١٠ هدايا ؟							
	أ	٥٠	ب	١٠	ج	١٥	د	٥
١٠	للتحقق من عملية الطرح نستخدم عملية							
	أ	الطرح	ب	الجمع	ج	الضرب	د	القسمة
١١	زوج الاعداد الذي لايمكن أن تراه في جدول قاعدته (اضرب في ٦) هو:							
	أ	٥ و ٣٠	ب	٨ و ٢٤	ج	١٠ و ٦٠	د	٧ و ٤٢

يتبع

تابع السؤال الأول: (أ)اختر الإجابة الصحيحة لكل مما يلي بتظليل الحرف الدال عليها:

١٢	ما احتمال أن يأتي شهر شوال بعد شهر رجب مباشرة :							
	أ	مؤكد	ب	مستحيل	ج	اقل احتمال	د	أكثر احتمال
١٣	في التمثيل المجاور ما المشروب الأكثر تفضيلاً لدى الطلاب في وجبة الإفطار 							
	أ	عصير البرتقال	ب	الحليب	ج	عصير التفاح	د	الماء
١٤	تبين لوحة الإشارات المجاورة عدد السيارات التي باعها احد معارض السيارات ما اليومان اللذان باع فيهما أقل عدد من السيارات ؟ 							
	أ	السبت والأربعاء	ب	الأحد والثلاثاء	ج	الاثنين والأربعاء	د	الثلاثاء والأربعاء
١٥	أي العمليات التالية تجعل الجملة العددية التالية : ٧٩ ..... ٢٦ = ١٠٥ صحيحة ؟							
	أ	+	ب	-	ج	×	د	÷

(ب) ضع علامة (✓) أمام العبارة الصحيحة وعلامة (✗) أمام العبارة الخاطئة :

١	القيمة المنزلية للرقم ٤ في العدد ٦٤٢٢١٣٧٦ هي ٤٠٠٠٠٠٠	
٢	٩ + ٢٠ + ٧٠٠ + ٤٠٠٠٠ + ٣٠٠٠٠٠ هي الصيغة التحليلية للعدد ٣٤٠٧٢٩	
٣	يوضح التمثيل بالخطوط كيف تتغير مجموعة من البيانات مع مرور الزمن	
٤	٤ + ٨ + ٩ = ٢١ تسمى عبارة عددية	
٥	الترتيب الصحيح للخطوات الأربع لحل المسألة هو خطط -افهم -حل - تحقق	

السؤال الثاني:

١٠

(أ)أوجد ناتج العمليات التالية :

$$\begin{array}{r} ٤٦٣ \\ +\ ٨٥ \\ \hline \end{array} \qquad \begin{array}{r} ٩٣٧ \\ -\ ٧٢٩ \\ \hline \end{array}$$

ب) اقارن بوضع الاشارة المناسبة > ، < ، =

٣٤٢٧	◯	٣٤٧٢	١٤٦٧١	◯	٣١٢١١٢
٨+٧٠+٢٠٠	◯	٢+٨٠+٧٠٠	٥٥٦٨	◯	٥٥٦٨

يتبع

السؤال الثاني:

ج

رتب الأعداد التالية من الأكبر الى الأصغر

٣٤٥٦ ، ٤٣٥٦ ، ٣٤٦٥ ، ٦٥٤٣

....

د

اختر الخطة المناسبة لحل المسألة

لدى سارة سلة فيها ١٧ تفاحة ، وتريد أن تشارك فيها ٣ من صديقاتها بالتساوي . فما عدد التفاحات التي ستأخذها كل منهن ؟ وكم تفاحة ستبقى دون توزيع ؟

.....

.....

السؤال الثالث:

١٠

أ

التمثيل المجاور يبين الأنشطة المفضلة لدى عدد من الطلاب في أوقات الفراغ

من التمثيل أجب عما يأتي:

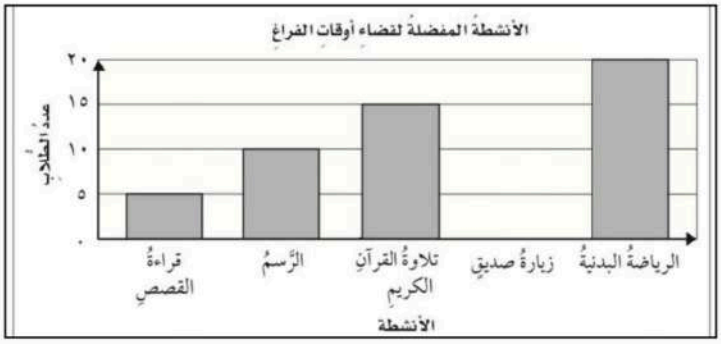

١- ما النشاط الأكثر اختيار بين الطلبة؟

.....

٢- ما الفرق بين الرياضة البدنية وقراءة القصة ؟

.....

٣- ما مجموع الطلاب المشاركين في جميع الأنشطة؟

.....

ب

أكمل الجدول التالي

القاعدة : ▲ + ٥	
المدخلة ▲	المخرجة ■
٤	
٦	
٨	
١٠	

تمت الأسئلة مع تمنياتي لكم بالتوفيق

موقع منهجي
mnhaji.com

نموذج الإجابة

المادة: رياضيات	
الصف : الرابع الابتدائي	
الزمن: ساعتان ونصف	
عدد الأوراق: ٣	

الاختبار النهائي الفصل الدراسي الأول للصف الرابع الابتدائي (الدور الاول) لعام ١٤٤٨ هـ

الاسم	.....	الصف ٤ /	الدرجة المستحقة	
				٤٠

نموذج إجابة

٢٠

السؤال الأول: اختر الإجابة الصحيحة لكل مما يلي بتضليل الحرف الدال عليها:

١	الصيغة القياسية للعدد خمس مئة وستة وعشرون ألفاً واثنا عشر هي:							كل فقرة بدرجة
	أ	٥٢٦٠١٢	ب	٥٢٦١٢	ج	١٢٥٢٦	د	١٢٠٥٢٦
٢	العدد ١٥٤٦٢ مقرباً لاقرب ألف هو:							
	أ	١٥٠	ب	١٥٠٠٠	ج	١٥	د	١٥٤٦٠
٣	الصيغة التحليلية للعدد ٣٢٤٠٥ هي:							
	أ	٥+٤٠٠+٢٠٠٠+٣٠٠٠٠	ب	٥+٤٠+٢٠٠٠+٣٠٠٠٠	ج	٥+٤٠+٢٠٠+٣٠	د	٥+٤+٣+٢
٤	أي من الاعداد التالية هو العدد الأكبر:							
	أ	٧٨٥٤٩٦	ب	٧٥٨٤٦٩	ج	٧٨٥٤٦٩	د	٧٥٨٤٩٦
٥	كتبت عبير خمسة أعداد على السبورة . أي مما يأتي يصف القاعدة التي كتبت بها الأعداد (١٥ ، ١٢ ، ٩ ، ٦ ، ٣)							
	أ	إضافة ٣	ب	طرح ٣	ج	إضافة ٢	د	طرح ٢
٦	الرقم الذي يجعل الجملة العددية التالية صحيحة ٢٣ +(٤+٧) = (..... + ٧) + ٤ هو:							
	أ	٨	ب	٢٣	ج	٧	د	١١
٧	قاعدة الطرح المستخدمة في : ٣٩ - ٣٩ = ٠ هي :							
	أ	العنصر المحايد	ب	طرح الصفر من العدد	ج	طرح العدد من نفسه	د	الابدال
٨	ما أفضل تقدير للعملية ٣٥ + ٤٢ هو							
	أ	٨٠	ب	٧٠	ج	٧	د	٧٧
٩	تستغرق هند ٥ دقائق لتغليف هدية . كم دقيقة تستغرقها لتغليف ١٠ هدايا ؟							
	أ	٥٠	ب	١٠	ج	١٥	د	٥
١٠	للتحقق من عملية الطرح نستخدم عملية							
	أ	الطرح	ب	الجمع	ج	الضرب	د	القسمة
١١	زوج الاعداد الذي لايمكن أن تراه في جدول دالة قاعدته (اضرب في ٦) هو:							
	أ	٥ و ٣٠	ب	٨ و ٢٤	ج	١٠ و ٦٠	د	٧ و ٤٢

يتبع ←

موقع منهجي mnhaji.com

تابع السؤال الأول: (أ)اختر الإجابة الصحيحة لكل مما يلي بتظليل الحرف الدال عليها:

١٢	ما احتمال أن يأتي شهر شوال بعد شهر رجب مباشرة :							
	أ	مؤكد	ب	مستحيل	ج	اقل احتمال	د	أكثر احتمال
١٣	في التمثيل المجاور ما المشروب الأكثر تفضيلاً لدى الطلاب في وجبة الإفطار 							
	أ	عصير البرتقال	ب	الحليب	ج	عصير التفاح	د	الماء
١٤	تبين لوحة الإشارات المجاورة عدد السيارات التي باعها احد معارض السيارات ما اليومان اللذان باع فيهما أقل عدد من السيارات ؟ 							
	أ	السبت والأربعاء	ب	الأحد والثلاثاء	ج	الاثنين والأربعاء	د	الثلاثاء والأربعاء
١٥	أي العمليات التالية تجعل الجملة العددية التالية : ٧٩ ..... ٢٦ = ١٠٥ صحيحة ؟							
	أ	+	ب	-	ج	×	د	÷

(ب) ضع علامة (✓) أمام العبارة الصحيحة وعلامة (✗) أمام العبارة الخاطئة :

٥		
١	القيمة المنزلية للرقم ٤ في العدد ٦٤٢٢١٣٧٦ هي ٤٠٠٠٠٠٠ كل فقرة بدرجة	✓
٢	٩ + ٢٠ + ٧٠٠ + ٤٠٠٠٠ + ٣٠٠٠٠٠ هي الصيغة التحليلية للعدد ٣٤٠٧٢٩	✓
٣	يوضح التمثيل بالخطوط كيف تتغير مجموعة من البيانات مع مرور الزمن	✓
٤	٤ + ٨ + ٩ = ٢١ تسمى عبارة عددية	✗
٥	الترتيب الصحيح للخطوات الأربع لحل المسألة هو خطط -افهم -حل - تحقق	✗

السؤال الثاني: (١٠) كل فقرة بدرجتين

(أ)أوجد ناتج العمليات التالية :

$$\begin{array}{r} {\scriptstyle 1} \\ 463 \\ +\ 85 \\ \hline 548 \end{array} \qquad \begin{array}{r} 937 \\ -\ 729 \\ \hline 208 \end{array}$$

ب) اقارن بوضع الاشارة المناسبة > ، < ، =

٣٤٧٣	<	٣٤٧٢	١٤٦٧١	>	٣١٢١١٢
٨+٧٠+٢٠٠	>	٢+٨٠+٧٠٠	٥٥٦٨	=	٥٥٦٨

يتبع ←

موقع منهجي mnhaji.com

السؤال الثاني:

ج رتب الأعداد التالية من الأكبر الى الأصغر

٣٤٥٦ ، ٤٣٥٦ ، ٣٤٦٥ ، ٦٥٤٣

٦٥٤٣ ٤٣٥٦ ٣٤٦٥ ٣٤٥٦

د اختر الخطة المناسبة لحل المسألة

لدى سارة سلة فيها ١٧ تفاحة ، وتريد أن تشارك فيها ٣ من صديقاتها بالتساوي . فما عدد التفاحات التي ستأخذها كل منهن ؟ وكم تفاحة ستبقى دون توزيع ؟

خطة الرسم ، التمثيل ويقبل أي خطة

١٧ ÷ ٤ = ٤ تفاحات ويبقى تفاحة واحدة

السؤال الثالث:

١٠

كل فقرة بدرجتين

أ التمثيل المجاور يبين الأنشطة المفضلة لدى عدد من الطلاب في أوقات الفراغ من التمثيل أجب عما يأتي:

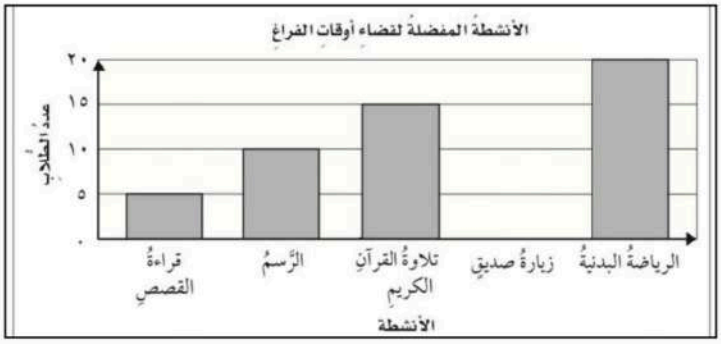

١- ما النشاط الأكثر اختيار بين الطلبة؟

الرياضة البدنية

٢- ما الفرق بين الرياضة البدنية وقراءة القصة ؟

٢٠ - ٥ = ١٥

٣- ما مجموع الطلاب المشاركين في جميع الأنشطة؟

٢٠ + ١٥ + ١٠ + ٥ = ٥٠ طالباً

ب أكمل الجدول التالي

القاعدة : ▲ + ٥	
المدخلة ▲	المخرجة ■
٤	٩
٦	١١
٨	١٣
١٠	١٥

موقع منهجي mnhaji.com تمت الأسئلة مع تمنياتي لكم بالتوفيق

الإختبار النهائي

للفصل الدراسي الأول ١٤٤٨هـ

المادة : رياضيات

الصف : الرابع / .....

اسم الطالب / .....

اختر الإجابة الصحيحة مما يأتي : **كل سؤال درجتان**

م	السؤال	خيارات الإجابة
١	العدد ٤٥٣٧١٩ مكتوب بالصيغة ؟	اللفظية ، القياسية ، التحليلية
٢	الصيغة االقياسية للعدد ٦ + ٧٠ + ٩٠٠ + ٤٠٠٠٠	٤٠٩٧٦ ، ٤٩٧٦ ، ٤٠٠٩٧٦
٣	ما القيمة المنزلية للرقم ٣ في العدد ٨٥٧٣٩١	٣٠٠ ، ٣٠٠٠ ، ٧٠
٤	العدد ٤٦٠٣٢ مقربا الى عشرات الألوف؟	٥٠٠٠٠ ، ٥٠٠٠ ، ٤٠٠٠٠
٥	٤+ ٠ = ٤ خاصية ؟	العنصر المحايد ، ابدال ، تجميع
٦	٤+(١+٩) = (٤+١)+٩ خاصية ؟	تجميع ، ابدال ، عنصر محايد
٧	اختر العلامة المناسبة لتصبح المقارنة صحيحة (٩٦٤٣٣ ..... ٩٦٦٣٣)	< ، = ، >
٨	عندما اجمع او اطرح ابدأ دائما من منزلة ؟	المئات ، العشرات ، الآحاد
٩	اوجد ناتج الجمع ؟ ٣٦٠ +٣٦٧	١٠ اوجد ناتج الطرح ؟ ٨٠٧ -٣٥٣



	السؤال	خيارات الإجابة
١١	الأعداد التالية مرتبة من الأكبر الأصغر ٧٦٤٣ ، ٧٦٥٤ ، ٤٣٧٦	صواب ، خطأ
١٢	(٧ × ٥) هذه جملة عددية	صواب ، خطأ
١٣	(٦ + ٥ = ١١) هذه جملة عددية ؟	صواب ، خطأ
١٤	يمثل العدد ٥ بالاشارات كالتالي ////	صواب ، خطأ
١٥	يمكن تنظيم البيانات في لوحة إشارات أو جدول تكراري ؟	صواب ، خطأ
١٦	اذا تم تدوير القرص احتمال وقوف المؤشر على الرقم ٦ ؟ 	١من٦ ، ٢من٦ ، ٣من٦
١٧	اذا تم تدوير القرص احتمال وقوف المؤشر على عدد فردي هو ؟ 	مستحيل ، مؤكد ، اكثر احتمالا
١٨	نوع التمثيل المجاور هو تمثيل ؟ 	بالأعمدة ، بالخطوط ، بالنقاط
١٩	١+٣ = ٣+١ خاصية؟	ابدال ، عنصر محايد ، تجميع
٢٠	أكمل الجدول التالي ؟	

القاعدة : △ + ٣				
المدخلة △	٦	٨	١٠	١٢
المخرجة □	٩	١١		

تمت الأسئلة ...
موقع منهجي
mnhaji.com

نموذج الإجابة

الإختبار النهائي

للفصل الدراسي الأول ١٤٤٨هـ

المادة : رياضيات

الصف : الرابع / .....

اسم الطالب / .....نموذج إجابة.....

اختر الإجابة الصحيحة مما يأتي : **كل سؤال درجتان**

م	السؤال	خيارات الإجابة
١	العدد ٤٥٣٧١٩ مكتوب بالصيغة ؟	**اللفظية** ، القياسية ، التحليلية
٢	الصيغة االقياسية للعدد ٦ + ٧٠ + ٩٠٠ + ٤٠٠٠٠	**٤٠٩٧٦** ، ٤٩٧٦ ، ٤٠٠٩٧٦
٣	ما القيمة المنزلية للرقم ٣ في العدد ٨٥٧٣٩١	**٣٠٠** ، ٣٠٠٠ ، ٧٠
٤	العدد ٤٦٠٣٢ مقربا الى عشرات الألوف؟	**٥٠٠٠٠** ، ٥٠٠٠ ، ٤٠٠٠٠
٥	٤+ ٠ = ٤ خاصية ؟	**العنصر المحايد** ، ابدال ، تجميع
٦	٤+(١+٩) = (٤+١)+٩ خاصية ؟	**تجميع** ، ابدال ، عنصر محايد
٧	اختر العلامة المناسبة لتصبح المقارنة صحيحة (٩٦٤٣٣ ..... ٩٦٦٣٣)	< ، = ، **>**
٨	عندما اجمع او اطرح ابدأ دائما من منزلة ؟	المئات ، العشرات ، **الآحاد**
٩	اوجد ناتج الجمع ؟ ٣٦٠ + ٣٦٧ ٧٢٧	١٠ اوجد ناتج الطرح ؟ ٨٠٧ - ٣٥٣ ٤٥٤

موقع منهجي
mnhaji.com

	السؤال	خيارات الإجابة
١١	الأعداد التالية مرتبة من الأكبر الأصغر ٧٦٤٣ ، ٧٦٥٤ ، ٤٣٧٦	صواب ، **خطأ**
١٢	(٧ × ٥) هذه جملة عددية	صواب ، **خطأ**
١٣	(٦ + ٥ = ١١) هذه جملة عددية ؟	**صواب** ، خطأ
١٤	يمثل العدد ٥ بالاشارات كالتالي ////	**صواب** ، خطأ
١٥	يمكن تنظيم البيانات في لوحة إشارات أو جدول تكراري ؟	**صواب** ، خطأ
١٦	اذا تم تدوير القرص احتمال وقوف المؤشر على الرقم ٦ ؟ 	**١من٦** ، ٢من٦ ، ٣من٦
١٧	اذا تم تدوير القرص احتمال وقوف المؤشر على عدد فردي هو ؟ 	**مستحيل** ، مؤكد ، اكثر احتمالا
١٨	نوع التمثيل المجاور هو تمثيل ؟ 	**بالأعمدة** ، بالخطوط ، بالنقاط
١٩	٣+١ = ١+٣ خاصية؟	**ابدال** ، عنصر محايد ، تجميع
٢٠	أكمل الجدول التالي ؟	

القاعدة : △ + ٣				
المدخلة △	٦	٨	١٠	١٢
المخرجة □	٩	١١	**١٣**	**١٥**

تمت الأسئلة ...

موقع منهجي
mnhaji.com

بسم الله الرحمن الرحيم

المادة: رياضيات

الصف: الرابع الابتدائي

الزمن : ساعتان

الأسئلة: عدد (٣)

موقع منهجي
mnhaji.com

اختبار الفصل الدراسي الأول (الدور الأول) للصف الرابع الابتدائي لعام ١٤٤٨ هـ

(مستعيناً بالله اجيب عن الأسئلة التالية)

١٥

السؤال الأول: اختار الاجابة الصحيحة فيما يلي: خمسة عشر درجة بواقع درجة لكل فقرة)

١	**٣٤٢٨ القِيمةَ المنزليةَ للرَّقمِ الَّذِي تحتَهُ خطٌّ:**			
	أ) ٤	ب) ٤٠	ج) ٤٠٠	د) ٤٠٠٠
٢	**الصِّيغة التَّحليليَّةِ للعدد ٧٠٠٢ هي :**			
	أ) ٢ + ٧٠	ب) ٢ + ٧٠٠٠	ج) ٧ + ٢٠٠	د) ٢ +٧
٣	**الصيغةَ العددية للفظ (ثمانيةِ ملايينَ وستمائةٍ وثلاثةِ آلاف وسبعمائةٍ وخمسٍ وخمسينَ)**			
	أ) ٨٥٠٣٧٥٠	ب) ٦٠٣٦٥٥	ج) ٨٦٠٣٧٥٥	د) ٥٦٠٢٧٥٥
٤	**قَرِّبْ العددِ ١٧٠٩٣٨٥ إلَى أقربِ مليونٍ :**			
	أ) ١٠٠٠٠	ب) ٢٠٠٠٠٠٠	ج) ١٧٠٩٠٠٠	د) ١٧٠٩٣٠٠
٥	**أي مما يلي أكبر من العدد ٨ ٣٤٢ ٣٢٤**			
	أ) ٩ ٩٥٤ ٣٢٣	ب) ٢ ٩٠٢ ٤٣٤	ج) ٤ ٢٣١ ٩٨٤	د) ٣ ٠٠٤ ٩٠٠
٦	**(٢+٩) +٥ = ٢ + (٩+ ٥) خاصِّيَّةَ الجمع هنا هي:**			
	أ) طرح عدد من نفسه	ب) العنصر المحايد	ج) الابدال	د) التجميع
٧	**ناتج تقدير ٣٩ + ٢١ الى أقرب عشرة هو**			
	أ) ٦٠	ب) ٨٠	ج) ٩٠	د) ١٠٠
٨	**١٤ - نوع التمثيل المجاور هو تمثيل بـ** 			
	أ) الأعمدة	ب) الخطوط	ج) القطاعات دائرية	د) الصور
٩	**إذا تمَّ تدويرُ المؤشِّرِ، فإحتمال أن يتوقف عند العدد ٩ هو** 			
	أ) مُؤكَّدٌ	ب) أقلُ احتِمالً،	ج) مُتساوِي الإمكانيَّةِ،	د) مستحيلٌ
١٠	**أي مما يلي هي جملة عددية :**			
	أ) ٢+١ = ٣	ب) ٧ -٣	ج) ٦-٤+٢	د) ١٦ + ٢٢

١١	العمليَّةَ الَّتِي تجعلُ الجُملَ العدديَّةَ الآتيةَ صحيحةً ٢ □ ٩ < ١١			
	أ) +	ب) -	ج) ÷	د) x
١٢	ما الرمزُ الذِي يجعل الجملةَ العدديةَ التاليةَ صحيحةً ٥١٣٩٧٤٥٦ □ ٥١٣٩٧٦٥٤			
	أ) <	ب) >	ج) =	د) +
١٣	كتبتْ عبيرُ خمسةَ أعدادٍ علَى السبورةِ. (٣ ، ٦ ، ٩ ، ١٢ ، ١٥) أيٌّ ممَّا يأتِي يصفُ القاعدةَ التِي كتبتْ بهَا الأعدادَ؟			
	أ) إضافةُ ٣	ب) طرحُ ٣	ج) إضافةُ ٢	د) طرحُ ٢
١٤	(لدى مزارع ٦ بقرات باع منها ٣ فكم بقرة تبقت لديه) الجملة العددية التي تمثل المسألة السابقة هي :			
	أ) ٦ -٣ = ٣	ب) ٦ +٣ = ٩	ج) ٦ + ٣	د) ٦ × ٣
١٥	احتمال اختيار بطاقة كتب عليها الحرف (ا) دون النظر إلى البطاقات هو: 			
	أ) ١ من ٧	ب) ٣ من ٧	ج) ٤ من ٧	د) ٢ من ٧

١٠

السؤال الثاني (عشر درجات)

أ)ضع علامة (✓) إذا كانت العبارة صحيحة وعلامة (x) إذا كانت العبارة خطأ: (خمس درجات بواقع درجة لكل فقرة)

١	في العدد ٢٣ ٤٩١ ٣٢٢ يقع الرقم ٤ في منزلة الآحاد.	( )
٢	ناتج جمع ٣٤٢ + ٢٢١ هو ٥٦٣	( )
٣	عندمَا تطرحُ، تبدأُ دائمًا بمنزلةِ المئات	( )
٤	٢١ + ٣٧ = ٣٧ + ٢١ الخاصية هنا هي خاصية الابدال	( )
٥	يمثل العدد ٦ بالإشارات كالتالي ###	( )

٥

ب) أكمل الفراغ (خمس درجات بواقع درجة لكل فقرة)

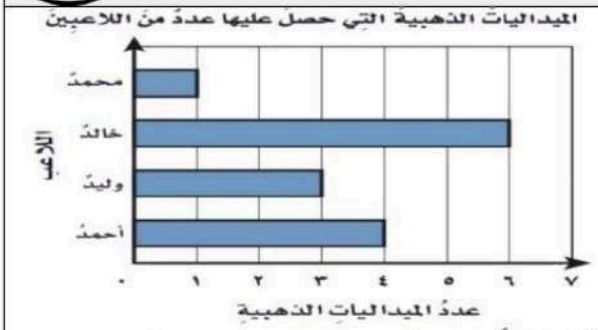

١-من التمثيل بالأعمدة المجاورة عدد بطولات خالد .....

٢-يقرّبُ العددِ ٨٣٤ إلى أقربِ مئةٍ .....

٣-العدد المفقود في الجملة ٤+□= ٤ هو .....

٤-إذا كان معَ عائشةَ ٩٥ ريالً. إذَا اشترتْ هديَّةً لأُمِّها بِ ٢٥ ريالً، فيتبقَّى معَها ..... ريال.

٥-صندوقٌ يحتوي علَى عشر بطاقاتٍ مرقمةٍ من (١-١٠) سُحِبتْ بطاقةٌ منَ الصندوقِ دونَ النظر إليهَا.

فما احتمال ان يكون عددٌ أكبر من ١٠ .....

السؤال الثالث (خمس عشر درجة)

١٠

أجب عن المطلوب ما يلي

١ — **رتِّبِ الأعدادَ التَّاليةَ مِن الأكبرِ إلى الأصغرِ:** (٢)

٧٩٩٢٠ ، ٨٢٢٣٤ ، ٩٧٩٠٢ ، ٩٠١٢٥

....

٢ — **أوجِدْ ناتجَ الجمعِ و الطرح.** (٤)

٢٣٨٢٤ + ٧٣٤٦

٢٩٦٢ − ٨٤٥

٣ — **اِستعملِ التَّمثيلَ بِالقطاعَاتِ الدَّائريَّةِ فِي الشَّكلِ المُجاورِ لِلإجَابةِ** عن الآتي : (٣)

١- مَا الفَاكِهةُ المُفضَّلةُ لَدى ١١٠ من طلابِ المَدرَسة؟

.....

٢- كَمْ عَددُ الطُّلابِ الَّذينَ يُفضِّلونَ البَطِّيخَ؟

.....

٣- مَا الفَاكِهةُ الأكثَرُ تَفضِيلً لدَى الطُّلابِ

.....

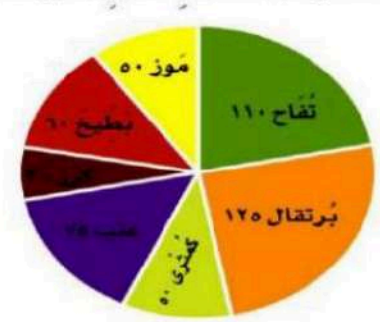

٤ — **اكتبْ عبارةً وجملةً عدديةً للمسألةِ الاتية:** (٢)

لدى رُبَى ١٠قطعٍ منَ الشوكولاتةِ ،أعطتْ ٤ منها لصديقاتِها. فكمْ قطعةَ شوكولاتةٍ بقيَتْ لديها؟

الجملة العددية .....

العبارة العددية .....

٥ — **أكملْ جدولِ الدالة فيمَا يلِي:** (٤)

القاعدةُ: △ + ٣	
المدخلةُ (△)	المخرجةُ (□)
٧	
١٠	
١٣	
٢٧	

همسة لقلبك : سعيك سوف يُرى .. استقبل هذه العبارة بحب وبهجة عالية موقناً بأن مرادك قد اقترب

انتهت الأسئلة ..... مع تمنياتي لك بالتوفيق **معلم المادة /**

موقع منهجي
mnhaji.com

بسم الله الرحمن الرحيم

المادة: رياضيات

الصف: الرابع الابتدائي

الزمن : ساعتان

الأسئلة: عدد (٣)

نموذج الإجابة

اختبار الفصل الدراسي الأول (الدور الأول) للصف الرابع الابتدائي لعام ١٤٤٨ هـ

(مستعيناً بالله اجيب عن الأسئلة التالية)

١٥

السؤال الأول: اختار الاجابة الصحيحة فيما يلي: خمسة عشر درجة بواقع درجة لكل فقرة)

١	٣٤٢٨ القِيمةَ المنزليةَ للرَّقمِ الَّذِي تحتَهُ خطٌّ:			
	أ) ٤	ب) ٤٠	ج) ٤٠٠	د) ٤٠٠٠
٢	الصِّيغة التَّحليليَّةِ للعدد ٧٠٠٢ هي :			
	أ) ٢ + ٧٠	ب) ٢ + ٧٠٠٠	ج) ٧ + ٢٠٠	د) ٢ +٧
٣	الصيغةَ العددية للفظ (ثمانيةِ ملايينَ وستمائةٍ وثلاثةِ آلاف وسبعمائةٍ وخمسٍ وخمسينَ)			
	أ) ٨٥٠٣٧٥٠	ب) ٦٠٣٦٥٥	ج) ٨٦٠٣٧٥٥	د) ٥٦٠٢٧٥٥
٤	قَرِّبْ العددِ ١٧٠٩٣٨٥ إلَى أقربِ مليونٍ :			
	أ) ١٠٠٠٠	ب) ٢٠٠٠٠٠٠	ج) ١٧٠٩٠٠٠	د) ١٧٠٩٣٠٠
٥	أي مما يلي أكبر من العدد ٣٢٤ ٣٤٢ ٨			
	أ) ٣٢٣ ٩٥٤ ٩	ب) ٤٣٤ ٩٠٢ ٢	ج) ٩٨٤ ٢٣١ ٤	د) ٩٠٠ ٤٠٠ ٣
٦	(٢+٩) +٥ = ٢ + (٩+ ٥) خاصِّيَّةَ الجمع هنا هي:			
	أ) طرح عدد من نفسه	ب) العنصر المحايد	ج) الابدال	د) التجميع
٧	ناتج تقدير ٣٩ + ٢١ الى أقرب عشرة هو			
	أ) ٦٠	ب) ٨٠	ج) ٩٠	د) ١٠٠
٨	١٤ - نوع التمثيل المجاور هو تمثيل بـ 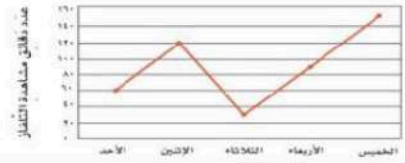			
	أ) الأعمدة	ب) الخطوط	ج) القطاعات دائرية	د) الصور
٩	إذا تمَّ تدويرُ المؤشِّرِ، فإحتمال أن يتوقف عند العدد ٩ هو 			
	أ) مُؤكَّدٌ	ب) أقلُ احتِمالاً،	ج) مُتساوِي الإمكانيَّةِ،	د) مستحيلٌ
١٠	أي مما يلي هي جملة عددية :			
	أ) ٢+ = ٣	ب) ٧ -٣	ج) ٦-٤+٢	د) ١٦ + ٢٢

يتبع ←

موقع منهجي
mnhaji.com

١١	العمليَّةَ الَّتِي تجعلُ الجُملَ العدديَّةَ الآتيةَ صحيحةً ٢ ☐ ٩ < ١١			
	أ) +	ب) -	ج) ÷	د) x
١٢	ما الرمزُ الذِي يجعل الجملةَ العدديةَ التاليةَ صحيحةً ٥١٣٩٧٤٥٦ ☐ ٥١٣٩٧٦٥٤			
	أ) <	ب) >	ج) =	د) +
١٣	كتبتْ عبيرُ خمسةَ أعدادٍ علَى السبورةِ. (٣ ، ٦ ، ٩ ، ١٢ ، ١٥) أيٌّ ممَّا يأتِي يصفُ القاعدةَ التِي كتبتْ بهَا الأعدادَ؟			
	أ) إضافةُ ٣	ب) طرحُ ٣	ج) إضافةُ ٢	د) طرحُ ٢
١٤	(لدى مزارع ٦ بقرات باع منها ٣ فكم بقرة تبقت لديه) الجملة العددية التي تمثل المسألة السابقة هي :			
	أ) ٦ -٣ = ٣	ب) ٦ +٣ = ٩	ج) ٦ + ٣	د) ٦ × ٣
١٥	احتمال اختيار بطاقة كتب عليها الحرف (ا) دون النظر إلى البطاقات هو: ر ي ا ض ي ا ت			
	أ) ١ من ٧	ب) ٣ من ٧	ج) ٤ من ٧	د) ٢ من ٧

١٠

السؤال الثاني (عشر درجات)

أ)ضع علامة (✓) إذا كانت العبارة صحيحة وعلامة (x) إذا كانت العبارة خطأ: (خمس درجات بواقع درجة لكل فقرة)

١	في العدد ٣٢٢ ٤٩١ ٢٣ يقع الرقم ٤ في منزلة الآحاد.	(✗)
٢	ناتج جمع ٣٤٢ + ٢٢١ هو ٥٦٣	(✓)
٣	عندمَا تطرحُ، تبدأُ دائمًا بمنزلةِ المئات الاحاد	(✗)
٤	٢١ + ٣٧ = ٣٧ + ٢١ الخاصية هنا هي خاصية الابدال	(✓)
٥	يمثل العدد ٦ بالإشارات كالتالي 𝍸 𝍸 ١	(✗)

ب) أكمل الفراغ (خمس درجات بواقع درجة لكل فقرة)

٥

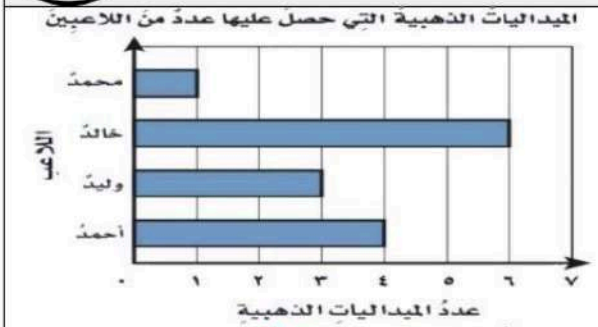

١-من التمثيل بالأعمدة المجاورة عدد بطولات خالد ..٦.....

٢-يقرّبْ العددِ ٨٣٤ إلى أقربِ مئةٍ .....٨٠٠.....

٣-العدد المفقود في الجملة ٤+☐= ٤ هو .....صفر.....

٤-إذا كان معَ عائشةَ ٩٥ ريالً. إذَا اشترتْ هديَّةً لأُمِّها بِ ٢٥ ريالً، فيتبقَّى معَها .....٧٠..... ريال.

٥-صندوقٌ يحتوي علَى عشر بطاقاتٍ مرقمةٍ من (١-١٠) سُحِبتْ بطاقةٌ منَ الصندوقِ دونَ النظر إليهَا.

فما احتمال ان يكون عددٌ أكبر من ١٠ ...مستحيل...

موقع منهجي
mnhaji.com

السؤال الثالث (خمس عشر درجة)

١٠

أجب عن المطلوب ما يلي

١ رتِّبِ الأعدادَ التَّاليةَ مِن الأكبرِ إلى الأصغرِ: (٢)

٧٩٩٢٠ ، ٨٢٢٣٤ ، ٩٧٩٠٢ ، ٩٠١٢٥

٤ ٣ ١ ٢

٧٩٩٢٠ ، ٨٢٢٣٤ ، ٩٧٩٠٢ ، ٩٠١٢٥

٢ أوجِدْ ناتجَ الجمعِ و الطرحِ. (٤)

٢٣٨٢٤ + ٧٣٤٦ = ٣١١٧٠

٢٩٦٢ − ٨٤٥ = ٢١١٧

٣ إستعملِ التَّمثيلَ بالقطاعاتِ الدَّائريَّةِ فِي الشَّكلِ المُجاورِ لِلإجَابةِ عن الآتي : (٣)



١- مَا الفَاكِهةُ المُفضَّلةُ لَدى ١١٠ من طلابِ المَدرَسة؟

تفاح

٢- كَمْ عَددُ الطُّلابِ الَّذينَ يُفضِّلونَ البَطِّيخَ؟

٦٠ طالب

٣- مَا الفَاكِهةُ الأكثَرُ تَفضيلً لدَى الطُّلابِ

برتقال

٤ اكتبْ عبارةً وجملةً عدديةً للمسألةِ الاتية: (٢)

لدى رُبَى ١٠قطعٍ منَ الشوكولاتةِ ،أعطتْ ٤ منها لصديقاتِها. فكمْ قطعةَ شوكولاتةٍ بقيَتْ لديها؟

الجملة العددية ١٠ − ٤ = ٦

العبارة العددية ١٠ − ٤

٥ أكملْ جدولِ الدالة فيمَا يلِي: (٤)

القاعدةُ: △ + ٣	
المدخلةُ (△)	المخرجةُ (□)
٧	١٠
١٠	١٣
١٣	١٦
٢٧	٣٠

همسة لقلبك : سعيك سوف يُرى .. استقبل هذه العبارة بحب وبهجة عالية موقناً بأن مرادك قد اقترب

انتهت الأسئلة ..... مع تمنياتي لك بالتوفيق معلم المادة /

موقع منهجي
mnhaji.com

المادة / رياضيات
الصف / الرابع الابتدائي
الزمن / ساعتان
التاريخ / / / ١٤٤٨

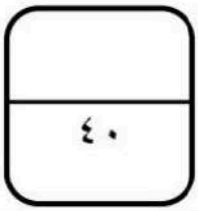



اختبار الفصل الدراسي الأول (الدور الأول) للعام الدراسي ١٤٤٨ هـ

اسم الطالب /

١٥

ضع دائرة حول الإجابة الصحيحة فيما يلي :

١ / القيمة المنزلية للرقم الذي تحته خط في العدد (٩٣٢٦٨٥)			
أ / ٦٠	ب / ٦٠٠	ج / ٦	د / ٦٠٠٠
٢ / العدد خمس وعشرون ألفا ومئة وثلاثة بالصيغة القياسية هو :			
أ / ٢٢٩٠٥	ب / ٢٩٢٢٥	ج / ٢٩٢٠٥	د / ٢٥١٠٣
٣ / الرقم الذي يجعل الجملة صحيحة ٢٣ + (٧ + ٤) = (☐ + ٧) + ٤ هو :			
أ / ٨	ب / ٩	ج / ١٣	د / ٢٣
٤ / قاعدة الجمع المستخدمة: (١٥ + ٢٤ = ٢٤ + ١٥)			
أ / الابدال	ب / العنصر المحايد	ج / التجميع	د / الطرح
٥ / أي مما يأتي يجعل الجملة العددية صحيحة (١٥ + ١٢ = _____) :			
أ / ٢٠	ب / ٢٤	ج / ٢٧	د / ٢٠
٦ / الرمز الصحيح للمقارنة بين العددين (٥٠٩٠ ☐ ٥٩٠٠)			
أ / =	ب / >	ج / <	د / +
٧ / العدد المفقود (٢٥ - _____ = ٢٥) :			
أ / ٢٥	ب / صفر	ج / ٥	د / ٢
٨ / عندما نقرب العدد (٥٦٨) الى اقرب عشرة الناتج :			
أ / ٨٦٥	ب / ٨٠٠	ج / ٥٧٠	د / ٥٠٠
٩ / أي مما يلي يمثل الجملة العددية في الرسم المجاور؟ 			
أ / ٥ + ٢ = ٧	ب / ٥ ـ ٢ = ٣	ج / ٢ ـ ٥ = ٣	د / ٣ + ٢ = ٥

١٠ / نوع التمثيل المجاور هو تمثيل 

أ / بالأعمدة	ب / الخطوط	ج / القطاعات الدائرية	د / بالصور

ضع علامة (√) أمام العبارة الصحيحة وعلامة (×) أمام العبارة الخاطئة فيما يلي:	
١ / العدد (٥٤٧٨ > ٥٤٣٢)	
٢ / يمثل العدد (٥) بالاشارات كالتالي 𝍸	
٣ / العدد (٦٤٢٥٨) مكتوب بالصيغة التحليلية	
٤ / الصيغة التحليلية للعدد (٩٤٧) هي = ٧ + ٤٠ + ٩٠٠	
٥ / (٢ + ٣ + ٥ = ١٠) تسمى عبارة عددية	

٥

اِستعمِلِ التَّمثيلَ بالأعمدةِ المجاورَ للإجابةِ عنِ الأسئلةِ

١ ما الصَّفُّ الذي حصلَ علَى أكبرِ عددٍ منَ البطولاتِ؟

٢ ما الصَّفُّ الذي حصَلَ علَى ٣ بطولاتٍ؟

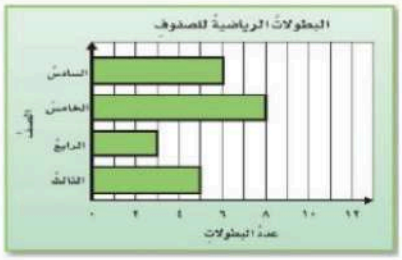

٢

إذا علِمتَ أنَّ عُمْرَ فاطمةَ يزيدُ على عُمْرِ أُختِها بـ ٥ سنواتٍ، فَاسْتعمِلْ قاعدةَ الدَّالَّةِ في الجدولِ المُجاورِ لتجدَ عُمْرَ فاطمةَ، عندمَا يكونُ عُمْرُ أختِها ١، ٢، ٣، ٤ سنواتٍ.

القاعدةُ: △+٥	
المُدخلةُ △	المُخرَجةُ □
١	
٢	
٣	
٤	

٤

قارن مستعملا (> ، < ، =)	
٣٠٣٠ ◯ ٣٠٣٠	٧٦١٠ ◯ ٧٧٠٠
١٢٨٦٣ ◯ ١٢٨٣٦	٣٤٧٢ ◯ ٣٤٢٧

٤

اكتب العملية (+ او -) التي تجعل الجملة العددية التالية صحيحة :	
١٨ ◯ ٩ = ٩	١٩ ◯ ٢٠ > ٣٨

٢

٣٩٤	٥٢٤	٤٠٠٥	٣٤٥٦
+ ٢٦٤	- ١٤٢	- ٢٧٣	+ ٣٩٠١

٨

نموذج الإجابة

المادة / رياضيات
الصف / الرابع الابتدائي
الزمن / ساعتان
التاريخ / / / ١٤٤٨

٤٠

اختبار الفصل الدراسي الأول (الدور الأول) للعام الدراسي ١٤٤٨ هـ

اسم الطالب /

ضع دائرة حول الإجابة الصحيحة فيما يلي :

١٥

١ / القيمة المنزلية للرقم الذي تحته خط في العدد (٩٣٢٦٨٥)			
أ / ٦٠	ب / ٦٠٠	ج / ٦	د / ٦٠٠٠
٢ / العدد خمس وعشرون ألفا ومئة وثلاثة بالصيغة القياسية هو :			
أ / ٢٢٩٠٥	ب / ٢٩٢٢٥	ج / ٢٩٢٠٥	د / ٢٥١٠٣
٣ / الرقم الذي يجعل الجملة صحيحة ٢٣ + (٧ + ٤) = (☐ + ٧) + ٤ هو :			
أ / ٨	ب / ٩	ج / ١٣	د / ٢٣
٤ / قاعدة الجمع المستخدمة: (١٥ + ٢٤ = ٢٤ + ١٥)			
أ / الابدال	ب / العنصر المحايد	ج / التجميع	د / الطرح
٥ / أي مما يأتي يجعل الجملة العددية صحيحة (١٥ + ١٢ = _____) :			
أ / ٢٠	ب / ٢٤	ج / ٢٧	د / ٢٠
٦ / الرمز الصحيح للمقارنة بين العددين (٥٠٩٠ ☐ ٥٩٠٠)			
أ / =	ب / >	ج / <	د / +
٧ / العدد المفقود (٢٥ - صفر = ٢٥) :			
أ / ٢٥	ب / صفر	ج / ٥	د / ٢
٨ / عندما نقرب العدد (٥٦٨) الى اقرب عشرة الناتج :			
أ / ٨٦٥	ب / ٨٠٠	ج / ٥٧٠	د / ٥٠٠
٩ / أي مما يلي يمثل الجملة العددية في الرسم المجاور؟ 			
أ / ٥ + ٢ = ٧	ب / ٥ ـ ٢ = ٣	ج / ٢ ـ ٥ = ٣	د / ٣ + ٢ = ٥

١٠ / نوع التمثيل المجاور هو تمثيل 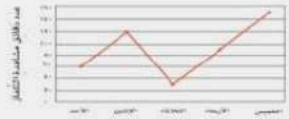			
أ / بالأعمدة	ب / الخطوط	ج / القطاعات الدائرية	د / بالصور

موقع منهجي
mnhaji.com

ضع علامة (√) أمام العبارة الصحيحة وعلامة (×) أمام العبارة الخاطئة فيما يلي:

١ / العدد (٥٤٧٨ > ٥٤٣٢)	✓
٢ / يمثل العدد (٥) بالاشارات كالتالي 𝍸	✓
٣ / العدد (٦٤٢٥٨) مكتوب بالصيغة التحليلية قياسية	✗
٤ / الصيغة التحليلية للعدد (٩٤٧) هي = ٧ + ٤٠ + ٩٠٠	✓
٥ / (٢ + ٣ + ٥ = ١٠) تسمى عبارة عددية جملة	✗

٥

اِستعمِلِ التَّمثيلَ بالأعمدةِ المجاورَ للإجابةِ عنِ الأسئلةِ

١ ما الصَّفُّ الذِي حصلَ علَى أكبرِ عددٍ منَ البطولاتِ؟ الخامس

٢ ما الصَّفُّ الذِي حصَلَ علَى ٣ بطولاتٍ؟ الرابع

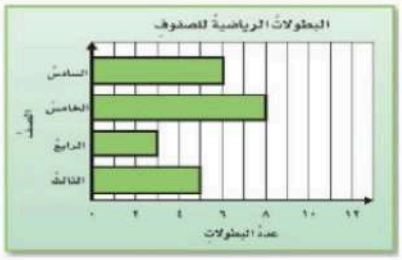

٢

إذا علِمتَ أنَّ عُمْرَ فاطمةَ يزيدُ على عُمْرِ أُختِها بـ ٥ سنواتٍ، فَاسْتعمِلْ قاعدةَ الدَّالَّةِ في الجدولِ المُجاورِ لتجدَ عُمْرَ فاطمةَ، عندمَا يكونُ عُمْرُ أختِها ١، ٢، ٣، ٤ سنواتٍ.

القاعدةُ: △+٥	
المُدخَلةُ △	المُخرَجةُ □
١	٦
٢	٧
٣	٨
٤	٩

٤

قارن مستعملا (< ، > ، =)

٣٠٣٠ = ٣٠٣٠	٧٦١٠ > ٧٧٠٠
١٢٨٦٣ < ١٢٨٣٦	٣٤٧٢ < ٣٤٢٧

٤

اكتب العملية (+ او -) التي تجعل الجملة العددية التالية صحيحة :

١٨ − ٩ = ٩	١٩ + ٢٠ > ٣٨

٢

٣٩٤	٤ ٥ ٢ ٤	٥ ٤ ٣	٣٤٥٦
+ ٢٦٤	- ١٤٢	- ٢٧٣	+ ٣٩٠١
٦٥٨	٣٨٢	٣٧٣٢	٧٣٥٧

٨

موقع منهجي
mnhaji.com

المادة	رياضيات
الصف	الرابع
الزمن	ساعتان

موقع منهجي
mnhaji.com

اختبار الفصل الدراسي الأول للعام الدراسي ١٤٤٨ هـ

المصحح	المراجع	المدقق	الدرجة	اسم الطالب
الاسم /	الاسم /	الاسم /	رقما /	.....
التوقيع /	التوقيع /	التوقيع /	كتابة /	

السؤال الأول: أ) اختر الإجابة الصحيحة فيما يلي : (٢٠)

١ ـ ما القيمة المنزلية للرقم ٥ في العدد ٦٥٩٨٢٠ ؟

أ	٥٠	ب	٥٠٠	ج	٥٠٠٠	د	٥٠٠٠٠

٢ ـ يكتب العدد (سبعة ملايين ومئة واثنان وأربعون ألف وثمان مئة وتسعة عشر) بالصيغة القياسية كالتالي :

أ	٧٤٢١٨١٦	ب	٩١٨٢٤١٧	ج	٧١٤٢٨١٩	د	١٩٨٢٤١٧

٣ ـ الصيغة التحليلية للعدد ٩٠٧٤٠ هي :

أ	٩+٧+٤	ب	٤٠ +٧٠٠ +٩٠٠٠٠	ج	٩٠ +٤٠٠ +٧٠٠٠	د	٤ +٧٠٠ +٩٠٠٠

٤ ـ عند تقريب العدد ٣٤٩١٦٨ إلى أقرب مئة ألف يصبح :

أ	٣٠٠	ب	٣٤٠٠٠٠	ج	٣٠٠٠٠٠	د	٤٠٠٠٠٠

٥ ـ تستغرق مريم ٥ دقائق لتغليف هدية، كم دقيقة تستغرقها لتغليف ١٠ هدايا ؟

أ	١٥ دقيقة	ب	٢٠ دقيقة	ج	٤٠ دقيقة	د	٥٠ دقيقة

٦ ـالعدد الذي يجعل الجملة العددية التالية صحيحة (٢٣ + ☐) + ١١ = ٢٣ + (١٥ +١١) هو:

أ	١١	ب	١٥	ج	٢٣	د	٢٥

٧ ـ قاعدة الطرح المستعملة في ٢١ ـ ☐ = ٢١ هي :

أ	العنصر المحايد	ب	طرح الصفر من عدد	ج	التجميع	د	الابدال

٨ ـ تقدير ناتج طرح ٧٨٩ ـ ٣٢١ مقربًا إلى أقرب مئة يساوي :

أ	٥٠٠	ب	٤٠٠	ج	٣٠٠	د	٢٠٠

٩ ـ أي العمليات التالية تجعل الجملة العددية: ٣٠ ☐ ٨ = ٣٨ صحيحة ؟

أ	-	ب	+	ج	÷	د	×

١٠ ـاحتمال وقوف المؤشر عند عدد أكبر من ٦ هو:



أ	٥ من ٦	ب	٤ من ٦	ج	٣ من ٦	د	٠ من ٦

١١ ـ أي مما يلى ليست عبارة عددية ؟

أ	٣٤ + ١١	ب	٤٦ + ٩	ج	٢٩ – ٩ = ٢٠	د	٩٠ + ١٢ + ٤

١٢ـ اشترت مريم ١٦ قلادة، أعطت ١٠ منها لصديقاتها. كم قلادة بقيت معها؟ الجملة العددية التى تمثل المسألة

أ	١٦ + ١٠ = ٣٦	ب	١٦ - ١٠ = ٦	ج	١٦ + ١٠	د	١٦ - ١٠

١٣ـ زوج الأعداد الذي لايمكن أن تراه فى جدول قاعدته ((اضرب فى ٦)) هو :

أ	٥ و٣٠	ب	٨ و٢٤	ج	١٠ و٦٠	د	٧ و٤٢

١٤ ـ من خلال التمثيل المجاور، قطع الأثاث الأكثر عددًا في المدرسة هي:

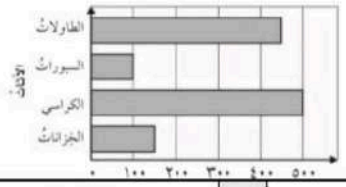

أ	الخزانات	ب	الكراسى	ج	السبورات	د	الطاولات

١٥ ـ الجزء الذي يمثل الذين يفضلون التفاح في التمثيل المجاور هو :



أ	$\frac{١}{٤}$	ب	$\frac{١}{٢}$	ج	$\frac{١}{٣}$	د	$\frac{٣}{٤}$

١٦ ـ احتمال اختيار بطاقة كتب عليها غير حرف (ل) دون النظر إلى البطاقات هو : ا ل س ل ا ل

أ	مؤكد	ب	أكثر احتمال	ج	متساوي الامكانية	د	مستحيل

ب) قارن بوضع الإشارة المناسبة (> ، < ، =)

٤٥٦٢١ ☐ ٤٥٦١٢ ٨٠٣٤٩٠ ☐ ٨٠٩٤٣٠

٣ + ٥٠ + ٩٠٠ ☐ ٩ + ٥٠ + ٣٠٠ ٤٥٣٩ ☐ ٤٥٣٩

السؤال الثاني :أ) ضع علامة (√) أمام العبارة الصحيحة وعلامة (X) أمام العبارة الخاطئة فيما يلي: ☐ ١٠

١ـ عندما نطرح نبدأ دائمًا بمنزلة العشرات	
٢ ـ الخاصية المستعملة في ٦ + ٠ = ٦ هي خاصية العنصر المحايد .	
٣ ـ يوضح التمثيل بالخطوط كيف تتغير مجموعة من البيانات مع مرور الزمن .	
٤ ـ (٨ + ٤ + ٩ = ٢١) تسمى جملة عددية .	
٥ ـ الرسم المجاور يمثل الجملة العددية ٤ + ١ = ٥ 	

ب) أوجد ناتج ما يلي :

٤٠٢	٨١٩
+ ٢٤٨	- ٦٣٥
_____	_____

ج) مع حمد ٧٩ ريالًا فإذا اشترى قلما بمبلغ ٤٨ ريال، وكتيبًا بمبلغ ١١ ريال فكم ريالًا تقريبًا بقي معه ؟

.....

.....

السؤال الثالث : أجب عما يلي | ١٠ |

أ) رتب الأعداد التالية من الأصغر إلى الأكبر:

٦٧١٢ ، ٦٧٢١ ، ٨٢٣٤ ، ٧٩٠١

....., ..., ..., ...

ب) نظم البيانات التالية في لوحة إشارات:

النشاط المفضل لدى طالبات الصف الرابع	
النشاط	التكرار
الرياضي	٥
الفني	٢
العلمي	٨
الثقافي	٣

النشاط المفضل لدى طالبات الصف الرابع	
النشاط	الإشارات
الرياضي	
الفني	
العلمي	
الثقافي	

ج) أكمل الجدول التالي:

القاعدةُ: △ × ٣	
المدخلةُ (△)	المخرجةُ (□)
٣	
٤	
٥	
٦	

انتهت الأسئلة

مع أطيب الأمنيات لكم بالتوفيق والنجاح

موقع منهجي
mnhaji.com

المادة	رياضيات
الصف	الرابع
الزمن	ساعتان

نموذج الإجابة

اختبار الفصل الدراسى الأول للعام الدراسى ١٤٤٨ هـ

المصحح	المراجع	المدقق	الدرجة	اسم الطالب
الاسم /	الاسم /	الاسم /	رقما /	.....
التوقيع /	التوقيع /	التوقيع /	كتابة /	

السؤال الأول: أ) اختر الإجابة الصحيحة فيما يلى : ٢٠

١ ـ ما القيمة المنزلية للرقم ٥ في العدد ٦٥٩٨٢٠ ؟

أ	٥٠	ب	٥٠٠	ج	٥٠٠٠	د	٥٠٠٠٠

٢ ـ يكتب العدد (سبعة ملايين ومئة واثنان وأربعون ألف وثمان مئة وتسعة عشر) بالصيغة القياسية كالتالي :

أ	٧٤٢١٨١٦	ب	٩١٨٢٤١٧	ج	٧١٤٢٨١٩	د	١٩٨٢٤١٧

٣ ـ الصيغة التحليلية للعدد ٩٠٧٤٠ هي :

أ	٩+٧+٤	ب	٤٠ +٧٠٠ +٩٠٠٠٠	ج	٩٠ +٤٠٠ +٧٠٠٠	د	٤ +٧٠٠ +٩٠٠٠

٤ ـ عند تقريب العدد ٣٤٩١٦٨ إلى أقرب مئة ألف يصبح :

أ	٣٠٠	ب	٣٤٠٠٠٠	ج	٣٠٠٠٠٠	د	٤٠٠٠٠٠

٥ ـ تستغرق مريم ٥ دقائق لتغليف هدية، كم دقيقة تستغرقها لتغليف ١٠ هدايا ؟

أ	١٥ دقيقة	ب	٢٠ دقيقة	ج	٤٠ دقيقة	د	٥٠ دقيقة

٦ ـالعدد الذي يجعل الجملة العددية التالية صحيحة (٢٣ + ☐) + ١١ = ٢٣ + (١٥ +١١) هو:

أ	١١	ب	١٥	ج	٢٣	د	٢٥

٧ ـ قاعدة الطرح المستعملة في ٢١ ـ ☐ = ٢١ هي :

أ	العنصر المحايد	ب	طرح الصفر من عدد	ج	التجميع	د	الابدال

٨ ـ تقدير ناتج طرح ٧٨٩ ـ ٣٢١ مقربًا إلى أقرب مئة يساوي :

أ	٥٠٠	ب	٤٠٠	ج	٣٠٠	د	٢٠٠

٩ ـ أي العمليات التالية تجعل الجملة العددية: ٣٠ ☐ ٨ = ٣٨ صحيحة ؟

أ	-	ب	+	ج	÷	د	×

١٠ ـاحتمال وقوف المؤشر عند عدد أكبر من ٦ هو:



أ	٥ من ٦	ب	٤ من ٦	ج	٣ من ٦	د	٠ من ٦

موقع منهجي
mnhaji.com

١١ ـ أي مما يلى ليست عبارة عددية ؟

أ	٣٤ + ١١	ب	٤٦ + ٩	ج	٢٩ – ٩ = ٢٠	د	٩٠ + ١٢ + ٤

١٢ـ اشترت مريم ١٦ قلادة، أعطت ١٠ منها لصديقاتها. كم قلادة بقيت معها؟ الجملة العددية التى تمثل المسألة

أ	١٦ + ١٠ = ٣٦	ب	١٦ - ١٠ = ٦	ج	١٦ + ١٠	د	١٦ - ١٠

١٣ـ زوج الأعداد الذي لايمكن أن تراه فى جدول قاعدته ((اضرب فى ٦)) هو :

أ	٥ و٣٠	ب	٨ و٢٤	ج	١٠ و٦٠	د	٧ و٤٢

١٤ ـ من خلال التمثيل المجاور، قطع الأثاث الأكثر عددًا في المدرسة هي:

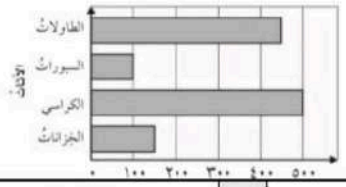

أ	الخزانات	ب	الكراسى	ج	السبورات	د	الطاولات

١٥ ـ الجزء الذي يمثل الذين يفضلون التفاح في التمثيل المجاور هو :



أ	١/٤	ب	١/٢	ج	١/٣	د	٣/٤

١٦ ـ احتمال اختيار بطاقة كتب عليها غير حرف (ل) دون النظر إلى البطاقات هو : [ا] [ل] [س] [ل] [ا] [ل]

أ	مؤكد	ب	أكثر احتمال	ج	متساوي الامكانية	د	مستحيل

ب) قارن بوضع الإشارة المناسبة (> ، < ، =)

٤٥٦٢١ [<] ٤٥٦١٢ ٨٠٣٤٩٠ [>] ٨٠٩٤٣٠

٣ + ٥٠ + ٩٠٠ [>] ٩ + ٥٠ + ٣٠٠ ٤٥٣٩ [=] ٤٥٣٩

السؤال الثاني :أ) ضع علامة (√) أمام العبارة الصحيحة وعلامة (X) أمام العبارة الخاطئة فيما يلي: [ ] ١٠

١ـ عندما نطرح نبدأ دائمًا بمنزلة العشرات	×
٢ ـ الخاصية المستعملة في ٦ + ٠ = ٦ هي خاصية العنصر المحايد .	√
٣ ـ يوضح التمثيل بالخطوط كيف تتغير مجموعة من البيانات مع مرور الزمن .	√
٤ ـ (٨ + ٤ + ٩ = ٢١) تسمى جملة عددية .	√
٥ ـ الرسم المجاور يمثل الجملة العددية ٤ + ١ = ٥ 	×

موقع منهجي
mnhaji.com

ب) أوجد ناتج ما يلي :

٤٠٢	٨١٩
+ ٢٤٨	- ٦٣٥
٦٥٠	١٨٤

ج) مع حمد ٧٩ ريالًا فإذا اشترى قلما بمبلغ ٤٨ ريال، وكتيبًا بمبلغ ١١ ريال فكم ريالًا تقريبًا بقي معه ؟

٤٨ + ١١ = ٥٩ ٧٩ - ٥٩ = ٢٠ ريال

السؤال الثالث : أجب عما يلي | ١٠

أ) رتب الأعداد التالية من الأصغر إلى الأكبر:

٦٧١٢ ، ٦٧٢١ ، ٨٢٣٤ ، ٧٩٠١

٦٧١٢ ، ٦٧٢١ ، ٧٩٠١ ، ٨٢٣٤

ب) نظم البيانات التالية في لوحة إشارات:

النشاط المفضل لدى طالبات الصف الرابع	
النشاط	التكرار
الرياضي	٥
الفني	٢
العلمي	٨
الثقافي	٣

النشاط المفضل لدى طالبات الصف الرابع	
النشاط	الإشارات
الرياضي	////
الفني	//
العلمي	/// ////
الثقافي	///

ج) أكمل الجدول التالي:

القاعدة: △ × ٣	
المدخلة (△)	المخرجة (□)
٣	٣×٣=٩
٤	٣×٤=١٢
٥	٣×٥=١٥
٦	٣×٦=١٨

انتهت الأسئلة

مع أطيب الأمنيات لكم بالتوفيق والنجاح

موقع منهجي
mnhaji.com

		المادة: رياضيات
		الصف: الرابع الابتدائي
		الزمن: ساعتان ونصف
		عدد الأوراق: ٣

الاختبار النهائي لمادة الرياضيات للصف الرابع الفصل الدراسي الأول من العام الدراسي ١٤٤٨ هـ

الاسم	.....	الصف ٤ /	الدرجة المستحقة	
				٤٠

السؤال الأول: (أ) اختر الإجابة الصحيحة لكل مما يلي بتظليل الحرف الدال عليها: (٢٠)

١	القيمة المنزلية للرقم الذي تحته خط في العدد ٩٤٣٢٥١ هي:							
	أ	٤٠	ب	٤٠٠	ج	٤٠٠٠	د	٤٠٠٠٠
٢	العدد ستة وخمسين مليونًا وثلاث مئة وثلاثين ألفًا بالصيغة القياسية هو:							
	أ	٥٦ ٣٣٠ ٠٠٠	ب	٥٦ ٠٠٠ ٣٣٠	ج	٥٦ ٣٣٠ ٣٣٠	د	٥٦ ٣٣٣ ٠٠٠
٣	يقول سامر أن عنوان شارعه يحتوي على الرقم ٣ في منزلة المئات، أي مما يأتي يمثل عنوان الشارع:							
	أ	١٣٦٨	ب	٢٤٣٧	ج	١٤٨٣	د	٣٨٦٥
٤	الرقم الذي يجعل الجملة العددية التالية صحيحة ٨٢٣٥٩ > ٥٩□٨٢ هو:							
	أ	٢	ب	٣	ج	٤	د	٥
٥	خاصية الجمع المستعملة في ٧٤ + ٠ = ٧٤ هي:							
	أ	الإبدال	ب	التجميع	ج	العنصر المحايد	د	لا شيء مما سبق
٦	العدد الذي يجعل الجملة التالية (٣٢ + □) + ١٥ = ٣٢ + (٢٦ + ١٥) صحيحة هو:							
	أ	٣٢	ب	٢٦	ج	١٥	د	٤٧
٧	ناتج جمع ٢١ + ١٦ + ٢٩ ذهنيًا هو:							
	أ	٥٦	ب	٦٦	ج	٧٦	د	٨٦
٨	تستغرق مريم ٥ دقائق لتغليف هدية. كم دقيقة تستغرقها لتغليف ١٠ هدايا؟							
	أ	١٥ دقيقة	ب	٢٥ دقيقة	ج	٤٠ دقيقة	د	٥٠ دقيقة
٩	تقدير ناتج العملية ٤٥٥ - ٢٢٩ بتقريب الأعداد إلى أقرب مئة هو:							
	أ	١٠٠	ب	٢٠٠	ج	٣٠٠	د	٤٠٠
١٠	أي العمليات التالية تجعل الجملة العددية التالية: ٤٥ □ ٤٠ = ٥ صحيحة؟							
	أ	+	ب	×	ج	-	د	÷

يتبع ←

١١	من التمثيل بالأعمدة المجاور الصف الذي حصل على ٣ بطولات هو:	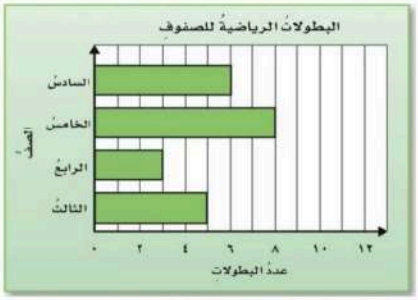						
	أ	الصف الثالث	ب	الصف الرابع	ج	الصف الخامس	د	الصف السادس
١٢	من التمثيل بالقطاعات الدائرية المجاور الجزء الذي يمثل الرحلة الميدانية المفضلة لدى أكثر طلاب الصف الرابع هو:	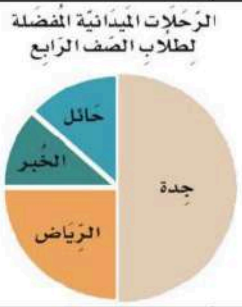						
	أ	$\frac{١}{٤}$	ب	$\frac{١}{٣}$	ج	$\frac{١}{٢}$	د	$\frac{٣}{٤}$
١٣	إذا كان لدينا صندوق يحتوي على ست بطاقات مرقمة من ١ - ٦ فإن احتمال سحب بطاقة عليها العدد ٩ هو:							
	أ	مؤكد	ب	أكثر احتمالاً	ج	أقل احتمالاً	د	مستحيل
١٤	لدى فؤاد ٢١ طابعًا إذا وزعها على ثلاث مجموعات متساوية فكم طابعًا يكون في كل مجموعة؟							
	أ	٤	ب	٥	ج	٦	د	٧
١٥	كتب خالد خمسة أعداد على السبورة ٤ ، ٨ ، ١٢ ، ١٦ ، ٢٠ أي مما يأتي يصف القاعدة التي كتبت بها الأعداد:							
	أ	إضافة ٣	ب	طرح ٣	ج	إضافة ٤	د	طرح ٤

(ب) ضع علامة (✓) أمام العبارة الصحيحة وعلامة (✗) أمام العبارة الخاطئة :

١	الترتيب الصحيح للخطوات الأربع لحل المسألة هو: افهم، خطط، حل، تحقق.	
٢	عند تقريب العدد ٤٢٨٢ إلى أقرب ألف يكون الناتج ٥٠٠٠	
٣	العدد المفقود في الجملة التالية ٩ - □ = ٠ هو ٩	
٤	عندما تطرح تبدأ دائمًا بمنزلة الآحاد	
٥	١٩ - ٨ = ١١ تسمى عبارة عددية	

يتبع ←

السؤال الثاني: أجب عما يلي : ١٠

أ أوجد الناتج:

٦٨٢٤ + ٣٤٩	٤٧٩ - ٢٩٢	٧٠٧ - ٥٣٥

ب قارن مستعملاً (> ، < ، =):

٧٦١٠١ ◯ ٧٧٠٠٠ ٢٩٩٢١٤ ◯ ٢٩٩٢١٤

ج إذا كانت تكلفة شحن الكتاب الواحد ٤ ريالات، فكم كتابًا يمكن شحنه ب ٣٢ ريالاً؟

.....

.....

السؤال الثالث: أجب عما يلي : ١٠

أ رتب الأعداد التالية من الأكبر إلى الأصغر:

٣٩٢٧١ ، ٢٩٣٧١ ، ٧٣٩٢١

..... ، ..... ، .....

ب نظّم البيانات التالية في لوحة إشارات:

كيفَ تصلُ إلَى المدرسةِ؟	
الوسيلةُ	التَّكرارُ
الحافلةُ	٨
السيارةُ	١٢
المشي	٦

كيف تصل إلى المدرسة	
الوسيلة	الإشارات
الحافلة	
السيارة	
المشي	

ج اكمل الجدول التالي:

القاعدةُ: △ + ٥	
المدخلة (△)	المخرجة (□)
٤	□
٦	□
٨	□
١٠	□

تمت الأسئلة مع تمنياتي لكم بالتوفيق

موقع منهجي
mnhaji.com

نموذج الإجابة

المادة: رياضيات	
الصف: الرابع الابتدائي	
الزمن: ساعتان ونصف	
عدد الأوراق: ٣	

الاختبار النهائي لمادة الرياضيات الفصل الدراسي الأول من العام الدراسي ١٤٤٨ هـ

الاسم	.....	الصف ٤ /	الدرجة المستحقة	
				٤٠

السؤال الأول: (أ) اختر الإجابة الصحيحة لكل مما يلي بتظليل الحرف الدال عليها: (٢٠)

١	القيمة المنزلية للرقم الذي تحته خط في العدد ٩٤٣٢٥١ هي: (كل فقرة بدرجة)							
	أ	٤٠	ب	٤٠٠	ج	٤٠٠٠	د	٤٠٠٠٠
٢	العدد ستة وخمسين مليونًا وثلاث مئة وثلاثين ألفًا بالصيغة القياسية هو:							
	أ	٥٦ ٣٣٠ ٠٠٠	ب	٥٦ ٠٠٠ ٣٣٠	ج	٥٦ ٣٣٠ ٣٣٠	د	٥٦ ٣٣٣ ٠٠٠
٣	يقول سامر أن عنوان شارعه يحتوي على الرقم ٣ في منزلة المئات، أي مما يأتي يمثل عنوان الشارع:							
	أ	١٣٦٨	ب	٢٤٣٧	ج	١٤٨٣	د	٣٨٦٥
٤	الرقم الذي يجعل الجملة العددية التالية صحيحة ٨٢٣٥٩ > ٥٩□٨٢ هو:							
	أ	٢	ب	٣	ج	٤	د	٥
٥	خاصية الجمع المستعملة في ٧٤ + ٠ = ٧٤ هي:							
	أ	الإبدال	ب	التجميع	ج	العنصر المحايد	د	لا شيء مما سبق
٦	العدد الذي يجعل الجملة التالية (٣٢ + □) + ١٥ = ٣٢ + (٢٦ + ١٥) صحيحة هو:							
	أ	٣٢	ب	٢٦	ج	١٥	د	٤٧
٧	ناتج جمع ٢١ + ١٦ + ٢٩ ذهنيًا هو:							
	أ	٥٦	ب	٦٦	ج	٧٦	د	٨٦
٨	تستغرق مريم ٥ دقائق لتغليف هدية. كم دقيقة تستغرقها لتغليف ١٠ هدايا؟							
	أ	١٥ دقيقة	ب	٢٥ دقيقة	ج	٤٠ دقيقة	د	٥٠ دقيقة
٩	تقدير ناتج العملية ٤٥٥ - ٢٢٩ بتقريب الأعداد إلى أقرب مئة هو:							
	أ	١٠٠	ب	٢٠٠	ج	٣٠٠	د	٤٠٠
١٠	أي العمليات التالية تجعل الجملة العددية التالية: ٤٥ □ ٤٠ = ٥ صحيحة؟							
	أ	+	ب	×	ج	-	د	÷

يتبع

موقع منهجي
mnhaji.com

١١ من التمثيل بالأعمدة المجاور
الصف الذي حصل على ٣ بطولات هو:

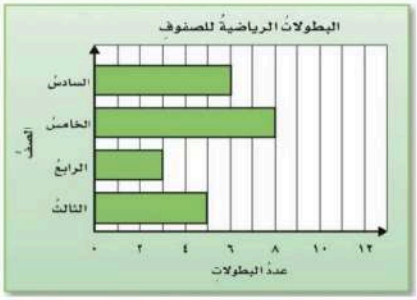

أ	الصف الثالث	ب	الصف الرابع	ج	الصف الخامس	د	الصف السادس

١٢ من التمثيل بالقطاعات الدائرية المجاور
الجزء الذي يمثل الرحلة الميدانية المفضلة لدى أكثر طلاب الصف الرابع هو:

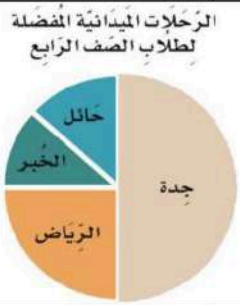

أ	$\frac{١}{٤}$	ب	$\frac{١}{٣}$	ج	$\frac{١}{٢}$	د	$\frac{٣}{٤}$

١٣ إذا كان لدينا صندوق يحتوي على ست بطاقات مرقمة من ١ - ٦
فإن احتمال سحب بطاقة عليها العدد ٩ هو:

أ	مؤكد	ب	أكثر احتمالاً	ج	أقل احتمالاً	د	مستحيل

١٤ لدى فؤاد ٢١ طابعًا إذا وزعها على ثلاث مجموعات متساوية فكم طابعًا يكون في كل مجموعة؟

أ	٤	ب	٥	ج	٦	د	٧

١٥ كتب خالد خمسة أعداد على السبورة ٤ ، ٨ ، ١٢ ، ١٦ ، ٢٠
أي مما يأتي يصف القاعدة التي كتبت بها الأعداد:

أ	إضافة ٣	ب	طرح ٣	ج	إضافة ٤	د	طرح ٤

(ب) ضع علامة (✓) أمام العبارة الصحيحة وعلامة (✗) أمام العبارة الخاطئة :

١	الترتيب الصحيح للخطوات الأربع لحل المسألة هو: افهم، خطط، حل، تحقق.	✓
٢	عند تقريب العدد ٤٢٨٢ إلى أقرب ألف يكون الناتج ٥٠٠٠	✗
٣	العدد المفقود في الجملة التالية ٩ - □ = ٠ هو ٩	✓
٤	عندما تطرح تبدأ دائمًا بمنزلة الآحاد	✓
٥	١٩ - ٨ = ١١ تسمى عبارة عددية	✗

موقع منهجي
mnhaji.com

يتبع

السؤال الثاني: أجب عما يلي : ١٠

أ أوجد الناتج: ٦

٦٨٢٤ + ٣٤٩ = ٧١٧٣	٤٧٩ - ٢٩٢ = ١٨٧	٧٠٧ - ٥٣٥ = ١٧٢

ب قارن مستعملاً (> ، < ، =): ٢

٧٦١٠١ > ٧٧٠٠٠ ، ٢٩٩٢١٤ = ٢٩٩٢١٤

ج إذا كانت تكلفة شحن الكتاب الواحد ٤ ريالات، فكم كتابًا يمكن شحنه ب ٣٢ ريالاً؟ ٢

٨ كتب

السؤال الثالث: أجب عما يلي : ١٠

أ رتب الأعداد التالية من الأكبر إلى الأصغر: ٣

٣٩٢٧١ ، ٢٩٣٧١ ، ٧٣٩٢١

٧٣٩٢١ ، ٣٩٢٧١ ، ٢٩٣٧١

ب نظّم البيانات التالية في لوحة إشارات: ٣

كيفَ تصلُ إلَى المدرسةِ؟	
الوسيلةُ	التّكرارُ
الحافلةُ	٨
السيارةُ	١٢
المشي	٦

كيف تصل إلى المدرسة	
الوسيلة	الإشارات
الحافلة	
السيارة	
المشي	

ج اكمل الجدول التالي: ٤

القاعدةُ: △ + ٥	
المدخلة (△)	المخرجة (□)
٤	□ ٩
٦	□ ١١
٨	□ ١٣
١٠	□ ١٥

موقع منهجي
mnhaji.com

تمت الأسئلة مع تمنياتي لكم بالتوفيق

الصف : الرابع
المادة : رياضيات
الزمن : ساعتان
عدد الأوراق : ورقة (وجهان)

موقع منهجي
mnhaji.com

اختبار نهاية الفصل الدراسي الأول للعام الدراسي ١٤٤٨ هـ (الدور الأول)

اسم الطالب :	الصف :	رقم الجلوس: .....

اسم المصحح	اسم المراجع	اسم المدقق	المجموع	الدرجة النهائية كتابة
			٤٠	

السؤال الأول : اختر الإجابة الصحيحة فيما يلي : ١٣

١	القيمة المنزلية للرقم الذي تحته خط في العدد ٥٩٠٣٢٠ :					
	أ	٥٠٠٠	ب	٦٠٠٠٠	ج	٥٠٠٠٠٠
٢	الصيغة اللفظية للعدد ٢٧٠٠٠٦ هي :					
	أ	مئتين وسبعون ألف وستة مئة	ب	مئتين وسبعون ألف وستة	ج	سبعة وعشرون الف وستة
٣	الصيغة القياسية للعدد تسع مئة ألف وخمس مئة واثنين وخمسين هي :					
	أ	٩٠٠٥٥٢	ب	٩٠٥٠٥٢	ج	٩٠٠٥٠٠٥٢
٤	يستغرق خباز ٦ دقائق لتحضير فطيرة . كم دقيقة يستغرقها لتحضير ١٠ فطائر ؟					
	أ	٤	ب	١٦	ج	٦٠
٥	تقدير ناتج ٣٨٣+١٢٢ مقرباً إلى أقرب مئة :					
	أ	٥٠٠	ب	٤٠٠	ج	٦٠٠
٦	اشترى عادل دراجة هوائية بـ ١٦٢٤ ريالاً . واشترى عبدالله دراجة هوائية اخرى بـ ١٣٩٦ ريالا . أي الدراجتين أكثر سعراً ؟					
	أ	دراجة عادل	ب	دراجة عبدالله	ج	لهما السعر نفسه
٧	العدد ٤٣٠٣٢ مقرباً الى عشرة ألاف :					
	أ	٤٠٠٠٠	ب	٥٠٠٠٠	ج	٣٠٠٠
٨	أوجدُ العدد المفقود ، واذكر الخاصية او القاعدة التي استعملتها : ١٩ - ☐ = ١٩					
	أ	٠، خاصية العنصر المحايد	ب	٠، طرح الصفر	ج	٠، طرح عدد من نفسه
٩	إذا كانت تكلفة شحن الكتاب الواحد ٤ ريالات ، فكم كتاباً يمكن شحنه بـ ٣٢ ريالا ؟					
	أ	٨	ب	١٠	ج	١٢
١٠	عندما ذهب ناصر إلى السوق كان في محفظته ٧٣ ريالاً، وفي جيبه ٧ ريالات إذا اشترى كتابا بـ ٣٣ ريالاً . فكم ريالا يبقى معه ؟					
	أ	٨٠	ب	٤٠	ج	٤٧
١١	كتبت منال اليوم ٤ رسائل ، ورسالتين يوم أمس . فكم رسالة كتبتها منال ؟ اكتب جملة عددية ؟ :					
	أ	٤ + ٢	ب	٤ – ٢	ج	٤ +٢ = ٦

صندوق يحتوي على عشر بطاقات مرقمة من ١ إلى ١٠ سحبت بطاقة من الصندوق دون النظر إليها . صف احتمال ما يلي :

١٢	سحب بطاقة عليها عدد فردي أو عدد زوجي:							١٣	صف بالأعداد سحب بطاقة عليها رقم أقل من ٤			
	أ	مؤكد	ب	اكثر احتمالاً	ج	مستحيل			أ	٤ من ١٠	ب	٣ من ٧	ج	٣ من ١٠

السؤال الثاني : ضع علامة (✓) أمام العبارة الصحيحة ، وعلامة (×) أمام العبارة الخاطئة

٧

١	الترتيب الصحيح للخطوات الأربع لحل المسألة هو : خطط ، افهم ، حل ، تحقق	
٢	الصيغة القياسية لـ تسع مئة وسبعين هي ٩٧٠ :	
٣	عند التحقق من صحة الطرح نجمع المطروح منه مع ناتج الطرح	
٤	عند تنظيم البيانات في لوحة إشارات نكتب العدد بالأرقام	
٥	الأعداد ٦٥٤٣ ، ٤٣٥٦، ٣٤٦٥ ، ٣٤٥٦ مرتبة من الأكبر إلى الأصغر	
٦	٥ +٧ = ١٢ تمثل عبارة عددية	
٧	الجملة العددية هي عبارة تتضمن أعداداً وإحدى الإشارات (= ، < ،>)	

السؤال الثالث : اجب عن الأسئلة التالية

٢٠

١ أوجد ناتج الجمع :

٨٣٤٦
+ ٧٢٠٨

٢ أوجد ناتج الطرح :

٦٠٤
- ٤٩٢

٣ قارن بين الأعداد فيما يلي بوضع إحدى الإشارات (> ، < ، =)

١٧٩٥٨ ◯ ١٧٨٥٩

٦٠٤٩٩ ◯ ٦٠٥٠٧

٤ مثل بالرسم ، ثم اكتب جملة عددية

لدى ماجد ١٠ ريالات ، اشترى عصيراً بـ ٣ ريالات وفطيرة بـ ٤ ريالات ، وأعطى فقيراً ريالان . كم ريالاً بقي معها ؟

.....

.....

.....

٥ المشروبان الأكثر تفضيلاً هما ؟



.....

.....

٦ استعمل لوحة الإشارات في الشكل المجاور للإجابة عن الأسئلة التالية ؟

السيارات المبيعة	
اليوم	الإشارات
السبت	𝍸 ||||
الأحد	||||
الاثنين	| 𝍸

اليوم الأكثر مبيعا للسيارات هو ؟

.....

مجموع السيارات المبيعة يومي السبت والاثنين ؟

.....

٧ اكتشف القاعدة ثم طبقها لتكمل الجدول فيما يلي :

القاعدة :				
المدخلة ▲	١	٢	٣	٤
المخرجة ▭	٣	٤	٥	▭

٨ أكمل الجدول التالي :

القاعدة : ▲ ÷ ٢				
المدخلة ▲	٨	١٠	١٢	١٤
المخرجة ▭	▭	▭	▭	▭

٩ استعمل التمثيل بالأعمدة في الشكل المجاور للإجابة عن ما يلي

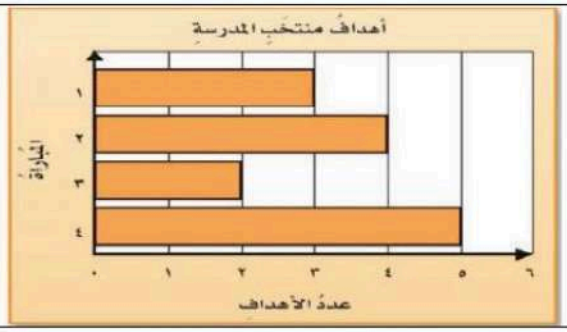

كم هدفاً أحرز منتخب المدرسة في المباراة الثالثة ؟

.....

كم تزيد أهداف المباراة الرابعة عن أهداف المباراة الأولى ؟

.....

==انتهت الأسئلة ==

إعداد معلم المادة :

نموذج الإجابة

الصف : الرابع
المادة : رياضيات
الزمن : ساعتان
عدد الأوراق : ورقة (وجهان)

اختبار نهاية الفصل الدراسي الأول للعام الدراسي ١٤٤٨ هـ (الدور الأول)

اسم الطالب :	الصف :	رقم الجلوس: .....

اسم المصحح	اسم المراجع	اسم المدقق	المجموع	الدرجة النهائية كتابة
			٤٠	

السؤال الأول : اختر الإجابة الصحيحة فيما يلي : ١٣

١	القيمة المنزلية للرقم الذي تحته خط في العدد ٥٩٠٣٢٠ :					
	أ	٥٠٠٠	ب	٦٠٠٠٠	ج	٥٠٠٠٠٠
٢	الصيغة اللفظية للعدد ٢٧٠٠٠٦ هي :					
	أ	مئتين وسبعون ألف وستة مئة	ب	مئتين وسبعون ألف وستة	ج	سبعة وعشرون الف وستة
٣	الصيغة القياسية للعدد تسع مئة ألف وخمس مئة واثنين وخمسين هي :					
	أ	٩٠٠٥٥٢	ب	٩٠٥٠٥٢	ج	٩٠٠٥٠٠٥٢
٤	يستغرق خباز ٦ دقائق لتحضير فطيرة . كم دقيقة يستغرقها لتحضير ١٠ فطائر ؟					
	أ	٤	ب	١٦	ج	٦٠
٥	تقدير ناتج ٣٨٣+١٢٢ مقرباً إلى أقرب مئة :					
	أ	٥٠٠	ب	٤٠٠	ج	٦٠٠
٦	اشترى عادل دراجة هوائية بـ ١٦٢٤ ريالاً . واشترى عبدالله دراجة هوائية اخرى بـ ١٣٩٦ ريالا . أي الدراجتين أكثر سعراً ؟					
	أ	دراجة عادل	ب	دراجة عبدالله	ج	لهما السعر نفسه
٧	العدد ٤٣٠٣٢ مقرباً الى عشرة ألاف :					
	أ	٤٠٠٠٠	ب	٥٠٠٠٠	ج	٣٠٠٠
٨	أوجدُ العدد المفقود ، واذكر الخاصية او القاعدة التي استعملتها : ١٩ - ● = ١٩					
	أ	٠ ، خاصية العنصر المحايد	ب	٠ ، طرح الصفر	ج	٠ ، طرح عدد من نفسه
٩	إذا كانت تكلفة شحن الكتاب الواحد ٤ ريالات ، فكم كتاباً يمكن شحنه بـ ٣٢ ريالا ؟					
	أ	٨	ب	١٠	ج	١٢
١٠	عندما ذهب ناصر إلى السوق كان في محفظته ٧٣ ريالاً، وفي جيبه ٧ ريالات إذا اشترى كتابا بـ ٣٣ ريالاً . فكم ريالا يبقى معه ؟					
	أ	٨٠	ب	٤٠	ج	٤٧
١١	كتبت منال اليوم ٤ رسائل ، ورسالتين يوم أمس . فكم رسالة كتبتها منال ؟ اكتب جملة عددية ؟ :					
	أ	٤ + ٢	ب	٤ – ٢	ج	٤ +٢ = ٦
	صندوق يحتوي على عشر بطاقات مرقمة من ١ إلى ١٠ سحبت بطاقة من الصندوق دون النظر إليها . صف احتمال ما يلي :					
١٢	سحب بطاقة عليها عدد فردي أو عدد زوجي:					
	مؤكد	ب	اكثر احتمالاً	ج	مستحيل	
١٣	صف بالأعداد سحب بطاقة عليها رقم أقل من ٤					
	أ	٤ من ١٠	ب	٣ من ٧	ج	٣ من ١٠

موقع منهجي
mnhaji.com

السؤال الثاني : ضع علامة (✓) أمام العبارة الصحيحة ، وعلامة (×) أمام العبارة الخاطئة

٧

١	الترتيب الصحيح للخطوات الأربع لحل المسألة هو : خطط ، افهم ، حل ، تحقق	×
٢	الصيغة القياسية لـ تسع مئة وسبعين هي ٩٧٠ :	✓
٣	عند التحقق من صحة الطرح نجمع المطروح مع ناتج الطرح	×
٤	عند تنظيم البيانات في لوحة إشارات نكتب العدد بالأرقام . اشارات	×
٥	الأعداد ٦٥٤٣ ، ٤٣٥٦ ، ٣٤٦٥ ، ٣٤٥٦ مرتبة من الأكبر إلى الأصغر	✓
٦	٥ + ٧ = ١٢ تمثل عبارة عددية . جملة	×
٧	الجملة العددية هي عبارة تتضمن أعداداً وإحدى الإشارات (= ، < ، >)	✓

السؤال الثالث : اجب عن الأسئلة التالية

٢٠

١ أوجد ناتج الجمع :

٨٣٤٦
+ ٧٢٠٨
١٥٥٥٤

٢ أوجد ناتج الطرح :

٤٩٢ −
١١٢

٣ قارن بين الأعداد فيما يلي بوضع إحدى الإشارات (> ، < ، =)

١٧٩٥٨ < ١٧٨٥٩

٦٠٤٩٩ > ٦٠٥٠٧

٤ مثل بالرسم ، ثم اكتب جملة عددية

لدى ماجد ١٠ ريالات ، اشترى عصيراً بـ ٣ ريالات وفطيرة بـ ٤ ريالات ، وأعطى فقيراً ريالان . كم ريالاً بقي معها ؟

٣ + ٤ + ٢ = ٩

١٠ − ٩ = ١

٥ المشروبان الأكثر تفضيلاً هما ؟

الحليب
البرتقال



٦ استعمل لوحة الإشارات في الشكل المجاور للإجابة عن الأسئلة التالية ؟

اليوم	الإشارات
السبت	
الأحد	
الاثنين	

اليوم الأكثر مبيعا للسيارات هو ؟
السبت

مجموع السيارات المبيعة يومي السبت والاثنين ؟
١٥ سيارة

٧ اكتشف القاعدة ثم طبقها لتكمل الجدول فيما يلي :

القاعدة : ..... + ٢

المدخلة	١	٢	٣	٤
المخرجة	٣	٤	٥	٦

٨ أكمل الجدول التالي :

القاعدة : ÷ ٢

المدخلة	٨	١٠	١٢	١٤
المخرجة	٤	٥	٦	٧

٩ استعمل التمثيل بالأعمدة في الشكل المجاور للإجابة عن ما يلي

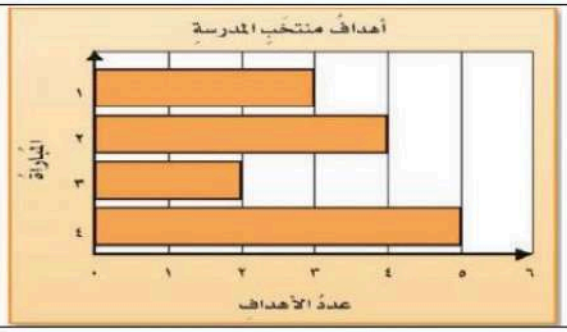

كم هدفاً أحرز منتخب المدرسة في المباراة الثالثة ؟
هدفين ٢

كم تزيد أهداف المباراة الرابعة عن أهداف المباراة الأولى ؟
٥ − ٣ = ٢

==انتهت الأسئلة==

إعداد معلم المادة :

موقع منهجي
mnhaji.com

المادة / رياضيات
الصف / الرابع الابتدائي
الزمن / ساعتان ونصف
الفترة / الأولى

موقع منهجي
mnhaji.com

اختبار الفصل الدراسي الأول (الدور الأول) للعام الدراسي ١٤٤٨ هـ

الاسم / ..... الفصل ..... رقم الجلوس ..... .

السؤال الأول	السؤال الثاني	السؤال الثالث	المجموع	اسم المصحح	اسم المراجع	اسم المدقق
١٦	١٠	١٤	٤٠			
الدرجة النهائية كتابة						

السؤال الأول : اختر الإجابة الصحيحة فيما يلي : ١٦

١- العدد الذي فيه الرقم ٥ في منزلة عشرات الألوف هو

أ	٥٣٠١٧	ب	١٥٩٧	ج	٥٣١٨	د	١٢٥٣

٢- قيمة الرقم ٧ في العدد ٤٧٥٩٨١٣ هي :

أ	٧٠٠٠٠٠٠	ب	٧٠٠٠٠٠	ج	٧٠٠٠٠	د	٧٠٠٠

٣- يكتب العدد (تسع ملايين وخمس مئة وأربعون ألف وست مئة واثنان وثلاثون) بالصيغة القياسية كالتالي :

أ	٩٥٦٤٣	ب	٩٥٤٦٣٢	ج	٩٥٤٠٦٣٢	د	٢٣٦٠٤٥٩

٤- الرمز الصحيح للمقارنة بين العددين (٤٣٢٠٩٨ ..... ٤٣٢١٩٩) هو :

أ	>	ب	=	ج	<	د	+

٥- عندما نقرب العدد ٤٢٩٩ إلى أقرب ألف يكون الناتج هو :

أ	٤٠٠٠٠	ب	٤٠٠٠	ج	٤٠٠	د	٤٠

٦- عندما نقرب العدد ٣٧١٦٧٠٠ إلى أقرب مليون يكون الناتج هو :

أ	٤٠٠٠٠٠٠	ب	٤٠٠٠٠٠	ج	٤٠٠٠٠	د	٤٠٠٠

٧- العدد الذي يجعل الجملة العددية التالية صحيحة (١٦ + ٣٥) + ١٣ = ١٦ + (.... + ١٣) هو :

أ	٣٥	ب	٥٣	ج	١٤	د	١٦

٨- الخاصية المستعملة في الجملة العددية التالية (٢٥ + ١٨ = ١٨ + ٢٥) هي خاصية :

أ	الابدال	ب	التجميع	ج	العنصر المحايد	د	طرح عدد من نفسه

٩- تقدير ناتج جمع ١٤٧ + ٤٧ مقربا إلى أقرب عشرة يساوي :							
أ	١٠٠	ب	١٥٠	ج	٢٠٠	د	٢٥٠
١٠ ـ تقدير ناتج طرح ٥٢٢ ـ ٣٧٦ مقربا إلى أقرب مئة يساوي :							
أ	٣٠٠	ب	٢٠٠	ج	١٠٠	د	١٥٠
١١- أي العمليات التالية تجعل الجملة العددية : ٧٥ ..... ٢٥ = ١٠٠ صحيحة ؟							
أ	+	ب	-	ج	÷	د	×
١٢- (لدى مزارع ٦ بقرات باع منها ٣ فكم بقرة تبقت لديه) ، الجملة العددية التي تمثل المسألة السابقة هي							
أ	٦ -٣ = ٣	ب	٦ + ٣ = ٩	ج	٦ + ٣	د	٦ × ٣
١٣ ـ أي مما يلي يمثل الجملة العددية في الرسم المجاور؟ 							
أ	٥ + ٢ = ٧	ب	٥ ـ ٢ = ٣	ج	٥+٢	د	٥ × ٢
١٤- نوع التمثيل المجاور هو تمثيل بـ 							
أ	بالأعمدة	ب	بالخطوط	ج	بالقطاعات الدائرية	د	بالصور
١٥ ـ المشروب الأكثر تفضيلا في التمثيل المجاور هو : 							
أ	تفاح	ب	موز	ج	كيوي	د	برتقال
١٦ ـ احتمال اختيار بطاقة كتب عليها الحرف (ا) دون النظر إلى البطاقات هو : 							
أ	١ من ٧	ب	٣ من ٧	ج	٤ من ٧	د	٢ من ٧

السؤال الثاني : أ) ضع علامة (✓) أمام العبارة الصحيحة وعلامة (✗) أمام العبارة الخاطئة فيما يلي :	٧
١- العدد ٣٥٤٦٠٢ مكتوب بالصيغة اللفظية	
٢- ٤ + ٣٠ + ٥٠٠ < ١٥٣٤	
٣ - من قواعد الطرح الابدال	
٤- عندما أطرح أبدا دائما بمنزلة الآحاد	
٥- يمثل العدد ٥ بالاشارات كالتالي 𝍸	
٦- (٢ + ٣ + ٥ = ١٠) تسمى عبارة عددية .	
٧- إعادة التجميع تعني إعادة الجمع	



ب) أكتب العدد ٩٤٥٨٠٠ بالصيغة التحليلية :

..... ١

ج) رتب الأعداد التالية من الأصغر إلى الأكبر :

٤٦٧٢١ ، ٦٤٢١٧ ، ٦٢٤١٧ ، ٦٢٤١

..... ، ..... ، ..... ، .....

٢

السؤال الثالث : أجب عما يلي : ١٤

أ) أوجد ناتج مايلي : ٤

٦ ٣ ٨ ٢ + ١ ٣ ٤ ٣ = _____

٤ ٨ ٧ ١ - ١ ٥ ٢ ٩ = _____

ب) استعمل التمثيل المجاور لأجب عما يلي : ٢

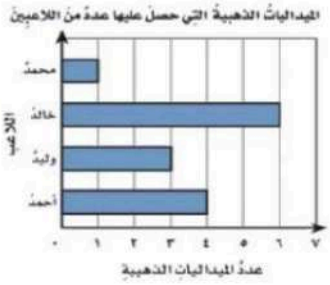

١- ما عدد الميداليات التي حصل عليها خالد ؟ .....

٢- أيهما حصل على ميداليات أكثر وليد أم أحمد ؟ .....

ج) إذا تم تدوير المؤشر فصف احتمال النواتج، استعمل (مؤكد ، أكثر احتمال ، متساوي الامكانية ، أقل احتمال ، مستحيل) ٤

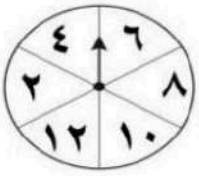

١- عدد زوجي .....

٢- عدد فردي .....

٣- عدد أقل من ١٠ .....

٤- عدد أكبر من ٨ .....

د) أكمل الجدول التالي : ٤

القاعدة : △ ÷ ٢				
المدخلة △	٦	٨	١٠	١٢
المخرجة □				

انتهت الأسئلة

مع أطيب الأمنيات لكم بالتوفيق والنجاح

معلم/ة المادة :

موقع منهجي
mnhaji.com

مدير/ة المدرسة :

نموذج الإجابة

المادة / رياضيات
الصف / الرابع الابتدائي
الزمن / ساعتان ونصف
الفترة / الأولى

اختبار الفصل الدراسي الأول (الدور الأول) للعام الدراسي ١٤٤٨ هـ

الاسم / ..... الفصل ..... رقم الجلوس .....

السؤال الأول	السؤال الثاني	السؤال الثالث	المجموع	اسم المصحح	اسم المراجع	اسم المدقق
١٦	١٠	١٤	٤٠			
الدرجة النهائية كتابة						

السؤال الأول : اختر الإجابة الصحيحة فيما يلي : ١٦

١- العدد الذي فيه الرقم ٥ في منزلة عشرات الألوف هو

أ	٥٣٠١٧	ب	١٥٩٧	ج	٥٣١٨	د	١٢٥٣

٢- قيمة الرقم ٧ في العدد ٤٧٥٩٨١٣ هي :

أ	٧٠٠٠٠٠٠	ب	٧٠٠٠٠٠	ج	٧٠٠٠٠	د	٧٠٠٠

٣- يكتب العدد (تسع ملايين وخمس مئة وأربعون ألف وست مئة واثنان وثلاثون) بالصيغة القياسية كالتالي :

أ	٩٥٦٤٣	ب	٩٥٤٦٣٢	ج	٩٥٤٠٦٣٢	د	٢٣٦٠٤٥٩

٤- الرمز الصحيح للمقارنة بين العددين (٤٣٢٠٩٨ ..... ٤٣٢١٩٩) هو :

أ	>	ب	=	ج	<	د	+

٥- عندما نقرب العدد ٤٢٩٩ إلى أقرب ألف يكون الناتج هو :

أ	٤٠٠٠٠	ب	٤٠٠٠	ج	٤٠٠	د	٤٠

٦- عندما نقرب العدد ٣٧١٦٧٠٠ إلى أقرب مليون يكون الناتج هو :

أ	٤٠٠٠٠٠٠	ب	٤٠٠٠٠٠	ج	٤٠٠٠٠	د	٤٠٠٠

٧- العدد الذي يجعل الجملة العددية التالية صحيحة (١٦ + ٣٥) + ١٣ = ١٦ + (.... + ١٣) هو :

أ	٣٥	ب	٥٣	ج	١٤	د	١٦

٨- الخاصية المستعملة في الجملة العددية التالية (٢٥ + ١٨ = ١٨ + ٢٥) هي خاصية :

أ	الابدال	ب	التجميع	ج	العنصر المحايد	د	طرح عدد من نفسه

موقع منهجي
mnhaji.com

٩- تقدير ناتج جمع ١٤٧ + ٤٧ مقربا إلى أقرب عشرة يساوي :

أ	١٠٠	ب	١٥٠	ج	٢٠٠	د	٢٥٠

١٠ - تقدير ناتج طرح ٥٢٢ - ٣٧٦ مقربا إلى أقرب مئة يساوي :

أ	٣٠٠	ب	٢٠٠	ج	١٠٠	د	١٥٠

١١- أي العمليات التالية تجعل الجملة العددية : ٧٥ ..... ٢٥ = ١٠٠ صحيحة ؟

أ	+	ب	-	ج	÷	د	×

١٢- (لدى مزارع ٦ بقرات باع منها ٣ فكم بقرة تبقت لديه) ، الجملة العددية التي تمثل المسألة السابقة هي

أ	٦ -٣ = ٣	ب	٦ + ٣ = ٩	ج	٦ + ٣	د	٦ × ٣

١٣ - أي مما يلي يمثل الجملة العددية في الرسم المجاور؟



أ	٥ + ٢ = ٧	ب	٥ - ٢ = ٣	ج	٥+٢	د	٥ × ٢

١٤- نوع التمثيل المجاور هو تمثيل بـ



أ	بالأعمدة	ب	بالخطوط	ج	بالقطاعات الدائرية	د	بالصور

١٥ - المشروب الأكثر تفضيلا في التمثيل المجاور هو :



أ	تفاح	ب	موز	ج	كيوي	د	برتقال

١٦ - احتمال اختيار بطاقة كتب عليها الحرف (ا) دون النظر إلى البطاقات هو :



أ	١ من ٧	ب	٣ من ٧	ج	٤ من ٧	د	٢ من ٧

السؤال الثاني : أ) ضع علامة (✓) أمام العبارة الصحيحة وعلامة (✗) أمام العبارة الخاطئة فيما يلي : ٧

١- العدد ٣٥٤٦٠٢ مكتوب بالصيغة اللفظية	✗
٢- ٤ + ٣٠ + ٥٠٠ < ١٥٣٤	✓
٣ - من قواعد الطرح الابدال	✗
٤- عندما أطرح أبدا دائما بمنزلة الأحاد	✓
٥- يمثل العدد ٥ بالاشارات كالتالي ////	✗
٦- (٢ + ٣ + ٥ = ١٠) تسمى عبارة عددية .	✓
٧- إعادة التجميع تعني إعادة الجمع	✗

موقع منهجي
mnhaji.com

ب) أكتب العدد ٩٤٥٨٠٠ بالصيغة التحليلية :

..... ٩٠٠٠٠٠ + ٤٠٠٠٠٠ + ٥٠٠٠٠ + ٨٠٠ .....

١ د

ج) رتب الأعداد التالية من الأصغر إلى الأكبر :

٤٦٧٢١ ، ٦٤٢١٧ ، ٦٢٤١٧ ، ٦٢٤١

..... ٦٢٤١ ، ٦٢٤١٧ ، ٤٦٧٢١ ، ٦٤٢١٧ .....

٢ د

السؤال الثالث : أجب عما يلي : ١٤ د

أ) أوجد ناتج مايلي :

٤

٦ ٣ ٨ ٢	٤ ٨ ٧ ١
+ ١ ٣ ٤ ٣	- ١ ٥ ٢ ٩
٧٧٢٥	٣٣٤٢

ب) استعمل التمثيل المجاور لأجب عما يلي :

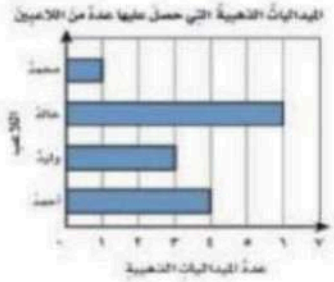

٢ د

١- ما عدد الميداليات التي حصل عليها خالد ؟ ..... ٦ ميداليات .....

٢- أيهما حصل على ميداليات أكثر وليد أم أحمد ؟ ..... أحمد .....

ج) إذا تم تدوير المؤشر فصف احتمال النواتج،
استعمل (مؤكد ، أكثر احتمال ، متساوي الامكانية ، أقل احتمال ، مستحيل)

٤ د

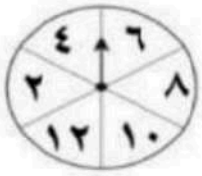

١- عدد زوجي ..... مؤكد .....

٢- عدد فردي ..... مستحيل .....

٣- عدد أقل من ١٠ ..... أكثر احتمال .....

٤- عدد أكبر من ٨ ..... أقل احتمال .....

د) أكمل الجدول التالي :

٤ د

القاعدة : △ ÷ ٢				
المدخلة △	٦	٨	١٠	١٢
المخرجة □	٣	٤	٥	٦

انتهت الأسئلة

مع أطيب الأمنيات لكم بالتوفيق والنجاح

معلم/ة المادة :

مدير/ة المدرسة :

موقع منهجي
mnhaji.com

المادة / رياضيات
الصف / الرابع الابتدائي
الزمن / ساعتان
الفترة / الأولى

موقع منهجي
mnhaji.com

اختبار الفصل الدراسي الأول (الدور الأول) للعام الدراسي ١٤٤ هـ

الاسم / ..... الفصل ..... رقم الجلوس .....

السؤال الأول	السؤال الثاني	السؤال الثالث	المجموع	اسم المصحح	اسم المراجع	اسم المدقق
٢٠	١٠	١٠	٤٠			
الدرجة النهائية كتابة						

السؤال الأول : أ) اختر الإجابة الصحيحة فيما يلي : ١٦

١- ما القيمة المنزلية للرقم ٦ في العدد ٥٦٤١٨٣ ؟

أ	٦٠	ب	٦٠٠	ج	٦٠٠٠	د	٦٠٠٠٠

٢- يكتب العدد (تسع ملايين ومئة وثلاث وأربعون ألف وثمان مئة وستة عشر) بالصيغة القياسية كالتالي :

أ	٨١٦١٤٣٩	ب	٩١٣٤٦١٨	ج	٩١٤٣٨١٦	د	١٩٤٣٨١٦

٣- الصيغة التحليلية للعدد ٦٠٣٧٠ هي :

أ	٦٠٠٠٠+٣٠٠+٧٠	ب	٦ + ٣ + ٧	ج	٦٠ + ٣٠٠ +٧٠٠٠	د	٦٠٠٠ + ٣٠٠ + ٧

٤- عند تقريب العدد ٧٩١٢٧٥ إلى أقرب مئة ألف يصبح :

أ	٨٠٠٠٠	ب	٧٠٠٠٠	ج	٧٠٠٠٠٠	د	٨٠٠٠٠٠

٥- تستغرق مريم ٥ دقائق لتغليف هدية، كم دقيقة تستغرقها لتغليف ١٠ هدايا ؟

أ	١٥ دقيقة	ب	٢٠ دقيقة	ج	٤٠ دقيقة	د	٥٠ دقيقة

٦- العدد الذي يجعل الجملة العددية التالية صحيحة (٢١ + ◯) +١٢ =٢١ + (١٧ + ١٢) هو :

أ	٢٠	ب	١٢	ج	٢١	د	١٧

٧- قاعدة الطرح المستعملة في ٤٢ - ◯ = ٤٢ هي :

أ	العنصر المحايد	ب	طرح الصفر من عدد	ج	التجميع	د	الابدال

٨- تقدير ناتج طرح ٥٧٦ - ٢٠٣ مقربا إلى أقرب مئة يساوي :

أ	٤٠٠	ب	٣٠٠	ج	٢٠٠	د	١٠٠

٩- أي العمليات التالية تجعل الجملة العددية : ١٤ ..... ٨ = ٢٢ صحيحة ؟

أ	-	ب	+	ج	÷	د	×

١٠- احتمال وقوف المؤشر عند عدد أكبر من ٦ هو :

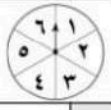

أ	٥ من ٦	ب	٤ من ٦	ج	٣ من ٦	د	٠ من ٦

١١- أي مما يلي ليست عبارة عددية ؟

أ	٤١ + ٦٦	ب	١٧ + ٣	ج	٢٨ - ٩ = ١٩	د	١٢ + ٢ + ٦

١٢- اشترت مريم ١٦ قلادة،أعطت ١٠ منها لصديقاتها. كم قلادة بقيت معها؟ الجملة العددية التي تمثل المسألة السابقة هي:

أ	١٦ + ١٠ = ٣٦	ب	١٦ - ١٠ = ٦	ج	١٦ + ١٠	د	١٦ - ١٠

١٣- زوج الأعداد الذي لايمكن أن تراه في جدول قاعدته ((اضرب في ٦)) هو :

أ	٥ و ٣٠	ب	٨ و ٢٤	ج	١٠ و ٦٠	د	٧ و ٤٢

١٤- من خلال التمثيل المجاور، قطع الأثاث الأقل عددًا في المدرسة هي :

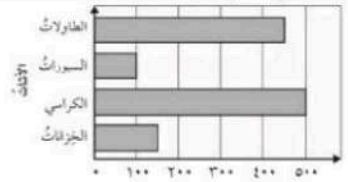

أ	الخزانات	ب	الكراسي	ج	السبورات	د	الطاولات

١٥ - الجزء الذي يمثل الذين يفضلون التفاح في التمثيل المجاور هو :



أ	١/٤	ب	١/٢	ج	١/٣	د	٣/٤

١٦ - احتمال اختيار بطاقة كتب عليها غير حرف (ل) دون النظر إلى البطاقات هو : [١] [ل] [س] [ل] [١] [ل]

أ	مؤكد	ب	أكثر احتمال	ج	متساوي الامكانية	د	مستحيل

ب) قارن بوضع الإشارة المناسبة (< ، > ، =) ٤

١٢٦٨٣ ◯ ١٢٦٣٨ ، ٣٠٤٩٩٩ ◯ ٣٠٥٠٤٩ ، ٨+٧٠+٢٠٠ ◯ ٢+٨٠+٧٠٠ ، ٥٦٧٧ ◯ ٥٦٧٧

السؤال الثاني : أ) ضع علامة (✓) أمام العبارة الصحيحة وعلامة (✗) أمام العبارة الخاطئة فيما يلي : ٥

١- عندما نطرح نبدأ دائمًا بمنزلة الآحاد	
٢- الخاصية المستعملة في ٦ + ٠ = ٦ هي خاصية العنصر المحايد	
٣- يوضح التمثيل بالخطوط كيف تتغير مجموعة من البيانات مع مرور الزمن .	
٤- (٨ + ٤ + ٩ = ٢١) تسمى عبارة عددية .	
٥- الرسم المجاور يمثل الجملة العددية ٤ + ١ = ٥ 	

ب) أوجد ناتج مايلي : ٤

٢٩٠	٧٠٧
+ ٦٩٣	- ٥٣٥

ج) مع حمد ٧٩ ريالاً فإذا اشترى آلة حاسبة بمبلغ ٤٨ ريال، وكتيبًا بمبلغ ١١ ريال فكم ريالاً تقريبًا بقي معه ؟ ١

.....

.....

السؤال الثالث : أجب عما يلي : ١٠

أ) رتب الأعداد التالية من الأصغر إلى الأكبر : ٢

٧٦١٣ ، ٧٧٠٢ ، ٨٠٥٤ ، ٧٤٩٩

..... ، ..... ، ..... ، .....

ب) نظم البيانات التالية في لوحة إشارات : ٤

الأدوات المدرسية المبيعة خلال ساعة	
الأدوات	التكرار
الممحاة	٥
الصمغ	٢
القلم الرصاص	٨
المقص	١

الأدوات المدرسية المبيعة خلال ساعة	
الأدوات	الإشارات
الممحاة	
الصمغ	
القلم الرصاص	
المقص	

ج) أكمل الجدول التالي : ٤

القاعدةُ: △ × ٣	
المدخلةُ (△)	المخرجةُ (□)
٣	
٤	
٥	
٦	

نموذج الإجابة

المادة / رياضيات
الصف / الرابع الابتدائي
الزمن / ساعتان
الفترة / الأولى

اختبار الفصل الدراسي الأول (الدور الأول) للعام الدراسي ١٤٤٤ هـ

الاسم / ..... الفصل ..... رقم الجلوس .....

السؤال الأول	السؤال الثاني	السؤال الثالث	المجموع	اسم المصحح	اسم المراجع	اسم المدقق
٢٠	١٠	١٠	٤٠			
الدرجة النهائية كتابة						

السؤال الأول : أ) اختر الإجابة الصحيحة فيما يلي : ١٦

١- ما القيمة المنزلية للرقم ٦ في العدد ٥٦٤١٨٣ ؟

أ	٦٠	ب	٦٠٠	ج	٦٠٠٠	د	٦٠٠٠٠

٢- يكتب العدد (تسع ملايين ومئة وثلاث وأربعون ألف وثمان مئة وستة عشر) بالصيغة القياسية كالتالي :

أ	٨١٦١٤٣٩	ب	٩١٣٤٦١٨	ج	٩١٤٣٨١٦	د	١٩٤٣٨١٦

٣- الصيغة التحليلية للعدد ٦٠٣٧٠ هي :

أ	٦٠٠٠٠+٣٠٠+٧٠	ب	٦ + ٣ + ٧	ج	٧٠٠٠+٣٠٠ + ٦٠	د	٦٠٠٠ + ٣٠٠ + ٧

٤- عند تقريب العدد ٧٩١٢٧٥ إلى أقرب مئة ألف يصبح :

أ	٨٠٠٠٠	ب	٧٠٠٠٠	ج	٧٠٠٠٠٠	د	٨٠٠٠٠٠

٥- تستغرق مريم ٥ دقائق لتغليف هدية، كم دقيقة تستغرقها لتغليف ١٠ هدايا ؟

أ	١٥ دقيقة	ب	٢٠ دقيقة	ج	٤٠ دقيقة	د	٥٠ دقيقة

٦- العدد الذي يجعل الجملة العددية التالية صحيحة (٢١ + ●) +١٢ =٢١ + (١٧ + ١٢) هو :

أ	٢٠	ب	١٢	ج	٢١	د	١٧

٧- قاعدة الطرح المستعملة في ٤٢ - ● = ٤٢ هي :

أ	العنصر المحايد	ب	طرح الصفر من عدد	ج	التجميع	د	الابدال

٨- تقدير ناتج طرح ٥٧٦ - ٢٠٣ مقربا إلى أقرب مئة يساوي :

أ	٤٠٠	ب	٣٠٠	ج	٢٠٠	د	١٠٠

موقع منهجي
mnhaji.com

٩- أي العمليات التالية تجعل الجملة العددية : ١٤ ..... ٨ = ٢٢ صحيحة ؟

أ	-	ب	+	ج	÷	د	×

١٠- احتمال وقوف المؤشر عند عدد أكبر من ٦ هو :

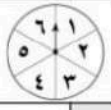

أ	٥ من ٦	ب	٤ من ٦	ج	٣ من ٦	د	٠ من ٦

١١- أي مما يلي ليست عبارة عددية ؟

أ	٤١ + ٦٦	ب	١٧ + ٣	ج	٢٨ - ٩ = ١٩	د	١٢ + ٢ + ٦

١٢- اشترت مريم ١٦ قلادة،أعطت ١٠ منها لصديقاتها. كم قلادة بقيت معها؟ الجملة العددية التي تمثل المسألة السابقة هي:

أ	١٦ + ١٠ = ٣٦	ب	١٦ - ١٠ = ٦	ج	١٦ + ١٠	د	١٦ - ١٠

١٣- زوج الأعداد الذي لايمكن أن تراه في جدول قاعدته ((اضرب في ٦)) هو :

أ	٥ و ٣٠	ب	٨ و ٢٤	ج	١٠ و ٦٠	د	٧ و ٤٢

١٤- من خلال التمثيل المجاور، قطع الأثاث الأقل عددًا في المدرسة هي :

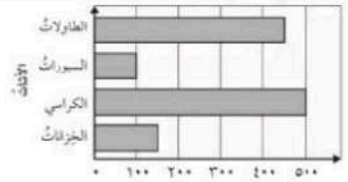

أ	الخزانات	ب	الكراسي	ج	السبورات	د	الطاولات

١٥ - الجزء الذي يمثل الذين يفضلون التفاح في التمثيل المجاور هو :



أ	$\frac{١}{٤}$	ب	$\frac{١}{٢}$	ج	$\frac{١}{٣}$	د	$\frac{٣}{٤}$

١٦ - احتمال اختيار بطاقة كتب عليها غير حرف (ل) دون النظر إلى البطاقات هو : ا ل س ل ا ل

أ	مؤكد	ب	أكثر احتمال	ج	متساوي الامكانية	د	مستحيل

ب) قارن بوضع الإشارة المناسبة (< ، > ، =) ٤

٧٨٢ ٢٧٨

١٢٦٨٣ < ١٢٦٣٨ ، ٣٠٤٩٩٩ > ٣٠٥٠٤٩ ، ٨+٧٠+٢٠٠ > ٢+٨٠+٧٠٠ ، ٥٦٧٧ = ٥٦٧٧

السؤال الثاني : أ) ضع علامة (✓) أمام العبارة الصحيحة وعلامة (✗) أمام العبارة الخاطئة فيما يلي : ٥

١- عندما نطرح نبدأ دائمًا بمنزلة الآحاد	✓
٢- الخاصية المستعملة في ٦ + ٠ = ٦ هي خاصية العنصر المحايد	✓
٣- يوضح التمثيل بالخطوط كيف تتغير مجموعة من البيانات مع مرور الزمن .	✓
٤- (٨ + ٤ + ٩ = ٢١) تسمى عبارة عددية . جملة	✗
٥- الرسم المجاور يمثل الجملة العددية ٤ + ١ = ٥ ٥-١=٤	✗

موقع منهجي
mnhaji.com

ب) أوجد ناتج مايلي : ٤

٢٩٠ + ٦٩٣ = ٩٨٣	٧٠٠ - ٥٣٥ = ١٧٢

ج) مع حمد ٧٩ ريالاً فإذا اشترى آلة حاسبة بمبلغ ٤٨ ريال، وكتيبًا بمبلغ ١١ ريال فكم ريالاً تقريبًا بقي معه ؟ ١

بقي معه: ٤٨ + ١١ = ٥٩

٧٩ - ٥٩ = ٢٠ ريال

السؤال الثالث : أجب عما يلي : ١٠

أ) رتب الأعداد التالية من الأصغر إلى الأكبر : ٢

٧٦١٣ ، ٧٧٠٢ ، ٨٠٥٤ ، ٧٤٩٩

٧٤٩٩ ، ٧٦١٣ ، ٧٧٠٢ ، ٨٠٥٤

ب) نظم البيانات التالية في لوحة إشارات : ٤

الأدوات المدرسية المبيعة خلال ساعة	
الأدوات	التكرار
الممحاة	٥
الصمغ	٢
القلم الرصاص	٨
المقص	١

الأدوات المدرسية المبيعة خلال ساعة	
الأدوات	الإشارات
الممحاة	𝍸
الصمغ	||
القلم الرصاص	𝍸 |||
المقص	|

ج) أكمل الجدول التالي : ٤

القاعدة: △ × ٣	
المدخلة (△)	المخرجة (□)
٣	٩
٤	١٢
٥	١٥
٦	١٨

موقع منهجي
mnhaji.com

		المادة: رياضيات
		الصف : الرابع الابتدائي
		الزمن: ساعتان ونصف
		عدد الأوراق: ٣

الاختبار النهائي للصف الرابع الابتدائي الفصل الدراسي الأول الدور الأول لعام ١٤٤٨ هـ

الاسم	.....	الصف ٤ /	الدرجة المستحقة	
				٤٠

السؤال الأول: (أ) اختر الإجابة الصحيحة لكل مما يلي بتظليل الحرف الدال عليها: ٢٠

١	القيمة المنزلية للرقم الذي تحته خط ٩٢٦٧٩٤ هي:							
	أ	٩٠٠	ب	٩٠	ج	٩٠٠٠٠٠	د	٩٩
٢	قرب العدد ٨٣٢٧٥٩٢٥ إلى أقرب ألف ؟							
	أ	٨٣٣٠٠٠٠٠	ب	٨٠٠٠٠٠٠٠	ج	٨٣٠٠٠٠٠٠	د	٨٣٤٠٠٠٠٠
٣	الصيغة القياسية للعدد (خمسةً وعشرين ألفًا وأربع مئة وثمانية) هي:							
	أ	٤٤٠٠٠	ب	٢٥٤٠٨	ج	٤٨٢٥	د	٢٥٤٠
٤	الصيغة التحليلية للعدد ٥٠٥٠ هي :							
	أ	٥٠٠٠+٠+٥٠+٠	ب	٠+٥٠+٥+٠	ج	٥+٠+٠+٠+٥	د	٠+٥+٩+٠
٥	اذا كان الرقم في منزلة عشرات الملايين فإنه يكون امامه :							
	أ	٧منازل	ب	٥منازل	ج	٣منازل	د	٤منازل
٦	أي الرموز التالية تجعل الجملة العددية ٣٠٣٠ ..... ٣٠٣٠ صحيحة؟							
	أ	>	ب	<	ج	=	د	+
٧	العدد المفقود في العملية التالية ٣٩٤٧=٧+٤٠+.....+٣٠٠٠							
	أ	٩٠	ب	٩٠٠٠٠٠	ج	٩	د	٩٠٠
٨	أي الرموز التالية تجعل الجملة العددية ٧٦١٠١ ..... ٧٧٠٠٠ صحيحة:							
	أ	=	ب	>	ج	<	د	+
٩	العدد المفقود ١٩- ..... =١٩:							
	أ	١٩	ب	صفر	ج	٣	د	٢
١٠	أي مما يلي تمثل جملة عددية							
	أ	٣+٢=٥	ب	٩-٨	ج	١٠-٥	د	٣+٢
١١	ناتج جمع الاعداد التالية ٢١+١٦+١٩ ذهنياً هو:							
	أ	٥٦	ب	٣٠	ج	١٠٠	د	٨٧
١٢	العدد المختلف عن بقية الأعداد ١٠٠٠٠ ، ١٠ مئات ، عشرة آلاف ، ١٠٠ مئة							
	أ	عشرة آلاف	ب	١٠٠٠٠	ج	١٠مئات	د	١٠٠مئة

يتبع

تابع السؤال الأول: (أ) اختر الإجابة الصحيحة لكل مما يلى بتظليل الحرف الدال عليها:

١٣	اذا تم تدوير المؤشر فما احتمال ظهور عدد أقل من ٣ ؟ 							
	أ	أقل احتمالًا	ب	أكثر احتمالًا	ج	متساوي الإمكانية	د	مستحيل
١٤	من التمثيل بالأعمدة المجاور الصف الذي حصل على ثلاث بطولات هو الصف : 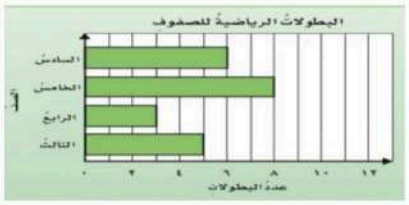							
	أ	الخامس	ب	الرابع	ج	السادس	د	الثالث
١٥	الصيغة اللفظية الصحيحة للعدد ٣٨٨٧٥ هي:							
	أ	ثمانية وثلاثون ألف وخمسة وسبعون	ب	ثمانية وثلاثون ألف وثمان مئة وخمسة	ج	ثمانية وثلاثون ألف وثمان مئة وخمسة وسبعون	د	ثمانية وثلاثون ألف وسبع مئة وخمسة وسبعون

(ب) ضع علامة (✓) أمام العبارة الصحيحة وعلامة (✗) أمام العبارة الخاطئة :

١	المسح هو إحدى طرق جمع البيانات	
٢	عندما تطرح تبدأ دائمًا بمنزلة الاحاد	
٣	كتبت جمانة اليوم ٣ رسائل ورسالتين يوم أمس ،فكم رسالة كتبت في اليومين ؟ الجملة العددية للسؤال هي ٣+٢	
٤	يقدر ناتج العملية ٧١٢٧ - ٢٨٩٣ مقرباً إلى أقرب ألف بـ ٧٠٠٠	
٥	من خلال التمثيل بالخطوط المجاور نستنتج ان عدد الطلاب الذين استقلوا الحافلة المدرسية في عام ١٤٣٧هـ هو ٢٥٠ 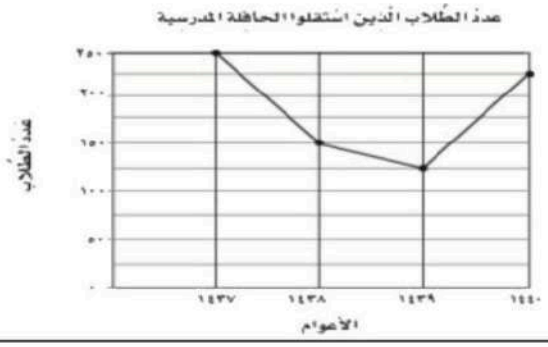	

السؤال الثاني: أجب عما يلي :

أ) أوجد ناتج العمليات التالية :

٨٣٤٦	٢٣٨٢٤	٨٨٤٥	٦٠٤
+ ٧٢٠٨	+ ٧٣٤٦٩	- ٦٢٧	- ٤٩٢

يتبع ←

السؤال الثاني: أجب عما يلي :

ب

اكمل جدول الدالة التالي :

القاعدةُ : △ ÷ ٢	
المُدخَلةُ △	المُخرَجةُ □
٨	
١٠	
١٢	
١٤	

السؤال الثالث: أجب عما يلي : ١٠

أ

اختر الخطة المناسبة وحل المسألة:

تستغرق مريم ٥ دقائق لتغليف هدية كم دقيقة تستغرقها لتغليف ١٠ هدايا ؟

.....

.....

ب

رتب الأعداد التالية من الأكبر الى الأصغر

١٢٣٤٥٦٧ ، ١٢٣٤٥٦ ، ١٢٣٤٥٦٧٨٩

....

ج

مثل الجملة العددية التالية ١٤ - ٨ = □ بالرسم ؟

د

نظم البيانات التالية في جدول تكراري

الأدواتُ المدرسيةُ المبيعةُ خلالَ ساعة	
الأدواتُ	الإشاراتُ
المِمحاةُ	𝍸
الصمغُ	𝍸
القلمُ الرصاصِ	𝍸 𝍸 |||
المِقصُّ		

موقع منهجي mnhaji.com

إنتهت الأسئلة مع تمنياتي لكم بالتوفيق

المادة: رياضيات	# نموذج الإجابة
الصف : الرابع الابتدائي	
الزمن: ساعتان ونصف	
عدد الأوراق: ٣	

الاختبار النهائي للصف الرابع الابتدائي الفصل الدراسي الأول الدور الأول لعام ١٤٤٨ هـ

الاسم	..... نموذج إجابة	الصف ٤ /	الدرجة المستحقة	
				٤٠

السؤال الأول: (أ) اختر الإجابة الصحيحة لكل مما يلي بتظليل الحرف الدال عليها: ٢٠

١	القيمة المنزلية للرقم الذي تحته خط ٩٢٦٧٩٤ هي: (كل فقرة بدرجة)							
	أ	٩٠٠	ب	٩٠	ج	٩٠٠٠٠٠	د	٩٩
٢	قرب العدد ٨٣٢٧٥ إلى أقرب ألف ؟							
	أ	٨٣٠٠٠	ب	٨٠٠٠٠	ج	٨٣٢٠٠	د	٨٣٠٠
٣	الصيغة القياسية للعدد (خمسةً وعشرين ألفًا وأربع مئة وثمانية) هي:							
	أ	٤٤٠٠٠	ب	٢٥٤٠٨	ج	٤٨٢٥	د	٢٥٤٠
٤	الصيغة التحليلية للعدد ٥٠٥٠ هي :							
	أ	٥٠٠٠+٠+٥٠+٠	ب	٠+٥٠+٥+٠	ج	٥+٠+٠+٠+٥	د	٠+٥+٩+٠
٥	اذا كان الرقم في منزلة عشرات الملايين فإنه يكون امامه :							
	أ	٧منازل	ب	٥منازل	ج	٣منازل	د	٤منازل
٦	أي الرموز التالية تجعل الجملة العددية ٣٠٣٠ ..... ٣٠٣٠ صحيحة؟							
	أ	>	ب	<	ج	=	د	+
٧	العدد المفقود في العملية التالية ٣٩٤٧=٧+٤٠+.....+٣٠٠٠							
	أ	٩٠	ب	٩٠٠٠٠٠	ج	٩	د	٩٠٠
٨	أي الرموز التالية تجعل الجملة العددية ٧٦١٠١ ..... ٧٧٠٠٠ صحيحة:							
	أ	=	ب	>	ج	<	د	+
٩	العدد المفقود ١٩- ..... =١٩:							
	أ	١٩	ب	صفر	ج	٣	د	٢
١٠	أي مما يلي تمثل جملة عددية ؟							
	أ	٣+٢=٥	ب	٩-٨	ج	١٠-٥	د	٣+٢
١١	ناتج جمع الاعداد التالية ٢١+١٦+١٩ ذهنياً هو:							
	أ	٥٦	ب	٣٠	ج	١٠٠	د	٨٧
١٢	العدد المختلف عن بقية الأعداد ١٠٠٠٠ ، ١٠ مئات ، عشرة آلاف ، ١٠٠ مئة							
	أ	عشرة آلاف	ب	١٠٠٠٠	ج	١٠ مئات	د	١٠٠ مئة

موقع منهجي
mnhaji.com

يتبع

تابع السؤال الأول: (أ) اختر الإجابة الصحيحة لكل مما يلي بتظليل الحرف الدال عليها:

١٣	اذا تم تدوير المؤشر فما احتمال ظهور عدد أقل من ٣ ؟ 							
	أ	أقل احتمالًا	ب	أكثر احتمالًا	ج	متساوي الإمكانية	د	مستحيل
١٤	من التمثيل بالأعمدة المجاور الصف الذي حصل على ثلاث بطولات هو الصف : 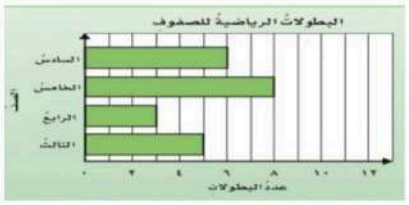							
	أ	الخامس	ب	الرابع	ج	السادس	د	الثالث
١٥	الصيغة اللفظية الصحيحة للعدد ٣٨٨٧٥ هي:							
	أ	ثمانية وثلاثون ألف وخمسة وسبعون	ب	ثمانية وثلاثون ألف وثمان مئة وخمسة	ج	ثمانية وثلاثون ألف وثمان مئة وخمسة وسبعون	د	ثمانية وثلاثون ألف وسبع مئة وخمسة وسبعون

(ب) ضع علامة (✓) أمام العبارة الصحيحة وعلامة (✗) أمام العبارة الخاطئة : كل فقرة بدرجة

١	المسح هو إحدى طرق جمع البيانات	✓
٢	عندما تطرح تبدأ دائمًا بمنزلة الاحاد	✓
٣	كتبت جمانة اليوم ٣ رسائل ورسالتين يوم أمس ،فكم رسالة كتبت في اليومين ؟ الجملة العددية للسؤال هي ٣+٢	✗
٤	يقدر ناتج العملية ٧١٢٧ - ٢٨٩٣ مقرباً إلى أقرب ألف بـ ٧٠٠٠	✗
٥	من خلال التمثيل بالخطوط المجاور نستنتج ان عدد الطلاب الذين استقلوا الحافلة المدرسية في عام ١٤٣٧هـ هو ٢٥٠ 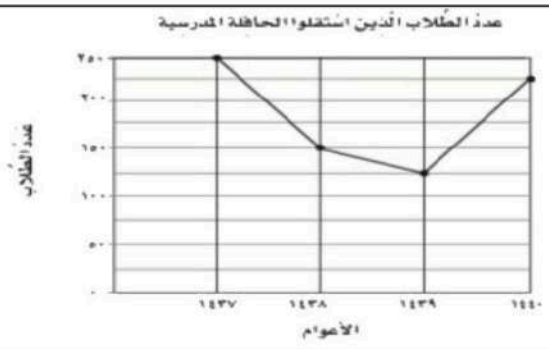	✓

السؤال الثاني: أجب عما يلي :

أ) أوجد ناتج العمليات التالية : كل فقرة بدرجتين

	٨٣٤٦	٢٣٨٢٤	٨٨٤٥	٦٠٤
	+ ٧٢٠٨	+ ٧٣٤٦٩	- ٦٢٧	- ٤٩٢
	١٥٥٥٤	٩٧٢٩٣	٨٢١٨	١١٢

موقع منهجي
mnhaji.com

يتبع

السؤال الثاني: أجب عما يلي :

ب اكمل جدول الدالة التالي : ٢

القاعدةُ : △ ÷ ٢	
المُدخَلةُ △	المُخرَجةُ □
٨	٤
١٠	٥
١٢	٦
١٤	٧

السؤال الثالث: أجب عما يلي : ١٠

أ اختر الخطة المناسبة وحل المسألة:

تستغرق مريم ٥ دقائق لتغليف هدية كم دقيقة تستغرقها لتغليف ١٠ هدايا ؟ ٢

باستعمال الضرب

١٠ × ٥ = ٥٠ دقيقة

ب رتب الأعداد التالية من الأكبر الى الأصغر ٢

١٢٣٤٥٦٧ ، ١٢٣٤٥٦ ، ١٢٣٤٥٦٧٨٩

١٢٣٤٥٦٧٨٩ ١٢٣٤٥٦٧ ١٢٣٤٥٦

ج مثل الجملة العددية التالية ١٤ - ٨ = ٦ بالرسم ؟ ٢

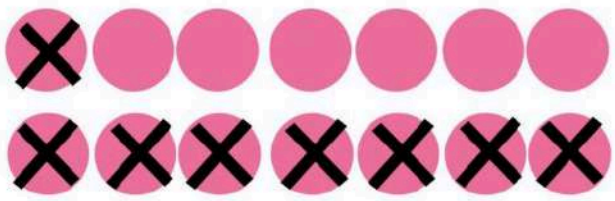

د نظم البيانات التالية في جدول تكراري ٤

الأدواتُ المدرسيةُ المبيعةُ خلالَ ساعة	
الأدواتُ	الإشاراتُ
المِمحاةُ	|||||
الصمغُ	||
القلمُ الرصاص	||||| |||
المِقصّ		

الادوات المدرسية خلال ساعة	
الادوات	التكرار
الممحاة	٥
الصمغ	٢
القلم الرصاص	٨
المقص	١

إنتهت الأسئلة مع تمنياتي

موقع منهجي
mnhaji.com