تم تحميل وعرض المادة من

موقع كتبي



www.kottby.net

موقع كتبي يعرض لكم الكتب الدراسية الطبعة الجديدة
وحلولها، وشرح للمناهج الدراسية، توزيع المناهج، تحاضير،
أوراق عمل، نماذج إختبارات عرض مباشر وتحميل PDF

حمل التطبيق من هنا

احصل عليه من AppGallery
تنزيل من App Store
احصل عليه من Google Play

	موقع منهجي mnhaji.com	المادة: رياضيات
		الصف: الثاني الابتدائي
		الزمن: ساعتان

أسئلة اختبار نهاية الفصل الدراسي الأول – (الدور الأول) – للعام الدراسي ١٤٤٨ هـ

اسم المصحح :	اسم المراجع :	الدرجة النهائية رقماً من (٤٠)	الدرجة كتابة
توقيعه :	توقيعه :		

اسم الطالب:	رقم الجلوس : .....

السؤال الأول :- اقرأ كلّ سؤال بعناية، ثمّ ضع دائرة حول الإجابة الصحيحة : ١٥

١ – ما هي القيمة المنزلية للرقم ٤ في العدد ٤٧ ؟

٤٠	٧٠	٤	٧

٢ – كم يساوي ٢ آحاد وَ ٥ عشرات ؟

٥٢	٥٢٠	٢٥	٥٢ عشرة

٣ – عند مقارنة العددين ٣١ ◯ ٣٠ ، فإن الإشارة الصحيحة هي :

<	>	=	+

٤ – إذا كان ٧ + ٥ = ١٢ فإن ناتج ٥ + ٧ هو :

١١	١٢	١٠	٩

٥ – ناتج جمع العدد ونفسه ٥ + ٥ يساوي :

٩	١٠	١١	١٢

٦ – ناتج طرح ١٢ – ٥ يساوي :

٦	٧	٨	١٧



تابع بقية الأسئلة

٧ – العدد المفقود في جمع الجمع التالية ٤ + ☐ = ٨ هو :

٢	٣	٤	٧

٨ – إذا اختارت فاطمة مُلصقًا دون أن تنظر إليه،



فما المُلصق الذي يكون التقاطه (أكثر إمكانيَّة) ؟

☆	❀	☺	☾

٩ – انظر إلى جدول الإشارات المجاور ، كم طالبًا لديه لعبة واحدة ؟

عَدَدُ اللُّعَبِ	الإِشَارَاتُ
١	𝍸 𝍸 |||
٢	𝍸 |

١٠	٧	٨	٣

١٠ – ناتج جمع العشرات ٢٠ + ٣٠ يساوي :

٢٠	٣٠	٦٠	٥٠

١١ – ناتج جمع ٤٧ + ٢ هو :

٩٤	٦٤	٤٨	٤٩

١٢ – ناتج جمع ٩ + ٠ يساوي :

١٨	٠	١٠	٩

١٣ – يوجد ١٠ حبات فاصولياء في العلبة المجاورة، فكم حبة تكفي العلبة تقريبًا ؟



٣٠	٧٠	١٠٠	١٢٠

١٤ – ما العدد الذي يمثل (اثنان وسبعون) بالأرقام ؟

٢٧	٧٢	٦٢	٧٠٢

١٥ – عند طرح ٤٨ – ٦ فإن الناتج هو :

٤٠	٥٤	٤٢	٤٨



تابع بقية الأسئلة

٣

السؤال الثاني: ضع (✓) أمام العبارة الصحيحة و علامة (✗) أمام العبارة الخاطئة :

١ – في العدد ٨٢ الرقم ٢ هو في منزلة العشرات .	( )
٢ – إذا لديك كيس به كرات **زرقاء فقط** ، فإن سحب كرة حمراء هو حدث **مستحيل** .	( )
٣ – العدد ٣٥ يكتب بالكلمات خمسةٌ وثلاثون .	( )

٤

السؤال الثالث: أجب عن الأسئلة التالية .

■ أكمل النمط التالي : ١٥ ، ٢٠ ، ٢٥ ، ..... ، ..... .

■ أكمل الحقائق المترابطة للأعداد (٣ ، ٤ ، ٧) :

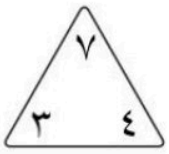

٣ + ٤ = ...

٧ – ٤ = ...

٨

السؤال الرابع: أوجد ناتج الجمع فيما يلي :

٣ ٤ ٤ + _____	١٠ ٨ ٨ + _____	٥ ٢ ٥ + _____	□ ١ ٩ ٦ + _____

٨

السؤال الخامس: أوجد ناتج الطرح :

١ ٧ ٤ _ _____	٥ ٠ ٤ ٠ _ _____	٦ ١ ١ _ _____	٤ ٧ ٢ ٤ _ _____

٢

السؤال السادس: إذَا كَانَ خَارِجَ الحَظِيرَة ١٨ بَقَرة ، ثُم عَادَت ١٠ بَقَرَات مِنهَا إلى الحَظِيرة ، فَكَم بَقَرة بَقِيت خَارِج الحَظِيرة ؟



..... ◯ ..... ◯ ..... بَقَرَات

انتهت الأسئلة يا أبطال



موقع منهجي
mnhaji.com
إعداد: أحمد الحسن

معلم المادة

.....

المادة: رياضيات	# نموذج الإجابة
الصف: الثاني الابتدائي	
الزمن: ساعتان	

أسئلة اختبار نهاية الفصل الدراسي الأول – (الدور الأول) – للعام الدراسي ١٤٤٨ هـ

اسم المصحح :	اسم المراجع :	الدرجة النهائية رقماً من (٤٠)	الدرجة كتابة
توقيعه :	توقيعه :		

اسم الطالب:	نموذج إجابة	رقم الجلوس : .....

السؤال الأول :- اقرأ كلّ سؤال بعناية، ثمّ ضع دائرة حول الإجابة الصحيحة : ١٥

١ – ما هي القيمة المنزلية للرقم ٤ في العدد ٤٧ ؟

٤٠	٧٠	٤	٧

٢ – كم يساوي ٢ آحاد وَ ٥ عشرات ؟

٥٢	٥٢٠	٢٥	٥٢ عشرة

٣ – عند مقارنة العددين ٣١ ◯ ٣٠ ، فإن الإشارة الصحيحة هي :

<	>	=	+

٤ – إذا كان ٧ + ٥ = ١٢ فإن ناتج ٥ + ٧ هو :

١١	١٢	١٠	٩

٥ – ناتج جمع العدد ونفسه ٥ + ٥ يساوي :

٩	١٠	١١	١٢

٦ – ناتج طرح ١٢ – ٥ يساوي :

٦	٧	٨	١٧



تابع بقية الأسئلة

موقع منهجي
mnhaji.com

٧ – العدد المفقود في جمع الجمع التالية ٤ + ☐ = ٨ هو :

٢	٣	٤	٧

٨ – إذا اختارت فاطمة مُلصقًا دون أن تنظر إليه،



فما المُلصق الذي يكون التقاطه (أكثر إمكانيَّة) ؟

☆	❀	☺	☾

٩ – انظر إلى جدول الإشارات المجاور ، كم طالبًا لديه لعبة واحدة ؟

عَدَدُ اللُّعَبِ	الإِشَارَاتُ
١	𝍸 𝍸 |||
٢	𝍸 |

١٠	٧	٨	٣

١٠ – ناتج جمع العشرات ٢٠ + ٣٠ يساوي :

٢٠	٣٠	٦٠	٥٠

١١ – ناتج جمع ٤٧ + ٢ هو :

٩٤	٦٤	٤٨	٤٩

١٢ – ناتج جمع ٩ + ٠ يساوي :

١٨	٠	١٠	٩

١٣ – يوجد ١٠ حبات فاصولياء في العلبة المجاورة، فكم حبة تكفي العلبة تقريبًا ؟



٣٠	٧٠	١٠٠	١٢٠

١٤ – ما العدد الذي يمثل (اثنان وسبعون) بالأرقام ؟

٢٧	٧٢	٦٢	٧٠٢

١٥ – عند طرح ٤٨ – ٦ فإن الناتج هو :

٤٠	٥٤	٤٢	٤٨

موقع منهجي
mnhaji.com



تابع بقية الأسئلة

٣

السؤال الثاني: ضع (✓) أمام العبارة الصحيحة و علامة (✗) أمام العبارة الخاطئة :

١ – في العدد ٨٢ الرقم ٢ هو في منزلة العشرات .	(✗)
٢ – إذا لديك كيس به كرات **زرقاء فقط** ، فإن سحب كرة حمراء هو حدث **مستحيل** .	(✓)
٣ – العدد ٣٥ يكتب بالكلمات خمسةٌ وثلاثون .	(✓)

٤

السؤال الثالث: أجب عن الأسئلة التالية .

■ أكمل النمط التالي : ١٥ ، ٢٠ ، ٢٥ ، ٣٠ ، ٣٥ .

■ أكمل الحقائق المترابطة للأعداد (٣ ، ٤ ، ٧) :

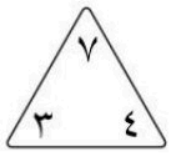

٣ + ٤ = ٧ .

٧ – ٤ = ٣ .

٨

السؤال الرابع: أوجد ناتج الجمع فيما يلي :

٣ + ٤ ٤ = ٤ ٧	١٠ + ٨ ٨ = ٩ ٨	٥ + ٢ ٥ = ١٢	١ ١ ٩ + ٦ = ٢ ٥

٨

السؤال الخامس: أوجد ناتج الطرح :

١٧ – ٤ = ١٣	٥٠ – ٤٠ = ١٠	٦١ – ١ = ٦٠	٤٧ – ٢٤ = ٢٣

٢

السؤال السادس: إذَا كَانَ خَارِجَ الحَظِيرَة ١٨ بَقَرة ، ثُم عَادَت ١٠ بَقَرَات مِنهَا إلى الحَظِيرة ، فَكَم بَقَرة بَقِيت خَارِج الحَظِيرة ؟



١٨ – ١٠ = ٨ بَقَرَات

معلم المادة

.....

انتهت الأسئلة يا أبطال

موقع منهجي
mnhaji.com

اختبار نهاية الفصل الدراسي الأول (الدور الأول)
مادة الرياضيات للصف الثاني الابتدائي
للعام الدراسي ١٤٤٨ هـ

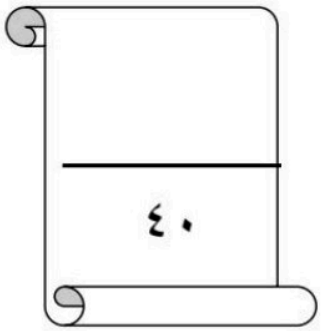

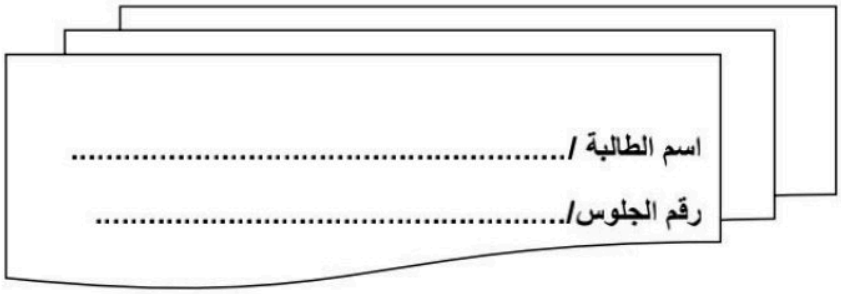

الرقم	الدرجة التي حصل عليها الطالب		اسم المصححة وتوقيعها	اسم المراجعة وتوقيعها	اسم المدققة وتوقيعها
	رقماً	كتابة			
س١					
س٢					
س٣					
المجموع					

تعلميات الاختبار

- **اقرئي السؤال جيداً قبل البدء في الإجابة.**
- **أكتبي بخط واضح مع مراعاة نظافة الورقة.**
- **لا تتركي سؤال بدون إجابة.**
- **راجعي إجابتك أكثر من مرة قبل التسليم.**



السؤال الاول:-اختاري الاجابة الصحيحة مما يأتي:

١٥

١) القيمه المنزلية للرقم (٦) فى العدد (١٦)		
٦	٦٠	٦٠٠
٢) العدد ٥ احاد و ٣عشرات يكتب		
٣٥	٥	٣
٣) العدد (ثمانية وثلاثون)بالأرقام		
٣٨	٨٣	٣٧
٤) العدد (٤٩) بالكلمات		
تسعة واربعون	اثنان واربعون	أربعون
٥) العدد المناسب في النمط ٥ ،. ١٠، ١٥،..... هو		
٢٠	٣٠	٤٠
٦) ناتج جمع ٩ +٢ = ...		
١١	٨	٥
٧) اختار ● من هذا الصنف ● ● ● ●		
اكيد	مستحيل	اقل إمكانية
٨) ناتج طرح ٧ - ٧ =		
٠	١٦	٢٠
٩) العدد الواقع بين العددين ١١ ، ..... ، ١٣ هو		
١٢	١٥	٣٠
١٠) العدد المفقود في ٦+ = ١٣ هو		
٧	٥	٦
١١)عند ترتيب الأعداد (٢٥، ٢١، ٢٨) من الأصغر إلى الأكبر، ما هو الترتيب الصحيح؟		
٢٥،٢١،٢٨	٢٨،٢٥،٢١	٢١،٢٥،٢٨
١٢) ما هو العدد الذي يأتي مباشرة بعد العدد ٣٩؟		
٣٨	٤٠	٤١

١٣) للمقارنة بين العددين ٩١ و ٩٨، ننظر أولاً إلى:		
منزلة الآحاد	منزلة العشرات	لايهم الترتيب
١٤)انظر إلى النمط: مثلث، دائرة، مثلث، دائرة، ... ما هو الشكل التالي؟		
مربع	مثلث	دائرة
١٥) ما هي قاعدة النمط: ٣٠، ٤٠، ٥٠، ٦٠؟		
إضافة ٥	إضافة ١٠	إضافة ٢٠

السؤال الثاني :-

١٥

ضعي علامة (√) أمام العبارات الصحيحة وعلامة (x) أمام العبارات الخاطئة

١)من خصائص الجمع ١١ + ٥ =٥+١١	
٢) يوجد ٦ △ و٣ □ في كيس سحب △ أكثر امكانيه من سحب □	
٣) القيمة المنزلية للرقم (٨) في العدد (٨٤) هي ٨٠	
٤) الاعداد ٥ ، ٧ ، ١٠ مرتبه من الأصغر الي الأكبر	
٥) عند جمع ٣٤ +٨ هناك ضرورة لإعادة التجميع.	
٦)في النمط العددي ١٠، ٨، ٦، ٤، تتناقص الأعداد بمقدار ٢ في كل مرة.	
٧) تقدير ناتج ٥٤+١٥هو ٥٠+ ٢٠. = ٧٠	
٨) ناتج جمع ١٥+ ٣ = ١٨	
٩) العدد ٦٢ يلي العدد ٦١	
١٠)عند حل المسألة ٣١-٢٥ نحتاج الى إعادة تجميع	
١١) العدد ٧٠ يعني ٧ آحاد	
١٢) ناتج جمع ٦٠ + ٣٠ هو ٨٠.	
١٣)تقريب العدد ٣٧ الى اقرب عشرة الرقم ٣٠	
١٤)عند طرح عددين، نبدأ دائماً بمنزلة العشرات.	
١٥) ناتج طرح ٥٠ - ١٩ هو ٣٠	

موقع منهجي
mnhaji.com

١٠

السؤال الثالث :-

(أ) قارني بين كل عددين بوضع إشارة (< ، > ، =)

٢٥ ☐ ٣٠ | ٣٣ ☐ ٣٣ | ٣٣ ☐ ٤٠ | ☐ ٢٠

(ب) استعملي جدول الإشارات للإجابة على الاسئلة :

الفاكهة المفضلة	
نوع الفاكهة	**الاشارات**
موز	١١
برتقال	١١١١
تفاح	١١١

١) الفاكهة المفضلة لدى اكثر الطلاب ؟.....

٢) كم عدد الذين يفضلون الموز والتفاح معا ؟.....

(ج) اوجدي نواتج كلا من

٩٠	٢٧	١٦	٢٣
+ ١٠	٤٥	- ٤	٥
ـــــ	+ ٢٣	ـــــ	-
	ـــــ		ـــــ

د)اجيبي عن المسألة التالية :-

عند هند ٩ أزواج من الجوارب وعند وفاء العدد نفسه من الجوارب ،
فكم زوجاً من الجوارب عندهما ؟

..... انتهت الأسئلة

أ/

اختبار نهاية الفصل الدراسي الأول (الدور الأول)
مادة الرياضيات للصف الثاني الابتدائي
للعام الدراسي ١٤٤٨ هـ

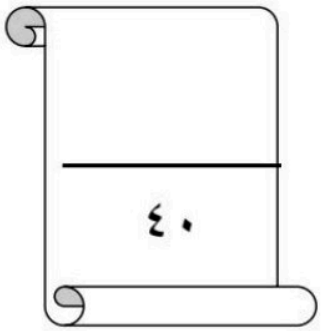

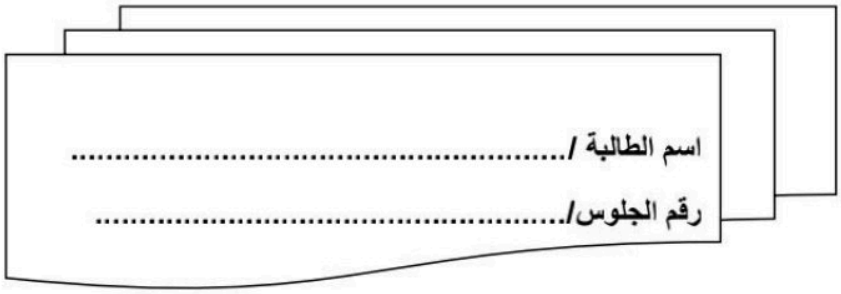

نموذج الإجابة

دقة معها					
				س٣	
				المجموع	

تعلميات الاختبار

- **اقرئي السؤال جيداً قبل البدء في الإجابة.**
- **أكتبي بخط واضح مع مراعاة نظافة الورقة.**
- **لا تتركي سؤال بدون إجابة.**
- **راجعي إجابتك أكثر من مرة قبل التسليم.**

موقع منهجي
mnhaji.com

١٥

السؤال الاول:-اختاري الاجابة الصحيحة مما يأتي:

١) القيمه المنزلية للرقم (٦) فى العدد (١٦)		
٦	٦٠	٦٠٠
٢) العدد ٥ احاد و ٣عشرات يكتب		
٣٥	٥	٣
٣) العدد (ثمانية وثلاثون)بالأرقام		
٣٨	٨٣	٣٧
٤) العدد (٤٩) بالكلمات		
تسعة واربعون	اثنان واربعون	أربعون
٥) العدد المناسب في النمط ٥ ،. ١٠، ١٥،..... هو		
٢٠	٣٠	٤٠
٦) ناتج جمع ٩ +٢ = ...		
١١	٨	٥
٧) اختار ● من هذا الصنف ● ● ● ●		
اكيد	مستحيل	اقل إمكانية
٨) ناتج طرح ٧ - ٧ =		
٠	١٦	٢٠
٩) العدد الواقع بين العددين ١١ ، ..... ، ١٣ هو		
١٢	١٥	٣٠
١٠) العدد المفقود في ٦+ = ١٣ هو		
٧	٥	٦
١١)عند ترتيب الأعداد (٢٥، ٢١، ٢٨) من الأصغر إلى الأكبر، ما هو الترتيب الصحيح؟		
٢٥،٢١،٢٨	٢٨،٢٥،٢١	٢١،٢٥،٢٨
١٢) ما هو العدد الذي يأتي مباشرة بعد العدد ٣٩؟		
٣٨	٤٠	٤١

١٣) للمقارنة بين العددين ٩١ و ٩٨، ننظر أولاً إلى:		
منزلة الآحاد	منزلة العشرات	لايهم الترتيب
١٤)انظر إلى النمط: مثلث، دائرة، مثلث، دائرة، ... ما هو الشكل التالي؟		
مربع	مثلث	دائرة
١٥) ما هي قاعدة النمط: ٣٠، ٤٠، ٥٠، ٦٠؟		
إضافة ٥	إضافة ١٠	إضافة ٢٠

السؤال الثاني :-

١٥

ضعي علامة (√) أمام العبارات الصحيحة وعلامة (x) أمام العبارات الخاطئة

١)من خصائص الجمع ١١ + ٥ =٥+١١	✔
٢) يوجد ٦ △ و٣ □ في كيس سحب △ أكثر امكانيه من سحب □	✔
٣) القيمة المنزلية للرقم (٨) في العدد (٨٤) هي ٨٠	✔
٤) الاعداد ٥ ، ٧ ، ١٠ مرتبه من الأصغر الي الأكبر	✔
٥) عند جمع ٣٤ +٨ هناك ضرورة لإعادة التجميع.	✔
٦)في النمط العددي ١٠، ٨، ٦، ٤، تتناقص الأعداد بمقدار ٢ في كل مرة.	✔
٧) تقدير ناتج ٥٤+١٥هو ٥٠+ ٢٠. = ٧٠	✔
٨) ناتج جمع ١٥+ ٣ = ١٨	✔
٩) العدد ٦٢ يلي العدد ٦١	✔
١٠)عند حل المسألة ٣١-٢٥ نحتاج الى إعادة تجميع	✘
١١) العدد ٧٠ يعني ٧ آحاد	✘
١٢) ناتج جمع ٦٠ + ٣٠ هو ٨٠.	✘
١٣)تقريب العدد ٣٧ الى اقرب عشرة الرقم ٣٠	✘
١٤)عند طرح عددين، نبدأ دائماً بمنزلة العشرات.	✘
١٥) ناتج طرح ٥٠ - ١٩ هو ٣٠	✘

موقع منهجي
mnhaji.com

١٠

السؤال الثالث :-

(أ) قارني بين كل عددين بوضع إشارة (< ، > ، =)

٢٥ > ٣٠ | ٣٣ = ٣٣ | ٤٠ > ٢٠

(ب) استعملي جدول الإشارات للإجابة على الاسئلة :

الفاكهة المفضلة	
نوع الفاكهة	الاشارات
موز	١١
برتقال	١١١١
تفاح	١١١

١) الفاكهة المفضلة لدى اكثر الطلاب ؟..... برتقال

٢) كم عدد الذين يفضلون الموز والتفاح معا ؟..... ٥

(ج) اوجدي نواتج كلا من

٩٠	٢٧	١٦	١١٣ ~~٢٣~~
+ ١٠	+ ٤٥ ٢٣	- ٤	٥ -
١٠٠	٩٥	١٢	١٨

د)اجيبي عن المسألة التالية :-

عند هند ٩ أزواج من الجوارب وعند وفاء العدد نفسه من الجوارب ،

فكم زوجاً من الجوارب عندهما ؟

٩ + ٩ = ١٨ زوجاً

انتهت الأسئلة

أ/

موقع منهجي
mnhaji.com

موقع منهجي mnhaji.com	اختبار نهاية الفصل الدراسي الأول (الدور الأول) للعام الدراسي ١٤٤٨هـ	المادة: رياضيات الصف: الثاني ابتدائي الزمن: ساعتان ونصف اليوم: التاريخ: ..... / ..... / ١٤٤٨هـ

السؤال الأول: اختر الإجابة الصحيحة في كل مما يلي:

١) ما العدد المناسب في النمط ١٠، ١٢، ١٤، □، ١٨ ؟

أ	١٣	ب	١٤	ج	١٥	د	١٦

٢) حدد اسم منزلة الرقم الذي تحته خط وقيمته المنزلية ٨٥ .

أ	الآحاد ٨	ب	العشرات ٨٠	ج	المئات ٨٠٠	د	الألوف ٨٠٠٠

٣) التمثيل بالأعمدة أدناه يُمثل الرياضية المفضلة. ما عدد الطلاب الذين يفضلون رياضة السباحة؟

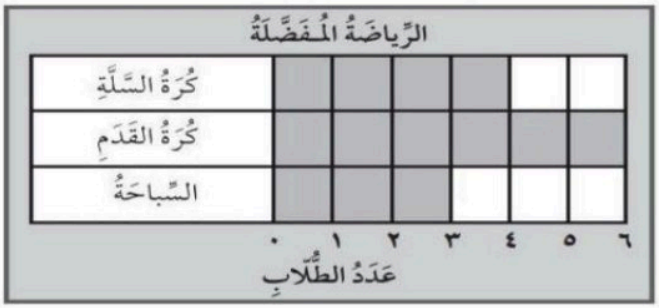

أ	٣	ب	٤	ج	٥	د	٦

٤) باع مقصف المدرسة ٦٤ شطيرة في اليوم الأول، وَ٢٩ شطيرة في اليوم الثاني. ما عدد الشطائر التي باعها في اليومين؟

أ	٩٠	ب	٩٣	ج	٩٦	د	٩٩

٥) رتب الأعداد من الأصغر إلى الأكبر ٥٦ ، ٧ ، ٣٩ ، ٢٤

أ	٣٩، ٥٦، ٢٤، ٧	ب	٢٤، ٣٩، ٧، ٥٦	ج	٧، ٢٤، ٣٩، ٥٦	د	٣٩، ٢٤، ٥٦، ٧

٦) الصيغة اللفظية (الكتابة بالكلمات) للعدد ٦٤هي:

أ	ستة وَأربعة	ب	أربعة وَستون	ج	أربعة وَستة	د	أربعون وَستة

٧) يوجد ١٠ ربطات شعر تقريبا في العلبة الواحدة. كم ربطة تقريبا يمكن أن نضعها في أربع علب من الحجم نفسه؟



أ	١٠ ربطات تقريبا	ب	٢٠ ربطة تقريبا	ج	٣٠ ربطة تقريبا	د	٤٠ربطة تقريبا

٨) الجملة العددية المفقودة من الحقائق المترابطة ٧ + ٩ = ١٦ ، ١٦ – ٧ = ٩ ، ٩ + ٧ = ١٦ هي: ----------

أ	٧ – ٦ = ١	ب	١٦ – ٩ = ٧	ج	٩ – ٧ = ٢	د	١٣ + ٧ = ٢٠

٩) قصّ خالد بعض الأشكال الهندسية الورقية ووضعها في كيس.◇◇◇○○○○◇◇

فإن اختيار الشكل ❁ من الكيس:

أ	أكيد	ب	مستحيل	ج	أكثر إمكانية	د	أقل إمكانية

١٠) اختيار نجمة ★ من هذا الصف ★★★★★:

أ	أكيد	ب	مستحيل	ج	أكثر إمكانية	د	أقل إمكانية

١١) أي العبارات التالية صحيحة؟

أ	٥٦ = ٤٥	ب	٤٥ > ٥٦	ج	٥٦ < ٥٤	د	٥٦ > ٥٤

١٢) انظر إلى الملصقات الموجودة في الدرج. إذا اختار سامي ملصقا دون النظر إليه، فما الملصق الذي يكون التقاطه أكثر إمكانية؟



أ	☺	ب	☆	ج	❁	د	☾

١٣) خبز الخباز ٢٤ رغيفا، إذا باع منها ١٥ رغيفا. فكم رغيفا بقي عنده؟

أ	٢٤ ـ ١٥= ٩	ب	٢٤ + ٥= ٢٩	ج	٢٤ = ١٥	د	٢٤ > ٥

١٤) ما قيمة الرقم ٦ في العدد ٣٦ ؟

أ	٣	ب	٦	ج	٣٠	د	٦٠

١٥) ما ناتج جمع ٤ + ٧ + ٩ = □ ؟

أ	٥	ب	١٠	ج	١٥	د	٢٠

السؤال الثاني: أجب عن الأسئلة التالية:

أ. ضع علامة ✓ أمام العبارة الصحيحة وعلامة × أمام العبارة الخاطئة فيما يلي:

١. الجملة العددية ٩ + ٩ = ١٨ تمثل حقيقة جمع العدد ونفسه	
٢. العدد الذي آحاده ٦ وَعشراته ٤ هو ٦٤	
٣. العدد المفقود في الجملة العددية ٧ + □ = ١٧ هو ١٠	
٤. العدد ١٢ > العدد ٢٢	
٥. في الجملة العددية ١٤ - ٤= ١٠، العدد ١٠ هو الناتج	
٦. تقريب العدد ٢٢ هو ٣٠	

ب. أكمل الفراغ التالي:

١. العدد الذي يلي ٥٩ هو .....

٢. العدد الذي يسبق ٤١ هو .....

٣. ١٠ + ... = ٣٥

٤. ٥٠ - ..... = ٢٠

٥. في العدد ١٨ عدد العشرات هو .....

٦. ناتج ١٤ + ٦ = ...

٧. ناتج ٤٥ ــ ٥ = ...

٨. عدد الآحاد في العدد ٩٨ هو .....

جـ. صل كل عملية بنتائجها الصحيحة.

١	١٢ + ٨ = □		٩٠
٢	٣٠ + ٤٠ = □		٥٠
٣	٤٥ ــ ٥ = □		٤٠
٤	٦٠ ــ ١٠ =□		٧٠
٥	٨٥ + ٥ = □		٢٠

د. أكتب جملة عددية لأحل المسألة.

- يوجد ٤ بطات خارج البحيرة، و٥ بطات في البحيرة، فما عدد البطات جميعها؟

الحل: عدد البطات جميعها = ____ ◯ ____ = ____ بطات

- لدى احمد ١٢ صورة لمجموعة من الحيوانات، إذا أعطى ٥ صور لأخيه، فكم صورة تبقى معه؟

الحل: ما بقي مع احمد = ____ ◯ ____ = ____ صور

هـ. أكتب الإجابة الصحيحة مستعملا التمثيل بالصور لحل الأسئلة التالية:



- ما اللعبة الأقل تفضيلا؟

_____

- ما عدد الطلاب الذين استجابوا للمسح؟

_____

- كم يزيد عدد الطلاب الذين يفضلون الكرة الطائرة على عدد من يفضلون كرة السلة؟

_____

- أستعمل التمثيل بالصور لتمثيل البيانات بالأعمدة.

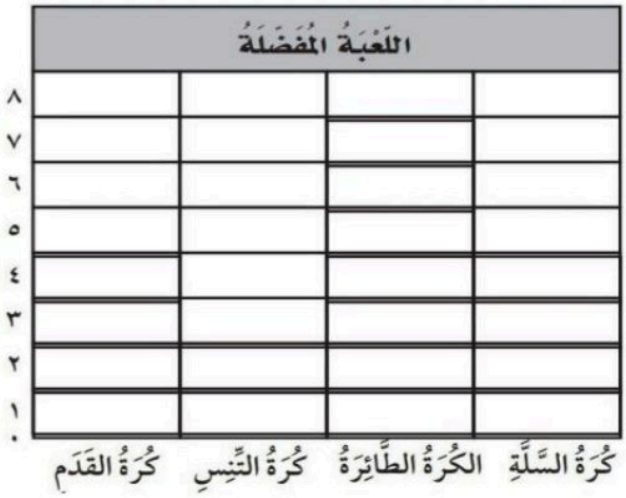

وفقكم الله وسدد خطاكم

موقع منهجي
mnhaji.com

نموذج الإجابة

المادة: رياضيات الصف: الثاني ابتدائي الزمن: ساعتان ونصف	اختبار نهاية الفصل الدراسي الأول (الدور الأول) للعام الدراسي ١٤٤٨هـ	اليوم: التاريخ: ..... / ..... / ١٤٤٨هـ

السؤال الأول: اختر الإجابة الصحيحة في كل مما يلي:

١) ما العدد المناسب في النمط ١٠، ١٢، ١٤، □، ١٨ ؟

أ	ب	ج	د
١٣	١٤	١٥	**١٦**

٢) حدد اسم منزلة الرقم الذي تحته خط وقيمته المنزلية ٨٥ .

أ	ب	ج	د
الآحاد ٨	**العشرات ٨٠**	المئات ٨٠٠	الألوف ٨٠٠٠

٣) التمثيل بالأعمدة أدناه يُمثل الرياضية المفضلة. ما عدد الطلاب الذين يفضلون رياضة السباحة؟



أ	ب	ج	د
٣	٤	٥	٦

٤) باع مقصف المدرسة ٦٤ شطيرة في اليوم الأول، وَ٢٩ شطيرة في اليوم الثاني. ما عدد الشطائر التي باعها في اليومين؟

أ	ب	ج	د
٩٠	**٩٣**	٩٦	٩٩

٥) رتب الأعداد من الأصغر إلى الأكبر ٥٦ ، ٧ ، ٣٩ ، ٢٤

أ	ب	ج	د
٣٩، ٥٦، ٢٤، ٧	٢٤، ٣٩، ٧، ٥٦	**٧، ٢٤، ٣٩، ٥٦**	٣٩، ٢٤، ٥٦، ٧

٦) الصيغة اللفظية (الكتابة بالكلمات) للعدد ٦٤هي:

أ	ب	ج	د
ستة وَأربعة	**أربعة وَستون**	أربعة وَستة	أربعون وَستة

٧) يوجد ١٠ ربطات شعر تقريبا في العلبة الواحدة. كم ربطة تقريبا يمكن أن نضعها في أربع علب من الحجم نفسه؟



أ	ب	ج	د
١٠ ربطات تقريبا	٢٠ ربطة تقريبا	٣٠ ربطة تقريبا	**٤٠ربطة تقريبا**

٨) الجملة العددية المفقودة من الحقائق المترابطة ٧ + ٩ = ١٦ ، ١٦ ــ ٧ = ٩ ، ٩ + ٧ = ١٦ هي: ----------

أ	ب	ج	د
٧ ــ ٦ = ١	١٦ ــ ٩ = ٧	٩ ــ ٧ = ٢	١٣ + ٧ = ٢٠

موقع منهجي
mnhaji.com

٩) قصّ خالد بعض الأشكال الهندسية الورقية ووضعها في كيس.◇◇◇○○○○

فإن اختيار الشكل ❀ من الكيس:

أ	أكيد	ب	مستحيل	ج	أكثر إمكانية	د	أقل إمكانية

١٠) اختيار نجمة ★ من هذا الصف ★★★★★:

أ	أكيد	ب	مستحيل	ج	أكثر إمكانية	د	أقل إمكانية

١١) أي العبارات التالية صحيحة؟

أ	٥٦ = ٤٥	ب	٤٥ > ٥٦	ج	٥٦ > ٥٤	د	٥٦ < ٥٤

١٢) انظر إلى الملصقات الموجودة في الدرج. إذا اختار سامي ملصقا دون النظر إليه، فما الملصق الذي يكون التقاطه أكثر إمكانية؟



أ	☺	ب	☆	ج	❀	د	☾

١٣) خبز الخباز ٢٤ رغيفا، إذا باع منها ١٥ رغيفا. فكم رغيفا بقي عنده؟

أ	٢٤ – ١٥ = ٩	ب	٢٤ + ٥ = ٢٩	ج	٢٤ = ١٥	د	٢٤ > ٥

١٤) ما قيمة الرقم ٦ في العدد ٣٦ ؟

أ	٣	ب	٦	ج	٣٠	د	٦٠

١٥) ما ناتج جمع ٤ + ٧ + ٩ = □ ؟

أ	٥	ب	١٠	ج	١٥	د	٢٠

السؤال الثاني: أجب عن الأسئلة التالية:

أ. ضع علامة ✓ أمام العبارة الصحيحة وعلامة × أمام العبارة الخاطئة فيما يلي:

١. الجملة العددية ٩ + ٩ = ١٨ تمثل حقيقة جمع العدد ونفسه	✓
٢. العدد الذي آحاده ٦ وَعشراته ٤ هو ٦٤	×
٣. العدد المفقود في الجملة العددية ٧ + □ = ١٧ هو ١٠	✓
٤. العدد ١٢ > العدد ٢٢	×
٥. في الجملة العددية ١٤ - ٤= ١٠، العدد ١٠ هو الناتج	✓
٦. تقريب العدد ٢٢ هو ٣٠	×

موقع منهجي
mnhaji.com

ب. أكمل الفراغ التالي:

١. العدد الذي يلي ٥٩ هو ..... ٦٠ (ستون).

٢. العدد الذي يسبق ٤١ هو ..... ٤٠ (أربعون)

٣. ١٠ + ... = ٣٥ ٢٥

٤. ٥٠ - ..... = ٢٠ ٣٠

٥. في العدد ١٨ عدد العشرات هو ١

٦. ناتج ١٤ + ٦ = ... ٢٠

٧. ناتج ٤٥ ــ ٥ = ... ٤٠

٨. عدد الآحاد في العدد ٩٨ هو ٨

جـ. صل كل عملية بنتائجها الصحيحة.

١	١٢ + ٨ = □	٥	٩٠
٢	٣٠ + ٤٠ = □	٤	٥٠
٣	٤٥ ــ ٥ = □	٣	٤٠
٤	٦٠ ــ ١٠ =□	٢	٧٠
٥	٨٥ + ٥ = □	١	٢٠

موقع منهجي
mnhaji.com

د. أكتب جملة عددية لأحل المسألة.

- يوجد ٤ بطات خارج البحيرة، و٥ بطات في البحيرة، فما عدد البطات جميعها؟

الحل: عدد البطات جميعها = ٤ + ٥ = ٩ بطات

- لدى احمد ١٢ صورة لمجموعة من الحيوانات، إذا أعطى ٥ صور لأخيه، فكم صورة تبقى معه؟

الحل: ما بقي مع احمد = ١٢ - ٥ = ٧ صور

هـ. أكتب الإجابة الصحيحة مستعملا التمثيل بالصور لحل الأسئلة التالية:



- ما اللعبة الأقل تفضيلا؟

كرة التنس

- ما عدد الطلاب الذين استجابوا للمسح؟

١٧

- كم يزيد عدد الطلاب الذين يفضلون الكرة الطائرة على عدد من يفضلون كرة السلة؟

٧ - ٤ = ٣

- أستعمل التمثيل بالصور لتمثيل البيانات بالأعمدة.

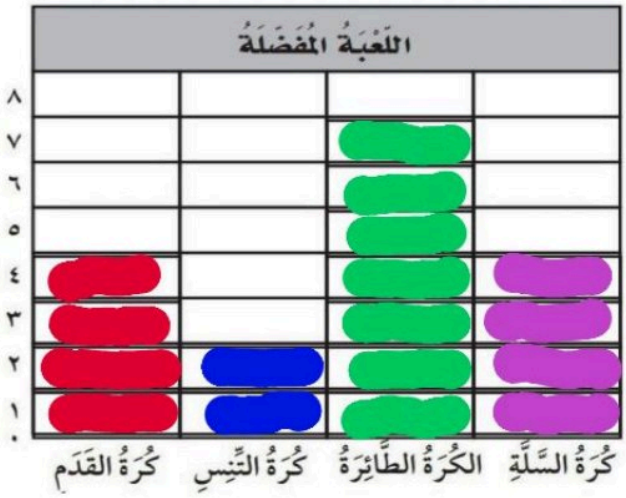

موقع منهجي
mnhaji.com

وفقكم الله وسدد خطاكم

	موقع منهجي mnhaji.com	المادة: رياضيات
		الصف: الثاني الابتدائي
		الزمن: ساعتان

أسئلة اختبار نهاية الفصل الدراسي الأول – (البديل) – للعام الدراسي ١٤٤٨ هـ

اسم المصحح :	اسم المراجع :	الدرجة النهائية رقماً من (٤٠)	الدرجة كتابة
توقيعه :	توقيعه :		

اسم الطالب:	رقم الجلوس : .....

السؤال الأول :- اقرأ كلّ سؤال بعناية، ثمّ ضع دائرة حول الإجابة الصحيحة : ٣٠

١ – ما هي القيمة المنزلية للرقم ٥ في العدد ٣ ٥ ؟

٥٠	٥٣	٣	٥

٢ – كم يساوي ٨ آحاد وَ ٦ عشرات ؟

٥٦	٦٨	١٤	٦٠

٣ – عند مقارنة العددين ٤٢ ◯ ٥٢ ، فإن الإشارة الصحيحة هي :

+	<	>	=

٤ – ما هو ناتج جمع العددين ٩ + ٣ ؟

٦	١٠	١١	١٢

٥ – ناتج طرح ١٤ – ٥ يساوي :

٩	٨	٧	١٩

٦ – ناتج جمع العشرات ٢٠ + ٤٠ يساوي :

٦٠	٥٠	٢٤	٤٢



تابع بقية الأسئلة

٧ – أوجد ناتج جمع ٢٣ + ٤ :

٢٧	٣٧	٦٣	٢٦

٨ – أوجد ناتج طرح ٥٩ – ٧ :

٦٦	٥٢	٥٧	٤٢

٩ – انظر إلى جدول الإشارات المجاور ، كم طالبًا لديه لعبتين اثنتين ؟

عَدَدُ اللُّعَبِ	الإِشَارَاتُ
١	𝍸 |||
٢	𝍸 |

٩	٧	٦	٣

١٠ – ما العدد المفقود في جملة الجمع التالية : ٤ + ☐ = ١٠

١٤	٧	٥	٦

١١ – كم يزيد العدد ٨ على العدد ٣ ؟

٥	٨	٤	١١

١٢ – أكمل النمط التالي : ١٠ ، ١٥ ، ٢٠ ، ..... :

٢١	٢٥	٢٢	٣٠

١٣ – إذا كان ٧ + ٢ = ٩ فإن ناتج ٩ – ٢ هو :

١١	٩	٧	٢

١٤ – ما هو أكبر قيمة بين هذه الأعداد ؟

٤٥	٤٠	٥٠	٥٩

١٥ – ما العدد الذي يمثل (تسعة وسبعون) بالأرقام ؟

٧٩	٧٠	٩٧	٩



تابع بقية الأسئلة

موقع منهجي
mnhaji.com

٥

السؤال الثاني: ضع (✓) أمام العبارة الصحيحة و علامة (✗) أمام العبارة الخاطئة :

١ – العدد ٨٠ يكتب بالكلمات (ثمانون) .	( )
٢ – عند جمع ٥ + ٦ تكون الإجابة ١٠	( )
٣ – في العدد ٣٢ ، الرقم ٢ في منزلة العشرات .	( )
٤ – العدد ٤٠ هو العدد التالي للعدد ٣٠ في نمط الزيادة بـ ١٠	( )
٥ – عند طرح ١٧ – ٧ فإن الناتج هو ١٠	( )

٥

السؤال الثالث: أجب عن الأسئلة التالية .

■ أوجد ناتج الجمع التالي :

٣١	٦٥
+ ١٨	+ ٢٠

■ أوجد ناتج الطرح التالي :

٧٤	١٧
− ٣	− ٤

■ حل المسألة اللفظية :

- رأى خالد ١٢ سيارة حمراء وَ ٥ سيارات زرقاء . ما مجموع السيارات التي رآها خالد ؟

..... ◯ ..... ◯ ..... سيارة .



انتهت الأسئلة يا أبطال

معلم المادة

.....

إعداد: أحمد الحسن

نموذج الإجابة	المادة: رياضيات
	الصف: الثاني الابتدائي
	الزمن: ساعتان

أسئلة اختبار نهاية الفصل الدراسي الأول – (البديل) – للعام الدراسي ١٤٤٨ هـ

اسم المصحح :	اسم المراجع :	الدرجة النهائية رقماً من (٤٠)	الدرجة كتابة
توقيعه :	توقيعه :		

اسم الطالب:	رقم الجلوس : .....

السؤال الأول :- اقرأ كلّ سؤال بعناية، ثمّ ضع دائرة حول الإجابة الصحيحة : ٣٠

١ – ما هي القيمة المنزلية للرقم ٥ في العدد ٣ ٥ ؟

٥٠	٥٣	٣	٥

٢ – كم يساوي ٨ آحاد وَ ٦ عشرات ؟

٥٦	٦٨	١٤	٦٠

٣ – عند مقارنة العددين ٤٢ ◯ ٥٢ ، فإن الإشارة الصحيحة هي :

+	<	>	=

٤ – ما هو ناتج جمع العددين ٩ + ٣ ؟

٦	١٠	١١	١٢

٥ – ناتج طرح ١٤ – ٥ يساوي :

٩	٨	٧	١٩

٦ – ناتج جمع العشرات ٢٠ + ٤٠ يساوي :

٦٠	٥٠	٢٤	٤٢



تابع بقية الأسئلة

موقع منهجي
mnhaji.com

٧ – أوجد ناتج جمع ٢٣ + ٤ :

٢٧	٣٧	٦٣	٢٦

٨ – أوجد ناتج طرح ٥٩ – ٧ :

٦٦	٥٢	٥٧	٤٢

٩ – انظر إلى جدول الإشارات المجاور ، كم طالبًا لديه لعبتين اثنتين ؟

عَدَدُ اللُّعَبِ	الإِشَارَاتُ
١	𝍸 𝍸 | | |
٢	𝍸 | |

٩	٧	٦	٣

١٠ – ما العدد المفقود في جملة الجمع التالية : ٤ + ☐ = ١٠

١٤	٧	٥	٦

١١ – كم يزيد العدد ٨ على العدد ٣ ؟

٥	٨	٤	١١

١٢ – أكمل النمط التالي : ١٠ ، ١٥ ، ٢٠ ، ..... :

٢١	٢٥	٢٢	٣٠

١٣ – إذا كان ٧ + ٢ = ٩ فإن ناتج ٩ – ٢ هو :

١١	٩	٧	٢

١٤ – ما هو أكبر قيمة بين هذه الأعداد ؟

٤٥	٤٠	٥٠	٥٩

١٥ – ما العدد الذي يمثل (تسعة وسبعون) بالأرقام ؟

٧٩	٧٠	٩٧	٩



تابع بقية الأسئلة

موقع منهجي
mnhaji.com

٥

السؤال الثاني: ضع (✓) أمام العبارة الصحيحة و علامة (✗) أمام العبارة الخاطئة :

١ – العدد ٨٠ يكتب بالكلمات (ثمانون) .	(✓)
٢ – عند جمع ٥ + ٦ تكون الإجابة ١٠	(✗)
٣ – في العدد ٣٢ ، الرقم ٢ في منزلة العشرات .	(✗)
٤ – العدد ٤٠ هو العدد التالي للعدد ٣٠ في نمط الزيادة بـ ١٠	(✓)
٥ – عند طرح ١٧ – ٧ فإن الناتج هو ١٠	(✗)

٥

السؤال الثالث: أجب عن الأسئلة التالية .

■ أوجد ناتج الجمع التالي :

٣١	٦٥
+ ١٨	+ ٢٠
٤٩	٨٥

■ أوجد ناتج الطرح التالي :

٧٤	١٧
– ٣	– ٤
٧١	١٣

■ حل المسألة اللفظية :

- رأى خالد ١٢ سيارة حمراء وَ ٥ سيارات زرقاء . ما مجموع السيارات التي رآها خالد ؟

١٢	+	٥	=	١٧

سيارة .

موقع منهجي
mnhaji.com



انتهت الأسئلة يا أبطال

معلم المادة

.....

إعداد: أحمد الحسن

أسئلة اختبار مادة (الرياضيات) للصف (الثاني) الفصل الدراسي الأول للعام ١٤٤٨هـ

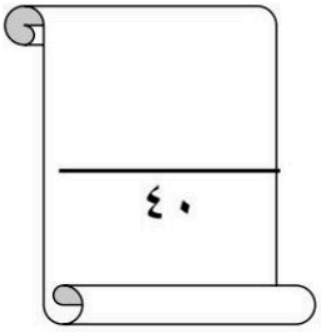

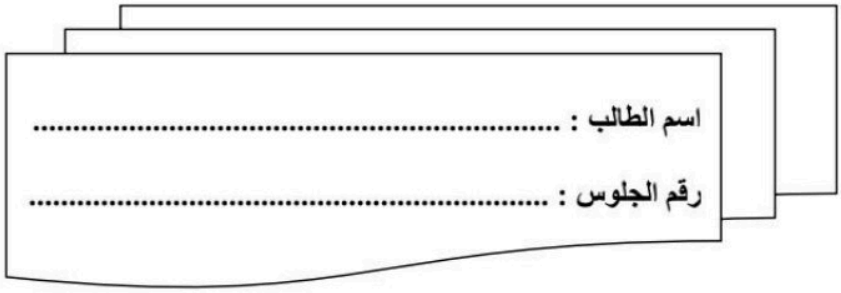

الرقم	الدرجة التي حصل عليها الطالب		اسم المصححة وتوقيعها	اسم المراجعة وتوقيعها	اسم المدققة وتوقيعها
	رقماً	كتابة			
س١					
س٢					
س٣					
المجموع					

تعلميات الاختبار

- اقرأ السؤال جيداً قبل البدء في الإجابة.
- أكتب بخط واضح مع مراعاة نظافة الورقة.
- لا تترك سؤال بدون إجابة.
- راجع إجابتك أكثر من مرة قبل التسليم.

السؤال الاول:-

اختر الاجابة الصحيحة مما يأتي .

١-القيمه المنزلية للرقم (٦) فى العدد (١٦)

(أ) ٦ (ب) ٦٠ (ج) ٦٠٠ (د) ٦٠٠٠

٢-العدد ٥ احاد و ٣عشرات يكتب

(أ) ٣٥ (ب) ٣٠ (ج) ٥ (د)٤٣

٣-العدد (خمسه وثلاثون)بالأرقام

(أ) ٣ ٥ (ب) ٢٥ (ج) ٥٣ (د)٨٥

٤-العدد (٤٩) بالكلمات

(أ) تسعه واربعون. (ب) اثنان واربعون (ج) اربعون (د) اربعة وتسعون

٥-العدد المناسب في النمط ٥ ،. ١٠، ١٥،..... هو

(أ) ٢٠ (ب) ٣٠ (ج) ٢٥ (د) ١٨

٦-ناتج جمع ٩ +٢ = ...

(أ) ١١ (ب) ٨ (ج) ٥ (د) ١٠

٧-اختار □ من هذا الصنف □□□□

(أ) أكيد (ب) مستحيل (ج) أ كثر إمكانية (د) أقل إمكانية

٨-ناتج طرح ٧ - ٧ =

(أ) صفر (ب)١٦ (ج) ٣ (د) ٧

٩-العدد الواقع بين العددين ١١ ، ..... ، ١٣ هو

(أ) ١٢ (ب) ١٥ (ج) ١٧ (د) ١٣

١٠-العدد المفقود في ٦+ = ١٣ هو

(أ) ٥ (ب) ٧ (ج) ٨ (د) ١

السؤال الثاني :-

ضع علامة (√) أمام العبارات الصحيحة وعلامه (x) أمام العبارات الخاطئة

١) من خصائص الجمع ١١ + ٥ =٥+١١ ( )

٢) يوجد ٦△ و٣ □ في كيس سحب △ أ كثر امكانيه من سحب ▭ ( )

٣) القيمة المنزلية للرقم (٨) في العدد (٨٤) هي ٨٠ ( )

٤) الاعداد ٥ ،. ٧ ، ١٠ مرتبه من الأصغر الي الأكبر ( )

٥) عند جمع ٣٤ +٨ هناك ضرورة لإعادة التجميع. ( )

٦) ○△○△○ النمط التالي بعد الدائرة هو △ ( )

٧) تقدير ناتج ٥٤+١٥هو ٥٠+ ٢٠. = ٧٠ ( )

٨) ناتج جمع ١٥+ ٣ = ١٨ ( )

٩) العدد ٦٢ يلي العدد ٦١ ( )

١٠) ناتج طرح. ٦٥ - ٤٧ = ١٢ ( )

السؤال الثالث :-

(أ) قارن بين كل عددين بو ضع إشارة (< ، > ، =)

٢٥ ☐ ٣٠

٣٣ ☐ ٣٣

٤٠ ☐ ٢٠

(ب) استعمل جدول الإشارات للإجابة على الاسئلة

الفاكهة المفضلة	
نوع الفاكهة	الاشارات
موز	١١
برتقال	١١١١
تفاح	١١١

١) الفاكهة المفضلة لدى اكثر ا الطلاب ؟.....

٢) كم عد د الذين يفضلون الموز والتفاح معا ؟.....

اجد نواتج كلا من

٩٠	٢٧	١٦	٨
+ ١٠	+ ٤٥	+ ٤	- ٠
———	٢٣	———	———
	———		

اجب عن المسالة التالية :-

عند هند ٩ أزواج من الجوارب وعند وفاء العدد نفسه من الجوارب ،

فكم زوجاً من الجوارب عندهما ؟

.....

انتهت الأسئلة

تمنياتي لكم بالتوفيق

معلمة المادة /شهد باني الرويلي

موقع منهجي
mnhaji.com

أسئلة اختبار مادة (الرياضيات) للصف (الثاني) الفصل الدراسي الأول للعام ١٤٤٨هـ

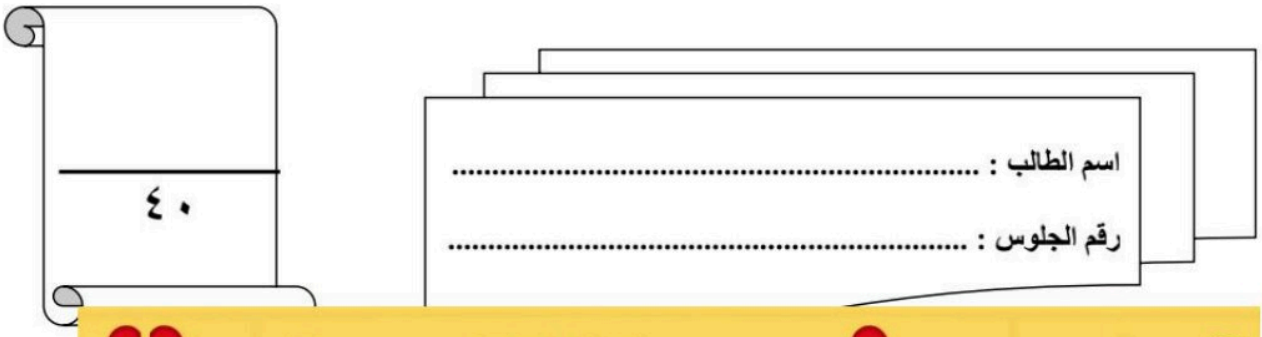

نموذج الإجابة

					دقة ها	
س٢						
س٣						
المجموع						

تعلميات الاختبار

- اقرأ السؤال جيداً قبل البدء في الإجابة.
- أكتب بخط واضح مع مراعاة نظافة الورقة.
- لا تترك سؤال بدون إجابة.
- راجع إجابتك أكثر من مرة قبل التسليم.

موقع منهجي
mnhaji.com

السؤال الاول:-

اختر الاجابة الصحيحة مما يأتي .

١-القيمه المنزلية للرقم (٦) فى العدد (١٦)

(أ) ٦ (ب) ٦٠ (ج) ٦٠٠ (د) ٦٠٠٠

٢-العدد ٥ احاد و ٣عشرات يكتب

(أ) ٣٥ (ب) ٣٠ (ج) ٥ (د)٤٣

٣-العدد (خمسه وثلاثون)بالأرقام

(أ) ٣٥ (ب) ٢٥ (ج) ٥٣ (د)٨٥

٤-العدد (٤٩) بالكلمات

(أ) تسعه واربعون. (ب) اثنان واربعون (ج) اربعون (د) اربعة وتسعون

٥-العدد المناسب في النمط ٥ ، ١٠، ١٥،..... هو

(أ) ٢٠ (ب) ٣٠ (ج) ٢٥ (د) ١٨

٦-ناتج جمع ٩ +٢ = ...

(أ) ١١ (ب) ٨ (ج) ٥ (د) ١٠

٧-اختار □ من هذا الصنف □□□□

(أ) أكيد (ب) مستحيل (ج) أكثر إمكانية (د) أقل إمكانية

٨-ناتج طرح ٧ - ٧ =

(أ) صفر (ب)١٦ (ج) ٣ (د) ٧

٩-العدد الواقع بين العددين ١١ ، ..... ، ١٣ هو

(أ) ١٢ (ب) ١٥ (ج) ١٧ (د) ١٣

١٠-العدد المفقود في ٦+ = ١٣ هو

(أ) ٥ (ب) ٧ (ج) ٨ (د) ١

السؤال الثاني :-

ضع علامة (√) أمام العبارات الصحيحة وعلامه (x) أمام العبارات الخاطئة

١) من خصائص الجمع ١١ + ٥ =٥+١١ (√)

٢) يوجد ٦△ و٣ □ في كيس سحب △ أكثر امكانيه من سحب ▭ (√)

٣) القيمة المنزلية للرقم (٨) في العدد (٨٤) هي ٨٠ (√)

٤) الاعداد ٥ ، ٧ ، ١٠ مرتبه من الأصغر الي الأكبر (√)

٥) عند جمع ٣٤ +٨ هناك ضرورة لإعادة التجميع. (√)

٦) ○△○△○ النمط التالي بعد الدائرة هو △ (√)

٧) تقدير ناتج ٥٤+١٥هو ٥٠+ ٢٠ = ٧٠ (√)

٨) ناتج جمع ١٥+ ٣ = ١٨ (✓)

٩) العدد ٦٢ يلي العدد ٦١ (✓)

١٠) ناتج طرح. ٦٥ - ٤٧ = ١٢ (✗)

السؤال الثالث :-

(أ) قارن بين كل عددين بو ضع إشارة (< ، > ، =)

٢٥	<	٣٠
٣٣	=	٣٣
٤٠	>	٢٠

(ب) استعمل جدول الإشارات للإجابة على الاسئلة

الفاكهة المفضلة	
نوع الفاكهة	الاشارات
موز	١١
برتقال	١١١١
تفاح	١١١

١) الفاكهة المفضلة لدى اكثر ا الطلاب ؟..... برتقال

٢) كم عد د الذين يفضلون الموز والتفاح معا ؟..... ٥

اجد نواتج كلا من

٩٠ + ١٠ ١٠٠	٢٧ + ٤٥ ٢٣ ٩٥	١٦ + ٤ ٢٠	٨ - ٠ ٨

اجب عن المسالة التالية :-

عند هند ٩ أزواج من الجوارب وعند وفاء العدد نفسه من الجوارب ،

فكم زوجاً من الجوارب عندهما ؟

٩ + ٩ = ١٨ زوجاً

انتهت الأسئلة

تمنياتي لكم بالتوفيق

معلمة المادة /شهد باني الرويلي

موقع منهجي
mnhaji.com

التاريخ : ___/___/١٤٤٨هـ
المادة : رياضيات الصف : الثاني ابتدائي
الزمن : ساعتان ونصف الفترة : _____
الدور : الأول

موقع منهجي
mnhaji.com

الاختبار النهائي لمادة الرياضيات للصف الثاني الابتدائي ـ الفصل الدراسي الأول ١٤٤٨هـ

السؤال	السؤال (١)	السؤال (٢)	السؤال (٣)	المجموع	الدرجة كتابة
الدرجة					

المصحح		التوقيع		المراجع		التوقيع	

اسم الطالب	.....	الصف	الثاني (____)	رقم الجلوس	_____

● السؤال (١) ١٩

أ حوّط القيمة المنزلية للرقم المحدد :

١ ٢٩ ٩ أو ٩٠

٢ ٣٢ ٣ أو ٣٠

٣ ٦٤ ٤ أو ٤٠

ب اكتب الأعداد الآتية بالأرقام أو الكلمات :

١ ثَلاثٌ وَتِسْعونَ _____

٢ اثْنانِ وَخَمْسونَ _____

٣ ١٠ _____

جـ استعمل خط الأعداد ، واملأ الفراغ بالعدد المناسب :

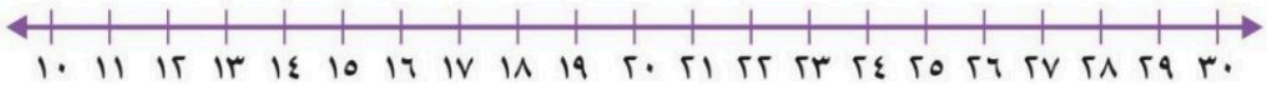

١ ____ ، ١٣ ، ١٤

٢ ٢٥ ، ____ ، ٢٧

٣ ١٧ ، ١٨ ، ____ ، ____

د قارن بين كل عددين ، واكتب (> ، < ، =) في ◯ :

١ ٩٤ ◯ ٩١

٢ ٣٣ ◯ ٣٣

٣ ٤٩ ◯ ٥٩

تابع باقي الأسئلة خلف الورقة

● السؤال (٢)

	١٤

أ أوجد ناتج الجمع :

١) ٢ + ٣ =

٢) ١ + ٢ =

٣) ٧ + ٧ =

٤) ٧٤ + ١٦ =

٥) ٣٥ + ٤٤ =

ب أوجد ناتج الطرح :

١) ٤ − ٤ = ...

٢) ٧ − ٣ = ...

٣) ٣ − ١ = ...

٤) ٥٩ − ١٩ =

٥) ٨٥ − ١٦ =

● السؤال (٣)

	٧

أ أكمل الحقائق المترابطة :

١)

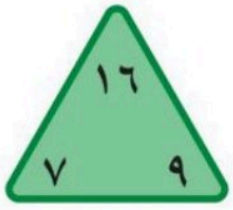

٧ + ٩ = ...

٩ + ٧ = ...

١٦ − ٩ = ...

١٦ − ٧ = ...

ب استعمل التمثيل بالأعمدة في الشكل المجاور لأكمل الجمل الآتية :

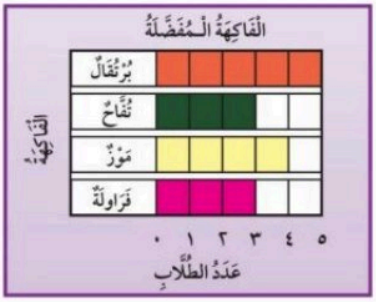

١) خَمْسَةُ طُلَّابٍ يُفَضِّلُونَ .....

٢) أَرْبَعَةُ طُلَّابٍ يُفَضِّلُونَ .....

٣) عَدَدُ الطُّلَّابِ الَّذينَ يُفَضِّلُونَ التُّفَّاحَ يُسَاوِي

عَدَدَ الطُّلَّابِ الَّذينَ يُفَضِّلُونَ .....

❖ انتهت الأسئلة ❖

(مع أطيب الدعوات لكم بالنجاح والتفوّق)

قناة مرح الرياضيات على التلجرام

https://t.me/math_marah

معلمة المادة

.....

موقع منهجي
mnhaji.com

أسئلةاختبار مادة الرياضيات الفصل الدراسي الأول للعام الدراسي ١٤٤٨ هـ
الصف الثاني الابتدائي

اسم الطالب/ـة رباعيا	
رقم الجلوس	
اليوم	
التاريخ	... / ... / ١٤٤٨ هـ
زمن الاختبار	ساعتان

رقم السؤال	الدرجة رقما	الدرجة كتابة	
درجة السؤال الأول			
درجة السؤال الثاني			
درجة السؤال الثالث			
توقيع المصححة		المجموع النهائي	
توقيع المراجعه			٤٠

تعليمات الاختبارات :

١- الحضور للمدرسة مبكراً .

٢- الكتابة بالقلم الأزرق .

٣- يمنع استخدام الطامس منعًا باتًا .

٤- الالتزام بالهدوء داخل قاعة الاختبار .

٥- المحافظة على الكتب الدراسية و عدم رميها على الأرض .

٦- لا تترك سؤالاً بدون إجابة .

معلم/ة المادة

١٣

السؤال الأول : أختار الإجابة الصحيحة فيما يأتي

١	القيمة الصحيحة للرقم الذي تحته خط ٢٩						
	أ	٩	ب	٩٠	جـ	٩٠٠	
٢	يكتب العدد خمسة وثلاثون بالأرقام						
	أ	٣٥	ب	٥٥	جـ	٩٥	
٣	يكتب العدد ٨٠ بالكلمات						
	أ	ثمانون	ب	تسعون	جـ	خمسون	
٤	أقارن بين العددين ٣١ ..... ٣١						
	أ	=	ب	>	جـ	<	
٥	العدد التالي بالنمط ٥ ، ١٠ ، ١٥ ، ٢٠ ، ٢٥ ،						
	أ	٣٠	ب	٤٠	جـ	٥٠	
٦	العدد المفقود ٧ + ٢ =..... + ٧						
	أ	١٥	ب	٢	جـ	٢١	
٧	أجمع تصاعديا ٦ + ١						
	أ	٩	ب	٧	جـ	١	
٨	أجمع ٥ + ٥						
	أ	٧	ب	١٠	جـ	٢٣	
٩	أجمع ٦ + ٦ + ٣						
	أ	٩٥	ب	١٥	جـ	١٠	
١٠	أطرح ٤ - ١						
	أ	٩	ب	٣	جـ	١	
١١	أطرح ٨ - ٠						
	أ	٩	ب	١	جـ	٨	
١٢	أطرح ٣ - ٣						
	أ	٦	ب	٩	جـ	٠	
١٣	أجمع ٣٠ + ٥٠						
	أ	١٠	ب	٢٠	جـ	٨٠	

موقع منهجي
mnhaji.com

السؤال الثاني :

أ) أضع علامة ✓ أمام العبارة الصحيحة وعلامة ✗ أمام العبارة الخاطئة

م	العبارة	العلامة
١	٦ عشرات + ١ عشرات = ٧ عشرات ٦٠ + ١٠ = ٧٠	
٢	لدى ذكرى ٤ أزواج من الجوارب في درج خزانتها ، عدد الجوارب في الدرج هو ٨ جوارب 	
٣	مع سعاد ٥ حبات من الكرز ، ومع سمر ٧ حبات ، عدد حبات الكرز مع الفتاتين هو ١٢ حبة 	
٤	اشترت مريم ٩ سمات ملونه للزينه ، إذا أرادت أن تضعها في حوضين في غرفة الجلوس ، سيكون التوزيع ٥ سمكات بالحوض الأول و٤ سمكات بالحوض الثاني 	
٥	وقفت ٧ فراشات على زهرة ، ثم انضمت إليها فراشتان جديدتان فأصبح عدد الفراشات ٩ فراشات	
٦	٥ + ١ = ٦ ١ + ٥ = ٦ 	
٧	١٠ ، ٢٠ ، ٣٠ ، ٤٠ العد القفزي هو ١٠	
٨	٢ - ٠ = ٥ ٢ - ٢ = ٥	
٩	٧ + ... = ١٥ ، ١٥ - ٧ = ... العدد المفقود هو ٧ 	

ب) أكتب الحقائق المترابطة

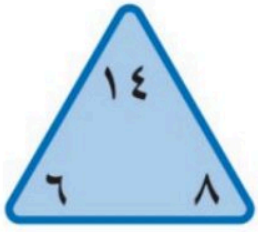

..... + ... = ... − ..... = ...

..... + ... = ... − ..... = ...

السؤال الثالث :

أ) أكمل الفراغات الآتيه بما يناسبها (درجة)

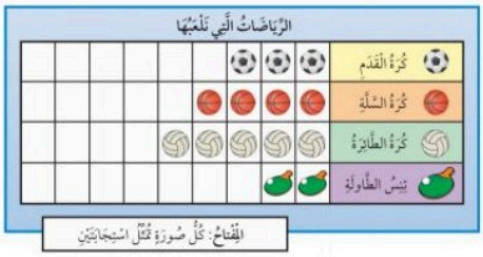

١/ كم طالبا يلعب كرة القدم ؟ .....
مالرياضة التي يلعبها ١٠ طلاب ؟ .....

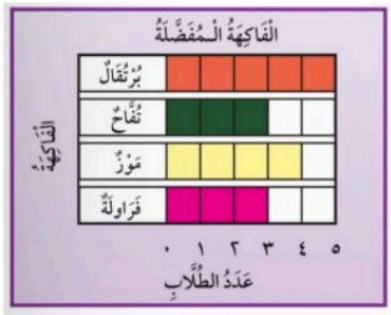

٢/ خمسة طلاب يفضلون .....
عدد الطلاب الذين يفضلون التفاح يساوي عدد الطلاب الذين يفضلون .....

ب) أحل الأسئلة الآتيه (درجتان)

عَشَرَاتٌ	آحَادٌ
٣	٥
١	٤ +

عَشَرَاتٌ	آحَادٌ
٣	٤
١	٤ −

عَشَرَاتٌ	آحَادٌ
□	
٧	٢
	٨ +

عَشَرَاتٌ	آحَادٌ
□	□
٢	٧
	٨ −

١ ٣
٣ ٣
٤ ٥ +

انتهت الأسئلة

موقع منهجي
mnhaji.com

موقع منهجي mnhaji.com	اختبار نهاية الفصل الدراسي الأول (الدور الأول) للعام الدراسي ١٤٤٨هـ	المادة: رياضيات الصف: الثاني ابتدائي الزمن: ساعتان ونصف اليوم: التاريخ: ..... / ..... / ١٤٤٨هـ

السؤال الأول: اختر الإجابة الصحيحة في كل مما يلي:

١) العدد المناسب في النمط ١٠، ١٢، ١٤، □، ١٨ هو:

أ	١٣	ب	١٤	ج	١٥	د	١٦

٢) حدد اسم منزلة الرقم الذي تحته خط وقيمته المنزلية ٨٥

أ	الآحاد ٨	ب	العشرات ٨٠	ج	المئات ٨٠٠	د	الألوف ٨٠٠٠

٣) قدر ناتج جمع العددين (٣١ + ٧٥) باستعمال التقريب لأقرب عشرة:

أ	٤٠ + ٦٠ = ١٠٠	ب	٣٠ + ٥٠ = ٨٠	ج	٣٠ + ٦٠ = ٩٠	د	٤٠+ ٥٠ =٩٠

٤) ما حل المسألة التالية؟

٤٩
- ٢٨

أ	٢١	ب	١٩	ج	١٧	د	٧٧

٥) التمثيل بالأعمدة أدناه يُمثل الرياضية المفضلة. ما عدد الطلاب الذين يفضلون رياضة السباحة؟

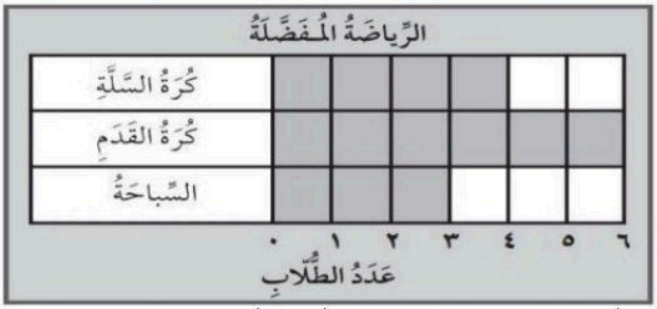

أ	٣	ب	٤	ج	٥	د	٦

٦) باع مقصف المدرسة ٦٤ شطيرة في اليوم الأول، وَ٢٩ شطيرة في اليوم الثاني. ما عدد الشطائر التي باعها في اليومين؟

أ	٩٠	ب	٩٣	ج	٩٦	د	٩٩

٧) رتب الأعداد من الأصغر إلى الأكبر ٥٦ ، ٧ ، ٣٩ ، ٢٤

أ	٣٩، ٥٦، ٢٤، ٧	ب	٢٤، ٣٩، ٧، ٥٦	ج	٧، ٢٤، ٣٩، ٥٦	د	٣٩، ٢٤، ٥٦، ٧

٨) ما حل المسألة التالية؟

١١
+ ١١

أ	٠	ب	١١	ج	٢٢	د	٣٣

٩) الصيغة اللفظية (الكتابة بالكلمات) للعدد ٦٤هي:

أ	ستة وَأربعة	ب	أربعة وَستون	ج	أربعة وَستة	د	أربعون وَستة

١٠) يوجد ١٠ ربطات شعر تقريبا في العلبة الواحدة. كم ربطة تقريبا يمكن أن نضعها في أربع علب من الحجم نفسه؟



أ	١٠ ربطات تقريبا	ب	٢٠ ربطة تقريبا	ج	٣٠ ربطة تقريبا	د	٤٠ربطة تقريبا

١١) الجملة العددية المفقودة من الحقائق المترابطة ٧ + ٩ = ١٦ ، ١٦ ـ ٧ = ٩ ، ٩ + ٧ = ١٦ هي: ----------

أ	٧ ـ ٦ = ١	ب	١٦ ـ ٩ = ٧	ج	٩ ـ ٧ = ٢	د	١٣ + ٧ = ٢٠

١٢) قصّ خالد بعض الأشكال الهندسية الورقية ووضعها في كيس.○○○○◇◇◇

فإن اختيار الشكل ❁ من الكيس:

أ	أكيد	ب	مستحيل	ج	أكثر إمكانية	د	أقل إمكانية

١٣) اختيار نجمة ★ من هذا الصف ★★★★★:

أ	أكيد	ب	مستحيل	ج	أكثر إمكانية	د	أقل إمكانية

١٤) أي العبارات التالية صحيحة؟

أ	٥٦ = ٤٥	ب	٤٥ > ٥٦	ج	٥٦ > ٥٤	د	٥٦ < ٥٤

١٥) انظر إلى الملصقات الموجودة في الدرج. إذا اختار سامي ملصقا دون النظر إليه، فما الملصق الذي يكون التقاطه أكثر إمكانية؟



أ	☺	ب	☆	ج	❁	د	☾

١٦) خبز الخباز ٢٤ رغيفا، إذا باع منها ١٥ رغيفا. فكم رغيفا بقي عنده؟

أ	٢٤ ـ ١٥= ٩	ب	٢٤ + ٥= ٢٩	ج	٢٤ = ١٥	د	٢٤ > ٥

١٧) شاهد مهند ١٥ عصفورا، وشاهد فيصل ١١عصفورا. كم عصفورا شاهد مهند أكثر من فيصل؟



أ	٣	ب	٤	ج	٥	د	٦

١٨) ناتج جمع ٤ + ٧ + ٩ = □ هو:

أ	٥	ب	١٠	ج	١٥	د	٢٠

١٩) حقيقة جمع العدد ونفسه التي تساعدني على إيجاد ناتج ٨ + ٩ هي:

أ	٨+٨= ١٦	ب	٧+٨= ١٥	ج	٧+٧= ١٤	د	٢+٢= ٤

٢٠) ما ناتج جمع ٢ + ٠ = □ ؟

أ	١	ب	٢	ج	٣	د	٤

موقع منهجي
mnhaji.com

السؤال الثاني: أجب عن الأسئلة التالية:

أ. **أوجد ناتج ما يلي:**

١) ٢٦ + ٧ = ☐

٢) ٨٤ + ١٥ = ☐

٣) ٢٠ + ١٠ = ☐

٤) ٣٤ - ٢ = ☐

٥) ٧٠ - ٥٠ = ☐

٦) ٤٥ – ٢٠ = ☐

ب. **ضع علامة ✓ أمام العبارة الصحيحة وعلامة × أمام العبارة الخاطئة فيما يلي:**

١. الجملة العددية ٩ + ٩ = ١٨ تمثل حقيقة العدد ونفسه	
٢. جملة الجمع ٥ + ٦ = ١١ مرتبطة بالجملة ٦ + ٥ = ١١	
٣. العدد الذي آحاده ٦ وَعشراته ٤ هو ٤٦	
٤. العدد المفقود في الجملة العددية ٧ + ☐ = ١٧ هو ١٠	
٥. حل المسألة التالية ٧٠+ ٢٠ = ١٠٠	
٦. حل المسألة التالية ١٢ + ٦ = ١٨	
٧. في الجملة العددية ١٤ - ٤ = ١٠، العدد ١٠ هو الناتج	
٨. العدد المفقود من الحقيقتين المترابطتين ٨+ ☐=١٣، ١٣– ٨=☐ هو ٨	
٩. منزلة الرقم ٣ في العدد ٣٨ هو الآحاد	
١٠. تقريب العدد ٢٢ هو ٣٠	
١١. ناتج ٥٢ – ١٣ بالتقريب إلى أقرب عشرة هو ٤٠	
١٢. عملية الجمع عكس عملية الطرح وهما عمليتان عكسيتان	
١٣. أعدَّ ٥، ٤، ٣ أي أعدَّ تنازليا	
١٤. حل المسألة التالية ٧ + ٥ + ٢ = ١٤	
١٥. ★★★★★★ < ★★★★★★★★★	

جـ. **أكتب جملة عددية لأحل المسألة.**

- يوجد ٤ بطات خارج البحيرة، و٥ بطات في البحيرة، فما عدد البطات جميعها؟

الحل: عدد البطات جميعها = ____ ◯ ____ = ____ بطات

- لدى احمد ١٢ صورة لمجموعة من الحيوانات، إذا أعطى ٥ صور لأخيه، فكم صورة تبقى معه؟

الحل: ما بقي مع احمد = ____ ◯ ____ = ____ صور

وفقكم الله وسدد خطاكم

موقع منهجي
mnhaji.com

المادة : الرياضيات	الصف : الثاني ابتدائي	الزمن : ساعة	عدد الأوراق :٣

اختبار نهاية الفصل الدراسي الأول لعام ١٤٤٨ هـ

اسم الطالب /ـــة : ..... الدرجة المستحقة: ٤٠

(القسم التحريري) :

السؤال الأول : اختر الإجابة الصحيحة فيما يلي :

١) اختيار من هذا الصف 

أ	أكيد	ب	مستحيل	ج	الشكل الثاني	د	متساوي

٢) ماهو العدد الذي يتكون ٢ آحادًا و ٥ عشرات .



أ	٣٤	ب	٥٢	ج	٩٢	د	٢٥

٣) ما القيمة المنزلية للرقم الذي تحته خط. ٤٥



أ	٥٠	ب	٥	ج	٤٠	د	٤

٤) ناتج طرح ٧ – ٣ =

أ	٤	ب	٥	ج	٦	د	٧

٥) في العلبة المجاورة اذا كان لديك ١٠ حبات من الفاصوليا , فكم حبة تكفي العلبة تقريبًا .



أ	٣٠	ب	٦٠	ج	١٠٠	د	١٢٠

تابع/ي

٦) اذا كان لديك ٥٠ آحادًا فكم عشرة فيها .							
أ	٥ عشرات	ب	٦ عشرات	ج	٧ عشرات	د	٨ عشرات
٧) ناتج طرح ٦ ــ ٠ =							
أ	٣	ب	٠	ج	١	د	٦
١٠) اختيار  من هذا الصف							
أ	أكيد	ب	مستحيل	ج	الشكل الثاني	د	متساوي
٩) أيُّ الأعداد الآتية يمثّل ثلاثةٌ وستون بالأرقام .							
أ	٦٠	ب	٣٦	ج	٦٠٣	د	٦٣
١٠) ناتج طرح ٨ ــ ٨ =							
أ	٨	ب	٠	ج	٤	د	١

السؤال الأول ب/ ضع علامة (✓) أمام العبارة الصحيحة و علامة (×) أمام العبارة الخاطئة :

١ ـ في العدد ٨٢ الرقم ٢ هو في منزلة العشرات .	( )
٢ ـ إذا لديك كيس به كرات زرقاء فقط , فإن سحب كرة حمراء هو حدث مستحيل .	( )
٣ـ العدد ٣٥ يكتب بالكلمات خمسة وثلاثون .	( )

السؤال الأول جـ / قارن بين كل عددين , وأكتب > , < , = في ◯ :

١ـ ٨١ ◯ ٥٠	٢ـ ٢٥ ◯ ٢٦
٣ـ ٩٢ ◯ ٩٢	٤ـ ٧٧ ◯ ٧٦

موقع منهجي
mnhaji.com

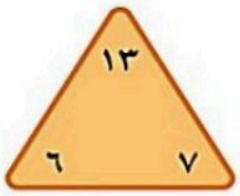

..... + ... = ... − ..... = ...

..... + ... = ... − ..... = ...

السؤال الثاني ب / أجد ناتج الطرح :

١٧ − ٤	٥٠ − ٤٠	٦١ − ١	٤٧ − ٢٤

السؤال الثالث أ / أجد العدد المفقود في جملة الجمع :



٤ + ☐ = ٨



٨ − ٤ = ☐

٥ + ☐ = ١١

☐ = ١١ − ٥

السؤال الثالث ب / إذَا كَانَ خَارِجَ الحَظِيرَة ١٨ بَقَرة ، ثُم عَادَت ١٠ بَقَرَات مِنهَا إِلى الحَظِيرة ، فَكَم بَقَرة بَقِيت خَارِج الحَظِيرة ؟

..... ◯ ..... ◯ ..... بَقَرَات



انتهت الأسئلة

بالتوفيق