تم تحميل وعرض المادة من

موقع كتبي



www.kottby.net

موقع كتبي يعرض لكم الكتب الدراسية الطبعة الجديدة
وحلولها، وشرح للمناهج الدراسية، توزيع المناهج، تحاضير،
أوراق عمل، نماذج إختبارات عرض مباشر وتحميل PDF

حمل التطبيق من هنا

احصل عليه من Google Play
تنزيل من App Store
احصل عليه من AppGallery

بسم الله الرحمن الرحيم

التاريخ / / / ١٤٤٨هـ
المادة / رياضيات الصف / الأول
الفصل الدراسي / الأول
العام الدراسي/ ١٤٤٨هـ

موقع منهجي
mnhaji.com

٢٠

اختبار الفترة الثانية من الفصل الدراسي الأول للعام الدراسي ١٤٤٨هـ

اسم الطالب / ..... رقم الطالب /

السؤال الأول :

أ ـ عد حبات الفراولة ثم أكتب عددها في المكان المخصص :



ب ـ عد القوارب التالية ثم أكتب عددها في المكان المخصص له

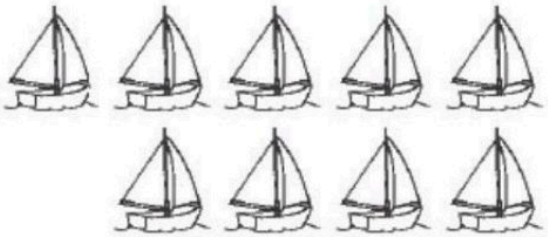

السؤال الثاني : أرسم دوائر لتمثل العدد المعطى:

١	٢	٣
١١	١٣	١٥

السؤال الثالث :

أ ـ صل بخطوط بين عناصر المجموعتين ،ثم أكتب عدد كلا منها ، ثم حوط على المجموعة الأكثر وحوط على عددها :

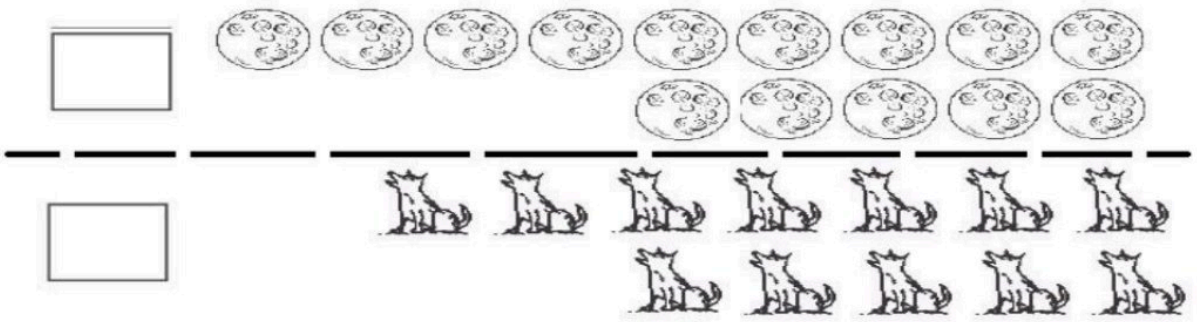

ب ـ حوط القطة الثالثة و ضع علامة × على القطة السابعة :



السؤال الرابع : عد الفواكة التالية ، ثم أكتب عددها في المكان المخصص لكل فاكهة :

١



٢



السؤال الخامس : أكتب العدد المغطى بورقة الشجر في الفراغ:

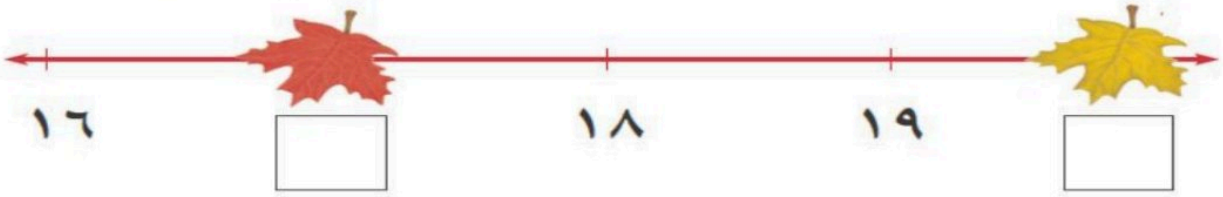

السؤال السادس : أكمل كتابة الأعداد التالية بالترتيب :

٢٠		١٨			١٥				١١

أسئلة اختبار مادة الرياضيات للصف الأول الابتدائي الفصل الدراسي الأول **(الفترة الثانية)**

الاسم : ..... الصف : أول /	الدرجة : / ٢٠

عد الأشياء من كل مجموعة و أكتب العدد .

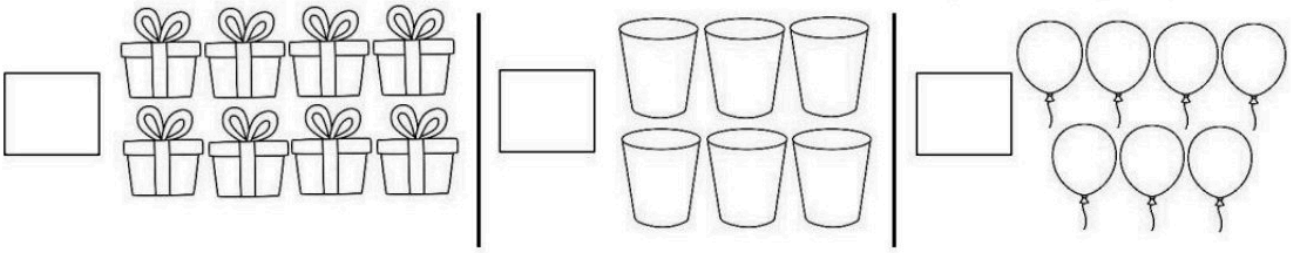





عد الأشياء من كل مجموعة و أكتب العدد , ثم حوط المجموعة الأكثر .



عد الفراشات ثم أكتب العدد .



ضع × على البطة الأولى ودائرة على الثالثة .



عد الأشياء , ثم أكتب العدد .

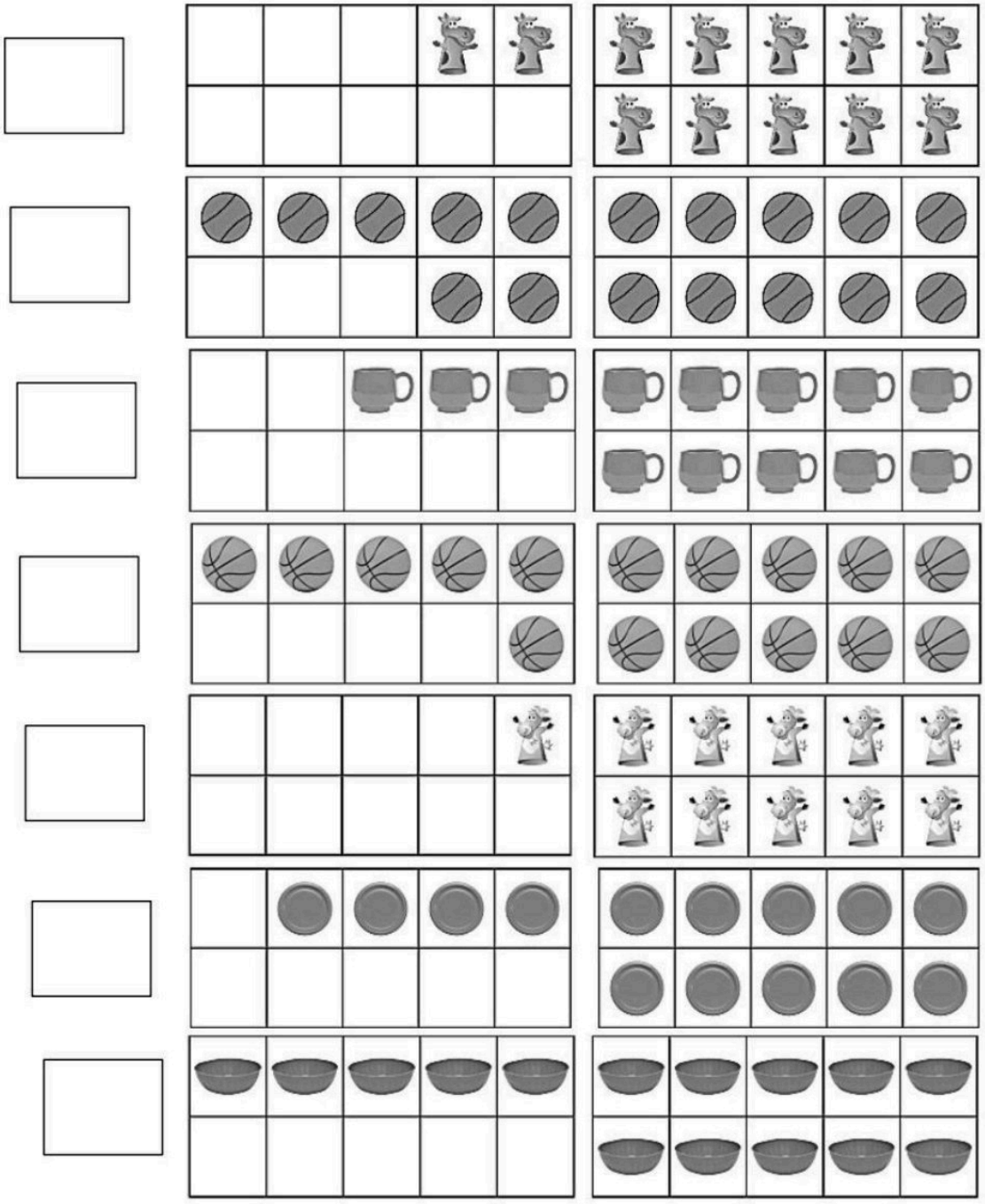

أكتب ما يملى علي :

معلمة المادة :
هدى علي كناني

موقع منهجي
mnhaji.com

أسئلة اختبار مادة الرياضيات للصف الأول الابتدائي الفصل الدراسي الأول **(الفترة الثانية)**

الاسم : ..... **نموذج الإجابة** .... | الدرجة : ٢٠ / ٢٠

عد الأشياء من كل مجموعة و اكتب العدد .



١ ٧

١ ٦

١ ٨

١ ١٠

١ ٩

عد الأشياء من كل مجموعة و أكتب العدد , ثم حوط المجموعة الأكثر .



١ ٧

١ ٥

عد الفراشات ثم أكتب العدد .



٢ ٢ ٣ ٤ ٥

ضع × على البطة الأولى ودائرة على الثالثة .

١



موقع منهجي
mnhaji.com

عد الأشياء , ثم أكتب العدد .

١ ١٢



١ ١٧

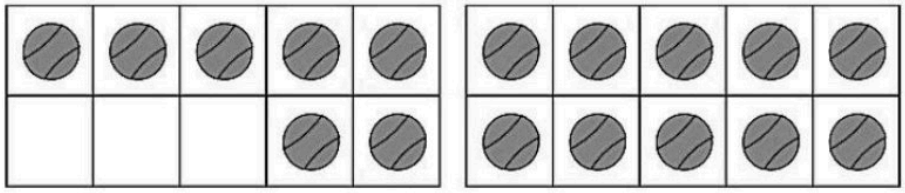

١ ١٣



١ ١٦

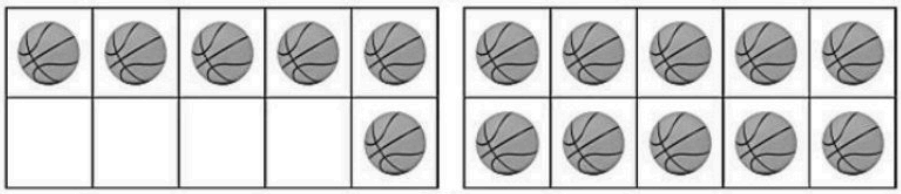

١ ١١



١ ١٤



١ ١٥

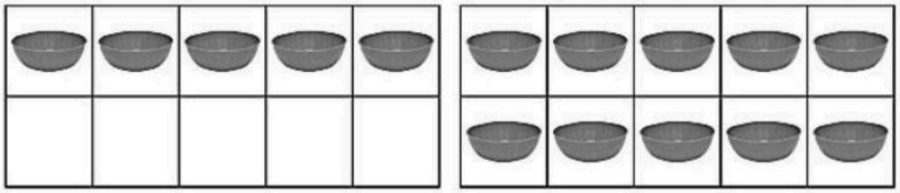

أكتب ما يملى علي :

٣

١٥	١٢	١٧	١١	١٤	١٦

معلمة المادة :
هدى علي كناني

موقع منهجي
mnhaji.com

مجموع الدرجات
٢٠

التاريخ : ..... / ..... / ... ١٤٤هـ
المـادة : رياضيات
الزمـن : ٤٥ دقيقة

موقع منهجي
mnhaji.com

اختبار مادة الرياضيات للصف الأول الابتدائي (الفترة ٢ الفصل الدراسي الأول ١٤٤٨هـ)

اسم الطالب	.....	الصف	أول / .....

❖ السؤال الأول — أجب عن الأسئلة التالية — ١٠

١ يضع الطالب علامة × على الحشرة التي تقع فوق الورقة, ويحوط الحشرة التي تقع تحت الورقة.



٢ يحوّط الطالب الشيء التالي في النمـــط.



٣ يحوّط الطالب المجموعة التي تحوي ثمانية أشياء.

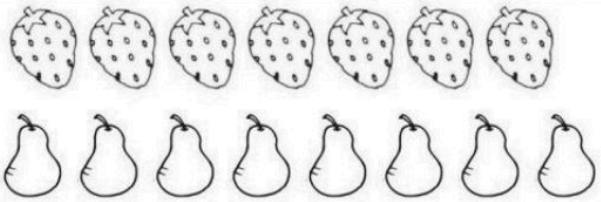

٤ يعد الطالب الأشياء في كل مجموعةٍ، وينطق العدد، ثم يكتبه ثلاث مرات.

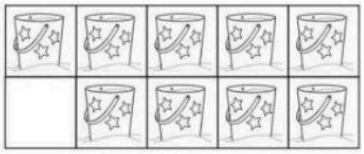

٥ يعد الطالب الصافرات ، ثم يكتب عددها في الجدول.

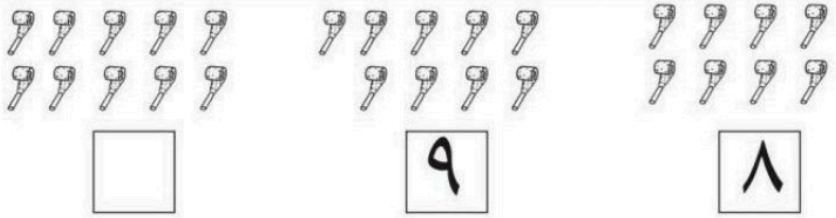

معلمـة المادة :

❖ السؤال الثاني	أجب عن الأسئلة التالية		١٠

٦ يحوّط الطالب القطة السابعة ، ويضع علامة X على القطة الثانية.



٧ يعد الطالب الأشياء، وينطق العدد، ثم يكتبه ثلاث مرات.

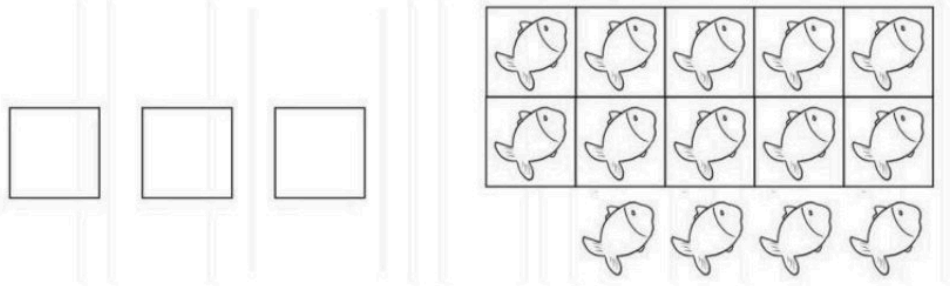

٨ يعد الطالب المخلوقات مبتدئًا بالعشرة، ثم يكتب العدد.

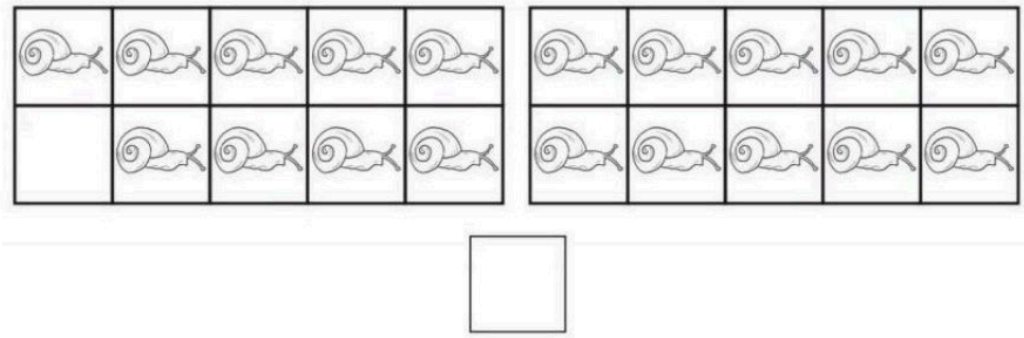

٩ يكتب الطالب العدد المغطى تحت أوراق الأشجار في الفراغ.

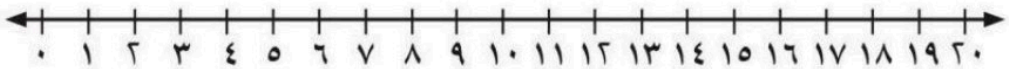

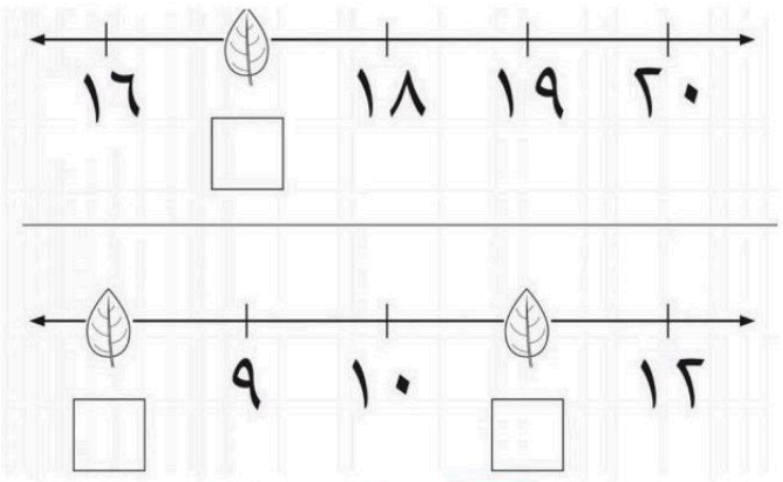

معلمة المادة :

موقع منهجي
mnhaji.com

اليوم	
التاريخ	
المادة	رياضيات
الفترة	الثانية

اسم الطالب ة /

الصف /



السؤال الأول: يعد الطالب الأرقام ويصل كل مجموعة بالعدد الذي يمثلها

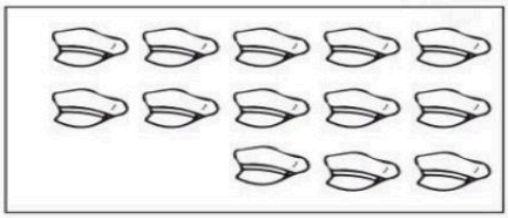

١٤

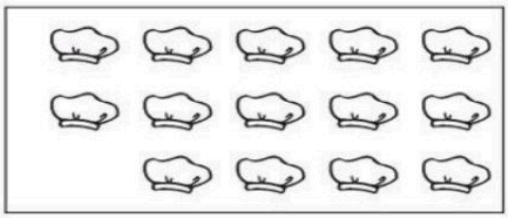

١٥



١٣

السؤال الثاني: يعد الطالب المجموعتين ويكتب أرقامهما ثم يحوط المجموعة الأقل

أ)



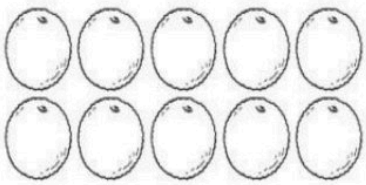

_____ _____

ب)

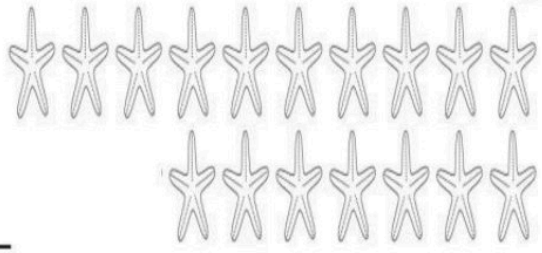



_____ _____

السؤال الثالث: يكتب الطالب العدد المفقود

أ)

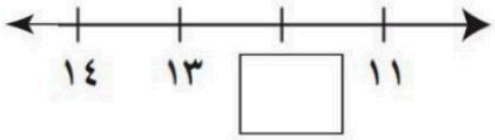

ب)

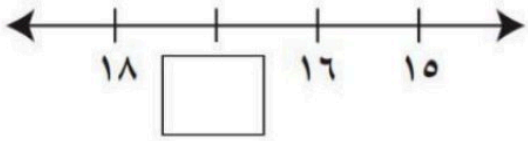

السؤال الرابع: يحوط الطالب السيارة الثالثة



السؤال الخامس: يكتب الطالب جملة الجمع المناسبة

أ)



_____ + _____ = _____

ب)



_____ + _____ = _____

السؤال السادس: يكتب الطالب ناتج الجمع

أ)



٠ + ٤ = _____

ب)



٣ + ٠ = _____

السؤال السابع: يكتب الطالب الأرقام من الواحد إلى العشرة بالترتيب

معلمة المادة / نورة الغامدي

موقع منهجي
mnhaji.com

نموذج الإجابة

يعد الطالب الأرقام ويصل كل مجموعة بالعدد الذي يمثلها

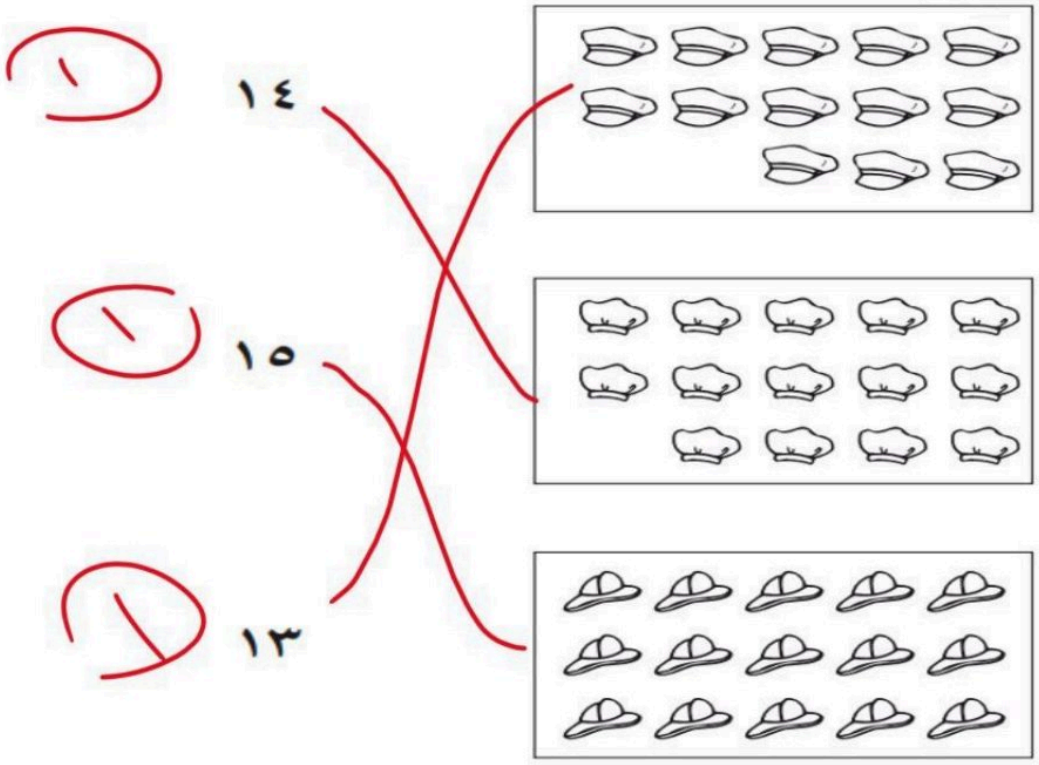

يعد الطالب المجموعتين ويكتب أرقامهما ثم يحوط المجموعة الأقل

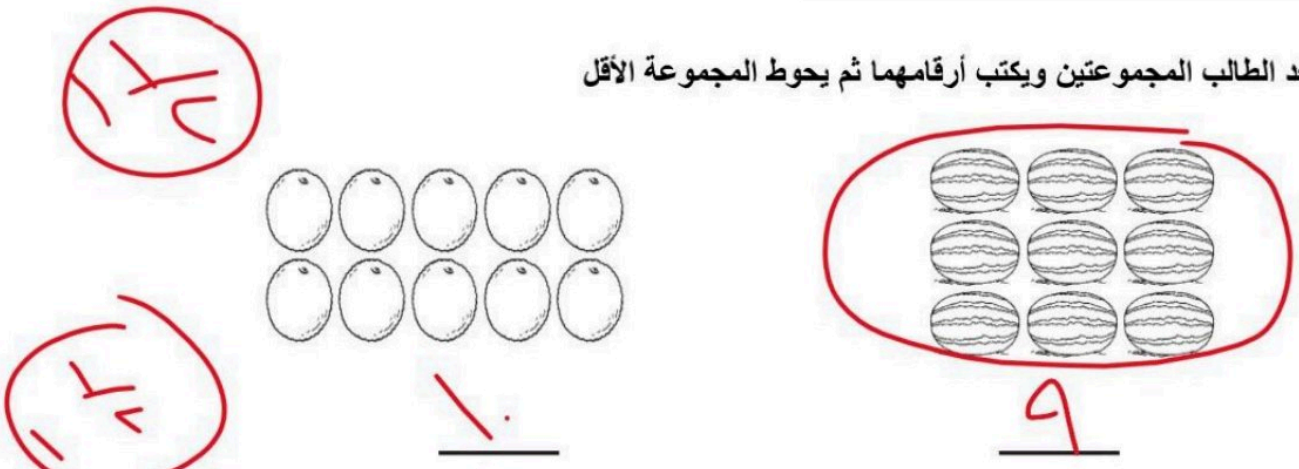



موقع منهجي
mnhaji.com

يكتب الطالب العدد المفقود

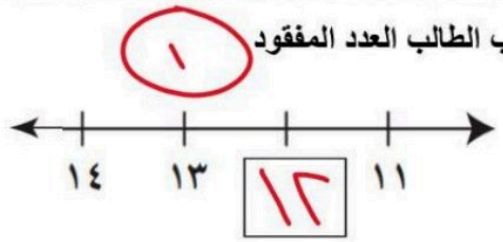

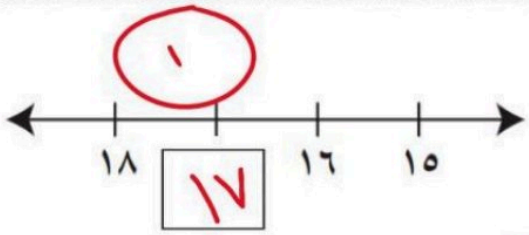

يحوط الطالب السيارة الثالثة



يكتب الطالب جملة الجمع الخاسية

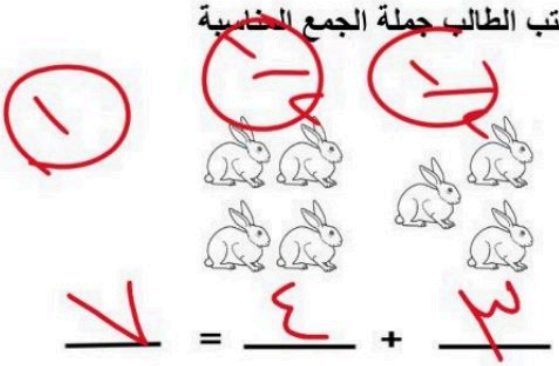

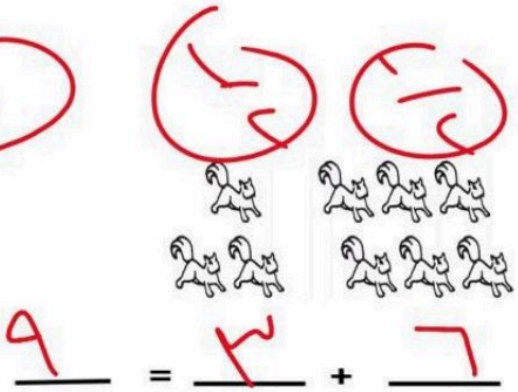





يكتب الطالب الأرقام من الواحد إلى العشرة بالترتيب

١	٢	٣	٤	٥
٦	٧	٨	٩	١٠

موقع منهجي
mnhaji.com

المادة : رياضيات

الصف : الأول الابتدائي

عدد الاوراق : ٢

موقع منهجي

اختبار الفترة الثانية للصف الأول للعام الدراسي الأول ١٤٤٨هـ

الاسم : .....

الصف : ١ / .....

٢٠

السؤال الأول

٢

عد الأشكال التي أمامك وضع الرقم في المربع :









السؤال الثاني

٣

عد الأشكال في كل مجموعة ثم اكتب عددها في المربع ثم حوط المجموعة التي عناصرها أكبر:





السؤال الثالث

١

اكتب العدد المغطى تحت أوراق الشجر :



يتبع (١) ←

السؤال الرابع

٢

حوط القطة الأولى وضع علامة X على القطة السادسة :



السؤال الخامس

٣

أكمل كتابة الأعداد التالية بالترتيب :

١١			١٥			١٨		٢٠	

السؤال السادس

٩

اكتب ناتج الجمع :





٠ + ٣ = ...

٥ + ٠ = ...

٦ + ١ = ...

٢ + ٣ = ...

٢ + ٢ = ...

٥ + ٤ = ...

انتهت الأسئلة

مع أطيب الأمنيات لكم بالتوفيق

معلمات المادة :

العنود العنزي ، مها القاعد

مديرة المدرسة :

طيف العنزي

الأسم : .....

السؤال الأول	أرسمي ست بيضات في الصندوق ثم أكتبي العدد في المربع :	أرسمي ثمان كرات في الصندوق ثم أكتبي العدد في المربع :	أرسمي سبع كرات في الصندوق ثم أكتبي العدد في المربع :
	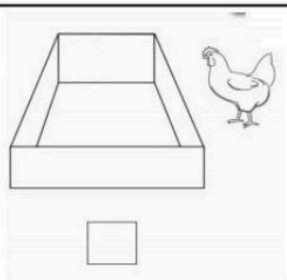	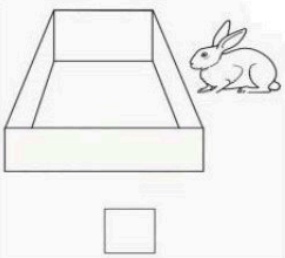	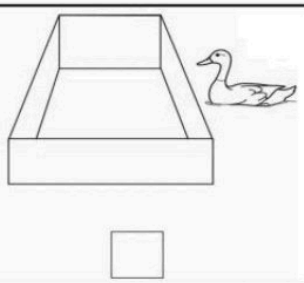
السؤال الثاني	عدّي النظارات ثم أكتبي عددها في المربع :	عدّي السفن ثم أكتبي عددها في المربع :	عدّي الاشياء ثم أكتبي عددها في المربع
	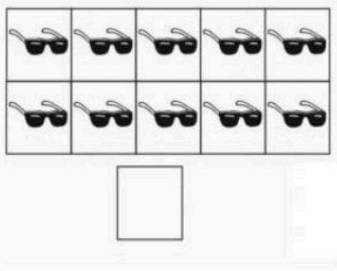		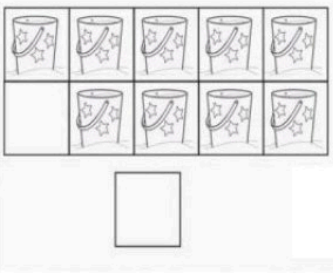
السؤال الثالث	حوطي المجموعة التي تحتوي على تسعه أشياء :		
	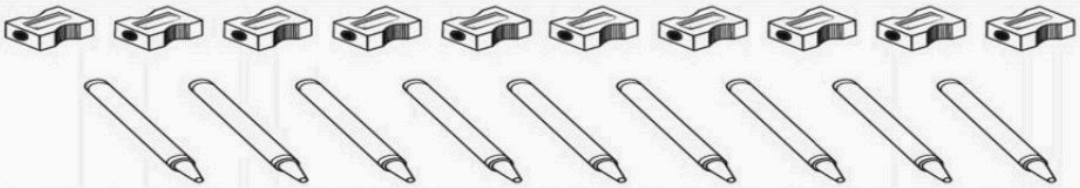		
السؤال الرابع	صلي بين عناصر المجموعتين ثم أكتبي عدد كل منها في المربع المناسب ثم حوطي المجموعه الاقل :		
	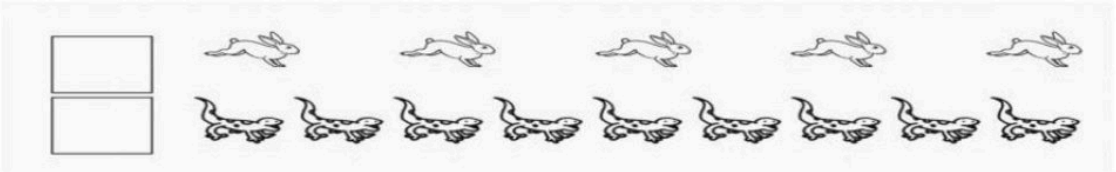		
السؤال الخامس	عدي الصافرات ثم اكتبي عددها في المربع :		
	 ٨ ٩		

السؤال السادس

حوطى القطه السابعه وضعي ✖ على القطه الثانيه :



السؤال السابع

عدّي الأشياء ثم أكتبيها في المربع :

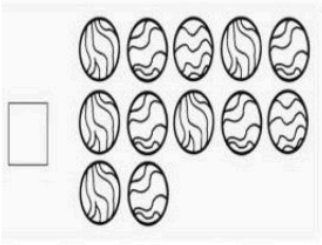

عدّي الأشياء ثم أكتبيها في المربع :



عدّي الأشياء ثم أكتبيها في المربع :

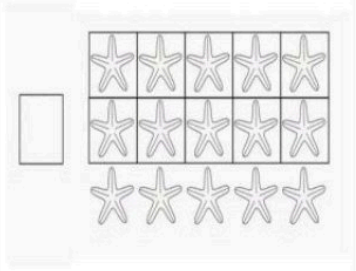

السؤال الثامن

عدّي الأشياء ثم أكتبيها في المربع :



عدّي الأشياء ثم أكتبيها في المربع :

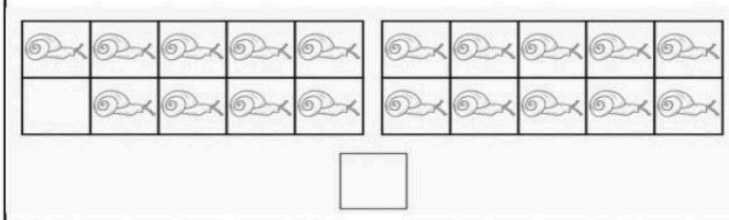

السؤال التاسع

أكتبي العدد المغطى تحت أوراق الشجر :

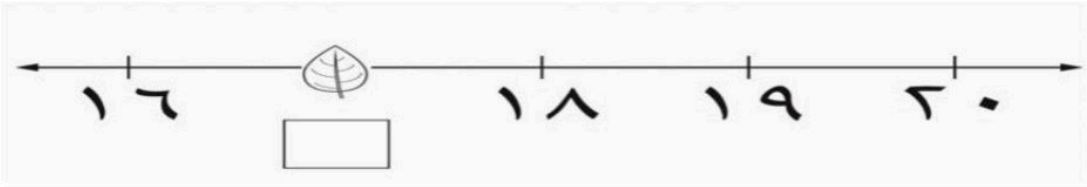

السؤال العاشر

عدّي الأشياء في كل مجموعه ثم أكتبي عددها في المربع ثم حوطي المجموعه التي عناصرها أكبر :

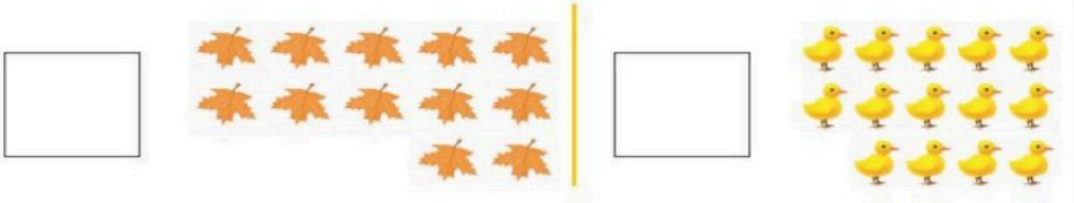

موقع منهجي
mnhaji.com

انتهت الاسئله ،، فتح الله على قلبك وألهمك الصواب ❤️

معلمة المادة / غادة العتيبي

اختبار الفترة الثانية مادة الرياضيات -الصف الأول الإبتدائي–الفصل الدراسي الأول لعام 1448 هـ

٢٠

اسم الطالب |.....

السؤال الأول : عد|ي الأشكال التالية . ثم حوط |ي على الرقم المناسب.



٩ ٨ ٧



١٠ ٧ ٥



١٢ ١١ ١٠



٢٠ ١٥ ١٣

السؤال الثاني : عد|ي المجموعات . ثم اكتب|ي عددها . ثم حوط|ي المجموعة الأكبر



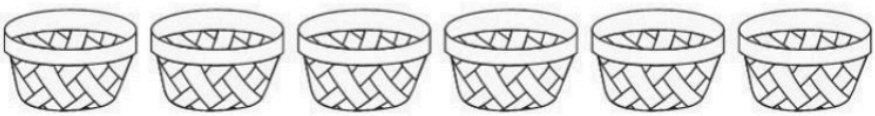

السؤال الثالث: عدِّي الأشكال التاليه . ثم اكتبِي عددها في المربع المجاور له .

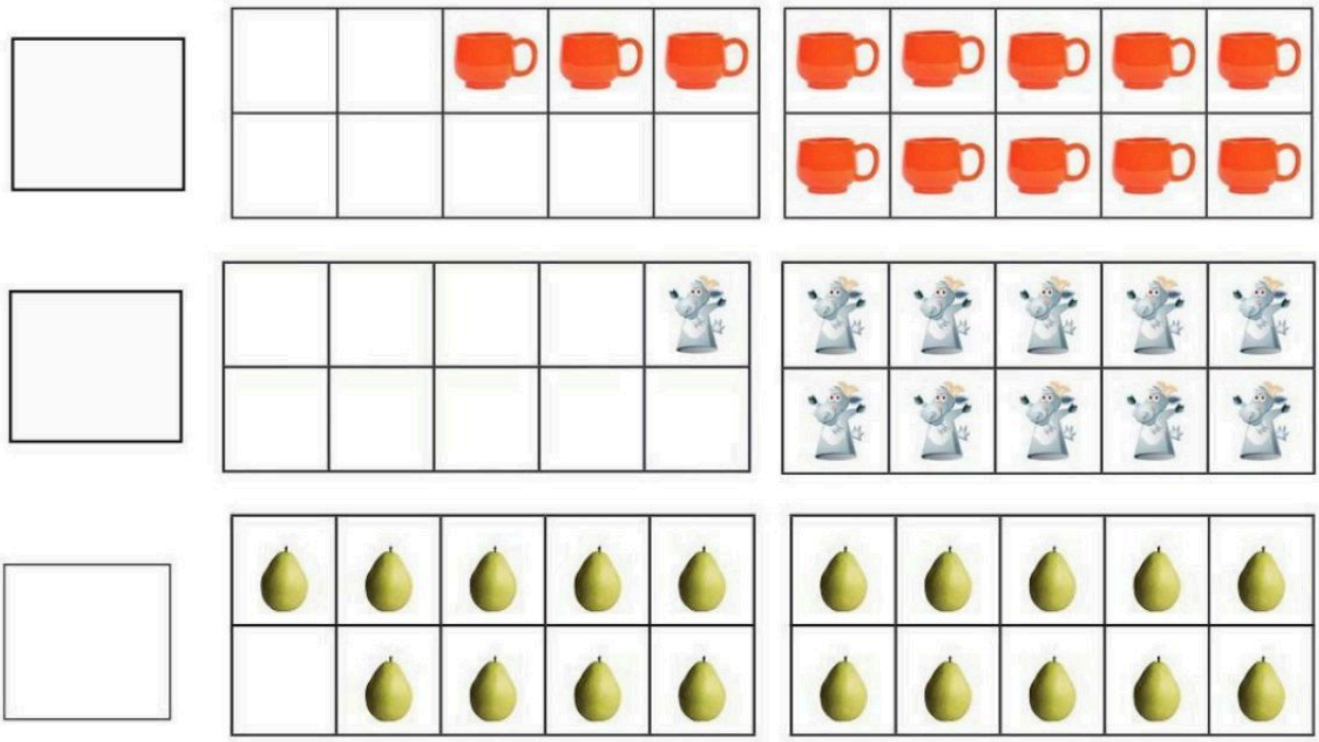

السؤال الرابع : اكتبِي العدد المفقود المغطى بورق الشجر في المربع المخصص له .

١١ ١٢ ١٣ 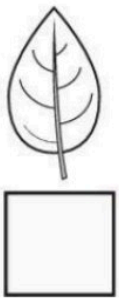 ١٥

---

١٦ ١٧ 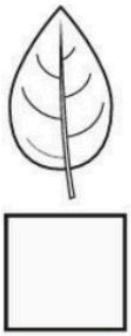 ١٩ 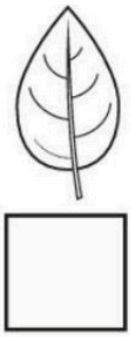

موقع منهجي
mnhaji.com

انتهت الأسئلة ....

اسم الطالبة: .....الصف أولى / ..... اليوم..... التاريخ ...../ ..... / ١٤٤٨هـ

اختبار الفترة الثانية

١- أعد الأشياء في كل من المجموعتين واكتب عددها، ثم تحوط المجموعة التي عددها أقل:



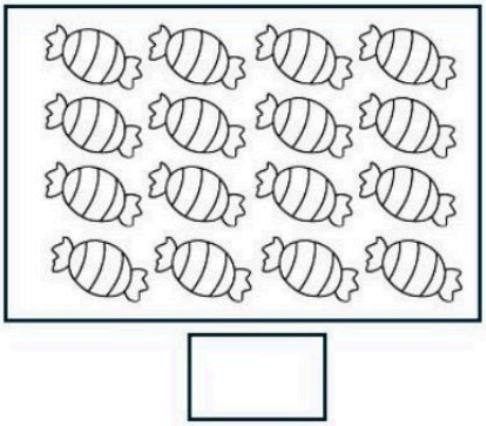

٢- أحوط العدد الذي يمثل عدد عناصر المجموعات:



١١ ١٨ ٢٠

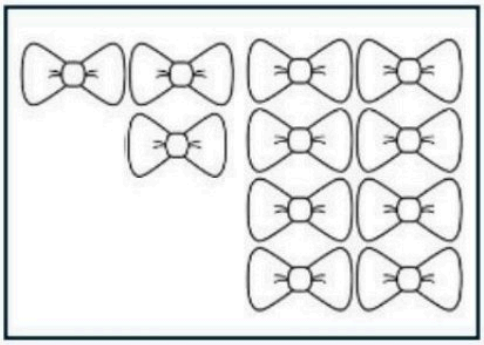

١٧ ١٤ ١١

٣- اكتب العدد المفقود:

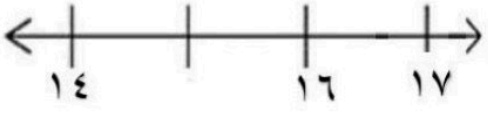

١٤ ١٦ ١٧

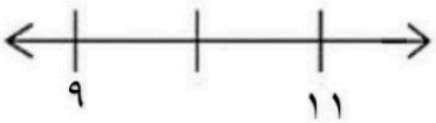

٩ ١١

٤- حوط الغزال الأول وضعي علامة x على الغزال الرابع:



معلمة المادة:



بالتوفيق يا صغيراتي

٥- اكتب جملة الجمع التي تمثل الصور التالية:



□ + □ = □

٦- اكتب ناتج الجمع:

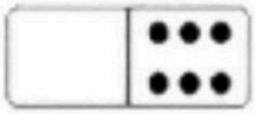

٦ + ٠ =..... ٠ + ٣ =.....

٢ + ٢ =.....

٧- انظر الى قطعة الدومينو واكتب الأعداد:



..... + ... = ...

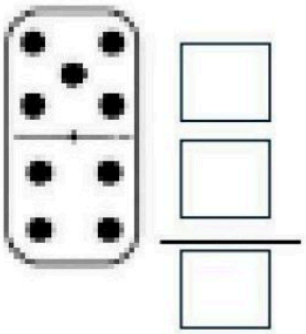

٨- أكمل كتابة الأعداد التالية بالترتيب:

٢٠		١٨			١٥				١١

موقع منهجي
mnhaji.com

بالتوفيق يا صغيراتي

معلمة المادة:

	موقع منهجي mnhaj.com	اختبار الفترة الثانية مادة الرياضيات للصف الأول ابتدائي لعام ١٤٤٨هـ

الإسم : ..... الصف : أولى /.....

س١- أعد وأكتب العدد المناسب لكل مجموعة :

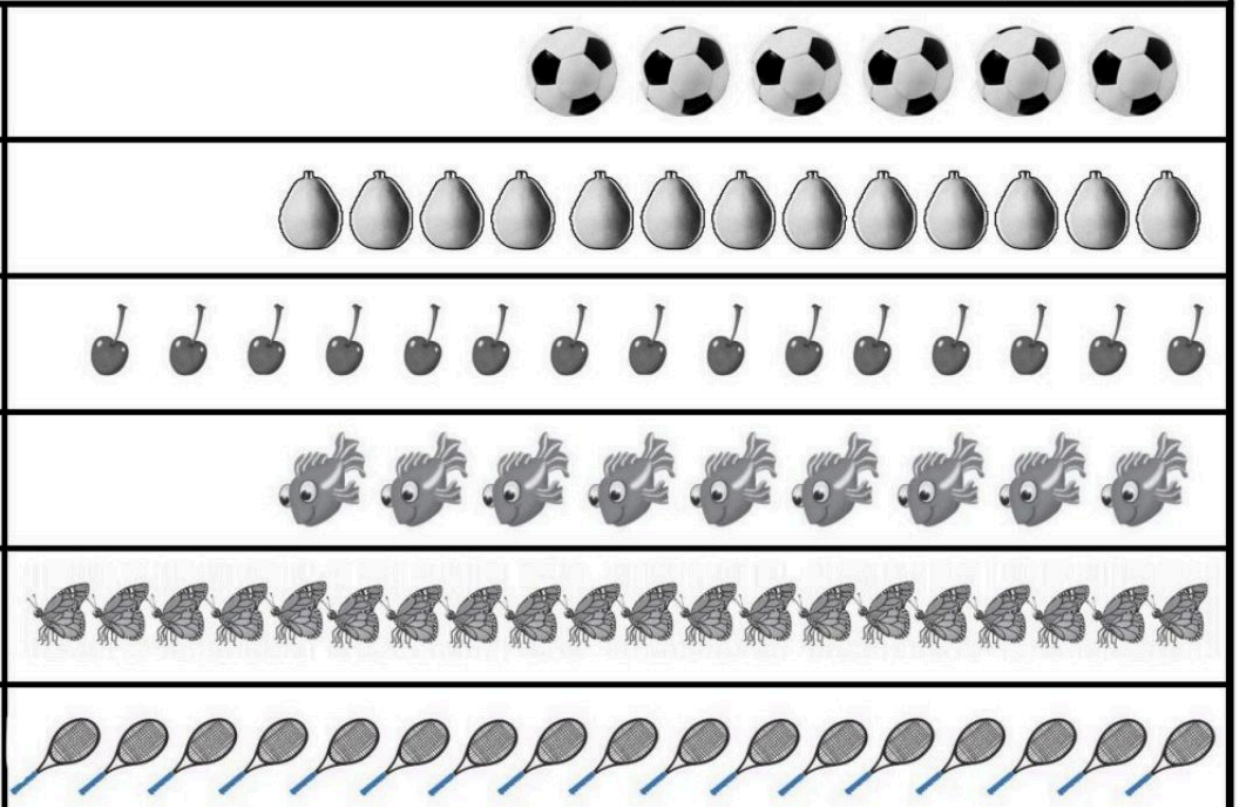

س٢-أكتب العدد المفقود، ثم أرسم بذور بمقدار هذا العدد :

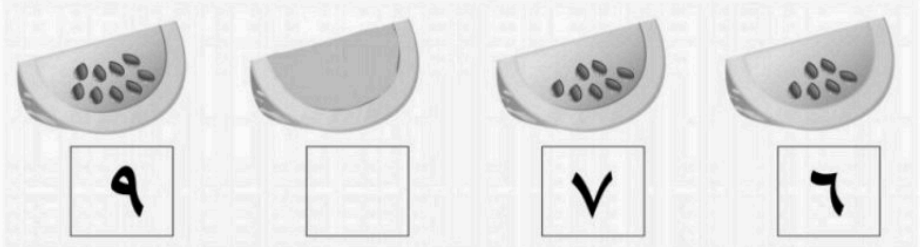

س٣-أحوط البطة الأولى، وأضع علامة X على البطة الخامسة :



س٤-أعد الأشياء في كل مجموعة وأكتب عددها، ثم أحوط المجموعة الأكثر:



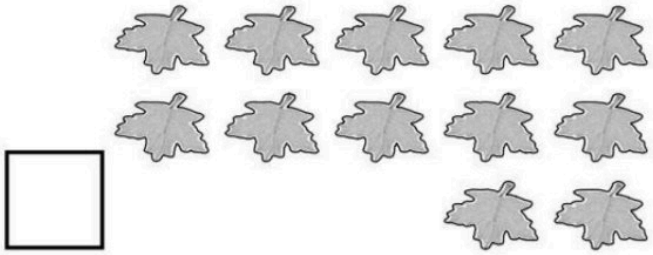

س٥:أكتب العدد المغطى بورق الشجر في الفراغ:

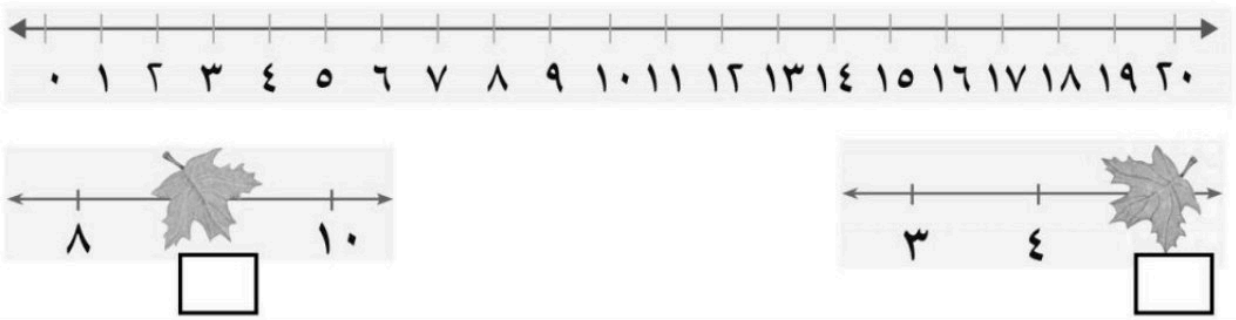

س٦: أكتب جملة الجمع :



_____ + _____ = _____

س٧: أوجد ناتج الجمع :

٧ + ٠ = _____	٣ + ١ = _____	٤ + ٢ = _____

موقع منهجي
mnhaji.com

~ انتهت الأسئلة ~

	موقع منهجي mnhaji.com	اختبار : مادة الرياضيات فصل: الأعداد حتى (١٠) للصف: الأول ابتدائي لعام ١٤٤

الإسم : ..... الصف : أولى / .....

س١- أعد وأكتب العدد المناسب لكل مجموعة :

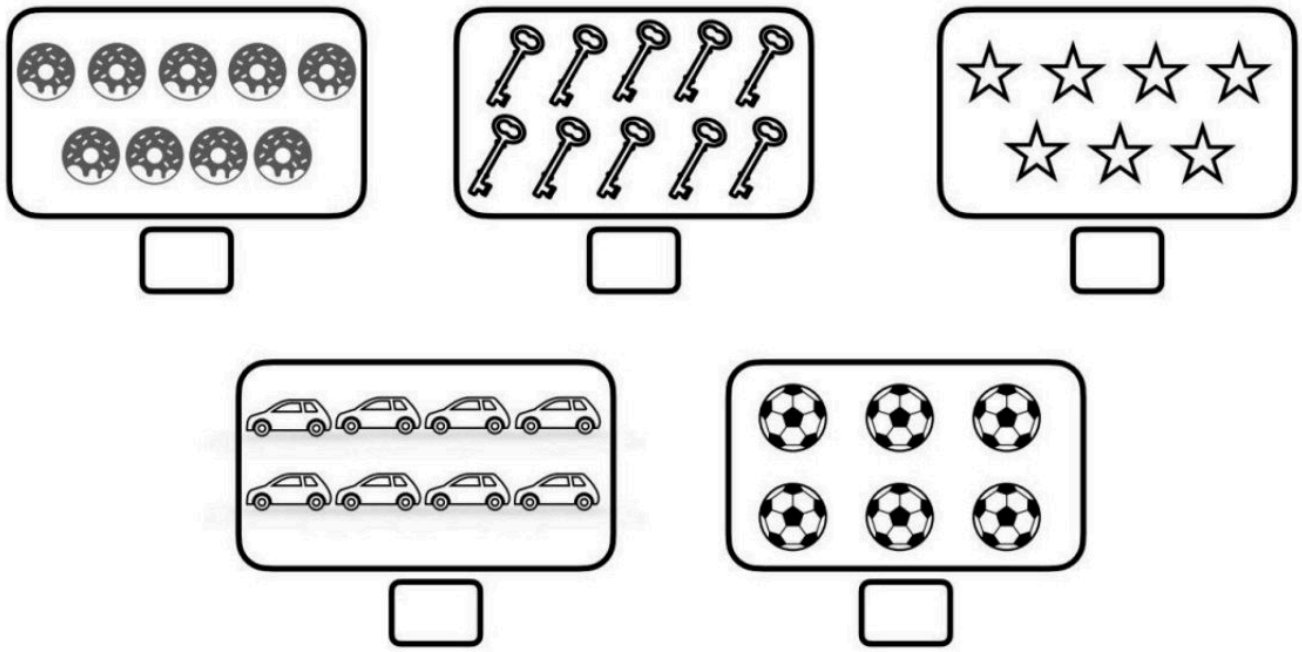

س٢-أعد الأشياء في كل مجموعة وأكتب عددها، ثم أصل بخطوط بين عناصر المجموعتين، وأحوط المجموعة الأكثر :



س٣-أحوط البطة الأولى، وأضع علامة x على البطة الخامسة :



موقع منهجي mnhaji.com

	موقع منهجي mnhaji.com	اختبار مادة الرياضيات للصف الأول الفصل (٥) : الأعداد حتى ٢٠
الاسم :		الصف : أول / .....

السؤال الأول : عد/ي الأشكال التالية ثم اكتب/ي عددها في المربع المجاور له :









السؤال الثاني : اكتب/ي العدد المغطى بورق الشجر في الفراغ :

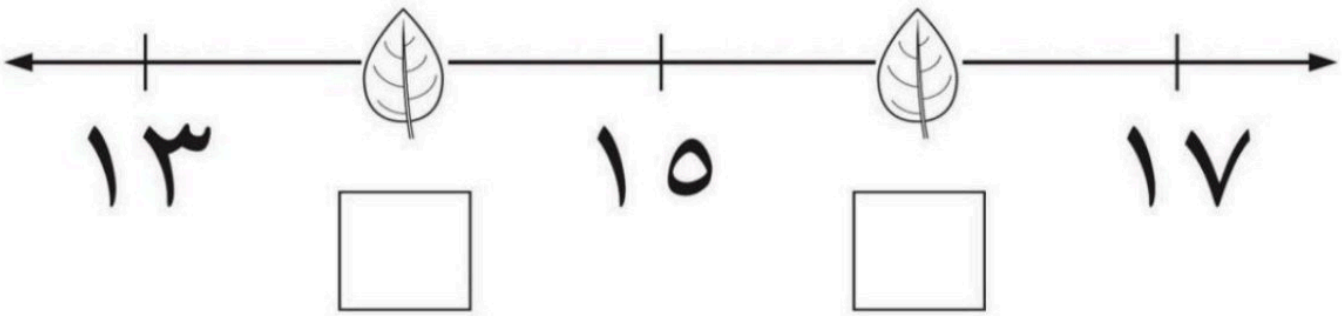

السؤال الثالث : عد/ي الأشياء في كل طبق ثم ضع/ي ✖ على المجموعة الأقل :



السؤال الرابع : اكتب/ي الأعداد مرتبة من ١ إلى ٢٠ في الجدول التالي :

موقع منهجي
mnhaji.com

اختبار الفصل الخامس رياضيات الصف الأول الابتدائي

اسمي الجميل :..... فصلي(١/ ...)

السؤال الأول : أكتب الأعداد من ٠ إلى ٢٠

السؤال الثاني :عِد الأشكال ثم اكتب الرقم تحتها :

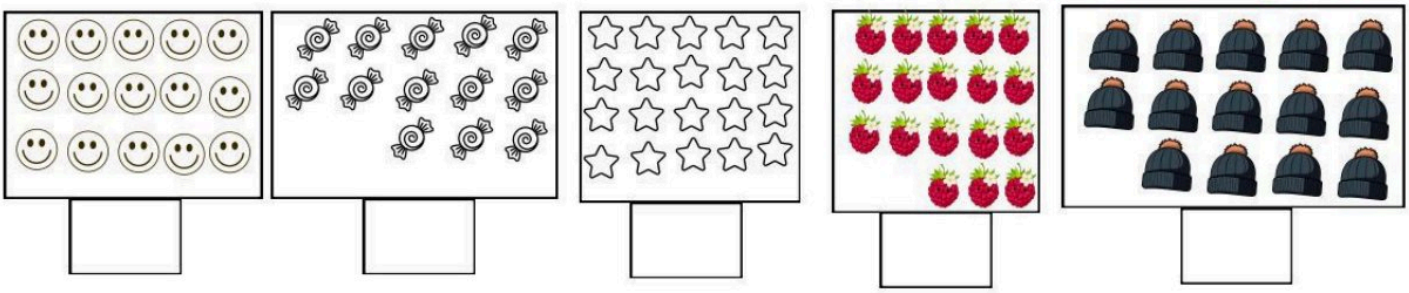

○ متفوق	○ متقدم	○ متمكن	○ غير متقن

السؤال الثالث :- أعد الأشكال وأكتب العدد ثم أضع ✓ على المجموعة الأكثر وأضع ✗ على المجموعة الأقل وأضع دائرة على المجموعات المتساوية :



○ متفوق	○ متقدم	○ متمكن	○ غير متقن

السؤال الرابع : أكتب العدد المغطى بالورقة :



○ متفوق	○ متقدم	○ متمكن	○ غير متقن

السؤال الخامس : أقرأ الأعداد :

٧	١٣	٢٠	١٥	١٩	١١	٦

○ متفوق	○ متقدم	○ متمكن	○ غير متقن

اختبار : مادة الرياضيات
فصل: الأعداد حتى (٢٠)
للصف: الأول ابتدائي
لعام ١٤٤

موقع منهجي
mnhaji.com

الإسم : .....

الصف : أولى / .....

س١- أعد وأكتب العدد المناسب لكل مجموعة :

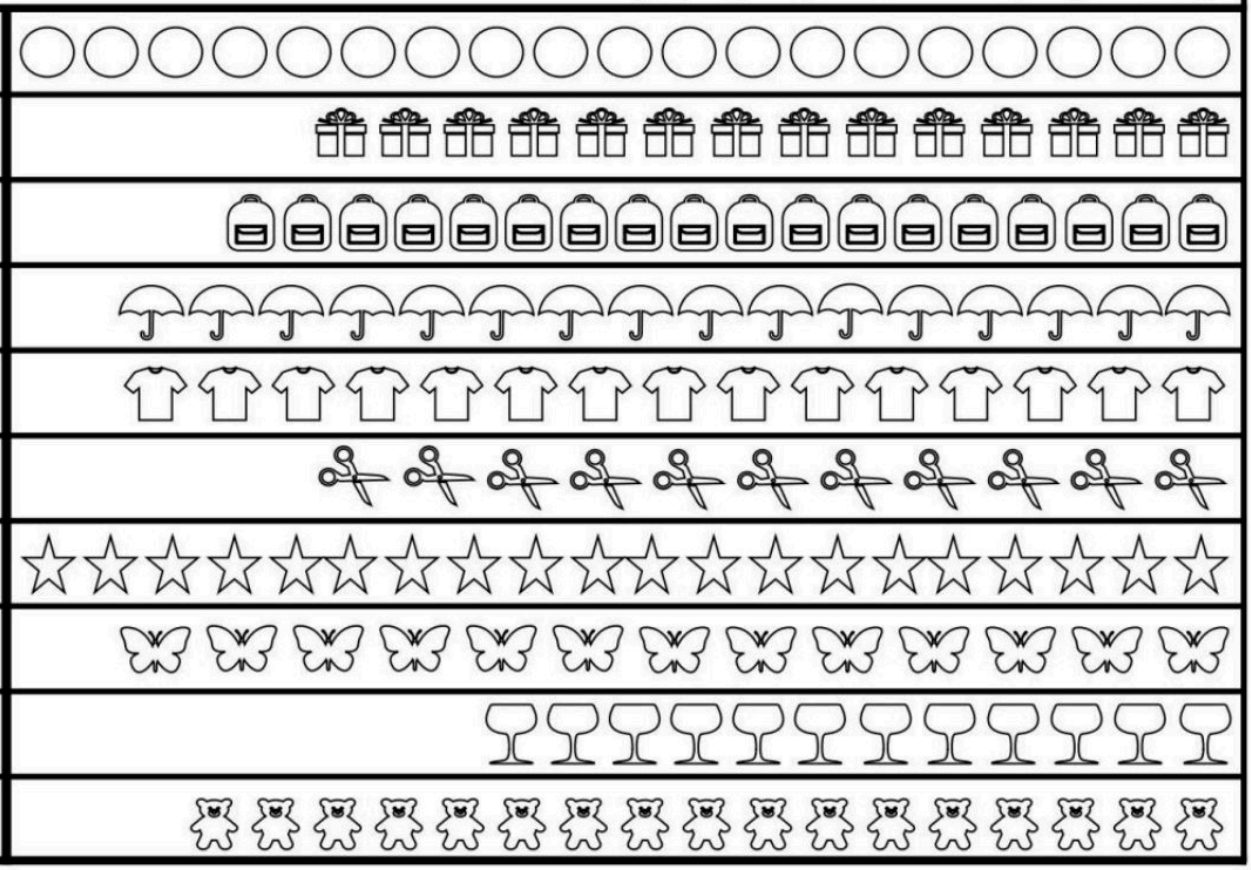

س٢-أعد الأشياء في كل مجموعة وأكتب عددها، ثم أحوط المجموعة الأكثر:

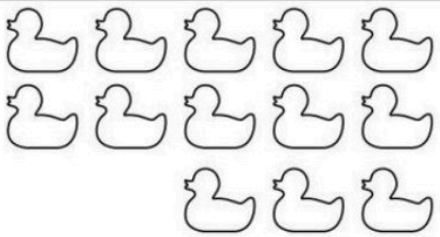



س٣:أكتب العدد المغطى بورق الشجر في الفراغ:







موقع منهجي
mnhaji.com

	موقع منهجي mnhaj.com	اختبار : مادة الرياضيات فصل: الجمع للصف: الأول ابتدائي لعام ١٤٤
الإسم :		الصف : أولى / .....

س١: أكتب جملة الجمع .

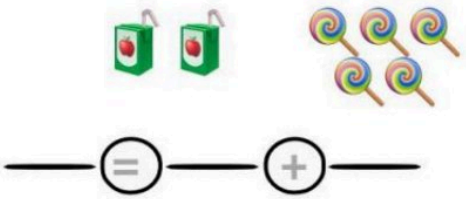

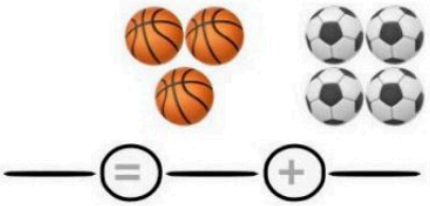

س٢: أوجد ناتج الجمع .



٦ + ٠ = _____

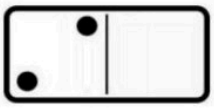

٠ + ٢ = _____

س٣: أكتب رقمين لأكون مجموعاً يساوي الأعداد التالية :

تَكْوِينُ الْعَدَدِ ٥				
	زائِد		يُساوِي	النّاتِجُ
____	+	____	=	٥

تَكْوِينُ الْعَدَدِ ١٠				
	زائِد		يُساوِي	النّاتِجُ
____	+	____	=	١٠

س٤: أكتب الأعداد ، ثم أجد ناتج الجمع :

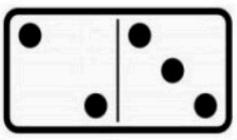

____ + ____ = ____

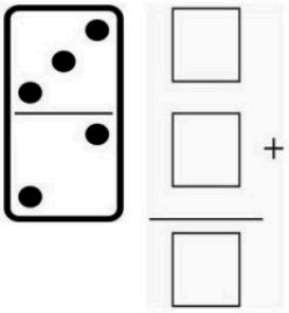

مراجعة الفترة الثانية	للصف: الأول الابتدائي	الفصل الدراسي الأول لعام ١٤٤٨هـ	
الاسم:..... الصف أول/			٢٠

س١: اكتب العدد المناسب :



س٢: اكتب العدد أمام المجموعة ، ثم صل بخطوط بين المجموعتين ، ثم حوط المجموعة الأكثر :



س٣: اكتب العدد أمام المجموعة ، ثم صل بخطوط بين المجموعتين ، ثم حوط المجموعة الأكثر:



س٤: اكتب العدد المناسب ، ، ثم ضع X على الأقل:



س٥: اكتب الأعداد المفقودة :

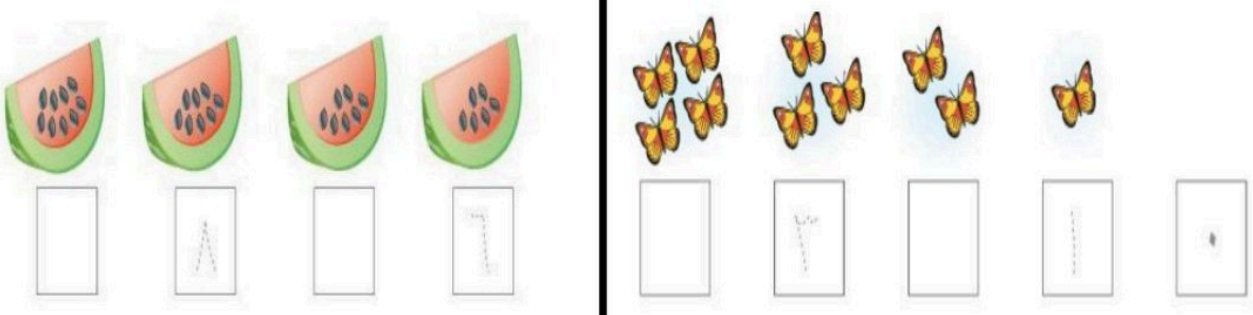

موقع منهجي
mnhaji.com

س٦: اكتب العد المفقود :

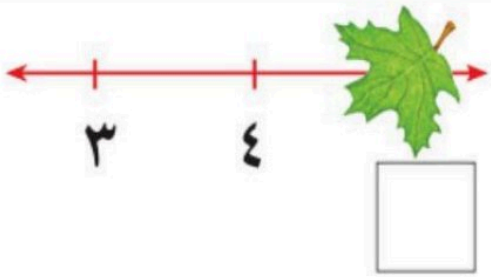



س٧: اكتب الأعداد المفقودة :

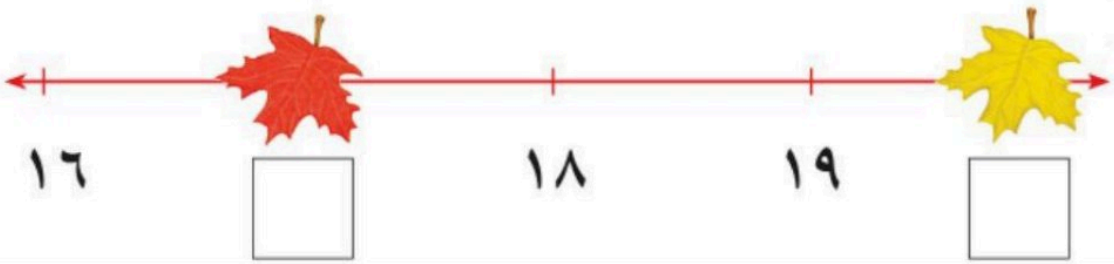

س٨: اكتب الأعداد المفقودة :

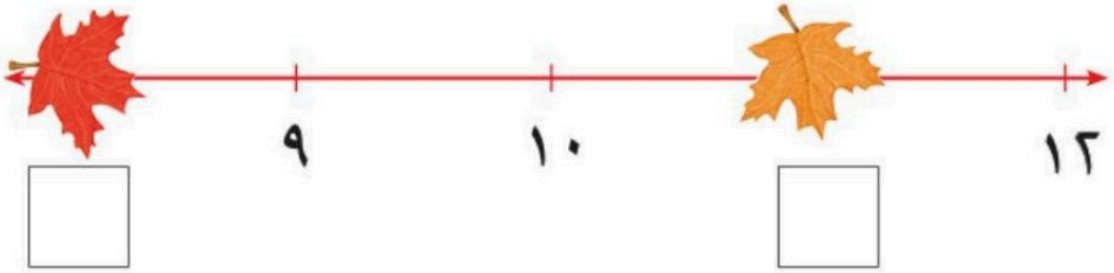

س٩:حوط الولد الثاني ، وضع X على الوالد الأخير:



س١٠:حوط الأرنب الثالث :



س١١: اكتب الجمل العددية التالي :





س١٢: اكتب الجمل العددية التالي :





س١٣: أوجد ناتج الجمع :



٥ + ٠ = _____



٠ + ٧ = _____

موقع منهجي
mnhaji.com

س١٤: أوجد ناتج الجمع :

٨ + ٠ = _____	٠ + ٣ = _____	٠ + ١ = _____

س١٥: أوجد ناتج الجمع :

٤ + ٢ = _____	٣ + ١ = _____	٢ + ٢ = _____

س١٦: أكتب مكونات العدد المعطى :

_____ + _____ = ٥	_____ + _____ = ٧
_____ + _____ = ٥	_____ + _____ = ٧
_____ + _____ = ٥	_____ + _____ = ٧

س١٧: اكتب الجمل العددية التالي :

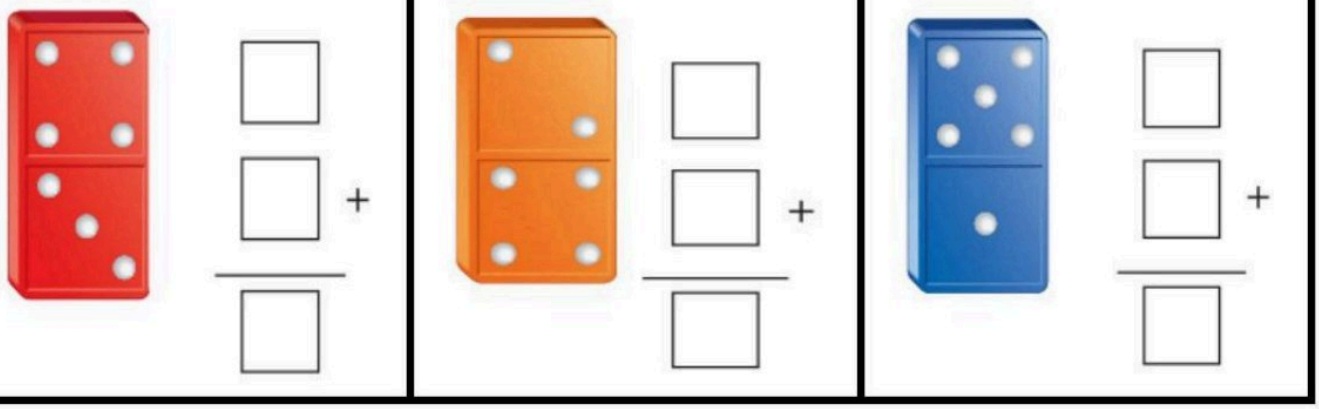

س١٨: اكتب الجمل العددية التالي :



نـهاية مراجعة الفترة الثانـية

معلم المادة: عادل الأحمري