تم تحميل وعرض المادة من

موقع كتبي



www.kottby.net

موقع كتبي يعرض لكم الكتب الدراسية الطبعة الجديدة
وحلولها، وشرح للمناهج الدراسية، توزيع المناهج، تحاضير،
أوراق عمل، نماذج إختبارات عرض مباشر وتحميل PDF

حمل التطبيق من هنا

احصل عليه من Google Play
تنزيل من App Store
احصل عليه من AppGallery

بسم الله الرحمن الرحيم

موقع منهجي
mnhaji.com

اختبار الفترة الأولى

الفصل الدراسي الأول

التاريخ / / / ١٤٤٨هـ
المادة / رياضيات الصف / الأول
الفصل الدراسي / الأول
العام الدراسي/ ١٤٤٨هـ
اسم الطالب /.....

السؤال الأول / حوط العنصر المماثل للشكل الموجود داخل الإطار









السؤال الثاني/ صل بين عناصر المجموعات ثم حوط الصورة التي يكون بها عدد المجموعتان متساو





السؤال الثالث / ارسم دائرة فوق القرد وضع خطًا تحت الولد





السؤال الرابع / حوط الحيوان الذي سيصل للماء قبل الآخرين









السؤال الخامس / اختر الشكل التالي في النمط





السؤال السادس / ضع علامة × على السمكة التي في الوسط



السؤال السابع/ عد الأشياء التي في الصورة واكتب عددها في المربع













السؤال الثامن / اختر الرقم المناسب لعدد الأشياء في الصورة

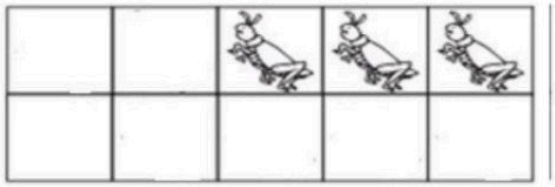

١ ٥ ٣



٤ ٢ ١

السؤال التاسع / اكتب الأرقام من الواحد الى الخمسة

					٥

اختبار الفترة الأولى الصف الأول الإبتدائي الفصل الدراسي الأول لعام ١٤٤٨ هـ	
الإسم :..... الصف أولى/.....	٢٠

١ : أحوط العناصر المماثلة للشكل داخل الإطار :



٢ :أحوط المجموعة التي فيها العدد نفسة من الجزر والأرانب :



٣ :أصل بخط بين عناصر المجموعتين المتقابلتين ثم حوط المجموعة التي عناصرها أقل :



٤ :عد الكرات داخل كل وعاء ثم أكتب العدد في المربع :

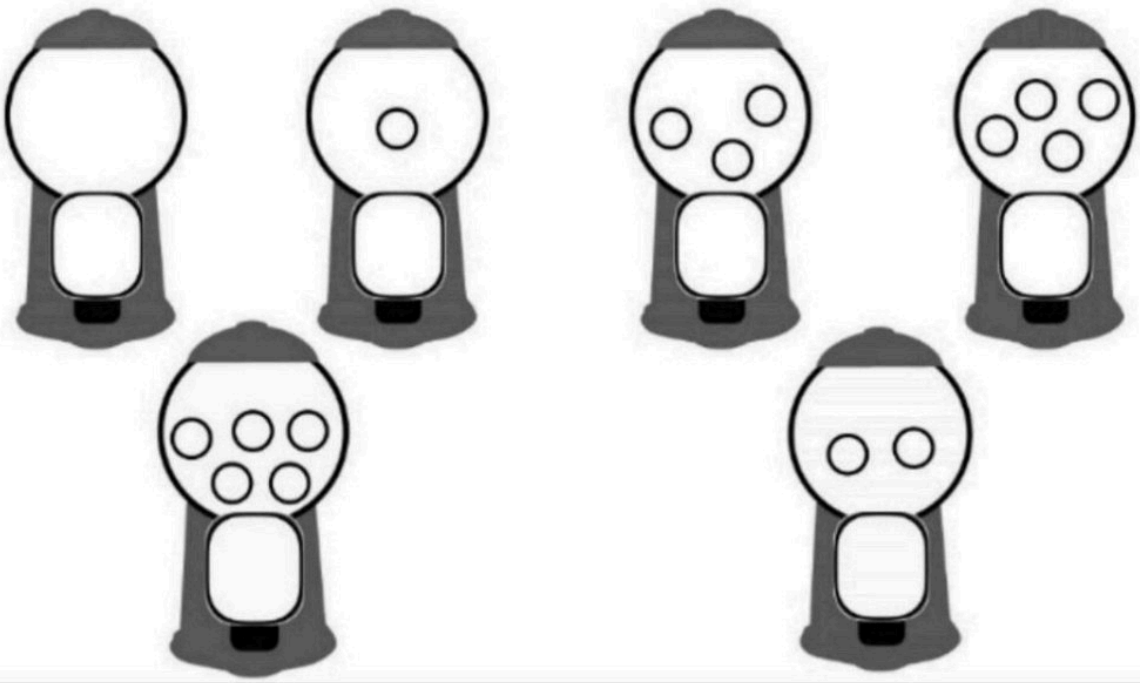

٥ :أحوط البالون الذي يقع فوق الشجرة وأضع ✕ على البالون الذي يقع تحت الشجرة :



٦ :أحوط القبعة التي تقع في الأعلى ، وأضع ✕ على القبعة التي تقع في الوسط ، وخطاً تحت القبعة التي في الأسفل :



٧ :أحوط الحيوان الذي قبل الدجاجة ،وأضع ✕ على الحيوان الذي بعد الأرنب :



٨ :أحوط الشكل التالي في النمط المعطى :



(انتهت الأسئلة)

موقع منهجي
www.mnhaj.com

اختبار الفترة الأولى المادة رياضيات - الصف الأول ابتدائي - الفصل الدراسي الأول ١٤٤٨هـ

٢٠

اسم الطالب/ـة / .....

السؤال الأول : حوط العناصر المماثلة للشكل الموجود داخل الإطار :-

١



السؤال الثاني : صل بين عناصر المجموعات ثم حوط الصورة التي يكون بها عدد المجموعتان متساويان :-

٢



السؤال الثالث : ارسم موزة فوق القرد وضع خطا تحت الولد :-

١



السؤال الرابع : حوط الحيوان الذي سيصل للماء قبل الآخرين :-

١



السؤال الخامس : اختر الشكل التالي في النمط :-

١



السؤال السادس : ضع علامة X على السمكة التي في الوسط :-

١



السؤال السابع : عد الأشياء التي في الصورة واكتب عددها في المربع :-

٦

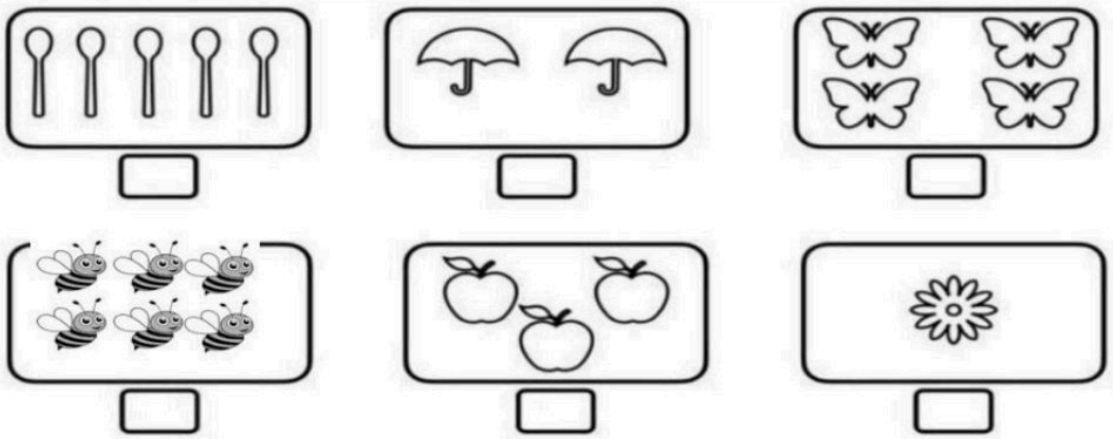

السؤال الثامن : اختر الرقم المناسب لعدد الأشياء في الصورة :-

٢



٤ ١٠ ٧

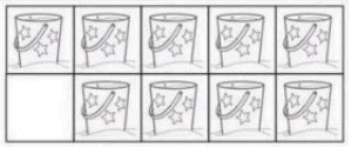

٩ ٥ ١

السؤال التاسع : اكتب الأرقام من الواحد الى الخمسة :-

٥

					٠

موقع منهجي
mnhaji.com

موقع منهجي
mnhaji.com

اختبار الفترة الأولى الصف الأول ابتدائي الفصل الدراسي الأول لعام ١٤٤٨ هـ

اسم الطالبة:	الصف:	المادة: .....

استعيني بالله في كل وقت، وصفي ذهنك تماما، فأنت لديك عزيمة وإصرار على النجاح والتفوق

السؤال الأول: أحوط العناصر المماثلة للشكل الموجود داخل الإطار:

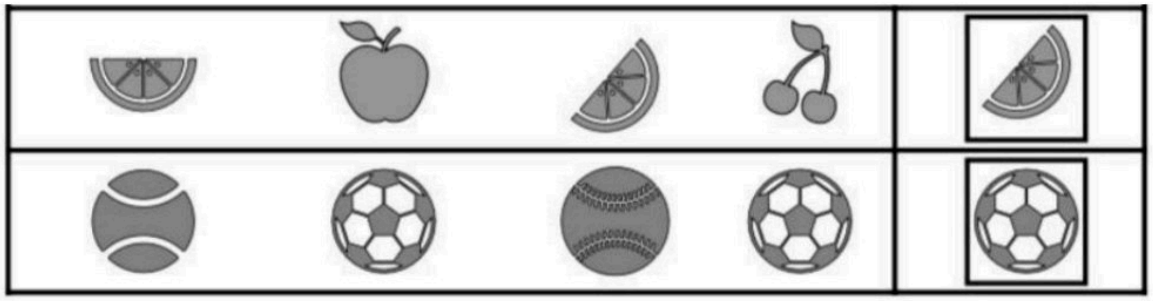

السؤال الثاني:أ/ لون بالأخضر القط فوق الطاولة وبالأصفر القط تحت الطاولة:



ب/ لون الطيور كالأتي : أعلى الشجرة بالبرتقالي أسفل الشجرة بالبنفسجي على الشجرة بالأحمر



السؤال الثالث: أ/ أحدد النمط فيما يلي ، ثم أرسم التالي في النمط :-



ب/ انظر إلى الأنماط التالية وأعثر على ما يأتي بعد ذلك :



السؤال الرابع :اكتب الأعداد مرتبة من ١ إلى ١٠ في الجدول التالي:

معلمة المادة:

موقع منهجي
mnhaji.com

	موقع منهجي mnhaji.com	الدرجة : _____ توقيع ولي الأمر :

اختبار الفترة – الفصل الدراسي الأول

اسم الطالب: ..... المادة :رياضيات الصف : الأول الابتدائي

السؤال الأول: صل بين عناصر المجموعتين، ثم اكتب عدد عناصر كل مجموعة أمامها، وارسم دائرة حول المجموعة ذات العناصر الأكثر.



السؤال الثاني : اكتب عدد الأشكال التالية في المربعات المجاورة لها





السؤال الثالث: اكتب الأعداد مرتبة من ١ إلى ٥ في الجدول التالي:

	موقع منهجي mnhaji.com	الدرجة : _____ توقيع ولي الأمر :

اختبار الفترة – الفصل الدراسي الأول ١٤٤٨ هـ

اسم الطالب: ..... المادة :رياضيات الصف : الأول الابتدائي

اختر الإجابة الصحيحة لكل سؤال مما يأتي:

١ الشكل الذي يشترك مع  في أكثر من خاصية هو:

أ	ب	ج	د
			

٢ الصورة التي بها عدد المجموعتان متساويان هي:

أ	ب	ج	د
			

٣ المجموعة التي تحوي كرات أكثر من كرات المجموعة التالية  هي:

أ	ب	ج	د
			

٤ عدد الفراشات في الصورة  يساوي

أ	ب	ج	د
٢	٣	٤	٥

٥	عدد القبعات  في الصورة يساوي:							
	أ	١	ب	٢	ج	٣	د	٤
٦	عدد أصابع الإنسان في كل يد يساوي:							
	أ	٢	ب	٣	ج	٤	د	٥
٧	عدد القطط في الصندوق  يساوي:							
	أ	٠	ب	١	ج	٣	د	٥
٨	عدد السمكات التالية  يساوي:							
	أ	٢	ب	٣	ج	٤	د	٥
٩	عدد التفاحات في الصورة  يساوي							
	أ	٠	ب	١	ج	٣	د	٤
١٠	الطائر الذي يقع فوق  الطيور التالية هو الطائر:							
	أ	الأزرق	ب	الأحمر	ج	الأصفر	د	الأسود

انتهت الأسئلة: وفقكم الله وجعلكم فخرا لوطنكم وأمتكم معلم المادة/ حسن القرني

مجموع الدرجات
٢٠

التاريخ : ...../ ...../ ١٤٤٨هـ
المادة : رياضيات
الزمن : ٤٥ دقيقة

موقع منهجي
mnhaji.com

اختبار مادة الرياضيات للصف الأول الابتدائي (منتصف الفصل الدراسي الأول ١٤٤٨ هـ)

اسم الطالب	.....	الصف	أول / .....

(الفصل ١) المقارنة والتصنيف

❖ السؤال الأول		٩

١



يحوط الطالب الشيء داخل الإطار الذي له الصفة نفسها ، ويضع علامة X على الأشياء التي ليست لها الصفة نفسها.

٢



يحوط الطالب الشيء المماثل له ، ويضع علامة X على الشيء المختلف عنه.

٣

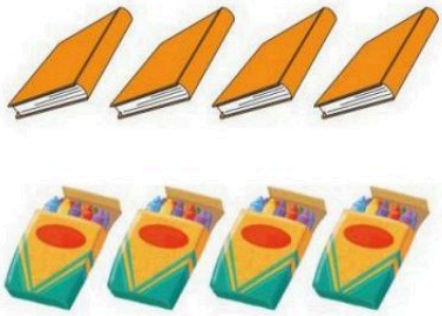

يصل الطالب بخط بين عناصر المجموعتين المتقابلتين ، ثم يصف العلاقة بينهما.

٤



يصل الطالب بخط بين عناصر المجموعتين المتقابلتين ، ثم يصف العلاقة بينهما. ثم يحوط المجموعة التي عناصرها أقل.

معلمة المادة :

(الفصل ٢) الأعداد حتى ٥

	١١

❖ السؤال الثاني





يتعرف الطالب الأشـــياء في الصـــورتين ، ويعدّها. ثم يلوّن مربعات بحســـب عددها وينطق العدد.



يعد الطالب الأشياء ، ثم ينطق العدد ويكتبه.



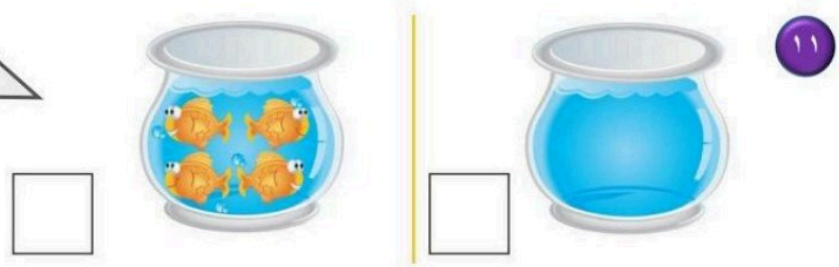

يكتب الطالب عدد السمكات في الوعاء

معلمـة المادة :

نموذج الإجابة

مجموع الدرجات
٢٠

التاريخ : ..... / ..... / ١٤٤٨هـ
المـادة : رياضيات
الزمـن : ٤٥ دقيقة

اختبار مادة الرياضيات للصف الأول الابتدائي (منتصف الفصل الدراسي الأول ١٤٤٨ هـ)

اسم الطالب	.....	الصف	أول / .....

(الفصل ١) المقارنة والتصنيف

❖ السؤال الأول

٩	

التصنيف وفق صفة واحدة اللون

١



يحوط الطالب الشيء داخل الإطار الذي له الصفة نفسها ، ويضع علامة X على الأشياء التي ليست لها الصفة نفسها.

التصنيف وفق صفتين الحجم واللون

٢



يحوط الطالب الشيء المماثل له ، وفق صفتين اللون والحجم ويضع علامة X على الشيء المختلف عنه.

٣

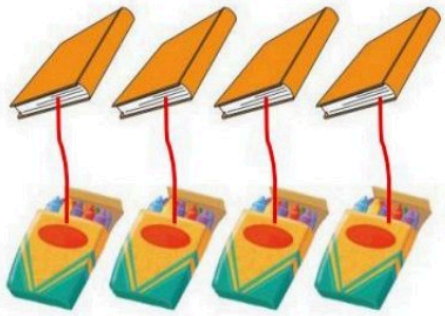

تساوي

يصل الطالب بخط بين عناصر المجموعتين المتقابلتين ، ثم يصف العلاقة بينهما.

أقل من

٤



يصل الطالب بخط بين عناصر المجموعتين المتقابلتين ، ثم يصف العلاقة بينهما. ثم يحوط المجموعة التي عناصرها أقل.

معلمة المادة :

موقع منهجي
mnhaji.com

❖ السؤال الثاني

	١١





يتعرف الطالب الأشـــياء في الصـــورتين ، ويعدّها. ثم يلوّن مربعات بحســـب عددها وينطق العدد.

---

٨ 

٢

يعد الطالب الأشياء ، ثم ينطق العدد ويكتبه.

٩ 

٣

١٠ 

٥

---

١١ 

٠



٤

يكتب الطالب عدد السمكات في الوعاء

معلمة المادة :

موقع منهجي
mnhaji.com

اسم الطالب ة /

اختبار الفترة الأولى للصف الأول الابتدائي في مادة الرياضيات

السؤال الأول / حوط العناصر المماثلة للشكل الموجود داخل الإطار



السؤال الثاني/ صل بين عناصر المجموعات ثم حوط الصورة التى يكون بها عدد المجموعتان متساو





السؤال الثالث / ارسم موزة فوق القرد وضع خطًا تحت الولد





السؤال الرابع / حوط الحيوان الذى سيصل للماء قبل الآخرين









السؤال الخامس / اختر الشكل التالى فى النمط



السؤال السادس / ضع علامة × على السمكة التي في الوسط



السؤال السابع/ عد الأشياء التي في الصورة واكتب عددها في المربع













السؤال الثامن / اختر الرقم المناسب لعدد الأشياء في الصورة

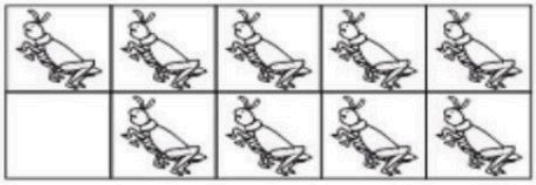

١ ٥ ٩



٧ ١٠ ١

السؤال التاسع / اكتب الأرقام من الواحد الى عشرة

إعداد المعلمة / نورة الغامدي

موقع منهجي
mnhaji.com

نموذج الإجابة
وتوزيع
الدرجات

نموذج الإجابة

اختبار الفترة الأولى للصف الأول الابتدائي في مادة الرياضيات

السؤال الأول / حوط العناصر المماثلة للشكل الموجود داخل الإطار ١



السؤال الثاني/ صل بين عناصر المجموعات ثم حوط الصورة التى يكون بها عدد المجموعتان متساو ١



السؤال الثالث / ارسم موزة فوق القرد وضع خطًا تحت الولد ½ ½



السؤال الرابع / حوط الحيوان الذى سيصل للماء قبل الآخرين ١



السؤال الخامس / اختر الشكل التالى فى النمط ١



موقع منهجي
mnhaji.com

السؤال السادس / ضع علامة × على السمكة التي في الوسط



السؤال السابع/ عد الأشياء التي في الصورة واكتب عددها في المربع

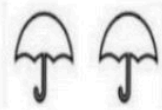

٢



٣



٤



٥



٦



٧

السؤال الثامن / اختر الرقم المناسب لعدد الأشياء في الصورة

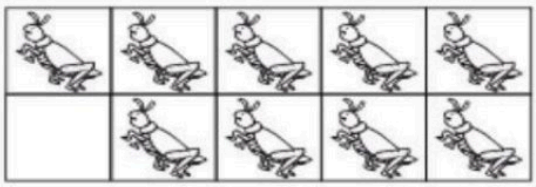

١ ٥ ٩



٧ ١٠ ١

السؤال التاسع / اكتب الأرقام من الواحد الى عشرة

١	٢	٣	٤	٥
٦	٧	٨	٩	١٠

موقع منهجي
mnhaji.com

اختبار الفترة	الأولى	الفصل الدراسي	الأول ١٤٤٨هـ	اسم الطالبة		الدرجة	
المادة	رياضيات	الصف	الأول	معلمة المادة		التوقيع	

السؤال الأول: طابقي الصور في المجموعة (ب) مع ماينا سبها من صور المجموعة (أ) من حيث تطابق اللون نفسه.

م	القائمة (أ)	الرقم المناسب	القائمة (ب)
١			
٢			
٣			
٤			
٥			

السؤال الثاني: اختاري الاجابة الصحيحة

١	اختر الشيء الذي له اللون نفسه لأشياء المجموعة الآتية: 					
	أ		ب		ج	
٢	أي التمثيلات أحطنا فيه الأشياء التي تخص الحقيبة المدرسية من بين الأشياء في المجموعة الآتية ؟ 					
	أ		ب		ج	
٣	ما هي الصفات التي تشترك فيها الأطباق ؟ 					
	أ	اللون والشكل	ب	اللون والحجم	ج	الشكل والحجم
٤	اختر المجموعة التي عدد عناصرها يساوي عدد التفاحات في المجموعة الآتية : 					
	أ		ب		ج	
٥	اختر المجموعة التي عدد عناصرها أقل من عدد الكرات : 					
	أ		ب		ج	

موقع منهجي
mnhaji.com

نموذج الإجابة

اختبار الفترة	الأولى	الفصل الدراسي	الأول ١٤٤٨هـ	اسم الطالبة	الاجابة النموذجية	الدرجة
المادة	رياضيات	الصف	الأول	معلمة المادة		التوقيع

السؤال الأول: طابقي الصور في المجموعة (ب) مع ماينا سبها من صور المجموعة (أ) من حيث تطابق اللون نفسه.

م	القائمة (أ)	الرقم المناسب	القائمة (ب)
٦		٤	
٧		٣	
٨		١	
٩		٥	
١٠		٢	

موقع منهجي
mnhaji.com

السؤال الثاني: اختاري الاجابة الصحيحة

١	اختر الشيء الذي له اللون نفسه لأشياء المجموعة الآتية: 					
	أ		ب		ج	
٢	أي التمثيلات أحطنا فيه الأشياء التي تخص الحقيبة المدرسية من بين الأشياء في المجموعة الآتية ؟ 					
	أ		ب		ج	
٣	ما هي الصفات التي تشترك فيها الأطباق ؟ 					
	أ	اللون والشكل	ب	اللون والحجم	ج	الشكل والحجم
٤	اختر المجموعة التي عدد عناصرها يساوي عدد التفاحات في المجموعة الآتية : 					
	أ		ب		ج	
٥	اختر المجموعة التي عدد عناصرها أقل من عدد الكرات : 					
	أ		ب		ج	

موقع منهجي
mnhaji.com

		اختبار : مادة الرياضيات فصل: المقارنة والتصنيف للصف: الأول ابتدائي لعام ١٤٤

الإسم : ..... الصف : أولى / .....

س١- أحوط العناصر المماثلة للشكل الموجود داخل الإطار:

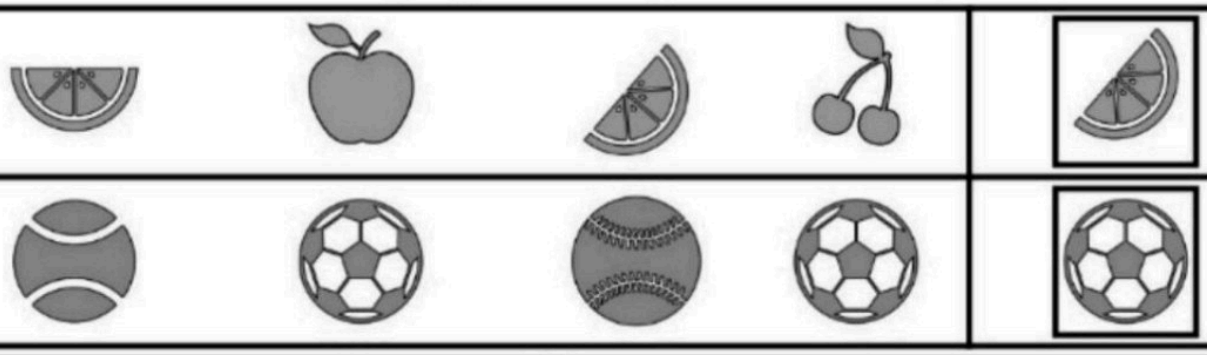

س٢- أحوط الشكل الذي يشترك مع الشكل  في أكثر من خاصية :



س٣- أصل بين عناصر المجموعات ثم أحوط الصور التي يكون بها عدد المجوعتان متساويان :



س٤- أصل بين عناصر المجموعتين ثم أحوط المجموعة التي عناصرها أقل :

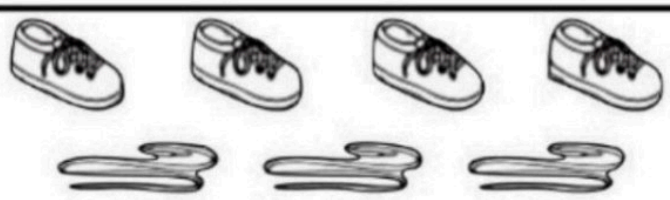

س٥- أصل بين عناصر المجموعتين ثم أحوط المجموعة التي عناصرها أكثر :

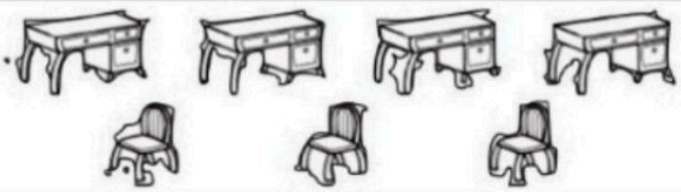

		اختبار : مادة الرياضيات فصل: المقارنة والتصنيف للصف: الأول ابتدائي لعام ١٤٤

الإسم : ..... الصف : أولى / .....

س١- أحوط العناصر المماثلة للشكل الموجود داخل الإطار:

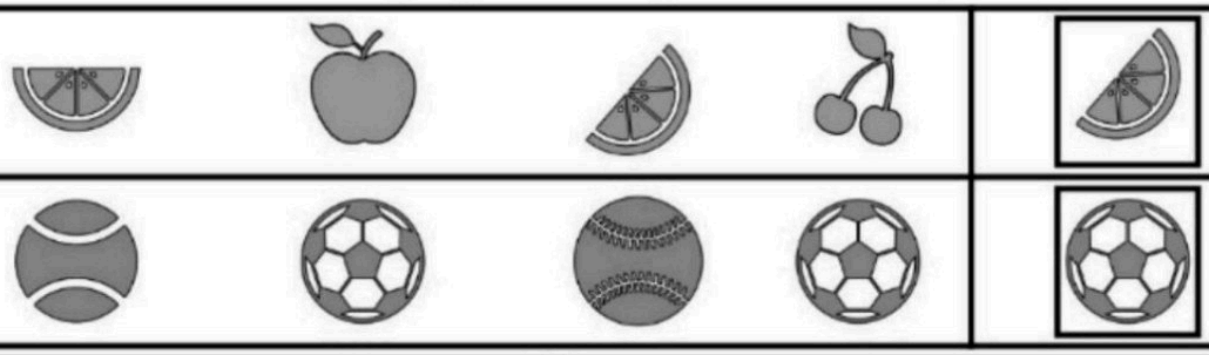

س٢- أحوط الشكل الذي يشترك مع الشكل  في أكثر من خاصية :



س٣- أصل بين عناصر المجموعات ثم أحوط الصور التي يكون بها عدد المجوعتان متساويان :



س٤- أصل بين عناصر المجموعتين ثم أحوط المجموعة التي عناصرها أقل :

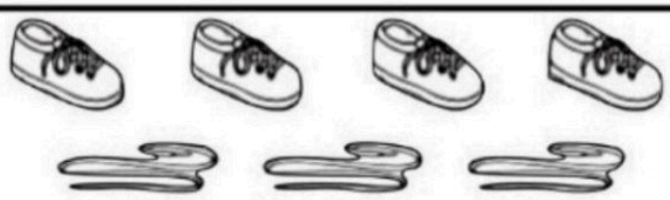

س٥- أصل بين عناصر المجموعتين ثم أحوط المجموعة التي عناصرها أكثر :

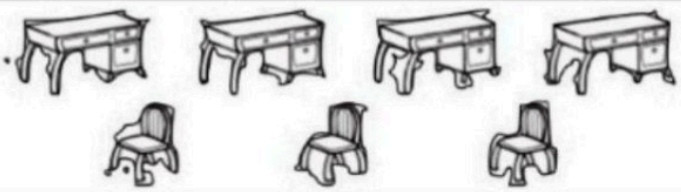

		اختبار : مادة الرياضيات فصل: الموقع والنمط للصف: الأول ابتدائي لعام ١٤٤

الإسم : ..... الصف : أولى / .....

١ أحوط البالون الذي يقع فوق الشجرة.



٢ أحوط الحيوان الذي يقع تحت المنزل.



٣ أضع علامة X على القبعة الموجودة في الوسط



٤ أضع علامة X على السمكة الموجودة في الأعلى



٥ أضع علامة X على المكعب الموجود في الأسفل



٦ أحوط السيارة التي تسير قبل الشاحنة.



٧ أحوط الحيوان الذي يسير بعد الآخرين .



٨ وحدة النمط في الشكل التالي هي ؟









٩ أحوط الشكل التالي في النمط المعطى..





		اختبار : مادة الرياضيات فصل: الأعداد حتى (١٠) للصف: الأول ابتدائي لعام ١٤٤

الإسم : ..... الصف : أولى / .....

س١- أعد وأكتب العدد المناسب لكل مجموعة :

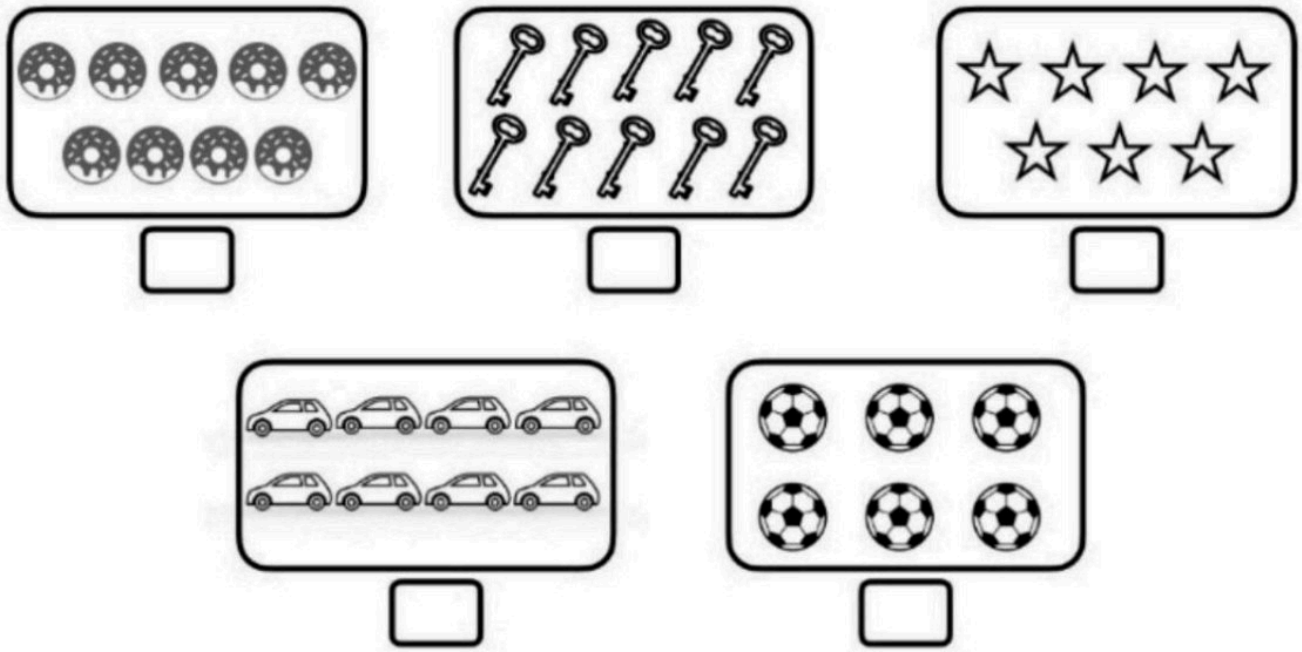

س٢-أعد الأشياء في كل مجموعة وأكتب عددها، ثم أصل بخطوط بين عناصر المجموعتين، وأحوط المجموعة الأكثر :



س٣-أحوط البطة الأولى، وأضع علامة x على البطة الخامسة :



		اختبار : مادة الرياضيات فصل: الأعداد حتى (٢٠) للصف: الأول ابتدائي لعام ١٤٤

الإسم : ..... الصف : أولى / .....

س١- أعد وأكتب العدد المناسب لكل مجموعة :

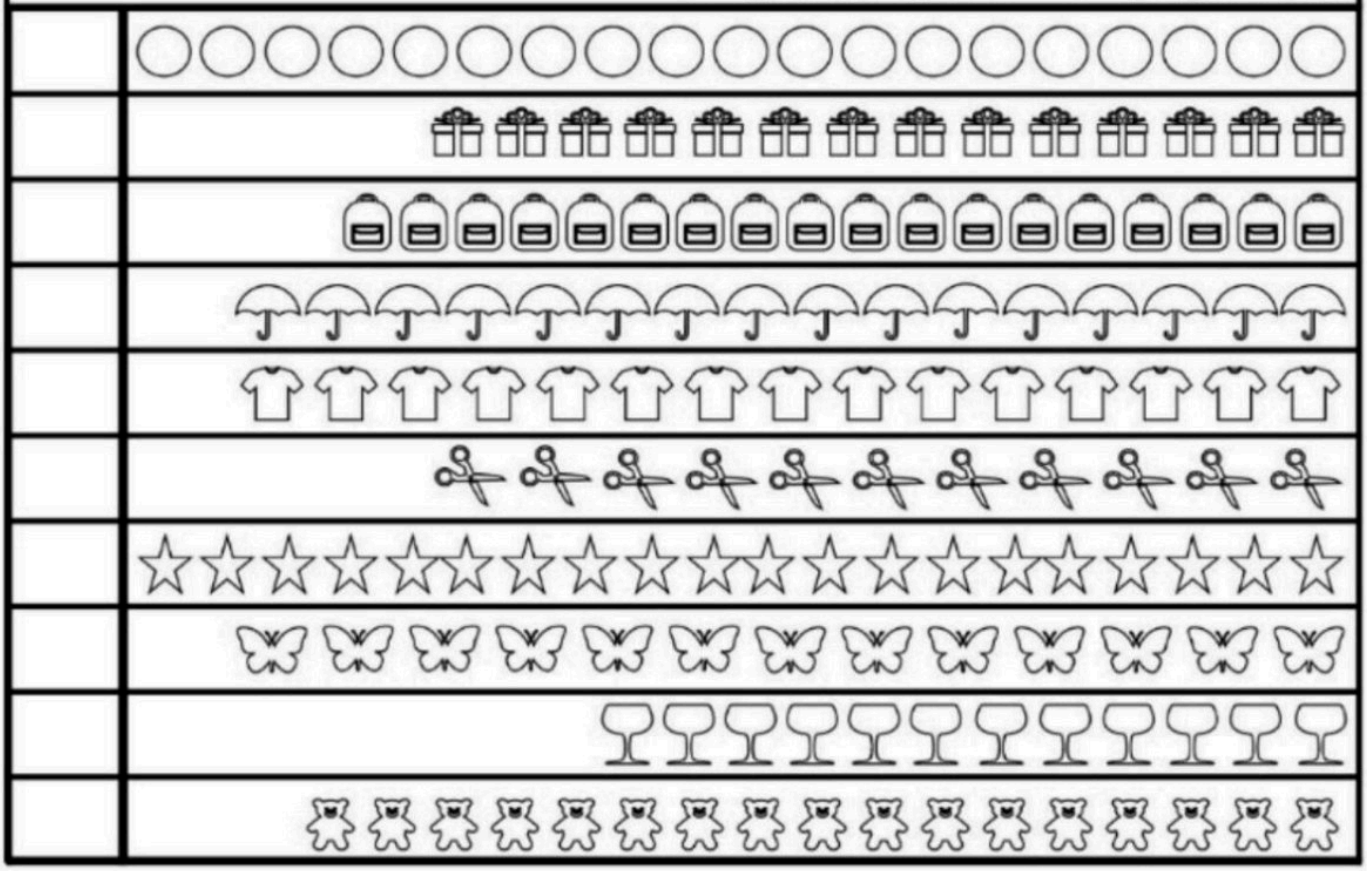

س٢-أعد الأشياء في كل مجموعة وأكتب عددها، ثم أحوط المجموعة الأكثر:

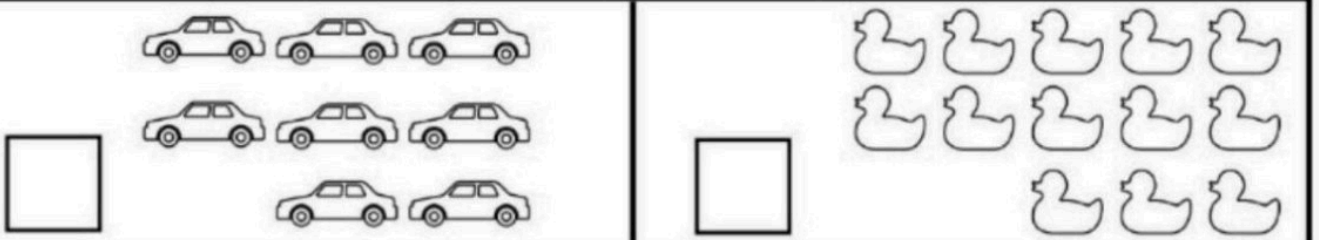

س٣:أكتب العدد المغطى بورق الشجر في الفراغ:



		اختبار : مادة الرياضيات فصل: الجمع للصف: الأول ابتدائي لعام ١٤٤
الإسم :		الصف : أولى / .....

س١: أكتب جملة الجمع .

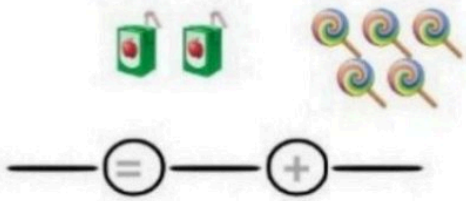

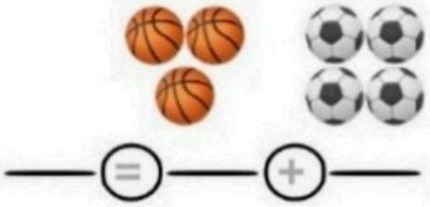

س٢: أوجد ناتج الجمع .



٦ + ٠ = ____

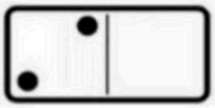

٠ + ٢ = ____

س٣: أكتب رقمين لأكون مجموعاً يساوي الأعداد التالية :

تَكْوِينُ الْعَدَدِ ٥				
	زائِد		يُساوِي	النّاتِجُ
____	+	____	=	٥

تَكْوِينُ الْعَدَدِ ١٠				
	زائِد		يُساوِي	النّاتِجُ
____	+	____	=	١٠

س٤: أكتب الأعداد ، ثم أجد ناتج الجمع :



____ + ____ = ____

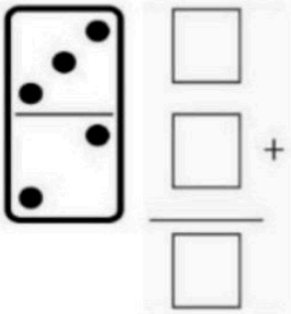

مراجعة الفترة الأولى	للصف: الأول الابتدائي	الفصل الدراسي الأول لعام ١٤٤٨هـ	
الاسم:..... الصف أول/			٢٠

س١: حوط الشكل الذي يشترك مع المثلث داخل الإطار في أكثر من خاصية :



س٢: صل بخط بين عناصر المجموعتين المتقابلتين،
ثم حوط الصورة التى بها عدد المجموعتان متساويان هى:





س٣: صل بخط بين عناصر المجموعتين المتقابلتين، ثم حوط المجموعة التي عدد عناصرها أكثر :



س٤: صل بخط بين عناصر المجموعتين المتقابلتين ثم حوط المجموعة التي عناصرها أقل:



س٥: عد الكرات داخل كل وعاء ثم أكتب عددها في المربع:

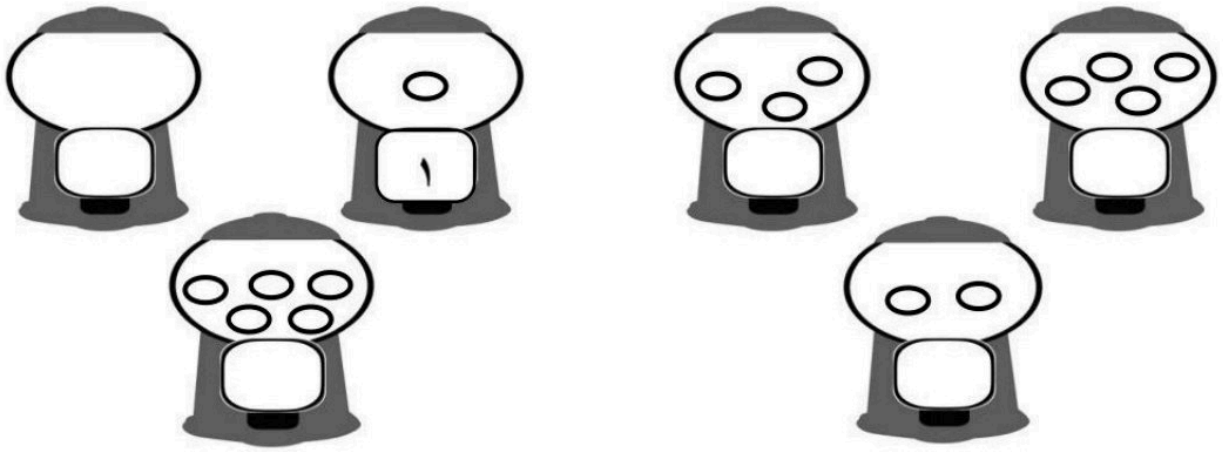

س٦: اكتب الأرقام من الواحد الى الخمسة: -

		٣			٠

س٧: عدد أصابع الإنسان في اليد الواحدة =



٢ ، ٣ ، ٤ ، ٥

س٨: عدد القطط في الصندوق =



٠ ، ١ ، ٢ ، ٣

س٩: ضع علامة X على الدب الذي في الوسط :-



س١٠: حوط البالون الذي يقع فوق الشجرة ، وضع ✕ على البالون الذي يقع تحت الشجرة:



س١١: حوط الحيوان الذي يسير قبل الآخرين و X على الحيوان الذي يسير بعد الآخرين:



س١٢: حوط الشكل التالي ف النمط المعطى :



معلم المادة: عادل الأحمري

موقع منهجي
mnhaji.com