تم تحميل وعرض المادة من

موقع كتبي



www.kottby.net

موقع كتبي يعرض لكم الكتب الدراسية الطبعة الجديدة
وحلولها، وشرح للمناهج الدراسية، توزيع المناهج، تحاضير،
أوراق عمل، نماذج إختبارات عرض مباشر وتحميل PDF

حمل التطبيق من هنا

احصل عليه من Google Play
تنزيل من App Store
احصل عليه من AppGallery

موقع منهجي
mnhaj.com

اختبار الفترة الثانية للفصل الدراسي الأول للعام 1448هـ للصف الثاني لمادة العلوم

الاسم: ..... الصف 2/

السؤال الأول : اختار الإجابة الصحيحة :

1- موطن حـار وجـاف يسمى :		
الصحراء	المحيط	الغابة
2- من حيوانات الصحراء الحارة :		
الدب القطبي	الجمل	السمكة
3- " المكان الذي تعيش فيه المخلوقات الحية وتجد غذائها "		
الفريسة	المفترس	الموطن
4- حيوان يصطاد حيوانات أخرى ليتغذى عليها يسمى :		
المفترس	البيئة	الموطن
5-موطن الدب القطبي هو :		
حار وجاف	بارد وثلوج	عشبي رطب
6- السنجاب والغزال ونقار الخشب من حيوانات :		
المحيط	الصحراء	الغابة
7- " من أشكال اليابسة"		
الجبال	الانهار	المحيطات
8- موطن تتساقط فيه الأمطار بشكل يومي تقريباً:		
القطب المتجمد	الغابات المطيرة	الصحراء
9- الأمطار من أمثلة الماء :		
المالح	السطحي	العذب
10- هو أرض منخفضة واقعة بين ارتفاعين :		
الوادي	الجبل	التل
11- هو تجمع كبير وعميييق من المياة المالحة:		
النهر	المحيط	الوادي
12- ترتيب يوضح تتابع الذي يحصل عليه المخلوق الحي على غذائه :		
مفترس	الفريسة	السلسلة الغذائيّة
13- في السلسلة الغذائية التالية يتغذا الأرنب على : 		
الجزر	الذئب	الاسد

السؤال الثاني : اسمي المواطن التالية (الغابة ، الصحراء ، القطب المتجمد) :







1-.....

2-.....

3-.....

السؤال الثالث: ارتب السلسلة الغذائية التالية :









تمنياتي للجميع بدوام التفوق والنجاح

معلمات المادة: سارة مباركي & رانيا الحربي

موقع منهجي
mnhaji.com

نموذج الإجابة

اختبار الفترة الثانية للفصل الدراسي الأول للعام 1448هـ للصف الثاني لمادة العلوم

الاسم: ..... الصف 2/

السؤال الأول : اختار الإجابة الصحيحة :

1- موطن حـار وجـاف يسمى :

الصحراء	المحيط	الغابة

2- من حيوانات الصحراء الحارة :

الدب القطبي	**الجمل**	السمكة

3- " المكان الذي تعيش فيه المخلوقات الحية وتجد غذائها "

الفريسة	المفترس	**الموطن**

4- حيوان يصطاد حيوانات أخرى ليتغذى عليها يسمى :

المفترس	البيئة	الموطن

5-موطن الدب القطبي هو :

حار وجاف	**بارد وثلوج**	عشبي رطب

6- السنجاب والغزال ونقار الخشب من حيوانات :

المحيط	الصحراء	**الغابة**

7- " من أشكال اليابسة"

الجبال	الانهار	المحيطات

8- موطن تتساقط فيه الأمطار بشكل يومي تقريباً:

القطب المتجمد	**الغابات المطيرة**	الصحراء

9- الأمطار من أمثلة الماء :

المالح	السطحي	**العذب**

10- هو أرض منخفضة واقعة بين ارتفاعين :

الوادي	الجبل	التل

11- هو تجمع كبير وعميييق من المياة المالحة:

النهر	**المحيط**	الوادي

12- ترتيب يوضح تتابع الذي يحصل عليه المخلوق الحي على غذائه :

مفترس	الفريسة	**السلسلة الغذائيّة**

13- في السلسلة الغذائية التالية يتغذا الأرنب على :



الجزر	الذئب	الاسد

موقع منهجي
mnhaji.com

السؤال الثاني : اسمي المواطن التالية (الغابة ، الصحراء ، القطب المتجمد) :







القطب المتجمد
1-.....

الصحراء
2-.....

الغابة
3-.....

السؤال الثالث: ارتب السلسلة الغذائية التالية :





2 ← 1 ← 3

تمنياتي للجميع بدوام التفوق والنجاح

موقع منهجي
mnhaji.com

موقع منهجي
mnhaji.com

٢٠

اختبار الفترة الثانية لمادة العلوم للصف الثاني الفصل الدراسي الأول ١٤٤٨هـ

اسم الطالب / ة ..... الصف:

(أ) نضع علامة (√) أمام العبارات الصحيحة وعلامة (✗) أمام العبارات الخاطئة :

(1) الموطن هو مكان تعيش فيه المخلوقات الحية . ( )

(2) تبدأ معظم سلاسل الغذاء بالشمس . ( )

(3) المخلوقات التي تعيش في الصحراء تحتاج الى كثير من الماء . ( )

(4) نباتات المنطقة القطبية صغيرة وقصيرة لتحتمي من الرياح . ( )

(5) للنباتات الصحراوية سيقان وأوراق تخزن الماء. ( )

(6) المفترس حيوان يصطاد حيوانات أخرى ليتغذى عليها . ( )

ب) نرتب السلسلة الغذائية من (١- ٤) :






....

(ج) صل المفردة العلمية بالعبارة المناسبة لها:

الغابة المطيرة	موطن جاف حار قليل الامطار
الصحراء	موطن تتساقط فيه الامطار كل يوم
الفريسة	الذي يصطاده الحيوان المفترس

(د) أى العبارات التالية تصف الموطن اللذى توضحه الصورة ؟

أ- عشبي رطب ب بارد ثلج

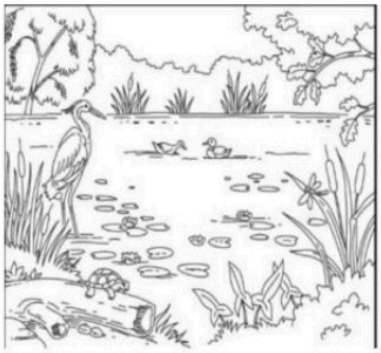

تمنياتي لكم بالتوفيق والنجاح

معلمة المادة / أسرار الدوسري مديرة المدرسة/ رانية الفاضل

موقع منهجي
mnhaji.com

نموذج الإجابة

ـــــ
٢٠

اختبار الفترة الثانية لمادة العلوم للصف الثاني الابتدائي الفصل الدراسي الاول ١٤٤٨هـ

اسم الطالب / ة ..... الصف:

(أ) نضع علامة (√) أمام العبارات الصحيحة وعلامة (✗) أمام العبارات الخاطئة :

(1) الموطن هو مكان تعيش فيه المخلوقات الحية . (✓)

(2) تبدأ معظم سلاسل الغذاء بالشمس . (✓)

(3) المخلوقات التي تعيش في الصحراء تحتاج الى كثير من الماء . (✗)

(4) نباتات المنطقة القطبية صغيرة وقصيرة لتحتمي من الرياح (✓)

(5) للنباتات الصحراوية سيقان وأوراق تخزن الماء. (✓)

(6) المفترس حيوان يصطاد حيوانات أخرى ليتغذى عليها . (✓)

ب) نرتب السلسلة الغذائية من (١- ٤) :



٤ ١ ٣ ٢

(ج) صل المفردة العلمية بالعبارة المناسبة لها:

الغابة المطيرة	موطن جاف حار قليل الامطار
الصحراء	موطن تتساقط فيه الامطار كل يوم
الفريسة	الذي يصطاده الحيوان المفترس

موقع منهجي
mnhaji.com

(د) أي العبارات التالية تصف الموطن اللذي توضحه الصورة ؟

أ- عشبي رطب　　ب بارد ثلج

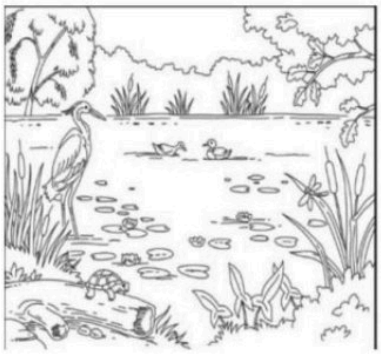

موقع منهجي
mnhaji.com
تمنياتي لكم بالتوفيق والنجاح

معلمة المادة / أسرار الدوسري　　مديرة المدرسة/ رانية الفاضل

موقع منهجي
mnhaji.com

اختبار العلوم الفترة الثانية للصف الثاني لعام ١٤٤٨ هـ

اسم الطالب/ـة : ..... الصف : .....

السؤال الأول / من خلال الصور التالية نحدد أشكال اليابسة :

(سهل – جبل – وادي – تلال)


.....


.....


.....


.....

السؤال الثاني /

صل مصادر المياه بطبيعتها :



السؤال الثالث /

اضع الكلمات التالية في مكانها المناسب:

(الماء – اليابسة)

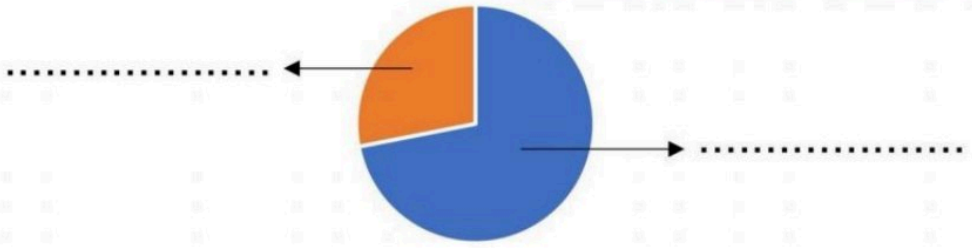
.....
.....

موقع منهجي
mnhaji.com

السؤال الرابع /



١. ما الدور الذي يمثله كلٌّ من الطائر والدودة في الصورة المقابلة في السلسلة الغذائية؟

- الدُّودةُ في الصُّورةِ المُقابِلةِ هيَ.....
- الطَّائرُ في الصُّورةِ المُقابِلةِ هُو.....

أُرَتِّبُ السِّلْسِلَةَ الْغِذَائِيَّةَ التَّالِيَةَ بِوَضْعِ الْأَرْقَامِ (١-٢-٣-٤)فِي الْمَكَانِ الْمُنَاسِبِ :

 ☐  ☐  ☐  ☐

٢- من الحيوانات التي تعيش في الصحراء:

  

٣- موطن بارد جداً وجاف:

المنطقة القطبية	الصجراء الحارة	الغابة

السؤال الخامس / نصل بين كل صورة والعبارة المناسبة :

تربة زراعية (سطحية) فيها كثير من الدبال

تربة طينية

تربة رملية







تمنياتي لكم بالتوفيق

معلمة المادة / عائشة أبو حكمة

اسم الطالب : .....

الصف : ٢ /

اختبار الفترة ٢ لمادة علوم الصف الثاني الفصل الدراسي الأول لعام ١٤٤٨ هـ

السؤال الأول : ضع علامة (✓) أمام العبارة الصحيحة و علامة (✗) أمام العبارات الخاطئة ؟

١- تحتاج الحيوانات للماء و الغذاء و الهواء و المأوى .	( )
٢- تقوم الجذور في النبات بصنع الغذاء .	( )
٣- الزهرة جزء النباتات الذي ينمو لينتج نباتا جديدا .	( )
٤- الموطن مكان يعيش فيه المخلوق الحي و يجد فيه حاجاته .	( )
٥- نباتات الصحاري الحارة صغيرة و قصيرة تنمو بالقرب من سطح الأرض	( )
٦- الغابة المطيرة موطن تسقط فيه الأمطار كل يوم تقريبا	( )

السؤال الثاني : رتب دورات حياة المخلوقات الحية التالية ؟



( ) ( ) ( ) ( )



( ) ( ) ( ) ( ) ( )

السؤال الثالث : أكمل الفراغات التالية بالكلمة المناسبة ؟

(الطريقة العلمية – دورة الحياة – البرمائيات – الفريسة – الصحراء الحارة)

١- ..... حيوان يصطاده حيوان مفترس .

٢- ..... تعيش فيها حيوانات الذئب و القط البري و العقرب .

٣- ..... تبين كيف ينمو المخلوق الحي و يعيش و يتكاثر ثم يموت .

٤- ..... ألاحظ – أسأل – أكون فرضية – اختبر الفرضية – النتائج .

٥- ..... تبدأ دورة حياتها في الماء و جلدها رطب .

السؤال الرابع : أختر الاجابة الصحيحة فيما يلي ؟

١- يشير السهم إلى .

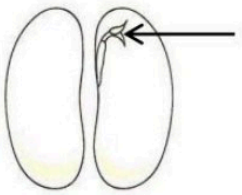

o غلاف البذرة
o جنين البذرة
o غذاء الجنين

٢- وظيفة الورقة .



o نقل الماء و الغذاء
o امتصاص الماء و الأملاح
o صنع الغذاء

٣- يستخدم الثعبان موطنه .



o للاختباء
o للنوم
o للمأوى

٤- يصنف الجراد من الحشرات لأن عدد أرجله .

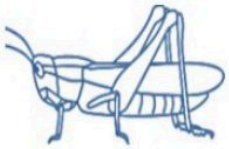

o ٥ أرجل
o ٦ أرجل
o ٧ أرجل

٥- تعيش النمور في موطن .



o الصحاري الحارة
o الغابة
o الغابة المطيرة

٦- يمثل الموطن المجاور .



o عشبي دافئ
o عشبي رطب
o بارد فيه ثلوج

السؤال الخامس : أجب عن الأسئلة التالية ؟



١- نوع الموطن : .....

٢- شيء غير حي : .....

٣- مخلوق حي : .....

٤- حيوان مفترس : ..... الفريسه : .....

٥- حشرة : .....

٦- كون سلسلة غذائية : .....

انتهت الأسئلة

موقع منهجي
mnhaji.com

بسم الله الرحمن الرحيم

أسئلة اختبار الشهري (٢) الفصل الدراسي الأول لعام ١٤٤٨ هـ المادة: علوم الصف: ٢/ب

اسم الطالب : ..... النموذج : (أ)

السؤال الأول: ضع دائرة حول الإجابة الصحيحة :

١) الجمل من : (الثدييات – الزواحف)
٢) يغطي أجسام الطيور : (الريش – الصوف)
٣) جزء النبات الموجود تحت التربة : (جذور – أوراق)
٤) تعيش في البر والماء تسمى: (البرمائيات – الطيور)

السؤال الثاني: أكمل الفراغات بما يناسبها: (حية - النباتات – المعادن – الأكسجين)

١) النَّبَاتَاتُ مَخْلُوقَاتٌ .....، وَلَكِنْ، لَيْسَ مِنَ السَّهْلِ عَلَيْنَا مُلاحَظَةُ ذَلِكَ.
٢) نحْتَاجُ إِلَى مُراقَبَةِ ..... فَتْرَةً مُعَيَّنَةً؛ لِكَيْ تُلاحِظَ أَنَّها تَنْمُو وَتَتَغَيَّرُ.
٣) ..... أَجْزَاءٌ صُلْبَةٌ غَيْرُ حَيَّةٍ مِنَ التربة .
٤)..... هو الغاز الذي ينفسة الإنسان والحيوان ليعيشا.

السؤال الثالث: صل الكلمة بما يناسبها

الثدييات	البرمائيات	الطيور	الأسماك






السؤال الثالث) ضع علامة (✔) أمام العبارة الصحيحة وعلامة (✘) أمام العبارة الخاطئة :

١	الزهرة هي الجزء الذي ينمو ويصبح نباتا جديدا	( )
٢	الزواحف تغطي أجسامها الريش	( )
٣	دورة الحياة تبين كيف ينمو المخلوق الحي ويعيش ويتكاثر ويموت	( )
٤	بعض الحيوانات سميت بالفقاريات لوجود العمود الفقري	( )
٥	الثدييات تلد وترضع صغارها الحليب ويغطي جسمها الشعر	( )

السؤال الرابع: رتب الصور التالية التي تظهر دورة حياة نمو نبات الفاصولياء مستخدما الأرقام من ١ – ٤ ::






١٥ درجة

مع تمنياتي لكم بالتوفيق والنجاح

موقع منهجي
mnhaji.com

رتبي خطوات الطريقة العلمية التي يستخدمها العلماء بالتسلسل :

أستنتج	أسأل	أضع خطة	ألاحظ
.....	.....	.....	.....
أسجل النتائج	أتبع الخطة	أتوقع	أعيد التجربة
.....	.....	.....	.....

لوني الدوائر التي تفسر أن النباتات مخلوقات حية:

تنمو

تتحدث

تتكاثر

تتحرك من مكانها

تتنفس

أضع علامة (✓)أمام العبارة الصحيحة وعلامة (✗) أمام العبارة الخاطئة :

١ـ تحتاج النباتات لضوء الشمس في النمو ( )

٢- يسمح الساق بانتقال الماء والغذاء من خلاله إلى باقي أجزاء النبتة ( )

٣- تساعد الأوراق على صنع الغذاء ( )

٤- تقوم الجذور بتثبيت النبتة في التربة ( )

٥- البذرة هي جزء النبات الذي ينمو ويصير نباتًا جديدًا ( )

٦- الأوراق هي المسؤولة عن صنع الغذاء بنفسه ( )

٧- الحشرات تعتبر من فصيلة اللافقاريات ( )

٨- النباتات مخلوقات حية ( )

موقع منهجي
mnhaji.com

اكملي الفراغ بالعبارات المناسبة :

١- يحتاج النبات لكي ينمو ويتغير

إلى.....،.....،.....

٢-يطلق النبات عند صنع الغذاء غاز.....

٣-تقوم .....بتثبيت النبات في التربة

٤-تنمو .....وتصير نباتا جديدا

أكملي العبارات التالية بالكلمات المناسبة :

الزهرة ـ حبوب اللقاح ـ البذرة

١- تنتج الزهرة مسحوق يسمى.....يساعد على إنتاج البذور.

٢- .....هي التي تكون البذور والثمار في النبات .

٣- .....هي جزء النبات الذي ينمو ويصير نباتا جديدا .

اكتبي الرقم المناسب من العمود (أ) أمام الإجابة الصحيحة من العمود (ب):

	أ
١	الرياح
٢	الثمرة
٣	البذرة

	ب
	تحمي البذرة التي بداخلها
	لها أغلفة تحميها من الجفاف
	تساعد على نقل حبوب اللقاح

أصل كل صورة بما يناسبها :









برمئيات

أسماك

طيور

زواحف

حشرات

أرتب دورة حياة نبات الفاصوليا من خلال الصور



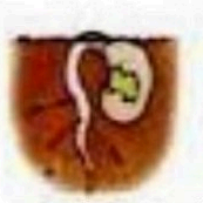





أرتب مراحل دورة حياة الضفدع بالتسلسل خلال الصور :









أضع علامة صح في المربع المناسب :

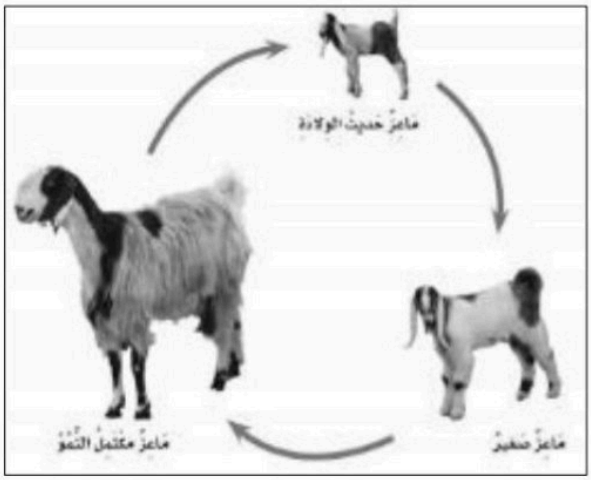

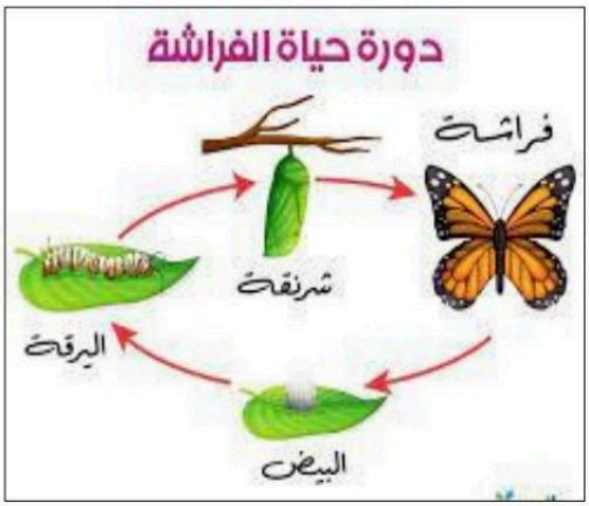

*الصغير يشبه آبائه ( )	*الصغير يشبه آبائه ( )
*يخرج الصغير من البيضة ( )	*يخرج الصغير من البيضة ( )
*يتحول شكل الصغير خلال دورة حياته( )	*يتحول شكل الصغير خلال دورة حياته( )
*يعتبر الحيوان من الفقاريات ( )	*يعتبر الحيوان من الفقاريات ( )

أكمل العبارات بكلمات مناسبة من القائمة :

غذاء ــ ضوء الشمس ـ للاختباء ـ حيوانات

١ـ في الموطن تجد الحيوانات ماتحتاج إليه من ماء و .....

٢ـ تحتاج النباتات في مواطنها إلى .....والماء

٣ـ تتغذى بعض الحيوانات على.....أخرى

٤ـ تستخدم الحيوانات موطنها.....والنوم

موقع منهجي
mnhaji.com

ضعي إشارة (×) حسب الصفة المناسبة للحيوانات التالية

الحيوان	تلد	تبيض	لها عمود فقري	ليس لها عمود فقري
				
				
				
				
				

ضعي علامة صح أمام المدلول المناسب:

	أمطارها يومية	تعيش فيها الدببة السوداء والطيور	تتوفر فيها الأمطار	أشجارها عالية
الغابة				
الغابة المطيرة				

أرتب السلسة الغذائية من خلال الصور :








حددي الفريسة والمفترس في السلسلة الغذائية التالية :

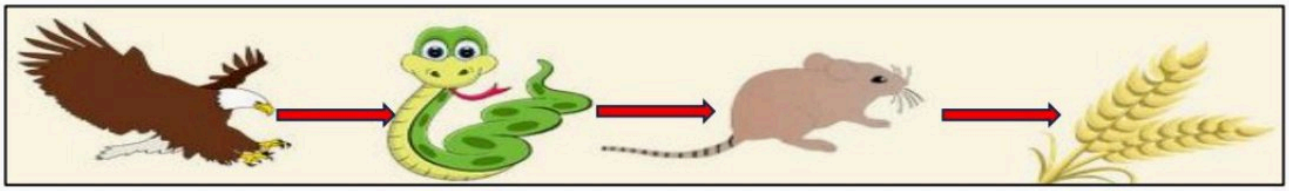

الفأر	○ فريسة ○ مفترس
المفترس	○ فريسة ○ مفترس

اختاري الإجابة الصحيحة:

١- موطن حار جاف ..... (الغابة – الصحراء الحارة)

٢- نباتات..... صغيرة وقصيرة قريبة من سطح الأرض

(الصحراء- المنطقة القطبية)

أصل بين أسم البيئة والصورة المناسبة لها :









الغابة الممطرة

الصحراء الحارة

الغابة

الصحراء الباردة

أكتب المصطلح بجوار التعريف المناسب :

الجبل – الوادي – التلال – السهل

١) منطقة منبسطة وواسعة .....

٢) منطقة مرتفعة جدا من اليابسة .....

٣) مناطق مرتفعة ولكن أقل ارتفاع من الجبال .....

٤) أرض منخفضة من الجبال والتلال.....

صلي بين الكلمة من (أ) والصورة المناسبة من (ب) فيما يلي :

(أ)	(ب)
الجبل	
الوادي	
السهول	

موقع منهجي
mnhaj.com

أكملي العبارات الآتية بالكلمات المناسبة :

العذب – الأمطار – المحيط – الماء - الأنهار

١/ لا تستطيع المخلوقات الحية العيش بدون .....

٢/ الماء ..... هو الماء غير المالح ويوجد في البحيرات و .....

٣/ .....تجمع كبير وعميق من الماء المالح

٤/ من مصادر الماء العذب ماء.....

ضعي علامة صح أو خطأ أمام العبارات التالية :

١/ تغطي المحيطات ثلاث أربع الكرة الأرضية ( )

٢/ تستطيع الحيوانات الشرب من ماء مالح. ( )

٣/ يمكن للأسماك أن تعيش بدون ماء. ( )

٤/ من مصادر الماء العذب مياه الأبار ( )

ضعي علامة صح أو خطأ أمام الصور التالية :








أصل كل نوع من أنواع التربة بصورته :

التربة طينية	التربة الرملية	التربة زراعية

