تم تحميل وعرض المادة من

موقع كتبي



www.kottby.net

موقع كتبي يعرض لكم الكتب الدراسية الطبعة الجديدة
وحلولها، وشرح للمناهج الدراسية، توزيع المناهج، تحاضير،
أوراق عمل، نماذج إختبارات عرض مباشر وتحميل PDF

حمل التطبيق من هنا

احصل عليه من AppGallery
تنزيل من App Store
احصل عليه من Google Play

المـــادة : رياضيات
الصـف : الرابع
منتصف العام الدراســي : ١٤٤٨هـ
الزمن : حصة دراسية

تحريري
٢٠

اسم الطالب : ..... فصل / .....

السؤال الأول: اختر الاجابة الصحيحة مما يأتي:

(١)	ما القيمة المنزلية للرقم ٥ في العدد : ٤٥٨٢٠٠٧؟			
	(أ) ٥٠٠٠	(ب) ٥٠٠٠٠	(جـ) ٥٠٠٠٠٠	(د) ٥٠٠٠٠٠٠
(٢)	الصيغة القياسية للعدد التالي ٨ + ٢٠ + ٤٠٠ + ٥٠٠٠٠ + ٧٠٠٠٠٠ هي:			
	(أ) ٧٥٠٤٢٨	(ب) ٧٥٤٢٨	(جـ) ٧٠٥٤٢٨	(د) ٧٤٥٠٠٢٨
(٣)	١٣٠٥٢ ..... ١٣٥٢٠			
	(أ) >	(ب) <	(جـ) =	(د) ≤
(٤)	قدر ناتج: ١٩٢ + ٧٢٠٧ لأقرب مائة:			
	(أ) ٧٢٠٠	(ب) ٧٤٠٠	(جـ) ٨٠٠٠	(د) ٩٠٠٠
(٥)	العدد ٥٨٦٤٣٢٥ لأقرب عشرة آلاف			
	(أ) ٥٨٧٠٠٠٠	(ب) ١٠٠٠٠٠٠	(جـ) ٥٨٦٠٠٠٠	(د) ٥٨٦٥٠٠٠
(٦)	خاصية الجمع المستعملة في: ٤٢ + ٠ = ٤٢			
	(أ) الابدال	(ب) التجميع	(جـ) العنصر المحايد الجمعي	(د) المحايد الضربي
(٧)	اشترى خالد ثوبًا بـ ١٢٨ ريال وشماغ بـ ٨٥ ريال وحقيبة بـ ١٦٧ ريال قدر (مستعملاً التقريب لأقرب ١٠٠) كم دفع خالد لجميع مشترياته ؟			
	(أ) ٢٠٠	(ب) ٤٠٠	(جـ) ٣٠٠	(د) ٣٥٠
(٨)	صندوق يحتوي علي عشر بطاقات مرقمه من ١ – ١٠ سُحبت بطاقة من الصندوق دون النظر إليها . صف احتمال سحب بطاقة عليها عدد فردي ؟			
	(أ) مؤكد	(ب) أكثر احتمالاً	(جـ) متساوي الامكانية	(د) مستحيل

يتبع

(٩)	كم يزيد عدد الأهداف في المباراة الرابعة عن الأولى ؟	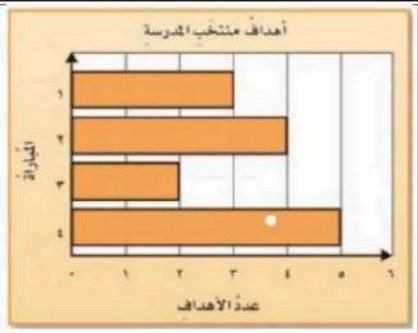
	(أ) ١ (جـ) ٢	
	(ب) ٣ (د) ٤	

(١٠)	في مكتبة المدرسة ١٧ كرسي وفي المطعم ٤٥ كرسي. أي مما يأتي يمثل عدد الكراسي الكلية:			
	(أ) ١٧ + ٤٥	(ب) ١٧ − ٤٥	(جـ) ١٧ × ٤٥	(د) ١٧ ÷ ٤٥

السؤال الثاني:

١) **أوجد ناتج**

٤٧٩
− ٢٩٢
.....

٢) **قدر ناتج**

..... ٢٢
..... + ٦٣ +
.....

٣) **رتب تصاعديًا:** ١٢٣٤٥٦٧ ، ١٢٣٤٥٦ ، ١٢٣٤٥٦٧٨٩

..... ، ..... ، .....

السؤال الثالث: أجب عما يأتي

١) لدى أحمد مزرعة مربعة الشكل أراد عمل سياج لها إذا كان طول ضلع المزرعة ٢٠ متر كم متر يحتاج لعمل السياج ؟

.....

٢) عدد سور القرآن الكريم ١١٤ سورة ، حفظت فاطمة ٤٧ سورة. كم سورة عليها أن تحفظ لتتم حفظ القرآن ؟

.....

(((انتهت الأسئلة)))

موقع منهجي
mnhaji.com

المـــادة : رياضيات
الصـف : الرابع
منتصف العام الدراســي : ١٤٤٨هـ
الزمن : حصة دراسية

تحريري

نموذج الإجابة

اسم المعلم / .....

السؤال الأول: اختر الاجابة الصحيحة مما يأتي:

(١)	ما القيمة المنزلية للرقم ٥ في العدد : ٤٥٨٢٠٠٧؟			
	(أ) ٥٠٠٠	(ب) ٥٠٠٠٠	(ج) ٥٠٠٠٠٠	(د) ٥٠٠٠٠٠٠
(٢)	الصيغة القياسية للعدد التالي ٨ + ٢٠ + ٤٠٠ + ٥٠٠٠٠ + ٧٠٠٠٠٠ هي:			
	(أ) ٧٥٠٤٢٨	(ب) ٧٥٤٢٨	(ج) ٧٠٥٤٢٨	(د) ٧٤٥٠٠٢٨
(٣)	١٣٠٥٢ ..... ١٣٥٢٠			
	(أ) >	(ب) <	(ج) =	(د) ≤
(٤)	قدر ناتج: ١٩٢ + ٧٢٠٧ لأقرب مائة:			
	(أ) ٧٢٠٠	(ب) ٧٤٠٠	(ج) ٨٠٠٠	(د) ٩٠٠٠
(٥)	العدد ٥٨٦٤٣٢٥ لأقرب عشرة آلاف			
	(أ) ٥٨٧٠٠٠٠	(ب) ١٠٠٠٠٠٠	(ج) ٥٨٦٠٠٠٠	(د) ٥٨٦٥٠٠٠
(٦)	خاصية الجمع المستعملة في: ٤٢ + ٠ = ٤٢			
	(أ) الابدال	(ب) التجميع	(ج) العنصر المحايد الجمعي	(د) المحايد الضربي
(٧)	اشترى خالد ثوبًا بـ ١٢٨ ريال وشماغ بـ ٨٥ ريال وحقيبة بـ ١٦٧ ريال قدر (مستعملاً التقريب لأقرب ١٠٠) كم دفع خالد لجميع مشترياته ؟			
	(أ) ٢٠٠	(ب) ٤٠٠	(ج) ٣٠٠	(د) ٣٥٠
(٨)	صندوق يحتوي علي عشر بطاقات مرقمه من ١ – ١٠ سُحبت بطاقة من الصندوق دون النظر إليها . صف احتمال سحب بطاقة عليها عدد فردي ؟			
	(أ) مؤكد	(ب) أكثر احتمالاً	(ج) متساوي الامكانية	(د) مستحيل

يتبع

موقع منهجي
mnhaji.com

(٩) كم يزيد عدد الأهداف في المباراة الرابعة عن الأولى ؟

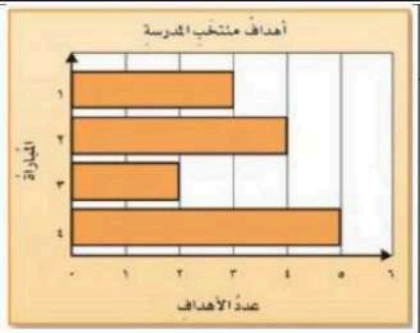

(أ) ١	(ج) ٢
(ب) ٣	(د) ٤

(١٠) في مكتبة المدرسة ١٧ كرسي وفي المطعم ٤٥ كرسي. أي مما يأتي يمثل عدد الكراسي الكلية:

(أ) ١٧ + ٤٥	(ب) ١٧ − ٤٥	(ج) ١٧ × ٤٥	(د) ١٧ ÷ ٤٥

١٠

السؤال الثاني:

١) أوجد ناتج

٤٧٩
− ٢٩٢
١٨٧

٢) قدر ناتج

٢٠ ٢٢
٦٠ + ٦٣ +
٨٠

٣) رتب تصاعديًا: ١٢٣٤٥٦٧ ، ١٢٣٤٥٦ ، ١٢٣٤٥٦٧٨٩

١٢٣٤٥٦ ، ١٢٣٤٥٦٧ ، ١٢٣٤٥٦٧٨٩

٦

السؤال الثالث: أجب عما يأتي

١) لدى أحمد مزرعة مربعة الشكل أراد عمل سياج لها إذا كان طول ضلع المزرعة ٢٠ متر كم متر يحتاج لعمل السياج ؟

طول السياج (محيط المربع) = ٢٠ × ٤ = ٨٠ م

موقع منهجي
mnhaji.com

٢) عدد سور القرآن الكريم ١١٤ سورة ، حفظت فاطمة ٤٧ سورة. كم سورة عليها أن تحفظ لتتم حفظ القرآن ؟

. عدد السور التي عليها أن تحفظها= ١١٤ − ٤٧ = ٦٧ سورة.

٤

(((انتهت الأسئلة)))

الدرجة ٢٠

توقيع ولي الأمر.....

اختبار منتصف الفصل الدراسي الأول لمادة الرياضيات للصف الرابع الابتدائي للعام الدراسي ١٤٤٨ هـ

الاسم / ..... الرابع /.....

السؤال الأول : اختر الإجابة الصحيحة فيما يلي : ١٠

١- القيمة المنزلية للرقم ٢ في العدد ٥٢٣١٩٦هي :

أ	٢٠	ب	٢٠٠	ج	٢٠٠٠	د	٢٠٠٠٠

٢- يقول سامر أن عنوان شارعه يحتوي على الرقم ٣ في منزلة المئات ، أي مما يلي يمثل عنوان الشارع ؟

أ	١٣٦٨	ب	٢٤٣٧	ج	١٤٨٣	د	٣٨٦٥

٣- يكتب العدد (ثمانية ملايين وستمائة وثلاثةآلآف وسبعمائة وخمسون) بالصيغة القياسية كالتالي :

أ	٧٨٠٣٦٥٠	ب	٨٧٠٣٦٥٠	ج	٨٦٠٣٧٥٠	د	٦٨٠٣٧٠٥

٤- الرقم المناسب في الفراغ لتصبح الجملة التالية صحيحة هو (٧ + ٣٠ + ○ + ٥٠٠٠٠ = ٥٠٤٣٧)

أ	٥٠٠	ب	٤٠٠	ج	٤٠٠٠	د	٣٠٠

٥- الرمز الصحيح للمقارنة الذي يجعل الجملة ٢٣٤٧٦٥ ○ ٢٣٤٨٠٢ صحيحة هو :

أ	<	ب	>	ج	=	د	+

٦- العدد ٤٦٧٨٤٩١ مقربا إلى أقرب مئة ألف هو :

أ	٤٧٠٠٠٠٠	ب	٤٠٠٠٠٠٠	ج	٤٦٠٠٠٠٠	د	٤٦٧٨٥٠٠

٧- تقدير ناتج ٣٤ + ٢٣ مقربا إلى أقرب عشرة يساوي :

أ	٥٠	ب	٧٠	ج	٨٠	د	٩٠

٨- تقدير ناتج ٨٩٤٨ - ٢٦١٤ مقربا إلى أقرب ألف يساوي :

أ	٤٠٠٠	ب	٥٠٠٠	ج	٦٠٠٠	د	٧٠٠٠

٩- العدد الذي يجعل الجملة التالية صحيحة هو (٣٢ + ○) + ١٥ = ٣٢ + (٢٦ + ١٥) :

أ	٣٢	ب	٢٦	ج	١٥	د	٤٧

١٠ - العدد الذي يزيد على العدد ٩٤٢٤٥ بمقدار ١٠٠٠ هو :

أ	٩٠٠٠٠	ب	٩٥٢٤٥	ج	٩٣٢٤٥	د	١٤٢٤٥

السوال الثاني : صل من العمود (أ) بما يناسبه من العمود (ب) بوضع الرقم أمامه : ٤

	(أ)		(ب)
١	٨ = ٠ + ٨		الابدال
٢	٢ + (٣ + ٩) = (٢ + ٣) + ٩		العنصر المحايد
٣	١٩ = ٠ - ١٩		طرح الصفر من عدد
٤	٢٣ + ١٧ = ١٧ + ٢٣		التجميع
			طرح العدد من نفسه

السؤال الثالث : أجب عن المطلوب فيما يلي : ٦

أ) أكتب العدد التالي بالصيغة التحليلية :

٢٩٢٠٥

.....

ب) رتب الأعداد التالية من الأكبر إلى الأصغر

١٢٣٧٨ ، ١٢٧٨٣ ، ١٢٨٧٣ ، ١٣٨٧٢

..... ، ..... ، ..... ، .....

ج) أوجد ناتج ما يلي :

٣٩٤ + ١٨٤ = _____

٢٠٠٦ - ٥٣٦ = _____

د) إذا كان ثمن قميص ٣٤ ريال، وثمن الجورب ٦ ريالات . واشتريت الاثنين معًا، فكم يعيد إليك البائع إذا أعطيته ٥٠ ريالاً؟

.....

.....

معلم / ة المادة :

مدير / ة المدرسة :

موقع منهجي
mnhaji.com

نموذج الإجابة

الدرجة ٢٠

توقيع ولي الأمر.....

اختبار منتصف الفصل الدراسي الأول لمادة الرياضيات للصف الرابع الابتدائي للعام الدراسي ١٤٤٨ هـ

الاسم / ..... الرابع /.....

السؤال الأول : اختر الإجابة الصحيحة فيما يلي : ١٠

١- القيمة المنزلية للرقم ٢ في العدد ٥٢٣١٩٦هي :

أ	٢٠	ب	٢٠٠	ج	٢٠٠٠	د	٢٠٠٠٠

٢- يقول سامر أن عنوان شارعه يحتوي على الرقم ٣ في منزلة المئات ، أي مما يلي يمثل عنوان الشارع ؟

أ	١٣٦٨	ب	٢٤٣٧	ج	١٤٨٣	د	٣٨٦٥

٣- يكتب العدد (ثمانية ملايين وستمائة وثلاثةآلآف وسبعمائة وخمسون) بالصيغة القياسية كالتالي :

أ	٧٨٠٣٦٥٠	ب	٨٧٠٣٦٥٠	ج	٨٦٠٣٧٥٠	د	٦٨٠٣٧٠٥

٤- الرقم المناسب في الفراغ لتصبح الجملة التالية صحيحة هو (٧ + ٣٠ + ● + ٥٠٠٠٠ = ٥٠٤٣٧)

أ	٥٠٠	ب	٤٠٠	ج	٤٠٠٠	د	٣٠٠

٥- الرمز الصحيح للمقارنة الذي يجعل الجملة ٢٣٤٧٦٥ ● ٢٣٤٨٠٢ صحيحة هو :

أ	>	ب	<	ج	=	د	+

٦- العدد ٤٦٧٨٤٩١ مقربا إلى أقرب مئة ألف هو :

أ	٤٧٠٠٠٠٠	ب	٤٠٠٠٠٠٠	ج	٤٦٠٠٠٠٠	د	٤٦٧٨٥٠٠

٧- تقدير ناتج ٣٤ + ٢٣ مقربا إلى أقرب عشرة يساوي :

أ	٥٠	ب	٧٠	ج	٨٠	د	٩٠

٨- تقدير ناتج ٨٩٤٨ - ٢٦١٤ مقربا إلى أقرب ألف يساوي :

أ	٤٠٠٠	ب	٥٠٠٠	ج	٦٠٠٠	د	٧٠٠٠

٩- العدد الذي يجعل الجملة التالية صحيحة هو (٣٢ + ●) + ١٥ = ٣٢ + (٢٦ + ١٥) :

أ	٣٢	ب	٢٦	ج	١٥	د	٤٧

١٠ - العدد الذي يزيد على العدد ٩٤٢٤٥ بمقدار ١٠٠٠ هو :

أ	٩٠٠٠٠	ب	٩٥٢٤٥	ج	٩٣٢٤٥	د	١٤٢٤٥

موقع منهجي
mnhaji.com

السوال الثاني : صل من العمود (أ) بما يناسبه من العمود (ب) بوضع الرقم أمامه : ٤

	(أ)		(ب)
١	٨ = ٠ + ٨	٤	الابدال
٢	٢ + (٣ + ٩) = (٢ + ٣) + ٩	١	العنصر المحايد
٣	١٩ = ٠ - ١٩	٣	طرح الصفر من عدد
٤	٢٣ + ١٧ = ١٧ + ٢٣	٢	التجميع
			طرح العدد من نفسه

السؤال الثالث : أجب عن المطلوب فيما يلي : ٦

أ) أكتب العدد التالي بالصيغة التحليلية :

٢٩٢٠٥ ٥ + ٢٠٠ + ٩٠٠٠ + ٢٠٠٠٠

ب) رتب الأعداد التالية من الأكبر إلى الأصغر

١٢٣٧٨ ، ١٢٧٨٣ ، ١٢٨٧٣ ، ١٣٨٧٢

٤ ، ٣ ، ٢ ، ١

ج) أوجد ناتج ما يلي :

٣ ٩ ٤	٢ ٠ ٠ ٦
+ ١ ٨ ٤	- ٥ ٣ ٦
٥٧٨	١٤٧٠

د) إذا كان ثمن قميص ٣٤ ريال، وثمن الجورب ٦ ريالات . واشتريت الاثنين معًا، فكم يعيد إليك البائع إذا أعطيته ٥٠ ريالاً؟

٣٤ + ٦ = ٤٠

٥٠ - ٤٠ = ١٠

معلم / ة المادة :

مدير / ة المدرسة :

موقع منهجي
mnhaji.com

اختبار منتصف الفصل الدراسي الأول (رياضيات) للصف الرابع الابتدائي للعام الدراسي ١٤٤٨ هـ

٢٠

اسم الطالب : .....

١) القيمة المنزلية للرقم الذي تحته خط ٨٢٠١٨٤٩ هي :

أ	٢٠٠	ب	٢٠٠٠	ج	٢٠٠٠٠	د	٢٠٠٠٠٠

٢) اكتب العدد التالي بالصيغة التحليلية :

٩٠١٢٦٥ = ...

٣) تكتب " سبعة ملايين وثلاث مئة وواحد وثمانون ألفا " بالصيغة القياسية :

أ	٧٨٣١٠٠٠	ب	٨١٣٧٠٠٠	ج	٧٣١٨٠٠٠	د	٧٣٨١٠٠٠

٤) قارن بين العددين مستعملا (< ، > ، =) :

٩٠١٥ ☐ ٩١٠٥ ٧٠٨٠٩ ☐ ٧٠٠٨٩ ٢٠٣٠٠١٨٩ ☐ ٢٠٣٠٠١٨٩

٥) رتب الأعداد التالية من الأصغر إلى الأكبر : ٣٤٥٦ ، ٤٣٥٦ ، ٣٤٦٥ ، ٦٥٤٣

..... ، ..... ، ..... ، .....

٦) قرب إلى أقرب عشرة :
٨١٢
.....

٧) قرب إلى أقرب مئة :
٨٩١
.....

٨) قرب إلى أقرب ألف :
٧٦٢١
.....

٩) اكتب العدد المناسب في الفراغ وحدد الخاصية :

☐ + ٥ = ٥ خاصية .....

٤٥ + ☐ = ١٨ + ٤٥ خاصية .....

(٢ + ٤) + ٩ = ٢ + (☐ + ٩) خاصية .....

١٠) قدر الناتج بالتقريب إلى أقرب مئة : ٥٦١ + ٢٣١

..... + ... = ...

١١) أوجد الناتج :

١٦٧ + ٧٢ = ...

٨٦٢٧ - ٣٤٤ = ...

١٢) زارت فاطمة حديقة الحيوانات مع أبيها وأمها، فإذا كان ثمن تذكرة الدخول ٤ ريالات للكبار، وريالين للصغار، فكم ريال دفع والد فاطمة ثمنًا لتذاكرِ الدخول ؟

أ	٤	ب	٦	ج	٨	د	١٠

نموذج الإجابة

اختبار منتصف الفصل الدراسي الأول (رياضيات) للصف الرابع الابتدائي للعام الدراسي ١٤٤٨ هـ

٢٠

اسم الطالب : .....

١) القيمة المنزلية للرقم الذي تحته خط ٨٢٠١٨٤٩ هي : ١

أ	ب	ج	د
٢٠٠	٢٠٠٠	٢٠٠٠٠	٢٠٠٠٠٠

٢) اكتب العدد التالي بالصيغة التحليلية : ٢

٩٠١٢٦٥ = ٥ + ٦٠ + ٢٠٠ + ١٠٠٠ + ٠ + ٩٠٠٠٠٠

٣) تكتب " سبعة ملايين وثلاث مئة وواحد وثمانون ألفا " بالصيغة القياسية : ١

أ	ب	ج	د
٧٨٣١٠٠٠	٨١٣٧٠٠٠	٧٣١٨٠٠٠	٧٣٨١٠٠٠

٤) قارن بين العددين مستعملا (< ، > ، =) : ٣

٩٠١٥ [<] ٩١٠٥ ٧٠٨٠٩ [>] ٧٠٠٨٩ ٢٠٣٠٠١٨٩ [=] ٢٠٣٠٠١٨٩

٥) رتب الأعداد التالية من الأصغر إلى الأكبر : ٣٤٥٦ ، ٤٣٥٦ ، ٣٤٦٥ ، ٦٥٤٣ ٢

٣٤٥٦ ، ٣٤٦٥ ، ٤٣٥٦ ، ٦٥٤٣

٦) قرب إلى أقرب عشرة : ٨١٢ → ٨١٠

٧) قرب إلى أقرب مئة : ٨٩١ → ٩٠٠

٨) قرب إلى أقرب ألف : ٧٦٢١ → ٨٠٠٠ ٣

٩) اكتب العدد المناسب في الفراغ وحدد الخاصية : ٣

٠ + ٥ = ٥ خاصية العنصر المحايد

٤٥ + ١٨ = ١٨ + ٤٥ خاصية الإبدال

(٢ + ٤) + ٩ = ٢ + (٤ + ٩) خاصية التجميع

موقع منهجي mnhaji.com

١٠) قدر الناتج بالتقريب إلى أقرب مئة : ٢

٥٦١ + ٢٣١

٦٠٠ + ٢٠٠ = ٨٠٠

١١) أوجد الناتج : ٢

١٦٧ + ٧٢ = ٢٣٩

٨٦٢٧ - ٣٤٤ = ٨٢٨٣

١٢) زارت فاطمة حديقة الحيوانات مع أبيها وأمها، فإذا كان ثمن تذكرة الدخول ٤ ريالات للكبار، وريالين للصغار، فكم ريال دفع والد فاطمة ثمنًا لتذاكرِ الدخول ؟ ١

أ	ب	ج	د
٤	٦	٨	١٠

الدرجة ٢٠

توقيع ولي الأمر .....

اختبار منتصف الفصل الدراسي الأول لمادة الرياضيات للصف الرابع الابتدائي للعام الدراسي ١٤٤٨ هـ

الاسم / ..... الرابع /.....

السؤال الأول : اختر الإجابة الصحيحة فيما يلي : ١٠

١ – الرقم ٥ في العدد ٥٣١٩٨٢ يقع في منزلة :

أ	المئات	ب	عشرات الألوف	ج	مئات الألوف	د	آحاد الملايين

٢ -ما العدد الذي قيمة الرقم ٤ فيه هي ٤٠٠٠٠ ؟

أ	٤٥٦١٧٣	ب	٨٠٦١٢٤	ج	٦١٤٠٠	د	٤٥٧٣٢

٣ -الرمز الصحيح للمقارنة بين العددين (٩ +٨٠ +٥٠٠ ◯ ٩ +٧٠٠) هو :

أ	>	ب	<	ج	=	د	+

٤ -أي مما يلي يمثل ترتيبا صحيحا من الأصغر إلى الأكبر:

أ	١٢٣٤، ٢٣١٤، ٢٢٩	ب	٢٩٩، ٢٣١٤، ١٢٣٤	ج	٢٩٩، ١٢٣٤، ٢٣١٤	د	٢٣١٤ ، ١٢٣٤، ٢٢٩

٥ - ما الرقم الذي يجعل الجملة العددية ٨٢٣٥٩ > ٥٩ ▢٨٢ صحيحة

أ	٢	ب	٣	ج	٤	د	٥

٦ -ناتج جمع ١٤ + ١٧ ٢٦ ذهنيا هو

أ	٥٧	ب	٦٧	ج	٤٧	د	٩٧

٧ - عندما نقرب العدد ٤٧٧٥٠٠٠ إلى أقرب مليون يكون الناتج هو :

أ	٤٠٠٠٠٠٠	ب	٥٠٠٠٠٠٠	ج	٤٧٠٠٠٠٠	د	٤٧٧٠٠٠٠

٨ - تقدير ناتج ٢٠٤ + ٤٧ مقربا الى أقرب عشرة يساوي :

أ	١٥٠	ب	٢٠٠	ج	٢٥٠	د	٣٥٠

٩- تقدير ناتج ٥٤١ - ١٣٤ مقربا الى أقرب مئة يساوي :

أ	١٠٠	ب	٢٠٠	ج	٣٠٠	د	٤٠٠

١٠ - العدد المختلف فيما يلي هو :

أ	١٠٠٠٠	ب	١٠ مئات	ج	عشرة آلاف	د	١٠٠ مئة

السؤال الثاني : ضع علامة (√) أمام العبارة الصحيحة وعلامة (X) أمام العبارة الخاطئة فيما يلي: ٤	
١ - الصيغة القياسية لـ ألف وتسع مئة واثنين وخمسين هي ١٩٢٥	
٢ - عندما تقريب العدد ١٤٤٥ إلى أقرب مئة يكون الناتج ٢٠٠٠	
٣ -الترتيب الصحيح لخطوات حل المسألة الأربع هي :افهم ، خطط ، حل ، تحقق	
٤- عندما أطرح أبدا دائما بمنزلة الآحاد	

السؤال الثالث :أجب عن المطلوب فيما يلي : ٦

أ) أكتب العدد التالي بالصيغة التحليلية :

٤٣٩٨٠

.....

ب) أكمل كل الجمل العددية التالية ،واذكر الخاصية التي استعملتها

١- ١٤ + ١٦ = ● + ١٤ خاصية (.....)

٢- (٤ + ●) + ٧ = ٤ + (٢ + ٧) خاصية (.....)

ج) أوجد ناتج ما يلي :

١ ٢ ٩ ٠	٦ ٠ ٤
+ ٦ ٩ ٣	- ٤ ٩ ٢
ـــــــــ	ـــــــــ

د) حدد هل المطلوب التقدير أم الإجابة الدقيقة ، ثم حل المسألة :

ركب فى حافلة المدرسة ١٨ طالب من الحى الأول و١٢ طالب من الحى الثانى و ١١ طالب من الحى الثالث، كم طالبًا تقريبًا ركب الحافلة ؟

.....

معلم ة المادة

موقع منهجي
mnhaji.com
Abu Sanad

مدير ة المدرسة

نموذج الإجابة

الدرجة ٢٠

توقيع ولي الأمر .....

اختبار منتصف الفصل الدراسي الأول لمادة الرياضيات للصف الرابع الابتدائي للعام الدراسي ١٤٤٨ هـ

الاسم / ..... الرابع /.....

السؤال الأول : اختر الإجابة الصحيحة فيما يلي : ١٠

١ – الرقم ٥ في العدد ٥٣١٩٨٢ يقع في منزلة :

أ	المئات	ب	عشرات الألوف	ج	مئات الألوف	د	آحاد الملايين

٢ -ما العدد الذي قيمة الرقم ٤ فيه هي ٤٠٠٠٠ ؟

أ	٤٥٦١٧٣	ب	٨٠٦١٢٤	ج	٦١٤٠٠	د	٤٥٧٣٢

٣ -الرمز الصحيح للمقارنة بين العددين (٩ +٨٠ +٥٠٠ ٩ +٧٠٠) هو :

أ	>	ب	<	ج	=	د	+

٤ -أي مما يلي يمثل ترتيبا صحيحا من الأصغر إلى الأكبر:

أ	١٢٣٤، ٢٣١٤، ٢٢٩	ب	٢٩٩، ٢٣١٤، ١٢٣٤	ج	٢٩٩، ١٢٣٤، ٢٣١٤	د	٢٢٩، ١٢٣٤ ، ٢٣١٤

٥ - ما الرقم الذي يجعل الجملة العددية ٨٢٣٥٩ > ٥٩ ٨٢ صحيحة

أ	٢	ب	٣	ج	٤	د	٥

٦ -ناتج جمع ١٤ + ١٧ + ٢٦ ذهنيا هو اعداد متتالية =٤٠ + ١٧ = ٥٧

أ	٥٧	ب	٦٧	ج	٤٧	د	٩٧

٧ - عندما نقرب العدد ٤٧٧٥٠٠٠ إلى أقرب مليون يكون الناتج هو :

أ	٤٠٠٠٠٠٠	ب	٥٠٠٠٠٠٠	ج	٤٧٠٠٠٠٠	د	٤٧٧٠٠٠٠

٨ - تقدير ناتج ٢٠٤ + ٤٧ مقربا الى أقرب عشرة يساوي :

٢٠٠ + ٥٠

أ	١٥٠	ب	٢٠٠	ج	٢٥٠	د	٣٥٠

٩- تقدير ناتج ٥٤١ - ١٣٤ مقربا الى أقرب مئة يساوي :

٥٠٠ - ١٠٠

أ	١٠٠	ب	٢٠٠	ج	٣٠٠	د	٤٠٠

١٠ - العدد المختلف فيما يلي هو :

أ	١٠٠٠٠	ب	١٠ مئات	ج	عشرة آلاف	د	١٠٠ مئة

١٠٠٠ = ١٠٠X١٠ ١٠ ٠٠٠ ١٠٠=١٠X١٠

موقع منهجي
mnhaji.com

السؤال الثاني : ضع علامة (√) أمام العبارة الصحيحة وعلامة (X) أمام العبارة الخاطئة فيما يلي: ٤	
١ - الصيغة القياسية لـ ألف وتسع مئة واثنين وخمسين هي ١٩٢٥ ١٩٥٢	X
٢ - عندما تقريب العدد ١٤٤٥ إلى أقرب مئة يكون الناتج ٢٠٠٠ ١٤٠٠	X
٣ -الترتيب الصحيح لخطوات حل المسألة الأربع هي :افهم ، خطط ، حل ، تحقق	✓
٤- عندما أطرح أبدا دائما بمنزلة الآحاد	✓

السؤال الثالث :أجب عن المطلوب فيما يلي : ٦

أ) **أكتب العدد التالي بالصيغة التحليلية :**

٤٣٩٨٠ = ٠ + ٨٠ + ٩٠٠ + ٣٠٠٠ + ٤٠٠٠

.....

ب) **أكمل كل الجمل العددية التالية ،واذكر الخاصية التي استعملتها**

١- ١٤ + ١٦ = ١٦ + ١٤ خاصية (... الإبدال ...)

٢- (٤ + ٢) + ٧ = ٤ + (٢ + ٧) خاصية (... التجميع ...)

ج) **أوجد ناتج ما يلي :**

① ١ ٢ ٩ ٠	٤ ٥ ١٠
+ ٠ ٦ ٩ ٣	- ٤ ٩ ٢
١٩٨٣	١١٢

د) **حدد هل المطلوب التقدير أم الإجابة الدقيقة ، ثم حل المسألة :** ● نقرب إلى أقرب عشرة

ركب فى حافلة المدرسة ١٨ طالب من الحى الأول و ١٢ طالب من الحى الثانى و ١١ طالب من الحى الثالث، كم طالبًا تقريبًا ركب الحافلة ؟ ≈ ٢٠ طلاب ≈ ١٠ طلاب ≈ ١٠ طلاب

ركب في الحافلة : ٢٠ + ١٠ + ١٠ = ٤٠ طالب تقريباً

.....

معلم ة المادة

مدير ة المدرسة

موقع منهجي
mnhaji.com

	المادة	رياضيات
	الصف	الرابع
	الزمن	حصة
	عدد الصفحات	٢
	اختبار منتصف الفصل الدراسي الأول لعام ..... هـ	

الاسم : ..... الصف : ٤ / ...

الدرجة المستحقة	
٢٠	

السؤال الاول :

اختر الإجابة الصحيحة ؟

١	يُقرب العدد إلى أقرب عشرة ٥٦٨							
	أ	٥٠٠	ب	٥٦٠	ج	٥٧٠	د	٦٠٠
٢	ما العدد المفقود في الجملة التالية؟ ١٧ - ☐ = ١٧							
	أ	٠	ب	١	ج	٣	د	٤
٣	القيمة المنزلية للرقم ٩ في العدد ٨٩٢٦٣٧٥							
	أ	٩٠٠٠	ب	٩٠٠٠٠	ج	٩٠٠٠٠٠	د	٩٠٠٠٠٠٠
٤	ما الخاصية المستعملة فيما يلي ؟ ٩ + ٠ = ٩							
	أ	خاصية العنصر المحايد الجمعي	ب	خاصية التجميع	ج	خاصية الإبدال	د	قاعدة طرح العدد من نفسه
٥	يُكتب العدد التالي بالصيغة القياسية أربعة ملايين وثلاث مئة وخمسة وعشرون ألفاً وست مئة وثمانية عشر							
	أ	٤٣٥٢٦٨١	ب	٤٣٥٢٦١٨	ج	٤٣٢٥٦٨١	د	٤٣٢٥٦١٨
٦	الرقم المناسب لتصبح الجملة صحيحة هو ٦٥٨٤٣١ < ٠٠٠٠٠							
	أ	٤	ب	٥	ج	٦	د	٧
٧	العدد الذي يجعل الجملة التالية صحيحة هو : ٢٣ + ☐ = ١٧ + ٢٣							
	أ	١٧	ب	٢٣	ج	٣٦	د	٣٨
٨	ما العدد الذي قيمة الرقم ٤ هي ٤٠٠٠ ؟							
	أ	٤٥٦١٧٣	ب	٨٠٦١٢٤	ج	٦١٤٠٠٠	د	٥٤٦١٨٣
٩	ما قاعدة الطرح المستعملة؟ ٥ - ٠ =٥							
	أ	قاعدة طرح العدد من نفسه	ب	قاعدة طرح صفر من العدد	ج	خاصية الإبدال	د	خاصية التجميع
١٠	أي الأعداد التالية هو الأكبر ؟							
	أ	٧٨٥٤٩٦	ب	٧٥٨٤٦٩	ج	٧٨٥٤٦٩	د	٧٥٨٤٩٦

موقع منهجي mnhaji.com

يتبع

	المادة	رياضيات
	الصف	الرابع
	الزمن	حصة
	عدد الصفحات	٢
	اختبار منتصف الفصل الدراسي الأول لعام ..... هـ	

الاسم : ..... الصف : ٤ / ...

السؤال الثاني :

أ) أكتب العدد التالي بالصيغة اللفظية ؟

١٩٥٧٣

- - - -

المادة		رياضيات
الصف		الرابع
الزمن		حصة
عدد الصفحات		٢
اختبار منتصف الفصل الدراسي الأول لعام ..... هـ		

نموذج الإجابة

الاسم : ..... الصف : ٤ / ...

الدرجة المستحقة	٢٠	

نموذج اجابة

السؤال الاول :

اختر الإجابة الصحيحة ؟

١	يُقرب العدد إلى أقرب عشرة ٥٦٨							
	أ	٥٠٠	ب	٥٦٠	ج	٥٧٠	د	٦٠٠
٢	ما العدد المفقود في الجملة التالية؟ ١٧ - ☐ = ١٧							
	أ	٠	ب	١	ج	٣	د	٤
٣	القيمة المنزلية للرقم ٩ في العدد ٨٩٢٦٣٧٥							
	أ	٩٠٠٠	ب	٩٠٠٠٠	ج	٩٠٠٠٠٠	د	٩٠٠٠٠٠٠
٤	ما الخاصية المستعملة فيما يلي ؟ ٩ + ٠ = ٩							
	أ	خاصية العنصر المحايد الجمعي	ب	خاصية التجميع	ج	خاصية الإبدال	د	قاعدة طرح العدد من نفسه
٥	يُكتب العدد التالي بالصيغة القياسية أربعة ملايين وثلاث مئة وخمسة وعشرون ألفاً وست مئة وثمانية عشر							
	أ	٤٣٥٢٦٨١	ب	٤٣٥٢٦١٨	ج	٤٣٢٥٦٨١	د	٤٣٢٥٦١٨
٦	الرقم المناسب لتصبح الجملة صحيحة هو ٦٥٨٤٣١ < ٠٠٠٠٠							
	أ	٤	ب	٥	ج	٦	د	٧
٧	العدد الذي يجعل الجملة التالية صحيحة هو : ٢٣ + ☐ = ١٧ + ٢٣							
	أ	١٧	ب	٢٣	ج	٣٦	د	٣٨
٨	ما العدد الذي قيمة الرقم ٤ هي ٤٠٠٠٠ ؟							
	أ	٤٥٦١٧٣	ب	٨٠٦١٢٤	ج	٦١٤٠٠٠	د	٥٤٦١٨٣
٩	ما قاعدة الطرح المستعملة؟ ٥ - ٠ =٥							
	أ	قاعدة طرح العدد من نفسه	ب	قاعدة طرح صفر من العدد	ج	خاصية الإبدال	د	خاصية التجميع
١٠	أي الأعداد التالية هو الأكبر ؟							
	أ	٧٨٥٤٩٦	ب	٧٥٨٤٦٩	ج	٧٨٥٤٦٩	د	٧٥٨٤٩٦

موقع منهجي mnhaji.com

يتبع

	المادة	رياضيات
	الصف	الرابع
	الزمن	حصة
	عدد الصفحات	٢
	اختبار منتصف الفصل الدراسي الأول لعام ..... هـ	

الاسم : ..... الصف : ٤ / ...

نموذج اجابة

السؤال الثاني :

أ) أكتب العدد التالي بالصيغة اللفظية ؟

١٩٥٧٣

تسعة عشر ألفاً وخمس مئة وثلاثة وسبعون

٧٣٥٢١٩٨

سبعة مليون وثلاث مئة واثنان وخمسون ألفاً ومئة وثمانية وتسعون

ب) رتب الأعداد من الأكبر إلى الأصغر ؟

١٢٦٧٩٣٤ ، ١٢٦٧٩٣ ، ٢٧٥٦٧٨٩

٢٧٥٦٧٨٩ ، ١٢٦٧٩٣٤ ، ١٢٦٧٩٣

ج) قارن بين الأعداد مستعملاً (> ، < ، =) ؟

١٢٦٨٣ < ١٢٦٣٨ ٣٢٨٧١٠٦٤ > ٣٢٨٧١٠٦٥

د) قدر الناتج بتقريب الأعداد إلى أقرب قيمة منزلية معطاة ؟

٤٥٥ - ٢٢٩ ؛ عشرة

٤٦٠ - ٢٣٠ = ٢٣٠

هـ) أوجد الناتج ؟

$$\begin{array}{r} 290 \\ +\ 693 \\ \hline 983 \end{array} \qquad \begin{array}{r} 524 \\ -\ 246 \\ \hline 278 \end{array} \qquad \begin{array}{r} 604 \\ -\ 492 \\ \hline 112 \end{array}$$

انتهت الأسئلة

موقع منهجي
mnhaji.com

الدرجة ٢٠

توقيع ولي الأمر.....

اختبارمنتصف الفصل الدراسي الأول لمادة الرياضيات للصف الرابع الابتدائي للعام الدراسي ١٤٤٨هـ

الاسم / ..... الرابع.....

السؤال الأول : اختر الإجابة الصحيحة فيما يلي ١٠

١- العدد الذي فيه الرقم ٤ في منزلة عشرات الألوف هو

أ	١٦٤٣	ب	١٤٨٠	ج	٤٣٩٨	د	٤٦٣٢١

٢- قيمة الرقم ٦ في العدد ٢٦٣٤٨٣١ هي

أ	٦٠٠٠	ب	٦٠٠٠٠	ج	٦٠٠٠٠٠	د	٦٠٠٠٠٠٠

٣- يكتب العدد (خمس ملايين وأربع مئة وعشرون وتسع مئة واثنان وسبعون) كالتالي :

أ	٥٤٢٠٩٧٢	ب	٥٤٢٩٧	ج	٤٥٩٢٠٧٢	د	٧٦٥٤٣٩٤

٤- الرمز الصحيح للمقارنة بين العددين(٥٤٢٨٩٢..... ٥٤١٢٣٦) هو :

أ	>	ب	<	ج	=	د	+

٥- عندما نقرب العدد ٣٩٥٢ إلى أقرب ألف يكون الناتج هو :

أ	٤٠٠٠٠٠	ب	٤٠٠٠٠	ج	٤٠٠٠	د	٤٠

٥- عندما نقرب العدد ٢٢١٨٠٠٠ إلى أقرب مليون يكون الناتج هو :

أ	٢٠٠٠٠٠٠	ب	٢٠٠٠	ج	٢٠٠٠٠	د	٣٠٠٠٠٠٠

٧- العدد الذي يجعل الجملة العددية التالية صحيحة (٢١ + ...) + ١٤ = ٢١ + (١٥ + ١٤) هو :

أ	١٢	ب	٢١	ج	١٤	د	٢٥

٨- الخاصية المستعملة في الجملة العددية التالية (٢٣ + ١٤ = ١٤ + ٢٣) هي خاصية :

أ	الابدال	ب	التجميع	ج	العنصر المحايد	د	طرح عدد من نفسه

٩- تقدير ناتج ١٣٤ + ٦٨ مقربا إلى أقرب عشرة يساوي :

أ	١٥٠	ب	٢٠٠	ج	٢٥٠	د	٣٥٠

١٠ – تقدير ناتج ٦٣٥ – ٢٩٨ مقربا الى اقرب مئة يساوي :

أ	١٠٠	ب	٢٠٠	ج	٣٠٠	د	٤٠٠

ضع علامة ( ) أمام العبارة الصحيحة وعلامة (x) أمام العبارة الخاطئة فيما يلي	٤
١- العدد ٢٣٤٥٦ مكتوب بالصيغة اللفظية .	
٢- ٤ + ٣٠ + ٥٠٠ < ١٥٣٤	
٣- من قواعد الطرح الابدال	
٤- عندما أطرح ابدأ دائما بالاحاد	

السؤال الثالث : أجب عن المطلوب فيما يلي ٦

أ) أكتب العدد التالي بالصيغة التحليلية :

٢٣٩٧٠٠

.....

ب) رتب الأعداد التالية من الأصغر إلى الأكبر :

٣٩٢٧١ ، ٢٩٣٧١ ، ٧٣٩٢١ ، ٣٩٢١

، ، ،

ج) أوجد ناتج ما يلي :

١ ٤ ٩ ٢	٣ ٩ ٦ ٠
+ ٥ ٣ ١ ٢	- ١ ٧ ٢ ٩
_____	_____

د) حدد هل المطلوب التقدير أم الإجابة الدقيقة ، ثم حل المسألة :

مع والدة أمل ٩٦ ريال .إذا اشترت ساعة وبقي معها٣١ ريال ، فكم ريالًا ثمن الساعة ؟

.....

معلم/ة المادة :

موقع منهجي
mnhaji.com

مدير/ة المدرسة :

نموذج الإجابة

الدرجة ٢٠

توقيع ولي الأمر.....

اختبار منتصف الفصل الدراسي الأول لمادة الرياضيات للصف الرابع الابتدائي للعام الدراسي ١٤٤٨هـ

الاسم / ..... الرابع.....

السؤال الأول : اختر الإجابة الصحيحة فيما يلي (١٠)

١- العدد الذي فيه الرقم ٤ في منزلة عشرات الألوف هو

أ	١٦٤٣	ب	١٤٨٠	ج	٤٣٩٨	د	٤٦٣٢١

٢- قيمة الرقم ٦ في العدد ٢٦٣٤٨٣١ هي

أ	٦٠٠٠	ب	٦٠٠٠٠	ج	٦٠٠٠٠٠	د	٦٠٠٠٠٠٠

٣- يكتب العدد (خمس ملايين وأربع مئة وعشرون وتسع مئة واثنان وسبعون) كالتالي :

أ	٥٤٢٠٩٧٢	ب	٥٤٢٩٧	ج	٤٥٩٢٠٧٢	د	٧٦٥٤٣٩٤

٤- الرمز الصحيح للمقارنة بين العددين(٥٤٢٨٩٢..... ٥٤١٢٣٦) هو :

أ	>	ب	<	ج	=	د	+

٥- عندما نقرب العدد ٣٩٥٢ إلى أقرب ألف يكون الناتج هو :

أ	٤٠٠٠٠٠	ب	٤٠٠٠٠	ج	٤٠٠٠	د	٤٠

٥- عندما نقرب العدد ٢٢١٨٠٠٠ إلى أقرب مليون يكون الناتج هو :

أ	٢٠٠٠٠٠٠	ب	٢٠٠٠	ج	٢٠٠٠٠	د	٣٠٠٠٠٠٠

٧- العدد الذي يجعل الجملة العددية التالية صحيحة (٢١ + ...) + ١٤ = ٢١ + (١٥ + ١٤) هو :

أ	١٢	ب	٢١	ج	١٤	د	٢٥

٨- الخاصية المستعملة في الجملة العددية التالية (٢٣ + ١٤ = ١٤ + ٢٣) هي خاصية :

أ	الابدال	ب	التجميع	ج	العنصر المحايد	د	طرح عدد من نفسه

٩- تقدير ناتج ١٣٤ + ٦٨ مقربا إلى أقرب عشرة يساوي :

أ	١٥٠	ب	٢٠٠	ج	٢٥٠	د	٣٥٠

١٠ – تقدير ناتج ٦٣٥ – ٢٩٨ مقربا الى اقرب مئة يساوي :

أ	١٠٠	ب	٢٠٠	ج	٣٠٠	د	٤٠٠

موقع منهجي
mnhaji.com

ضع علامة ( ) أمام العبارة الصحيحة وعلامة (x) أمام العبارة الخاطئة فيما يلي	٤
١- العدد ٢٣٤٥٦ مكتوب بالصيغة اللفظية .	✗
٢- ٤ + ٣٠ + ٥٠٠ < ١٥٣٤	✓
٣- من قواعد الطرح الابدال	✗
٤- عندما أطرح ابدأ دائما بالاحاد	✓

السؤال الثالث : أجب عن المطلوب فيما يلي ٦

أ) أكتب العدد التالي بالصيغة التحليلية :

٢٣٩٧٠٠ ٢٠٠٠٠٠ + ٣٠٠٠٠ + ٩٠٠٠ + ٧٠٠

.....

ب) رتب الأعداد التالية من الأصغر إلى الأكبر :

٣٩٢٧١ ، ٢٩٣٧١ ، ٧٣٩٢١ ، ٣٩٢١

٣ ، ٢ ، ٤ ، ١

ج) أوجد ناتج ما يلي :

١ ٤ ٩ ٢	٣ ٩ ٦ ٠
+ ٥ ٣ ١ ٢	- ١ ٧ ٢ ٩
٦٨٠٤	٢٢٣١

د) حدد هل المطلوب التقدير أم الإجابة الدقيقة ، ثم حل المسألة :

مع والدة أمل ٩٦ ريال .إذا اشترت ساعة وبقي معها٣١ ريال ، فكم ريالًا ثمن الساعة ؟

٩٦ - ٣١ = ٦٥

.....

معلم/ة المادة :

موقع منهجي mnhaji.com

مدير/ة المدرسة :

اختبار الفترة الأولى الفصل الدراسي الأول - لمادة الرياضيات - الصف الرابع

٢٠

الأسم :.....

اختار الإجابة الصحيحة فيما يلي (إجابة واحدة فقط)

١- القيمة المنزلية للرقم الذي تحته خط ٤٨٣٤١ هي:

أ	٨٠	ب	٨٠٠	ج	٨٠٠٠	د	٨٠٠٠٠

٢- العدد الذي يجعل الجملة التالية صحيحة (٥+٩)+٢= ٥+(.... + ٢) هو :

أ	٢	ب	٥	ج	٩	د	١٩

٣- الرقم الذي يجعل الجملة ٤٥١٨ < ٢٦□٤ صحيحة هو :

أ	٣	ب	٤	ج	٥	د	٦

٤- الصيغة القياسية للعدد (سبعة ملايين ومئتين وخمسة وعشرين ألفاً وثماني مئة وثلاثة عشر) هو:

أ	٧٢٥٨١٣	ب	٧٢٢٢٥٨٠٣	ج	٧٢٢٥٨١٣	د	٧٠٠٢٢٥٨٣١

٥- العدد ٧٣٠١١ بالصيغة التحليلية هو:

أ	١+١٠+١٠٠+٣٠٠٠+٧٠٠٠٠	ب	١+١٠+٣٠٠٠+٧٠٠٠٠	ج	١+١٠+٣٠٠٠+٧٠٠٠٠٠	د	١٠+١٠٠+٣٠٠٠+٧٠٠٠٠

٦- دفعت هناء ٢٥ ريالاً ثمن وجبة الغداء ، و١٥ ريالاً لشراء لعبة ، و١٠ ريالاً لأشياء أخرى. مجموع ما دفعه هو:

أ	٣٠ريالاً	ب	٤٠ريالاً	ج	٥٠ ريالاً	د	٦٠ريالاً

أكمل الفراغات الاتية بما يناسبها:

١	تقدير ناتج طرح ٨٥ ــ ٦١ ، بالتقريب لأقرب عشرة هو .....
٢	العدد ٣٥٦٠٢٣٤ مقرباً الى أقرب مليون هو .....
٣	٧+٠= ٧ هو مثال على خاصية .....
٤	قاعدة الطرح المستخدمة في الجملة ٨٩ -٨٩ =٠ هي .....

أحدد هل المطلوب هو التقدير أم الإجابة الدقيقة ، ثم حلي المسألة:

شارك ٣٧ طالباً في النشاط الرياضي وشارك ٢٨ طالباً آخر في النشاط الفني . ما عدد الطلاب المشاركين في النشاطين تقريباً ؟

يبين الجدول المجاور أعداداً زوار أحد المعارض في ٤ سنوات :

رتب عدد زوار المعرض من الأقل الى الأكثر عدداً .

العامُ	عددُ الزوّارِ
١٤٢٧هـ	١٢٢٢٩٥٣
١٤٢٨هـ	٩٦٤٥٦٣
١٤٢٩هـ	١٠٥٥٨٦٢
١٤٣٠هـ	١٠٤٤٠٥١

أجد ناتج الجمع أو الطرح:

٥ ٢ ٩ ٧ + ٦ ٠ ٧

٥ ٦ ١ - ٢ ٧ ٢

أحل المسألة الاتية بالخطوات الأربعة:

تستغرق مريم ٥ دقائق لتغليف هدية. كم دقيقة تستغرقها لتغليف ١٠ هدايا ؟

انتهت الأسئلة ..

أ/

موقع منهجي
mnhaji.com

نموذج الإجابة

اختبار الفترة الأولى الفصل الدراسي الأول - لمادة الرياضيات - الصف الرابع

٢٠

الأسم :.....

اختار الإجابة الصحيحة فيما يلي (إجابة واحدة فقط)

١- القيمة المنزلية للرقم الذي تحته خط ٤٨٣٤١ هي:

أ	٨٠	ب	٨٠٠	ج	٨٠٠٠	د	٨٠٠٠٠

٢- العدد الذي يجعل الجملة التالية صحيحة (٥+٩)+٢= ٥+(.... + ٢) هو :

أ	٢	ب	٥	ج	٩	د	١٩

٣- الرقم الذي يجعل الجملة ٤٥١٨ < ٢٦□٤ صحيحة هو :

أ	٣	ب	٤	ج	٥	د	٦

٤- الصيغة القياسية للعدد (سبعة ملايين ومئتين وخمسة وعشرين ألفاً وثماني مئة وثلاثة عشر) هو:

أ	٧٢٥٨١٣	ب	٧٢٢٢٥٨٠٣	ج	٧٢٢٥٨١٣	د	٧٠٠٢٢٥٨٣١

٥- العدد ٧٣٠١١ بالصيغة التحليلية هو:

أ	١+١٠+٣٠٠٠+٧٠٠٠٠	ب	١+١٠+٣٠٠٠+٧٠٠٠٠	ج	١+١٠+٣٠٠٠+٧٠٠٠٠٠	د	١٠+١٠٠+٣٠٠٠+٧٠٠٠٠

٦- دفعت هناء ٢٥ ريالاً ثمن وجبة الغداء ، و١٥ ريالاً لشراء لعبة ، و١٠ ريالاً لأشياء أخرى. مجموع ما دفعه هو:

أ	٣٠ريالاً	ب	٤٠ريالاً	ج	٥٠ ريالاً	د	٦٠ريالاً

موقع منهجي
mnhaji.com

أكمل الفراغات الاتية بما يناسبها:

١	تقدير ناتج طرح ٨٥ ـ ٦١ ، بالتقريب لأقرب عشرة هو .....٣٠.....
٢	العدد ٣٥٦٠٢٣٤ مقرباً الى أقرب مليون هو .....٤٠٠٠٠٠٠.....
٣	٧+٠= ٧ هو مثال على خاصية .....العنصر المحايد.....
٤	قاعدة الطرح المستخدمة في الجملة ٨٩ ـ٨٩ =٠ هي .....طرح نفس العدد.....

أحدد هل المطلوب هو التقدير أم الإجابة الدقيقة ، ثم حلي المسألة:

شارك ٣٧ طالباً في النشاط الرياضي وشارك ٢٨ طالباً آخر في النشاط الفني . ما عدد الطلاب المشاركين في النشاطين تقريباً ؟

٤٠ + ٣٠ = ٧٠ تقريباً

يبين الجدول المجاور أعداداً زوار أحد المعارض في ٤ سنوات :

رتب عدد زوار المعرض من الأقل الى الأكثر عدداً .

العامُ	عددُ الزوّارِ
١٤٢٧هـ	١٢٢٢٩٥٣ (٤)
١٤٢٨هـ	٩٦٤٥٦٣ (١)
١٤٢٩هـ	١٠٥٥٨٦٢ (٣)
١٤٣٠هـ	١٠٤٤٠٥١ (٢)

أجد ناتج الجمع أو الطرح:

$$\begin{array}{r} ٥\ ٢\ ٩\ ٧ \\ +\ \ \ ٦\ ٠\ ٧ \\ \hline ٥\ ٩\ ٠\ ٤ \end{array}$$

$$\begin{array}{r} ٥\ ٦\ ١٥\ ١١ \\ -\ \ ٢\ ٧\ ٢ \\ \hline ٢\ ٨\ ٩ \end{array}$$

أحل المسألة الاتية بالخطوات الأربعة:

تستغرق مريم ٥ دقائق لتغليف هدية. كم دقيقة تستغرقها لتغليف ١٠ هدايا ؟

الفهم	
تخطيط	نستخدم المضاعف
حل	٥، ١٠، ١٥، ٢٠، ٢٥، ٣٠، ٣٥، ٤٠، ٤٥، ٥٠ دقيقه
تحقق	

انتهت الأسئلة ..

أ/

موقع منهجي
mnhaji.com

مجموع الدرجات
٢٠

التاريخ : ..... / ..... /١٤٤٨هـ
المادة : رياضيات
الزمن : ٤٥ دقيقة

اختبار مادة الرياضيات للصف الرابع الابتدائي (منتصف الفصل الدراسي الأول ١٤٤٨هـ

اسم الطالب	.....	الصف	رابع / .....

❖ السؤال الأول

	٩

أ اكتب القيمة المنزلية للرقم الذي تحته خط:

٣٢٠٨٦ ..... ٧٨٣٨٧ ..... ٩٢٦٧٩٤ .....

ب اكتب العدد التالي بالصيغة التحليلية:

٣٧٩١ .....

ج قارن بين العددين في كل مما يلي مستعملاً (> ، < ، =):

١٧٩٨ ◯ ١٧٨٩ ٣٠٣٠ ◯ ٣٠٣٠ ٥٠٩٠ ◯ ٥٩٨٠

د قرّب كل عدد إلى أقرب قيمة منزلية معطاة:

٩٢٧ ، عشرة ..... ٤٢٨٢ ، ألف .....

❖ السؤال الثاني

	٧

أ اكتب العدد المفقود واكتب الخاصية أو القاعدة التي استعملتها:

$١٩ - \square = ١٩$ .....

$٧٤ + \square = ٦٨ + ٧٤$ .....

ب أوجد ناتج العمليات التالية:

$$\begin{array}{r} ٣٦٤ \\ +\ ٥٨ \\ \hline \end{array}$$

$$\begin{array}{r} ٤٠٨ \\ -\ ٣٦ \\ \hline \end{array}$$

❖ السؤال الثالث

	٤

أ	استعمل التمثيل البياني أدناه للإجابة عن الأسئلة الآتية :

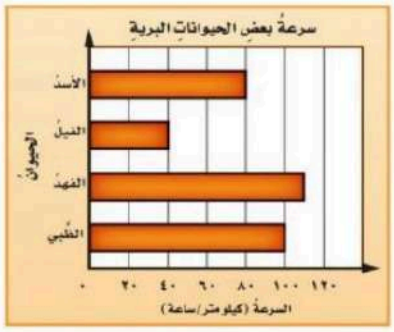

١ كم تبلغ سرعة الظبي ؟ .....

٢ كم تزيد سرعة الفهد على سرعة الأســد ؟ .....

ب	يبين التمثيل بالقطاعات الدائرية في الشكل المجاور الفاكهة المفضلة عند طلاب المدرسة :

١ ما الفاكهة المفضلة لدى ١١٠ من طلاب المدرسة ؟ .....

٢ ما الفاكهة الأقل تفضيلا لدى الطلاب ؟ .....

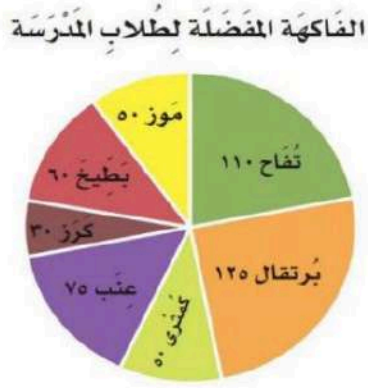

معلمة المادة :

موقع منهجي
mnhaji.com

نموذج الإجابة

مجموع الدرجات
٢٠

التاريخ : ..... / ..... /١٤٤٨هـ
المـادة : رياضيات
الزمـن : ٤٥ دقيقة

اختبار مادة الرياضيات للصف الرابع الابتدائي (منتصف الفصل الدراسي الأول ١٤٤٨هـ

اسم الطالب	.....	الصف	رابع / .....

❖ السؤال الأول

	١٠

أ اكتب القيمة المنزلية للرقم الذي تحته خط:

٣٢٠٨٦ ٨٠ ٧٨٣٨٧ ٣٠٠ ٩٢٦٧٩٤ ٩٠٠٠٠٠

ب اكتب العدد التالي بالصيغة التحليلية :

٣٧٩١ ١ + ٩٠ + ٧٠٠ + ٣٠٠٠

ج قارن بين العددين في كل مما يلي مستعملاً (> ، < ، =):

١٧٩٨ [<] ١٧٨٩ ٣٠٣٠ [=] ٣٠٣٠ ٥٩٨٠ [<] ٥٠٩٠

د قرّب كل عدد إلى أقرب قيمة منزلية معطاة:

٩٢٧ ، عشرة ٩٣٠ ٤٢٨٢ ، ألف ٤٠٠٠

❖ السؤال الثاني

	١٠

أ اكتب العدد المفقود واكتب الخاصية أو القاعدة التي استعملتها:

١٩ − [٠] = ١٩ قاعدة طرح الصفر

٧٤ + [٦٨] = ٦٨ + ٧٤ خاصية الإبدال

ب أوجد ناتج العمليات التالية:

١١
٣٦٤
+ ٥٨
٤٢٢

٣١٠
٨٤٠
− ٣٦
٣٧٢

معلمة المادة :

موقع منهجي
mnhaji.com

❖ السؤال الثالث

	٤

أ	استعمل التمثيل البياني أدناه للإجابة عن الأسئلة الآتية :

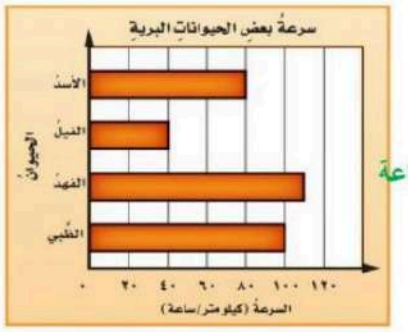

١ كم تبلغ سرعة الظبي ؟ ١٠٠ كلم/الساعة

٢ كم تزيد سرعة الفهد على سرعة الأســد ؟ الزيادة = ١١٠ ــ ٨٠ = ٣٠ كلم / الساعة

ب	يبين التمثيل بالقطاعات الدائرية في الشكل المجاور الفاكهة المفضلة عند طلاب المدرسة :

١ ما الفاكهة المفضلة لدى ١١٠ من طلاب المدرسة ؟ التفاح

٢ ما الفاكهة الأقل تفضيلا لدى الطلاب ؟ الكرز

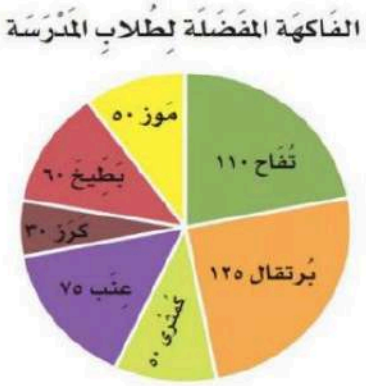

معلمة المادة :

موقع منهجي
mnhaji.com

الدرجة ٢٠

توقيع ولي الأمر.....

اختبار منتصف الفصل الدراسي الأول لمادة الرياضيات للصف الرابع الابتدائي للعام الدراسي ١٤٤٨ هـ

الاسم / ..... الرابع /.....

السؤال الأول : اختر الإجابة الصحيحة فيما يلي : ١٠

١- القيمة المنزلية للرقم ٧ في العدد ٢٧٣١٥٨ هي :

أ	٧٠٠	ب	٧٠٠٠	ج	٧٠٠٠٠	د	٧٠٠٠٠٠

٢- يكتب العدد (أربع ملايين ومئة وواحد وستون ألف وثمان مئة وخمسون) بالصيغة القياسية كالتالي :

أ	٤١١٦٨٠٥	ب	٤١١٦٨٥٠	ج	٤١٦١٨٥٠	د	٦٤١١٨٥٠

٣- يقول سامر أن عنوان شارعه يحتوي على الرقم ٣ في منزلة المئات ، أي مما يلي يمثل عنوان الشارع ؟

أ	١٣٦٨	ب	٢٤٣٧	ج	١٤٨٣	د	٣٨٦٥

٤- الرمز الصحيح للمقارنة بين العددين (٤ + ٣٠ + ٥٠٠ ○ ١٥٣٤) هو :

أ	>	ب	<	ج	=	د	+

٥- ثمن حاسوب ١٨٩٥ ريال عندما أقرب هذا العدد الى أقرب ألف يصبح :

أ	١٠٠٠	ب	٢٠٠٠	ج	٢٥٠٠	د	٣٠٠٠

٦- عندما نقرب العدد ٢٢١٨٠٠٠ إلى أقرب مليون يكون الناتج هو :

أ	٢٠٠٠٠٠٠	ب	٢٠٠٠	ج	٢٠٠٠٠	د	٣٠٠٠٠٠٠

٧- أي الأعداد التالية هو الأكبر :

أ	٧٨٥٤٥٦	ب	٧٥٨٤٦٩	ج	٧٨٥٩٦٤	د	٧٥٨٤٩

٨- إذا كان ثمن الدفتر ٥ ريال ، فكم دفترًا من هذا النوع يمكن أن تشتري بمبلغ ٣٠ ريال ؟

أ	٤	ب	٥	ج	٦	د	٧

٩- تقدير ناتج ٣٦ + ٥٨ مقربا إلى أقرب عشرة يساوي :

أ	٢٥٠	ب	٢٠٠	ج	١٥٠	د	١٠٠

١٠ - تقدير ناتج ٥٧٣ - ٢٢٥ مقربا إلى أقرب مئة يساوي :

أ	١٠٠	ب	٢٠٠	ج	٣٠٠	د	٤٠٠

السؤال الثاني : أجب عن المطلوب فيما يلي : ١٠

أ) أكتب العدد التالي بالصيغة التحليلية :

١٦٢٣٥٩

.....

ب) رتب الأعداد التالية من الأصغر إلى الأكبر :

١٣٥٧ ، ٣١٥٧ ، ٧٥٣١ ، ٥١٣٧

..... ، ..... ، ..... ، .....

ج) قارن مستعملاً (< ، > ، =)

٢٤٠٩٠ ◯ ٢٤٠٠٩ ٥٦٧٧ ◯ ٥٦٧٧

د) أكمل بالاعداد المناسبة واذكر اسم الخاصية التي استعملتها :

١- ١٣ + ■ = ١٧ + ١٣ **خاصية (.....)**

٢- ٢+ (٣+٩) = (٢+■) +٩ **خاصية (.....)**

٣- ٩ + ■ = ٩ **خاصية (.....)**

هـ) أوجد ناتج ما يلي :

٨ ١ ٨ ٠ ٤ ٠ ٨

+ ٧ ٢ ٣ ٣ - ٣ ٦

و) حدد هل المطلوب التقدير أم الإجابة الدقيقة ، ثم حل المسألة :

اشترى محمد تفاحًا بمبلغ ١٨ ريال وبرتقالاً بمبلغ ٢٤ ريال وأعطى البائع ٥٠ ريال . فما المبلغ الذي سيعيده البائع له تقريبًا ؟

.....

معلم / ة المادة : مدير / ة المدرسة :

موقع منهجي mnhaji.com

نموذج الإجابة

الدرجة ٢٠

توقيع ولي الأمر.....

اختبار منتصف الفصل الدراسي الأول لمادة الرياضيات للصف الرابع الابتدائي للعام الدراسي ١٤٤٨ هـ

الاسم / ..... الرابع /.....

السؤال الأول : اختر الإجابة الصحيحة فيما يلي : ١٠

١- القيمة المنزلية للرقم ٧ في العدد ٢٧٣١٥٨ هي :

أ	٧٠٠	ب	٧٠٠٠	ج	٧٠٠٠٠	د	٧٠٠٠٠٠

٢- يكتب العدد (أربع ملايين ومئة وواحد وستون ألف وثمان مئة وخمسون) بالصيغة القياسية كالتالي :

أ	٤١١٦٨٠٥	ب	٤١١٦٨٥٠	ج	٤١٦١٨٥٠	د	٦٤١١٨٥٠

٣- يقول سامر أن عنوان شارعه يحتوي على الرقم ٣ في منزلة المئات ، أي مما يلي يمثل عنوان الشارع ؟

أ	١٣٦٨	ب	٢٤٣٧	ج	١٤٨٣	د	٣٨٦٥

٤- الرمز الصحيح للمقارنة بين العددين (٤ + ٣٠ + ٥٠٠ ١٥٣٤) هو :

أ	>	ب	<	ج	=	د	+

٥- ثمن حاسوب ١٨٩٥ ريال عندما أقرب هذا العدد الى أقرب ألف يصبح :

أ	١٠٠٠	ب	٢٠٠٠	ج	٢٥٠٠	د	٣٠٠٠

٦- عندما نقرب العدد ٢٢١٨٠٠٠ إلى أقرب مليون يكون الناتج هو :

أ	٢٠٠٠٠٠٠	ب	٢٠٠٠	ج	٢٠٠٠٠	د	٣٠٠٠٠٠٠

٧- أي الأعداد التالية هو الأكبر :

أ	٧٨٥٤٥٦	ب	٧٥٨٤٦٩	ج	٧٨٥٩٦٤	د	٧٥٨٤٩

٨- إذا كان ثمن الدفتر ٥ ريال ، فكم دفترًا من هذا النوع يمكن أن تشتري بمبلغ ٣٠ ريال ؟

أ	٤	ب	٥	ج	٦	د	٧

٩- تقدير ناتج ٣٦ + ٥٨ مقربا إلى أقرب عشرة يساوي :

أ	٢٥٠	ب	٢٠٠	ج	١٥٠	د	١٠٠

١٠ - تقدير ناتج ٥٧٣ - ٢٢٥ مقربا إلى أقرب مئة يساوي :

أ	١٠٠	ب	٢٠٠	ج	٣٠٠	د	٤٠٠

موقع منهجي
mnhaji.com

السؤال الثاني : أجب عن المطلوب فيما يلي : ١٠

أ) أكتب العدد التالي بالصيغة التحليلية :

١٦٢٣٥٩

..... ٩+٥٠+٣٠٠+٢٠٠٠+٦٠٠٠٠+١٠٠٠٠٠ .....

ب) رتب الأعداد التالية من الأصغر إلى الأكبر :

١٣٥٧ ، ٣١٥٧ ، ٧٥٣١ ، ٥١٣٧

..... ، ..... ، ..... ، .....

ج) قارن مستعملاً (< ، > ، =)

٢٤٠٩٠ ( ) ٢٤٠٠٩ ٥٦٧٧ ( ) ٥٦٧٧

د) أكمل بالاعداد المناسبة واذكر اسم الخاصية التي استعملتها :

١- ١٣ + ■ = ١٧ + ١٣ خاصية (..... الابدال .)

٢- ٢+ (٣+٩) = (٢+■) +٩ خاصية (.... التجميع ..)

٣- ٩ + ■ = ٩ خاصية (.. العنصر المحايد الجمعي

هـ) أوجد ناتج ما يلي :

٨ ١ ٨ ٠ ٨ ٠٤ ٥

+ ٧ ٢ ٣ ٣ - ٣ ٦

١٥٥١٣ ٥٧٢

و) حدد هل المطلوب التقدير أم الإجابة الدقيقة ، ثم حل المسألة :

اشترى محمد تفاحًا بمبلغ ١٨ ريال وبرتقالاً بمبلغ ٢٤ ريال وأعطى البائع ٥٠ ريال . فما المبلغ الذي سيعيده البائع له تقريبًا ؟

التقدير .... احل ٢٠+٢٠=٤٠ ... ٥٠-٤٠=١٠ .....

اتحقق ١٨+٢٤=٤٢

٥٠-٤٢=٨

معقول

Abu Sanad

مدرسة المدرسة :

موقع منهجي www.minhaj.com

		الدرجة : _____ ٢٠ توقيع ولي الأمر :

اختبار منتصف الفصل الأول ١٤٤٨ هـ

اسم الطالب : ..... المادة :رياضيات الصف : الرابع الابتدائي

السؤال الأول (أ): اختر الإجابة الصحيحة في كل سؤال مما يأتي:

١	الرقم الواقع في منزلة عشرات الملايين في العدد التالي ٦٨٤٧٢٣٢١٥							
	أ	٧	ب	٤	ج	٨	د	٦

٢	لكتابة العدد التالي ٤٠+٣٠٠+٥٠٠٠٠+١٠٠٠٠٠٠٠ بالصيغة القياسية نكتب:							
	أ	١٥٣٤	ب	١٥٣٤٠	ج	١٥٠٣٤٠	د	١٠٠٥٠٣٤٠

٣	الخاصية المستعملة في العملية التالية: ٧٦ + ٨ = ٨ + ٧٦							
	أ	الإبدال	ب	العنصر المحايد	ج	التجميع	د	طرح العدد من نفسه

٤	التقدير الأنسب لناتج طرح العددين ٤٢٣ ــ ١٩٨ = تقريبا							
	أ	١٠٠	ب	٢٠٠	ج	٣٠٠	د	٤٠٠

السؤال الأول (ب): ضع علامة (√) أمام العبارة الصحيحة، وعلامة (×) أمام العبارة الخاطئة فيما يلي:

١	عند تقريب العدد ٧٩١٢٧٥ إلى أقرب مئة ألف، سيصبح العدد ٨٠٠ ألف تقريبا	( )
٢	المطروح منه في عملية الطرح التالية: ٦٧ ــ ١٢ = ٥٥ هو العدد ١٢	( )
٣	للتحقق من صحة طرح ٢٠٠ ــ ٤٨ = ١٥٢ نجمع ١٥٢ + ٢٠٠	( )

السؤال الثاني (أ): اكتب القيمة المنزلية للرقم الذي تحته خط:

العدد	القيمة المنزلية للرقم الذي تحته خط
٥٦٩٤٥٢٣١	
٨٣٠٢٣٢١٥	

السؤال الثاني (ب): اكتب العدد التالي بالصيغة القياسية والتحليلية:

(سبع مئة وخمسة وثلاثون ألفا وخمس مئة واثنان وسبعون)

الصيغة القياسية	الصيغة التحليلية

السؤال الثالث(أ): قارن بين الأعداد التالية :

١٠٠٢٧٣٠١ ◯ ١٠٢٠٧٣٠١ ٧٦١٠١ ◯ ٧٧٠٠٠

السؤال الثالث (ب): رتب الأعداد التالية من الأصغر إلى الأكبر :

٢٣٨٠٢٣ ، ١٣٨٠٣٢ ، ١٣٩٠٠٦ ، ١٨٣٤٨٧

السؤال الثالث (ج): قرب الأعداد التالية إلى المنازل المطلوبة :

العدد	المنزلة المطلوبة	الحل
٥٦٨	إلى أقرب مئة	
٧٩١٢٧٥	إلى أقرب عشرة آلاف	

السؤال الرابع: اوجد نواتج الجمع والطرح التالية:

٥٢٣٩ ٢٧٩٤+	١٦٩٧٤٨ ٣٥٥٤٧٠+	٩٥١٦ ٧٢٢٨-	٣٣٥٣٩ ٣١٦٤٩-

أصدق الدعوات بالتوفيق الدائم لكم ... معلم المادة: حسن القرني

نموذج الإجابة

الدرجة : _____
٢٠

توقيع ولي الأمر :

اختبار منتصف الفصل الأول ١٤٤٨ هـ

اسم الطالب : ..... المادة :رياضيات الصف : الرابع الابتدائي

السؤال الأول (أ): اختر الإجابة الصحيحة في كل سؤال مما يأتي:

١	الرقم الواقع في منزلة عشرات الملايين في العدد التالي ٦٨٤٧٢٣٢١٥								
	أ	٧	ب	٤	ج	٨	د	٦	
٢	لكتابة العدد التالي ٤٠+٣٠٠+٥٠٠٠٠+١٠٠٠٠٠٠٠ بالصيغة القياسية نكتب:								
	أ	١٥٣٤	ب	١٥٣٤٠	ج	١٥٠٣٤٠	د	١٠٠٥٠٣٤٠	
٣	الخاصية المستعملة في العملية التالية: ٧٦ + ٨ = ٨ + ٧٦								
	أ	الإبدال	ب	العنصر المحايد	ج	التجميع	د	طرح العدد من نفسه	
٤	التقدير الأنسب لناتج طرح العددين ٤٢٣ ـ ١٩٨ = تقريبا								
	أ	١٠٠	ب	٢٠٠	ج	٣٠٠	د	٤٠٠	

السؤال الأول (ب): ضع علامة (√) أمام العبارة الصحيحة، وعلامة (×) أمام العبارة الخاطئة فيما يلي:

١	عند تقريب العدد ٧٩١٢٧٥ إلى أقرب مئة ألف، سيصبح العدد ٨٠٠ ألف تقريبا	(√)
٢	المطروح منه في عملية الطرح التالية: ٦٧ ـ ١٢ = ٥٥ هو العدد ١٢	(×)
٣	للتحقق من صحة طرح ٢٠٠ ـ ٤٨ = ١٥٢ نجمع ١٥٢ + ٢٠٠	(×)

موقع منهجي
mnhaji.com

السؤال الثاني (أ): اكتب القيمة المنزلية للرقم الذي تحته خط:

العدد	القيمة المنزلية للرقم الذي تحته خط
٥٦٩٤٥٢٣١	٤٠٠٠٠
٨٣٠٢٣٢١٥	٨٠٠٠٠٠٠٠

السؤال الثاني (ب): اكتب العدد التالي بالصيغة القياسية والتحليلية:

(سبع مئة وخمسة وثلاثون ألفا وخمس مئة واثنان وسبعون)

الصيغة القياسية	الصيغة التحليلية
٧٣٥ ٥٧٢	٧٠٠٠٠٠ + ٣٠٠٠٠ + ٥٠٠٠٠ + ٥٠٠ + ٧٠ + ٢

السؤال الثالث(أ): قارن بين الأعداد التالية :

١٠٠٢٧٣٠١ (>) ١٠٢٠٧٣٠١ ٧٦١٠١ (<) ٧٧٠٠٠

السؤال الثالث (ب): رتب الأعداد التالية من الأصغر إلى الأكبر :

٢٣٨٠٢٣ ، ١٣٨٠٣٢ ، ١٣٩٠٠٦ ، ١٨٣٤٨٧

(٤) (١) (٢) (٣)

السؤال الثالث (ج): قرب الأعداد التالية إلى المنازل المطلوبة :

العدد	المنزلة المطلوبة	الحل
٥٦٨	إلى أقرب مئة	٦٠٠
٧٩١٢٧٥	إلى أقرب عشرة آلاف	٧٩٠٠٠

السؤال الرابع: اوجد نواتج الجمع والطرح التالية:

٥٢٣٩ + ٢٧٩٤ = ٨٠٣٣	١٦٩٧٤٨ + ٣٥٥٤٧٠ = ٥٢٥٢١٨	٩٥١٦ − ٧٢٢٨ = ٢٢٨٨	٣٣٥٣٩ − ٣١٦٤٩ = ٠١٨٩٠

أصدق الدعوات بالتوفيق الدائم لكم ... معلم المادة: حسن القرني

		المادة : رياضيات
		الصف : الرابع الابتدائي
		الزمن : ٤٥ دقيقة
		عدد الأوراق : ٢

اختبار منتصف الفصل الدراسي الاول للصف الرابع الابتدائي لعام ١٤٤٨هـ

الاسم	.....	الصف ٤ /	الدرجة المستحقة	
				٢٠

السؤال الأول: (أ) اختر الإجابة الصحيحة لكل مما يلي بتظليل الحرف الدال عليها: ١٢

١ القيمة المنزلية للرقم الذي تحته خط في العدد ٩٤٣٢٥١ هي:

أ	ب	ج	د
٤٠	٤٠٠	٤٠٠٠	٤٠٠٠٠

٢ العدد ستة وخمسين مليونًا وثلاث مئة وثلاثين ألفًا بالصيغة القياسية هو:

أ	ب	ج	د
٥٦ ٣٣٠ ٠٠٠	٥٦ ٠٠٠ ٣٣٠	٥٦ ٣٣٠ ٣٣٠	٥٦ ٣٣٣ ٠٠٠

٣ يقول سامر أن عنوان شارعه يحتوي على الرقم ٣ في منزلة المئات، أي مما يأتي يمثل عنوان الشارع:

أ	ب	ج	د
١٣٦٨	٢٤٣٧	١٤٨٣	٣٨٦٥

٤ الرقم الذي يجعل الجملة العددية التالية صحيحة ٨٢٣٥٩ > ٥٩□٨٢ هو:

أ	ب	ج	د
٢	٣	٤	٥

٥ العدد الذي يجعل الجملة التالية (٣٢ + □) + ١٥ = ٣٢ + (٢٦ + ١٥) صحيحة هو:

أ	ب	ج	د
٣٢	٢٦	١٥	٤٧

٦ ناتج جمع ٢٤ + ١٧ + ٣٦ ذهنيًا هو:

أ	ب	ج	د
٥٧	٦٧	٧٧	٨٧

٧ تستغرق مريم ٥ دقائق لتغليف هدية. كم دقيقة تستغرقها لتغليف ١٠ هدايا؟

أ	ب	ج	د
١٥ دقيقة	٢٥ دقيقة	٤٠ دقيقة	٥٠ دقيقة

(ب) ضع علامة (✓) أمام العبارة الصحيحة وعلامة (✗) أمام العبارة الخاطئة :

١	القيمة المنزلية هي القيمة التي يتخذها الرقم حسب موقعه في العدد	
٢	الترتيب الصحيح للخطوات الأربع لحل المسألة هو: افهم، خطط، حل، تحقق.	
٣	عند تقريب العدد ٤٢٨٢ إلى أقرب ألف يكون الناتج ٥٠٠٠	
٤	العدد المفقود في الجملة التالية ٥ - □ = ٠ هو ٥	
٥	عندما تطرح تبدأ دائمًا بمنزلة الآحاد	

يتبع ←

السؤال الثاني: | ٨ |

(أ) رتب الأعداد التالية من الأكبر إلى الأصغر:

٣٩٢٧١ ، ٢٩٣٧١ ، ٧٣٩٢١

.....

(ب) قارن مستعملًا (< ، > ، =):

٢٠٤٠٣٨ ◯ ٢٠٣٨٨٨ ١٨٨٨١٠٣ ◯ ١٨٨٨١٠٣

(ج) أوجد الناتج:

٣ ٩ ٤ + ٨ ٤	٧ ٨ ٣ ٠ + ١ ٥ ١ ٩
٧ ٠ ٧ - ٥ ٣ ٥	٤ ٧ ٨ ٥ - ٢ ٢ ٩ ٣

تمت الأسئلة مع تمنياتي لكم بالتوفيق

المادة : رياضيات	
الصف : الرابع الابتدائي	
الزمن : ٤٥ دقيقة	
عدد الأوراق : ٢	

اختبار منتصف الفصل الدراسي الاول للصف الرابع الابتدائي لعام ١٤٤٨هـ

الاسم	.....	الصف ٤ /	الدرجة المستحقة	
				٢٠

نموذج إجابة

السؤال الأول: (أ) اختر الإجابة الصحيحة لكل مما يلي بتظليل الحرف الدال عليها: ١٢

١	القيمة المنزلية للرقم الذي تحته خط في العدد ٩٤٣٢٥١ هي: (كل فقرة بدرجة)								
	أ	٤٠	ب	٤٠٠	ج	٤٠٠٠	د	٤٠٠٠٠	
٢	العدد ستة وخمسين مليونًا وثلاث مئة وثلاثين ألفًا بالصيغة القياسية هو:								
	أ	٥٦ ٣٣٠ ٠٠٠	ب	٥٦ ٠٠٠ ٣٣٠	ج	٥٦ ٣٣٠ ٣٣٠	د	٥٦ ٣٣٣ ٠٠٠	
٣	يقول سامر أن عنوان شارعه يحتوي على الرقم ٣ في منزلة المئات، أي مما يأتي يمثل عنوان الشارع:								
	أ	١٣٦٨	ب	٢٤٣٧	ج	١٤٨٣	د	٣٨٦٥	
٤	الرقم الذي يجعل الجملة العددية التالية صحيحة ٨٢٣٥٩ > ٥٩□٨٢ هو:								
	أ	٢	ب	٣	ج	٤	د	٥	
٥	العدد الذي يجعل الجملة التالية (٣٢ + □) + ١٥ = ٣٢ + (٢٦ + ١٥) صحيحة هو:								
	أ	٣٢	ب	٢٦	ج	١٥	د	٤٧	
٦	ناتج جمع ٢٤ + ١٧ + ٣٦ ذهنيًا هو:								
	أ	٥٧	ب	٦٧	ج	٧٧	د	٨٧	
٧	تستغرق مريم ٥ دقائق لتغليف هدية. كم دقيقة تستغرقها لتغليف ١٠ هدايا؟								
	أ	١٥ دقيقة	ب	٢٥ دقيقة	ج	٤٠ دقيقة	د	٥٠ دقيقة	

(ب) ضع علامة (✓) أمام العبارة الصحيحة وعلامة (✗) أمام العبارة الخاطئة :

١	القيمة المنزلية هي القيمة التي يتخذها الرقم حسب موقعه في العدد	✓
٢	الترتيب الصحيح للخطوات الأربع لحل المسألة هو: افهم، خطط، حل، تحقق.	✓
٣	عند تقريب العدد ٤٢٨٢ إلى أقرب ألف يكون الناتج ٥٠٠٠	✗
٤	العدد المفقود في الجملة التالية ٥ - □ = ٠ هو ٥	✓
٥	عندما تطرح تبدأ دائمًا بمنزلة الآحاد	✓

يتبع ←

السؤال الثاني: ٨

(أ) رتب الأعداد التالية من الأكبر إلى الأصغر: ٢

٣٩٢٧١ ، ٢٩٣٧١ ، ٧٣٩٢١

٧٣٩٢١ ، ٣٩٢٧١ ، ٢٩٣٧١

(ب) قارن مستعملًا (< ، > ، =): ٢

٢٠٤٠٣٨ (<) ٢٠٣٨٨٨

١٨٨٨١٠٣ (=) ١٨٨٨١٠٣

(ج) أوجد الناتج: ٤

٣٩٤ + ٨٤ = ٤٧٨	٧٨٣٠ + ١٥١٩ = ٩٣٤٩
٧٠٧ - ٥٣٥ = ١٧٢	٤٧٨٥ - ٢٢٩٣ = ٢٤٩٢

موقع منهجي
mnhaji.com
تمت الأسئلة مع تمنياتي لكم بالتوفيق

اختبار رابع ابتدائي _ الفترة _ الفصل ١ و ٢

/ ٢٠

اسم الطالب : .....

السؤال الأول : اختر الإجابة الصحيحة : / ١٠

١	واحد وثلاثين مليون و مئة و سبعة وسبعين ألفاً و ست مئة وخمسة					
	أ	٣١١٧٧٦٠٥	ب	٣٠١١٧٧٦٥	ج	٣١٠٧٧٦٠٥
٢	الصيغة (التحليلية) للعدد ٨٥٠٤					
	أ	٤ + ٥٠٠ + ٨٠٠٠	ب	٤ + ٥ + ٨	ج	٨ + ٥٠ + ٤٠٠٠
٣	يملك والد سلطان مبلغ ٣٤٥٢١ ريال ، بينما يملك والد علي مبلغ ٣٤٥٣١ ريال ، فأيهما يملك مالاً أكثر ؟					
	أ	متساويان	ب	والد سلطان	ج	والد علي
٤	ضع رقم في الفراغ لتكون الجملة العددية صحيحة ٧٨٥٩٠٦٩ > ٥٩٠٦٩ ☐ ٧					
	أ	٨	ب	٧	ج	٩
٥	قرب العدد ٦٨٦٤٦ (لأقرب مئة)					
	أ	٦٨٦٠٠	ب	٦٠٠	ج	٧٠٠٠٠
٦	أي من التالي مثال على (خاصية العنصر المحايد) في الجمع					
	أ	٨٨ = ٠ + ٨٨	ب	٥ + ٦ = ٦ + ٥	ج	(١ + ٢) +٧ = ١ + (٢ + ٧)
٧	العدد المناسب في الفراغ ٩ - ☐ = ٩					
	أ	٩	ب	١	ج	٠
٨	قدر ناتج ٣٤٤ + ٣٧٦ (بالتقريب لأقرب مئة)					
	أ	٣٠٠ + ٣٠٠ = ٦٠٠	ب	٢٠٠ + ٤٠٠ = ٦٠٠	ج	٣٠٠ + ٤٠٠ = ٧٠٠
٩	مشى الأرنب مسافة ٥٦٧ متر ، ومشى الغزال مسافة ٦٨٩ متر ، فكم الفرق بين المسافة التي قطعها كل منهما تقريباً ؟					
	أ	١٠٠ متر تقريبا	ب	٢٠٠ متر تقريبا	ج	صفر متر تقريبا
١٠	الترتيب الصحيح للخطوات الأربع لحل المسألة					
	أ	افهم _ خطط _ حل _ تحقق	ب	افهم _ حل _ خطط _ تحقق	ج	خطط _ افهم _ حل _ تحقق

السؤال الثاني : حل ما يلي : / ٥

٢٣٣٧ + ٩١١٨	٦٦٨٨ - ٥٩٢	٩٠٠٦ - ٣٣٣

/ ٢

عدد السيارات في منطقة ماجد ٤٥٦ سيارة ،
وعدد السيارة في منطقة خالد ٢٥٢ سيارة ،
فكم يكون مجموع السيارات في المنطقتين ؟

/ ٢

الأرباح التي يحصل عليها بعض التجار بالريال
قم (بترتيبها من الأكثر أرباحاً للأقل ربحاً)

أبو عدنان	٩٨٦٤٤٣
أبو فيصل	٣٥٦٧٤٣١
أبو مشاري	٣٥٣٧٤٣١
أبو سامي	٣٢٩٩٩٩٩

/ ١

يحصل مهند في الساعة على مبلغ ٣٥ ريال ، فكم يحتاج ساعة من العمل للحصول على مبلغ ١٧٥ ريال ؟

.....

/ ٢٠

اختبار رابع ابتدائي _ الفترة _ الفصل ١ و ٢

اسم الطالب : .....

نموذج الإجابة

السؤال الأول : اختر الإجابة الصحيحة : / ١٠

١	واحد وثلاثين مليون و مئة و سبعة وسبعين ألفاً و ست مئة وخمسة	٣١ ١٧٧ ٦٠٥				
	أ	٣١١٧٧٦٠٥	ب	٣٠١١٧٧٦٥	ج	٣١٠٧٧٦٠٥
٢	الصيغة (التحليلية) للعدد ٨٥٠٤	= ٤ + ٠٠ + ٥٠٠ + ٨٠٠٠				
	أ	٤ + ٥٠٠ + ٨٠٠٠	ب	٤ + ٥ + ٨	ج	٨ + ٥٠ + ٤٠٠٠
٣	يملك والد سلطان مبلغ ٣٤٥٢١ ريال ، بينما يملك والد علي مبلغ ٣٤٥٣١ ريال ، فأيهما يملك مالاً أكثر ؟					
	أ	متساويان	ب	والد سلطان	ج	والد علي
٤	ضع رقم في الفراغ لتكون الجملة العددية صحيحة	٧٨٥٩٠٦٩ > ٥٩٠٦٩	٩	٧		
	أ	٨	ب	٧	ج	٩
٥	قرب العدد ٦٨٦٤٦ (لأقرب مئة)	≈ ٦٨٦٠٠				
	أ	٦٨٦٠٠	ب	٦٠٠	ج	٧٠٠٠٠
٦	أي من التالي مثال على (خاصية العنصر المحايد) في الجمع	العنصر الذي الجمع هو صفر				
	أ	٨٨ + ٠ = ٨٨	ب	٥ + ٦ = ٥ + ٦	ج	(١ + ٢) + ٧ = ١ + (٢ + ٧)
٧	العدد المناسب في الفراغ	٩ - ٠ = ٩				
	أ	٩	ب	١	ج	٠
٨	قدر ناتج ٣٤٤ + ٣٧٦ (بالتقريب لأقرب مئة)	≈ ٣٠٠ + ٤٠٠				
	أ	٣٠٠ + ٣٠٠ = ٦٠٠	ب	٢٠٠ + ٤٠٠ = ٦٠٠	ج	٣٠٠ + ٤٠٠ = ٧٠٠
٩	مشى الأرنب مسافة ٥٦٧ متر ، ومشى الغزال مسافة ٦٨٩ متر ، فكم الفرق بين المسافة التي قطعها كل منهما تقريباً ؟	نستخدم التقريب	الطرح	٧٠٠ - ٦٠٠ = ١٠٠		
	أ	١٠٠ متر تقريبا	ب	٢٠٠ متر تقريبا	ج	صفر متر تقريبا
١٠	الترتيب الصحيح للخطوات الأربع لحل المسألة					
	أ	افهم _ خطط _ حل _ تحقق	ب	افهم _ حل _ خطط _ تحقق	ج	خطط _ افهم _ حل _ تحقق

حفظ + فهم

السؤال الثاني : حل ما يلي : / ٥

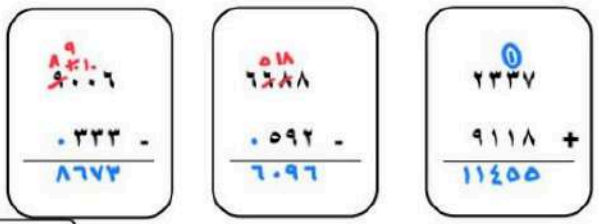

/ ٢

عدد السيارات في منطقة ماجد ٤٥٦ سيارة ، وعدد السيارة في منطقة خالد ٢٥٢ سيارة ، فكم يكون مجموع السيارات في المنطقتين ؟

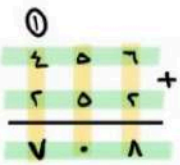

مجموع السيارات في المنطقتين = ٧٠٨ سيارة

/ ٢

الأرباح التي يحصل عليها بعض التجار بالريال
قم (بترتيبها من الأكثر أرباحاً للأقل ربحاً)

أبو عدنان	٩٨٦٤٤٣ (٤)
أبو فيصل	٣٥٦٧٤٣١ (١)
أبو مشاري	٣٥٣٧٤٣١ (٢)
أبو سامي	٣٢٩٩٩٩٩ (٣)

/ ١

يحصل مهند في الساعة على مبلغ ٣٥ ريال ، فكم يحتاج ساعة من العمل للحصول على مبلغ ١٧٥ ريال ؟

هذا الجدول يحتاج إلى ..... ٥ ساعات للحصول على ١٧٥ ريال

الساعة	١	٢	٣	٤	٥
المبلغ	٣٥	٧٠	١٠٥	١٤٠	١٧٥

موقع منهجي
mnhaji.com

		المادة : رياضيات
		الصف : الرابع الابتدائي
		الزمن : ٤٥ دقيقة
		عدد الأوراق : ٢

اختبار منتصف الفصل الدراسي الاول للصف الرابع الابتدائي لعام ١٤٤٨هـ

الاسم	.....	الصف ٤ /	الدرجة المستحقة	
				٢٠

السؤال الأول: اختار الإجابة الصحيحة لكل مما يلي بتضليل الحرف الدال عليها:

١	الصيغة القياسية للعدد خمس مئة وسته وعشرون ألفاً واثنا عشر:							
	أ	٥٢٦٠١٢	ب	٥٢٦١٢	ج	١٢٥٢٦	د	١٢٠٥٢٦
٢	العدد ١٥٤٦٢ مقربا لاقرب ألف يساوي:							
	أ	١٥٠	ب	١٥٠٠٠	ج	١٥	د	١٥٤٦٠
٣	الصيغة التحليلية للعدد ٣٢٤٠٥ :							
	أ	٥+٤٠٠+٢٠٠٠+٣٠٠٠٠	ب	٤٠+٣٠٠+٤	ج	٥+٤٠+٢٠٠+٣٠٠٠	د	٢+٣+٤+٥
٤	الصيغة القياسية للعدد (٥+٢٠+٢٠٠+٦٠٠٠+٥٠٠٠٠+١٠٠٠٠٠) هي:							
	أ	١٥٦٢٢٥	ب	٥٢٢٦٥١	ج	٥٢٦١	د	٥١٢٥٣٢
٥	القيمة المنزلية للرقم ٧ في العدد ١٢٧٣٥٥٦٦ هي							
	أ	٧٠٠	ب	٧٠٠٠٠٠	ج	٧٠٠٠	د	٧٠
٦	الرقم الذي يجعل الجملة صحيحة ٢٣ +(٤+٧) = (□ +٧) + ٤ هو:							
	أ	٨	ب	٢٣	ج	٧	د	١١
٧	قاعدة الطرح المستخدمة : ٣٩ - ٣٩ = ٠ هي :							
	أ	العنصر المحايد	ب	طرح الصفر من العدد	ج	طرح العدد من نفسه	د	الابدال
٨	أفضل تقدير للعملية. ٣٥ + ٤٢ هو :							
	أ	٨٠	ب	٧٠	ج	٧	د	٧٧
٩	تستغرق هند ٥ دقائق لتغليف هدية . كم دقيقة تستغرقها لتغليف ١٠ هدايا ؟							
	أ	٥٠	ب	١٠	ج	١٥	د	٥
١٠	للتحقق من عملية الطرح استخدم عملية :							
	أ	الطرح	ب	الجمع	ج	الضرب	د	القسمة

يتبع ←

السؤال الثاني: | ١٠ |

(أ) أوجد ناتج العمليات التالية

٤٦٣ + ٨٥ = _____	٩٣٧ - ٧٢٩ = _____

(ب) قارن مستعملًا (< ، > ، =):

(١) ٣٤٢٧ ◯ ٣٤٧٢

(٢) ٨+٧٠+٢٠٠ ◯ ٢+٨٠+٧٠٠

(٣) ١٤٦٧١ ◯ ٣١٢١١٢

(٤) ٥٥٦٨ ◯ ٥٥٦٨

(ج) رتب الأعداد التالية من الأكبر الى الأصغر

٣٤٥٦ ، ٤٣٥٦ ، ٣٤٦٥ ، ٦٥٤٣

_____ _____ _____ _____

(د) اكتب العدد الآتي بالصيغة اللفظية

٥٤٦٢١١٢

_____

_____

تمت الأسئلة مع تمنياتي لكم بالتوفيق

المادة : رياضيات	
الصف : الرابع الابتدائي	
الزمن : ٤٥ دقيقة	
عدد الأوراق : ٢	

اختبار منتصف الفصل الدراسي الاول للصف الرابع الابتدائي لعام ١٤٤٨هـ

الاسم	.....	الصف ٤ /	الدرجة المستحقة	
				٢٠

نموذج إجابة

١٠

السؤال الأول: اختار الإجابة الصحيحة لكل مما يلي بتضليل الحرف الدال عليها:

١	الصيغة القياسية للعدد خمس مئة وسته وعشرون ألفاً واثنا عشر:								كل فقرة بدرجة
	أ	٥٢٦٠١٢	ب	٥٢٦١٢	ج	١٢٥٢٦	د	١٢٠٥٢٦	
٢	العدد ١٥٤٦٢ مقربا لاقرب ألف يساوي:								
	أ	١٥٠	ب	١٥٠٠٠	ج	١٥	د	١٥٤٦٠	
٣	الصيغة التحليلية للعدد ٣٢٤٠٥ :								
	أ	٥+٤٠٠+٢٠٠٠+٣٠٠٠٠	ب	٥+٤٠+٢٠٠+٣٠٠	ج	٥+٤٠+٢٠٠+٣٠٠٠	د	٢+٣+٤+٥	
٤	الصيغة القياسية للعدد (٥+٢٠+٢٠٠+٦٠٠٠+٥٠٠٠٠+١٠٠٠٠٠) هي:								
	أ	١٥٦٢٢٥	ب	٥٢٢٦٥١	ج	٥٢٦١	د	٥١٢٥٣٢	
٥	القيمة المنزلية للرقم ٧ في العدد ١٢٧٣٥٥٦٦ هي								
	أ	٧٠٠٠٠٠	ب	٧٠٠٠٠	ج	٧٠٠٠	د	٧٠٠	
٦	الرقم الذي يجعل الجملة صحيحة ٢٣ +(٧+٤) = (□ +٧) + ٤ هو:								
	أ	٨	ب	٢٣	ج	٧	د	١١	
٧	قاعدة الطرح المستخدمة : ٣٩ - ٣٩ = ٠ هي :								
	أ	العنصر المحايد	ب	طرح الصفر من العدد	ج	طرح العدد من نفسه	د	الابدال	
٨	أفضل تقدير للعملية ٣٥ + ٤٢ هو :								
	أ	٨٠	ب	٧٠	ج	٧	د	٧٧	
٩	تستغرق هند ٥ دقائق لتغليف هدية . كم دقيقة تستغرقها لتغليف ١٠ هدايا ؟								
	أ	٥٠	ب	١٠	ج	١٥	د	٥	
١٠	للتحقق من عملية الطرح استخدم عملية :								
	أ	الطرح	ب	الجمع	ج	الضرب	د	القسمة	

يتبع

السؤال الثاني: | ١٠ |

(أ) أوجد ناتج العمليات التالية — درجتان لكل فقرة

١ ٤٦٣ + ٨٥ ٥٤٨	٩٣٧ - ٧٢٩ ٢٠٨

(ب) قارن مستعملًا (< ، > ، =): — نصف درجة لكل فقرة

(١) ٣٤٢٧ (<) ٣٤٧٢

(٢) ٨+٧٠+٢٠٠ (>) ٢+٨٠+٧٠٠

(٣) ١٤٦٧١ (<) ٣١٢١١٢

(٤) ٥٥٦٨ (=) ٥٥٦٨

(ج) رتب الأعداد التالية من الأكبر الى الأصغر — نصف درجة لكل فقرة

٣٤٥٦ ، ٤٣٥٦ ، ٣٤٦٥ ، ٦٥٤٣

٦٥٤٣ ٤٣٥٦ ٣٤٦٥ ٣٤٥٦

(د) اكتب العدد الآتي بالصيغة اللفظية — درجتان

٥٤٦٢١١٢

خمسة مليون و أربع مئة و اثنان وستون ألف و مئة و اثنا عشر

تمت الأسئلة مع تمنياتي لكم بالتـ

موقع منهجي
mnhaji.com

اختبار الفترة _ رابع ابتدائي _ الفصل ١ و ٢

٢٠ /

أسم الطالب :

السؤال الأول : أختر الإجابة الصحيحة

١	الصيغة (التحليلية) للعدد ٥٠٨٤					
	أ	٥ + ٨ + ٤	ب	٤ + ٨٠ + ٥٠٠٠	ج	٥ + ٨٠ + ٤٠٠٠
٢	١٨ مليون و١٠٥ ألف و٧٠٠					
	أ	٧٠٠١٠٥١٨	ب	١٨١٠٥٧٠٠	ج	١٠٥٧٠٠١٨
٣	(قدر) الناتج بالتقريب الى أقرب (عشرة) ١٢٦ ــ ٢٤					
	أ	١٢٠ ــ ٢٠ = ١٠٠	ب	١٣٠ ــ ٢٠ = ١١٠	ج	١٣٠ ــ ٣٠ = ١٠٠
٤	العدد المفقود و الخاصية المستعملة في ١٢ + □ = ١٢					
	أ	(٠) العنصر المحايد	ب	(٠) الإبدال	ج	(٠) التجميع
٥	٢٧ + ٣٣ + ١٥ =					
	أ	٧٥	ب	٦٥	ج	٥٥

السؤال الثاني : ضع علامة (✓) أو علامة (✗)

الخاصية المستعملة في ٢٣ + ١٠ = ١٠ + ٢٣ (الإبدال)	( )
اسم منزلة الرقم الذي تحته خط ٢٠٩٤٣٦٢ (مئات الألوف)	( )
٢٣٦٥٧ > ٤٢٥٤	( )

السؤال الثالث : حل ما يلي

رتب من الأكبر الى الأصغر

٢٥٢٦٧٨٩
٢٧٢٦٧٨٩
٢٥٢٦٧٨١

يبيع محمد ألعاب ، ثمن اللعبة ٥ ريالات ، إذا جمع ٣٠ ريالا ، فكم باع لعبة ؟

..... لعبة

٢٤٥
+ ٩٠٥

١٦٣٢
- ٣٠٣

موقع منهجي
mnhaji.com

اختبار الفترة _ رابع ابتدائي _ الفصل ١ و ٢

/ ٢٠

نموذج الإجابة

أسم الطالب :

/ ١٠

السؤال الأول : أختر الإجابة الصحيحة

١	الصيغة (التحليلية) للعدد ٥٠٨٤					
	أ	٥ + ٨ + ٤	ب	٤ + ٨٠ + ٥٠٠٠	ج	٥ + ٨٠ + ٤٠٠٠
٢	١٨ مليون و١٠٥ ألف و٧٠٠					
	أ	٧٠٠١٠٥١٨	ب	١٨١٠٥٧٠٠	ج	١٠٥٧٠٠١٨
٣	(قدر) الناتج بالتقريب الى أقرب (عشرة) ١٢٦ ــ ٢٤					
	أ	١٢٠ ــ ٢٠ = ١٠٠	ب	١٣٠ ــ ٢٠ = ١١٠	ج	١٣٠ ــ ٣٠ = ١٠٠
٤	العدد المفقود و الخاصية المستعملة في ١٢ + □ = ١٢					
	أ	(٠) العنصر المحايد	ب	(٠) الإبدال	ج	(٠) التجميع
٥	٢٧ + ٣٣ + ١٥ =					
	أ	٧٥	ب	٦٥	ج	٥٥

/ ٣

السؤال الثاني : ضع علامة (✓) أو علامة (✗)

الخاصية المستعملة في ٢٣ + ١٠ = ١٠ + ٢٣ (الإبدال)	(✓)
اسم منزلة الرقم الذي تحته خط ٢٠٩٤٣٦٢ (مئات الألوف)	(✗)
٢٣٦٥٧ > ٤٢٥٤	(✓)

/ ٧

السؤال الثالث : حل ما يلي

رتب من الأكبر الى الأصغر

٢٥٢٦٧٨٩ > ٢
٢٧٢٦٧٨٩ > ١
٢٥٢٦٧٨١ > ٣

يبيع محمد ألعاب ، ثمن اللعبة ٥ ريالات ، إذا جمع ٣٠ ريالا ، فكم باع لعبة ؟

٦ ..... لعبة

٢٤٥
+ ٩٠٥
١١٥٠

١٦٣٢
- ٣٠٣
١٩٣٥

موقع منهجي
mnhaji.com

مجموع الدرجات
٢٠

التاريخ : ..... / ..... /١٤٤٨هـ
المادة : رياضيات
الزمن : ٤٥ دقيقة

اختبار مادة الرياضيات للصف الرابع الابتدائي (منتصف الفصل الدراسي الأول ١٤٤٨هـ

اسم الطالب	.....	الصف	رابع / .....

❖ السؤال الأول

	١٠

أ اكتب القيمة المنزلية للرقم الذي تحته خط:

٣٢٠٨٦ ..... ٧٨٣٨٧ ..... ٩٢٦٧٩٤ .....

ب اكتب العدد التالي بالصيغة التحليلية :

٣٧٩١ .....

ج قارن بين العددين في كل مما يلي مستعملاً (> ، < ، =):

١٧٩٨ ◯ ١٧٨٩ ٣٠٣٠ ◯ ٣٠٣٠ ٥٩٨٠ ◯ ٥٠٩٠

د قرّب كل عدد إلى أقرب قيمة منزلية معطاة:

٩٢٧ ، عشرة ..... ٤٢٨٢ ، ألف .....

❖ السؤال الثاني

	١٠

أ اكتب العدد المفقود واكتب الخاصية أو القاعدة التي استعملتها:

١٩ − □ = ١٩ ..... ٧٤ + □ = ٦٨ + ٧٤ .....

ب أوجد ناتج العمليات التالية :

٣٦٤ + ٥٨ =

٤٠٨ − ٣٦ =

ج معَ عائشةَ ٩٥ ريالًا. إذَا اشترتْ هديَّةً لأُمِّها بـِ ٢٥ ريالًا، فكمْ ريالًا يتبقَّى معَها؟

.....

معلمة المادة :

موقع منهجي
mnhaji.com

نموذج الإجابة

مجموع الدرجات
٢٠

التاريخ : ..... / ..... /١٤٤٨هـ
المـادة : رياضيات
الزمـن : ٤٥ دقيقة

اختبار مادة الرياضيات للصف الرابع الابتدائي (منتصف الفصل الدراسي الأول ١٤٤٨هـ

اسم الطالب	.....	الصف	رابع / .....

❖ السؤال الأول

	١٠

أ اكتب القيمة المنزلية للرقم الذي تحته خط:

٣٢٠٨٦ ٨٠ ٧٨٣٨٧ ٣٠٠ ٩٢٦٧٩٤ ٩٠٠٠٠٠

ب اكتب العدد التالي بالصيغة التحليلية :

٣٧٩١ ١ + ٩٠ + ٧٠٠ + ٣٠٠٠

ج قارن بين العددين في كل مما يلي مستعملاً (> ، < ، =):

١٧٩٨ [<] ١٧٨٩ ٣٠٣٠ [=] ٣٠٣٠ ٥٩٨٠ [<] ٥٠٩٠

د قرّب كل عدد إلى أقرب قيمة منزلية معطاة:

٩٢٧ ، عشرة ٩٣٠ ٤٢٨٢ ، ألف ٤٠٠٠

❖ السؤال الثاني

	١٠

أ اكتب العدد المفقود واكتب الخاصية أو القاعدة التي استعملتها:

١٩ − [٠] = ١٩ قاعدة طرح الصفر

٧٤ + ٦٨ = ٦٨ + [٦٨] ٧٤ خاصية الإبدال

ب أوجد ناتج العمليات التالية :

١١
٣٦٤
+ ٥٨
٤٢٢

٣١٠
٤٧٨
− ٣٦
٣٧٢

ج معَ عائشةَ ٩٥ ريالًا. إذَا اشترتْ هديَّةً لأُمِّها بـِ ٢٥ ريالًا، فكمْ ريالًا يتبقَّى معَها؟

المتبقي = ٩٥ ـ ٢٥ = ٧٠ ريالا

معلمة المادة :

موقع منهجي
mnhaji.com

اختبار الفترة	الأولى	الفصل الدراسي	الأول ١٤٤٨هـ	اسم الطالبة		الدرجة	
المادة	الرياضيات	الصف	الرابع	معلمة المادة		التوقيع	

السؤال الأول: ضعي علامة (√) أمام العبارة الصحيحة وعلامة (X) أما العبارة الخاطئة :

	العبارة	الإجابة
١	عند تقريب العدد ٦٩٤٥٣ إلى أقرب ألف يكون الناتج ٦٩٠٠٠	
٢	القيمة المنزلية للرقم ٣ في العدد ٤٣٩٨٠ هي ٣٠٠٠	
٣	(ثمانية ملايين وستمائة وثلاث الاف وسبعمائة وخمس وخمسين) يمثل الصيغة اللفظية للعدد (٨٦٠٣٧٥٥)	
٤	اذااختلف عدد الارقام فان العدد الذي عدد ارقامة اكثر هو الأصغر.	
٥	يكتب العدد " مئتان وخمسة آلاف وأربعة وعشرون " بالصورة القياسية على الشكل ٢٠٥٢٤	

السؤال الثاني: أكملي الفراغات التالية :

م	العبارة
١.	القيمة المنزلية للرقم ٧ في العدد ١٧٠٦٨٥ هي .....
٢.	إذا كان فيصل يمارس السباحة ٢٠ دقيقة يوميا عدا يوم السبت. فسيكون عدد الدقائق التي يقضيها فيصل أسبوعيا في السباح .....
٣.	قارن بين العددين بوضع الإشارة المناسبة في الفراغ : ٢٥٠٠٣٨٦ ..... ٢٥٠٣٨٦٠
٤.	ناتج تقريب العدد ٣٢٦٢١٠٨ إلى أقرب ألف هو ....
٥.	إذا كان ثمن علبة حلوى ٨ ريالات ، فإن عدد علب الحلوى من نفس النوع التي يمكن شراؤها بمبلغ ٥٦ ريالا..... علب

السؤال الثالث: اختاري الاجابة الصحيحة:

١	اختر الصيغة اللفظية للعدد ٤٥٠٥						
	أ	أربعة آلاف وخمسة وخمسون	ب	أربعمئة وخمسة وخمسون	ج	أربعة آلاف و خمسمئة وخمسة	
٢	اشترت هند (٥) لعب واعطتها صديقتها (٣) لعب فكم عدد اللعب التي لديها ؟						
	أ	٥+٣=٨	ب	٥+٣	ج	٥ × ٣ = ١٥	
٣	تستغرق مريم ٥ دقائق لتغليف هدية . كم دقيقة تستغرقها لتغليف ١٠ هدايا ؟						
	أ	٥٠	ب	٢٥	ج	١٥	
٤	القيمة المنزلية للرقم ٧ في العدد التالي ٤٦٥٢٠٧ هو						
	أ	آحاد	ب	عشرات	ج	مئات	
٥	الصيغة اللفظية للعدد ٤٣٩٨٠ هي						
	أ	ثلاثة واربعون الف وتسع مئة وثمانون	ب	اربعة الاف وتسع مئة وثمانون	ج	تسع مئة وثمانون	
٦	قارن بين العددين ٣٧٥٩ ..... ٣٤٥٦						
	أ	<	ب	=	ج	>	
٧	أوجد ناتج ٧ × ١٠٠						
	أ	٧٠٠	ب	٧٠٠٠	ج	٧٠٠٠٠٠	
٨	اكتبي العدد :تسعة ملايين ومئتين وسبعة واربعين الفاً وثمان مئة وستة عشربالصيغة القياسية						
	أ	٩٢٤٧٨١٦	ب	٩٢٧٤٨١٦	ج	٩٢٢٤٧٨١٦	
٩	القيمة المنزلية للرقم ٩ في هذا العدد ٩٨٧٦٣٢٠						
	أ	آحاد الملايين ٩٠٠٠٠٠٠	ب	مئات الألوف ٩٠٠٠٠٠	ج	آحاد الألوف ٩٠٠٠	
١٠	القيمة المنزلية للرقم ٨ في العدد٥٩٨٣٣هو						
	أ	٨٠	ب	٨٠٠٠	ج	٨٠٠	

نموذج الإجابة

اختبار الفترة	الأولى	الفصل الدراسي	الأول ١٤٤٨هـ	اسم الطالبة		الدرجة	
المادة	الرياضيات	الصف	الرابع	معلمة المادة		التوقيع	

السؤال الأول: ضعي علامة (√) أمام العبارة الصحيحة وعلامة (X) أما العبارة الخاطئة :

	العبارة	الإجابة
١	عند تقريب العدد ٦٩٤٥٣ إلى أقرب ألف يكون الناتج ٦٩٠٠٠	√
٢	القيمة المنزلية للرقم ٣ في العدد ٤٣٩٨٠ هي ٣٠٠٠	√
٣	(ثمانية ملايين وستمائة وثلاث الاف وسبعمائة وخمس وخمسين) يمثل الصيغة اللفظية للعدد (٨٦٠٣٧٥٥)	√
٤	اذااختلف عدد الارقام فان العدد الذي عدد ارقامة اكثر هو الأصغر.	×
٥	يكتب العدد " مئتان وخمسة آلاف وأربعة وعشرون " بالصورة القياسية على الشكل ٢٠٥٢٤	×

السؤال الثاني: أكملي الفراغات التالية :

م	العبارة
١.	القيمة المنزلية للرقم ٧ في العدد ١٧٠٦٨٥ هي ..... ٧٠٠٠٠ .....
٢.	إذا كان فيصل يمارس السباحة ٢٠ دقيقة يوميا عدا يوم السبت. فسيكون عدد الدقائق التي يقضيها فيصل أسبوعيا في السباح ..... ١٢٠ .....
٣.	قارن بين العددين بوضع الإشارة المناسبة في الفراغ : ٢٥٠٠٣٨٦ ..... ≥ ٢٥٠٣٨٦٠
٤.	ناتج تقريب العدد ٣٢٦٢١٠٨ إلى أقرب ألف هو ..... ٣٢٦٢٠٠٠ .....
٥.	إذا كان ثمن علبة حلوى ٨ ريالات ، فإن عدد علب الحلوى من نفس النوع التي يمكن شراؤها بمبلغ ٥٦ ريالا..... ٧ ..... علب

السؤال الثالث: اختاري الاجابة الصحيحة:

١	اختر الصيغة اللفظية للعدد ٤٥٠٥					
	أ	أربعة آلاف وخمسة وخمسون	ب	أربعمئة وخمسة وخمسون	ج	أربعة آلاف و خمسمئة وخمسة
٢	اشترت هند (٥) لعب واعطتها صديقتها (٣) لعب فكم عدد اللعب التي لديها ؟					
	أ	٥+٣=٨	ب	٥+٣	ج	٥ × ٣ = ١٥
٣	تستغرق مريم ٥ دقائق لتغليف هدية . كم دقيقة تستغرقها لتغليف ١٠ هدايا ؟					
	أ	٥٠	ب	٢٥	ج	١٥
٤	القيمة المنزلية للرقم ٧ في العدد التالي ٤٦٥٢٠٧ هو					
	أ	آحاد	ب	عشرات	ج	مئات
٥	الصيغة اللفظية للعدد ٤٣٩٨٠ هي					
	أ	ثلاثة واربعون الف وتسع مئة وثمانون	ب	اربعة الاف وتسع مئة وثمانون	ج	تسع مئة وثمانون
٦	قارن بين العددين ٣٧٥٩ ..... ٣٤٥٦					
	أ	≤	ب	=	ج	>
٧	أوجد ناتج ٧ × ١٠٠					
	أ	٧٠٠	ب	٧٠٠٠	ج	٧٠٠٠٠٠
٨	اكتبي العدد :تسعة ملايين ومئتين وسبعة واربعين الفاً وثمان مئة وستة عشربالصيغة القياسية					
	أ	٩٢٤٧٨١٦	ب	٩٢٧٤٨١٦	ج	٩٢٢٤٧٨١٦
٩	القيمة المنزلية للرقم ٩ في هذا العدد ٩٨٧٦٣٢٠					
	أ	آحاد الملايين ٩٠٠٠٠٠٠	ب	مئات الألوف ٩٠٠٠٠٠	ج	آحاد الألوف ٩٠٠٠
١٠	القيمة المنزلية للرقم ٨ في العدد٥٩٨٣٣هو					
	أ	٨٠	ب	٨٠٠٠	ج	٨٠٠

موقع منهجي
mnhaji.com

اسم الطالب : ..... الصف : رابع ابتدائي الدرجة : .....

اختبار نهاية الفصل الأول (القيمة المنزلية) من صفحة ١٣ إلى صفحة ٤٣

السؤال الأول / أُكتبِ القيمةَ المنزليةَ للرَّقمِ الَّذي تحتَهُ خطٌّ: ١

أ/ ٥٩٨٣٣ ب/ ٩٢٦٧٩٤٧

....

السؤال الثاني /أجب عما يلي: ٢

أ/ أُكتبْ العدد (٤٣٩٨٠) بالصِّيغتينِ اللفظيةِ والتَّحليليَّةِ

الصيغة اللفظية: .....

الصيغة التحليلية: .....

ب/ أُكتبِ العددَ التالي بالصِّيغة القياسِيَّةِ :

ثلاثة ملايين وتسعَ مئةٍ وسبعة وستين ألفٍ وخمسَ مئةٍ واثنينِ وخمسينَ : (.....)

السؤال الثالث /قارنْ بينَ العددَيْنِ في كلٍّ مما يأتي مُستعملاً (> ، < ، =) : ٢

أ/ ١٧٩٨ ○ ١٧٨٩ ب/ ٥٠٤٠٢ ○ ٥٠٤٠٦

السؤال الرابع / أجب عما يلي: ١

أ/ رَتِّبِ الدُّوَلَ المُوَضَّحةَ في الجدولِ المجاورِ من الأكبرِ مساحةً إلى الأصغرِ مساحةً.

الدولة	المساحة
العراق	٤٣٧٠٧٢
اليمن	٥٢٧٩٧٠
تركيا	٧٨٠٥٨٠

.....

.....

يتبع خلف الورقة

السؤال الخامس /قَرِّبْ كلَّ عددٍ إلَى أقربِ قيمةٍ منزليَّةٍ مُعطاة: ٢

أ/ ٥٦٨ ؛ عشرة

.....

ب/ ٤٩٣٥٨٠ ؛ ألف

.....

السؤال السادس / اِسْتَعْمِلِ الخطَّةَ المناسبةَ لحلِّ المسألة التَّالية: ١

لدىَ سميرةَ ٣ مجموعاتٍ منَ الملصقاتِ، فِي كلٍّ منْهَا ٦ ملصقاتٍ. ما عددُ الملصقاتِ لدىَ سميرةَ ؟







.....

.....

.....

.....

السؤال السابع / اِسْتَعْمِلِ الخطوات الأربع لحلِّ المسألة التَّالية: ١

تَسْتغرِقُ مريمُ ٥ دقائقَ لِتغليفِ هديَّةٍ. كمْ دقيقةً تستغرقُها لِتغليفِ ١٠ هَدايا ؟

.....

.....

.....

انتهت الأسئلة

موقع منهجي
mnhaji.com

نموذج الإجابة

اسم الطالب : ..... الصف : رابع ابتدائي الدرجة : .....

اختبار نهاية الفصل الأول (القيمة المنزلية) من صفحة ١٣ إلى صفحة ٤٣

السؤال الأول / أكتبِ القيمةَ المنزليةَ للرَّقم الَّذي تحتَهُ خطٌّ: ١

أ/ ٥٩٨٣٣ ..... ٨٠٠

ب/ ٩٢٦٧٩٤٧ ..... ٩٠٠٠٠٠٠

السؤال الثاني /أجب عما يلي: ٢

أ/ أكتبْ العدد (٤٣٩٨٠) بالصّيغتينِ اللفظيةِ والتَّحليليَّةِ

الصيغة اللفظية: ..... ثلاثة وأربعون ألفًا وتسعمئة وثمانون .....

الصيغة التحليلية: ..... ٨٠ + ٩٠٠ + ٣٠٠٠ + ٤٠٠٠٠ .....

ب/ أُكتبِ العددَ التالي بالصّيغة القياسيَّةِ :

ثلاثة ملايين وتسعَ مئةٍ وسبعة وستين ألفٍ وخمسَ مئةٍ واثنينِ وخمسينَ : (..... ٣٩٦٧٥٥٢ .....)

السؤال الثالث /قارنْ بينَ العددَيْن في كلٍّ ممّا يأتي مُستعملاً (> ، < ، =) : ٢

أ/ ١٧٩٨ > ١٧٨٩ ب/ ٥٠٤٠٢ > ٥٠٤٠٦

السؤال الرابع / أجب عما يلي: ١

موقع منهجي
mnhaji.com

أ/ رَتِّبِ الدُّوَلَ المُوَضَّحةَ في الجدولِ المجاورِ من الأكبرِ مساحةً إلى الأصغرِ مساحةً.

تركيا .....

اليمن .....

العراق

الدولة	المساحة
العراق	٤٣٧٠٧٢
اليمن	٥٢٧٩٧٠
تركيا	٧٨٠٥٨٠

يتبع خلف الورقة

السؤال الخامس /قَرِّبْ كلَّ عددٍ إلَى أقربِ قيمةٍ منزليَّةٍ مُعطاة: ٢

أ/ ٥٦٨ ؛ عشرة

٧٠

ب/ ٤٩٣٥٨٠ ؛ ألف

٤٠٠٠

السؤال السادس / اِستَعْمِلِ الخطَّةَ المناسبةَ لحلِّ المسألة التَّالية: ١

لدىَ سميرةَ ٣ مجموعاتٍ منَ الملصقاتِ، فِي كلٍّ منْهَا ٦ ملصقاتٍ. ما عددُ الملصقاتِ لدىَ سميرةَ ؟



٣ × ٦ = ١٨

السؤال السابع / اِستَعْمِلِ الخطوات الأربع لحلِّ المسألة التَّالية: ١

تَسْتغرِقُ مريمُ ٥ دقائقَ لِتغليفِ هديَّةٍ. كمْ دقيقةً تستغرقُها لِتغليفِ ١٠ هَدايا ؟

٥ × ١٠ = ٥٠

انتهت الأسئلة

موقع منهجي
mnhaji.com

٢٠ /

رابع اختبار الفصل ١ _ القيمة المنزلية

السؤال الأول : اختر الإجابة الصحيحة :

١٥ /

١	القيمة المنزلية للرقم الذي تحته حط ٩٠٦٤٧٦٦٩						
	أ	٦٠٠٠٠٠	ب	٦	ج	٦٠٠٠٠٠٠٠	
٢	الصيغة (التحليلية) للعدد ٤٠٧٨ هي						
	أ	٨ + ٧ + ٤	ب	٨ + ٧٠ + ٤٠٠٠	ج	٤ + ٧٠٠ + ٨٠٠٠	
٣	سبعة وخمسين مليوناً و مئتان وثمانية عشر ألفاً و أربع وأربعين (بالصيغة القياسية)						
	أ	٥٧٢١٨٠٤٤	ب	٥٧٢١٨٤٤	ج	٥٧٠٢١٨٠٤٤	
٤	٢٤٠٩٥٣٦٦ ◯ ٢٤٠٩٦٣٩٩						
	أ	<	ب	>	ج	=	
٥	طول شارع الثقافة ٢٣٤٢ متر ، بينما طول شارع الياسمين ٢٣٥٢ متراً ، أي الشارعين أطول ؟						
	أ	متساويان	ب	الثقافة	ج	الياسمين	
٦	قرب العدد ٣٤٦٧ ؛ لأقرب (مئة)						
	أ	٣٠٠٠	ب	٣٥٠٠	ج	٣٤٠٠	
٧	أختر رقم في الفراغ لتكون الجملة صحيحة ٥٧٨٩٧ < ٠٠٠٠						
	أ	٥	ب	٤	ج	٦	
٨	العدد الذي يكون فيه الرقم ٤ قيمته المنزلية هي ٤٠٠٠						
	أ	٣٤٩٨	ب	٤٥٦٨	ج	٦٧٨٤٦٧	
٩	الخطوة الثانية من خطوات حل المسألة						
	أ	أفهم	ب	خطط	ج	حل	
١٠	٧٠٠٠٩ بالصيغة اللفظية						
	أ	سبعون ألفاً وتسعة	ب	سبعة آلاف وتسعة	ج	سبع مئة الف وتسعة	

السؤال الثاني : حل ما يلي :

٥ /

أسعار بعض السيارات
(رتب الأسعار من الأعلى إلى الأقل سعراً)

السوداء	١٢٤١١٣
الحمراء	١٢٤١٢٣
الزرقاء	١٠٥٣٤٥
البيضاء	٩٩٤٧٨

جمعت ريم في الأسبوع الأول ٤ ريالات ، وفي الأسبوع الثاني ٨ ريالات ، وفي الأسبوع الثالث ١٢ ريال ، اذا استمرت على هذا النمط ، فكم تكون جمعت في الأسبوع السادس ؟

.....

أكتب عدد من ٦ أرقام أكبر من العدد ٦٤٧٥٣٨

.....

ضع المناسب في الفراغ

٧ + ٥٠ + ... + ٦٠٠٠٠ = ٦٤٠٥٧

٢٠ /

رابع اختبار الفصل ١ _ القيمة المنزلية

نموذج الإجابة

١٥ /

السؤال الأول : اختر الإجابة الصحيحة :

١	القيمة المنزلية للرقم الذي تحته حط ٩٠٦٤٧٦٦٩					
	أ	٦٠٠٠٠٠	ب	٦	ج	٦٠٠٠٠٠٠٠
٢	الصيغة (التحليلية) للعدد ٤٠٧٨ هي					
	أ	٨ + ٧ + ٤	ب	٨ + ٧٠ + ٤٠٠٠	ج	٤ + ٧٠٠ + ٨٠٠٠
٣	سبعة وخمسين مليوناً و مئتان وثمانية عشر ألفاً و أربع وأربعين (بالصيغة القياسية)					
	أ	٥٧٢١٨٠٤٤	ب	٥٧٢١٨٤٤	ج	٥٧٠٢١٨٠٤٤
٤	٢٤٠٩٥٣٦٦ < ٢٤٠٩٦٣٩٩					
	أ	<	ب	>	ج	=
٥	طول شارع الثقافة ٢٣٤٢ متر ، بينما طول شارع الياسمين ٢٣٥٢ متراً ، أي الشارعين أطول ؟					
	أ	متساويان	ب	الثقافة	ج	الياسمين
٦	قرب العدد ٣٤٦٧ ؛ لأقرب (مئة)					
	أ	٣٠٠٠	ب	٣٥٠٠	ج	٣٤٠٠
٧	أختر رقم في الفراغ لتكون الجملة صحيحة ٥٧٨٩٧ > ٥٠٠٠٠					
	أ	٥	ب	٤	ج	٦
٨	العدد الذي يكون فيه الرقم ٤ قيمته المنزلية هي					
	أ	٣٤٩٨	ب	٤٥٦٨	ج	٦٧٨٤٦٧
٩	الخطوة الثانية من خطوات حل المسألة					
	أ	أفهم	ب	خطط	ج	حل
١٠	٧٠٠٠٩ بالصيغة اللفظية					
	أ	سبعون ألفاً وتسعة	ب	سبعة آلاف وتسعة	ج	سبع مئة ألف وتسعة

السؤال الثاني : حل ما يلي :

٥ /

أسعار بعض السيارات
(رتب الأسعار من الأعلى إلى الأقل سعراً)

السوداء	١٢٤١١٣
الحمراء	١٢٤١٢٣
الزرقاء	١٠٥٣٤٥
البيضاء	٩٩٤٧٨

الحمراء ، السوداء ، الزرقاء ، البيضاء

جمعت ريم في الأسبوع الأول ٤ ريالات ، وفي الأسبوع الثاني ٨ ريالات ، وفي الأسبوع الثالث ١٢ ريال ، اذا استمرت على هذا النمط ، فكم تكون جمعت في الأسبوع السادس ؟

الأسبوع	١	٢	٣	٤	٥	٦
الريالات	٤	٨	١٢	١٦	٢٠	٢٤

ستجمع ريم مبلغ ٢٤ ريالاً

أكتب عدد من ٦ أرقام أكبر من العدد ٦٤٧٥٣٨

.....

ضع المناسب في الفراغ

٧ + ٥٠ + ٦٠٠٠٠ + ٤٠٠٠ = ٦٤٠٥٧

موقع منهجي
mnhaji.com

/ ٢٠

رابع ابتدائي _ اختبار الفصل ٢ _ الجمع و الطرح

/ ٤

١	أي الأمثلة من التالي مثال على (خاصية الإبدال)					
	أ	٠ + ٩ = ٩	ب	٣٤ + ٥ = ٥ + ٣٤	ج	١ + (٢ + ٣) = (١ + ٢) + ٣
٢	(التقدير) الصحيح لناتج ٣٤٩ + ٣٣٧٨ بالتقريب (لأقرب مئة)					
	أ	٣٠٠ + ٣٤٠٠ = ٣٧٠٠	ب	٣٠٠ + ٣٠٠٠ = ٣٣٠٠	ج	٣٠٠ + ٣٣٠٠ = ٣٦٠٠
٣	العدد المفقود في الجملة العددية لتصبح صحيحة ٨٩ - ☐ = ٠					
	أ	٠	ب	٨٩	ج	١٨٩
٤	(التقدير) الصحيح لناتج ٥٣ - ٤٦ بالتقريب (لأقرب عشرة)					
	أ	٥٠ _ ٥٠ = ٠	ب	٥٠ _ ٤٠ = ١٠	ج	٦٠ _ ٥٠ = ١٠

/ ٣

ضع علامة ✓ أمام العبارة الصحيحة و علامة ✗ أمام العبارة الغير صحيحة

العنصر المحايد الجمعي هو ١ ( )

٤٥ _ ٤٥ = ٠ القاعدة (طرح عدد من نفسه) ( )

(٨ + ٣) + ٥ = ٨ + (٣ + ٥) الخاصية (التجميعية) ( )

/ ٣

أكتب العدد المفقود	أحسب ذهنياً
٤٨ + ٩ = ☐ + ٤٨	٤٤ + ٣٥ + ٢١ = ...
٣ + (٧ + ٥) = (٣ + ☐) + ٥	٣٦ + ٥١ + ٤٧ = ...

/ ١٠

الجدول يوضع ثمن بعض الأشياء التي قام فهد بشرائها ، فكم تقريباً دفع من المال لشرائها ؟

حدد هل نحتاج الجواب (الدقيق أم التقديري)

المشتريات	حذاء	بدلة	كرة
الثمن بالريال	١٨	٣٦	١٣

عدد زوار متجر الألعاب ٣٥٦ زائر ، وعدد زوار متجر الأزياء ٥٠٩ زائر ، فكم يكون مجموع الزائرين للمتجرين ؟

٦٧٨٩
+ ٧٨٩

مجموع درجات ماجد في مادة العلوم ٨٨ درجة ، اذا حصل في اختبار النهائي ٣٥ درجة ، وفي اختبار الفترة ٢٠ درجة ، وباقي الدرجات لأعمال السنة ، فكم تكون درجة أعمال السنة ؟

٢٣٥٤
- ١٦٦

طول شارع الزهور ٢٠٠٩ متر ، وطول شارع المشاة ٦٤٤ متر ، فكم فرق الطول بين الشارعين ؟

٤٠٠٣
- ١١١

٢٠ /

رابع ابتدائي _ اختبار الفصل ٢ _ الجمع و الطرح

نموذج الإجابة

٤ /

١	أي الأمثلة من التالي مثال على (خاصية الإبدال)				
	أ	٠ + ٩ = ٩	ب	٣٤ + ٥ = ٥ + ٣٤	ج ١ + (٢ + ٣) = (١ + ٢) + ٣
٢	(التقدير) الصحيح لناتج ٣٤٩ + ٣٣٧٨ بالتقريب (لأقرب مئة)				
	أ	٣٠٠ + ٣٤٠٠ = ٣٧٠٠	ب	٣٠٠ + ٣٠٠٠ = ٣٣٠٠	ج ٣٠٠ + ٣٣٠٠ = ٣٦٠٠
٣	العدد المفقود في الجملة العددية لتصبح صحيحة ٨٩ - ٨٩ = ٠				
	أ	٠	ب	٨٩	ج ١٨٩
٤	(التقدير) الصحيح لناتج ٥٣ - ٤٦ بالتقريب (لأقرب عشرة)				
	أ	٥٠ – ٥٠ = ٠	ب	٥٠ – ٤٠ = ١٠	ج ٦٠ – ٥٠ = ١٠

٣ /

ضع علامة ✓ أمام العبارة الصحيحة و علامة ✗ أمام العبارة الغير صحيحة

العنصر المحايد الجمعي هو ١ ← صفر (✗)

٤٥ – ٤٥ = ٠ القاعدة (طرح عدد من نفسه) (✓)

(٨ + ٣) + ٥ = ٨ + (٣ + ٥) الخاصية (التجميعية) (✓)

٣ /

أكتب العدد المفقود	أحسب ذهنياً
٤٨ + ٩ = ٩ + ٤٨	٨٠ + ٢٠
٣ + (٧ + ٥) = (٣ + ٧) + ٥	٤٥ + ٣٥ + ٢٠
	٤٤ + ٣٥ + ٢١ = ٨٠ + ٢٠ = ١٠٠
	٣٦ + ٥١ + ٤٧ = ١٤ + ١٢٠ = ١٣٤
	٦ + ١ + ٧ = ١٤
	٣٠ + ٥٠ + ٤٠ = ١٢٠

١٠ /

الجدول يوضع ثمن بعض الأشياء التي قام فهد بشرائها ، فكم تقريباً دفع من المال لشرائها ؟

حدد هل نحتاج الجواب (الدقيق أم التقديري)

المشتريات	حذاء	بدلة	كرة
الثمن بالريال	١٨	٣٦	١٣

≈ ٢٠ + ٤٠ + ١٠

دفع فهد = ٧٠ ريال تقريباً

عدد زوار متجر الألعاب ٣٥٦ زائر ، وعدد زوار متجر الأزياء ٥٠٩ زائر ، فكم يكون مجموع الزائرين للمتجرين ؟

المطلوب جواب دقيق

٣ ٥ ٦
+ ٥ ٠ ٩
٨ ٦ ٥ شخص = مجموع الزائرين

٦٧٨٩
+ ٠٧٨٩
٧٥٧٨

مجموع درجات ماجد في مادة العلوم ٨٨ درجة ، اذا حصل في اختبار النهائي ٣٥ درجة ، وفي اختبار الفترة ٢٠ درجة ، وباقي الدرجات لأعمال السنة ، فكم تكون درجة أعمال السنة ؟

مجموع الدرجات = ٣٥ + ٢٠ + أعمال السنة
٨٨ = ٥٥ + أعمال السنة
العملية العكسية للجمع هي الطرح
أعمال السنة = ٨٨ – ٥٥
أعمال السنة = ٣٣ درجة

٨٨ – ٥٥ = ٣٣

٢٣٥٤
- ٠١٦٦
٢١٨٨

طول شارع الزهور ٢٠٠٩ متر ، وطول شارع المشاة ٦٤٤ متر ، فكم فرق الطول بين الشارعين ؟

الطرح

٢٠٠٩ – ٠٦٤٤ = ١٣٦٥

الفرق بين الطول للشارعين = ٢٠٠٩ – ٤٤ = ١٣٦٥ متر

٣٨٩٢
- ٠١١١
٣٨٩٢

موقع منهجي
mnhaji.com

الإدارة العام للتعليم بمنطقة
مدرسة

اختبار (الفصل ٢- الجمع والطرح) للصف الرابع الابتدائي الفصل الدراسي الأول

للعام الدراسي ١٤٤٨ هـ

اسم الطالب : .....

١ اكتب العدد المفقود ، واذكر الخاصيةَ أو القاعدة التي استعملتها :

٤٢ + ☐ = ٤٢ خاصية	٩٠ + ٥٠ = ٥٠ + ☐ خاصية	(١٨+١٢) +٧=١٨+ (☐+٧) خاصية .....

٢ العدد المفقود في العملية ٢٣ - ☐ = ٢٣ هو :

أ	ب	ج	د
٠	١	٢	٣

٣ قدر ناتج العمليات التالية بالتقريب إلى أقرب مئة :

٣٢٧ + ٥٧١	..... + ...	٤٢٩١ - ٢١٤١	..... - .....

٤ كان عدد الحضور معرض الكتاب في الأسبوع الأول ١٢٥٢٠ أشخاص وفي الأسبوع الثاني حضر ١٣٤٧٩ شخصا فما عدد الحضور في الاسبوعين معا ؟

أ	ب	ج	د
٢٥٩٩٩	٢٢٤٨٩	٢٥٠٠٠	٢٥٦٩٨

٥ أوجد ناتج الجمع، ثم استعمل التقدير للتحقق من إجابتك :

٧٣٥ + ١٨٢	..... + ...	٣٧٦٩ + ٢٤١١	..... + ...

٦ إطرح ثم تحقق من صحة الطرح مستعمل الجمع :

٥٦٣ - ٢٠١	..... + ...

٧ إذا كان في محفظة وفاء ١٦٥٤ ريالا وفي محفظة اختها ١٥٤٠ ريالا . فكم تزيد نقود وفاء عن نقود اختها ؟

أ	ب	ج	د
١١٢	١١٤	٢١٤	٤١٤



نموذج الإجابة

الإدارة العام للتعليم بمنطقة مدرسة

اختبار (الفصل ٢- الجمع والطرح) للصف الرابع الابتدائي الفصل الدراسي الأول

للعام الدراسي ١٤٤٨ هـ

اسم الطالب : .....

١ اكتب العدد المفقود ، واذكر الخاصيةَ أو القاعدة التي استعملتها :

٤٢ + ٠ = ٤٢	٩٠ + ٥٠ = ٥٠ + ٩٠	(١٨+١٢) +٧=١٨+ (١٢+٧)
خاصية العنصر المحايد	خاصية الابدال	خاصية التجميع

٢ العدد المفقود في العملية ٢٣ - ٠ = ٢٣ هو :

أ	ب	ج	د
٠	١	٢	٣

٣ قدر ناتج العمليات التالية بالتقريب إلى أقرب مئة :

٣٢٧ + ٥٧١	٣٠٠ + ٦٠٠ = ٩٠٠	٤٢٩١ - ٢١٤١	٤٣٠٠ - ٢١٠٠ = ٢٢٠٠

٤ كان عدد الحضور معرض الكتاب في الأسبوع الأول ١٢٥٢٠ أشخاص وفي الأسبوع الثاني حضر ١٣٤٧٩ شخصا فما عدد الحضور في الاسبوعين معا ؟

أ	ب	ج	د
٢٥٩٩٩	٢٢٤٨٩	٢٥٠٠٠	٢٥٦٩٨

٥ أوجد ناتج الجمع، ثم استعمل التقدير للتحقق من إجابتك :

٧٣٥ + ١٨٢ = ٩١٧	٧٠٠ + ٢٠٠ = ٩٠٠	٣٧٦٩ + ٢٤١١ = ٦١٨٠	٤٠٠٠ + ٢٠٠٠ = ٦٠٠٠

٦ إطرح ثم تحقق من صحة الطرح مستعمل الجمع :

٥٦٣ - ٢٠١ = ٣٦٢	٣٦٢ + ٢٠٠ = ٥٦٣

٧ إذا كان في محفظة وفاء ١٦٥٤ ريالا وفي محفظة اختها ١٥٤٠ ريالا . فكم تزيد نقود وفاء عن نقود اختها ؟

أ	ب	ج	د
١١٢	١١٤	٢١٤	٤١٤

موقع منهجي
mnhaji.com

اختبارالفصل ٣ _ رابع ابتدائي _ تنظيم البيانات وعرضها وتفسيرها

التهيئة
اضغط

(٣ _ ١) جمع البيانات وتنظيمها

الجدول يوضح الوان السيارات الموجودة في مواقف سيارات المعلمات (قم بتنظيم هذه البيانات في جدول التكرار والاشارات)

الوان السيارات				
بيضاء	بيضاء	بيضاء	سوداء	سوداء
بيضاء	بيضاء	بيضاء	حمراء	حمراء
بيضاء	بيضاء	بيضاء	حمراء	حمراء
بيضاء	بيضاء		حمراء	حمراء

الوان السيارات	
اللون	الاشارة
ابيض	
اسود	
احمر	

الوان السيارات	
اللون	التكرار
ابيض	
اسود	
احمر	

(٣ _ ٢) خطة حل المسألة

يجمع وليد كل أسبوع ١٥ ريالاً لشراء ساعة قيمتها ١٠٢ ريال ، بعد كم أسبوع يستطيع شراؤها ؟

(٣ _ ٣) التمثيل بالأعمدة



تم سؤال طلاب احد الصفوف عن الرحلة المفضلة (انظر للتمثيل واجب عن التالي)

الرحلة الأقل تفضيلا ..... وعدد طلابها .....

مجموع عدد الطلاب في التمثيل .....

كم يزيد عدد اللذين يفضلون مدينة الألعاب على متحف العلوم .....

الرحلة التي يفضلها ١٣ من الطلاب .....

(٣ _ ٤) التمثيل بالخطوط

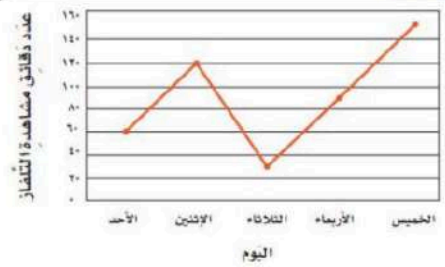

الدقائق التي يشاهد فيها عمر التلفاز خلال الأسبوع (انظر للتمثيل واجب عن التالي)

كم الفرق بين الوقت يومي الخميس والاثنين .....

اليوم الذي شاهد فيه التلفاز لمدة ٩٠ دقيقة هو .....

مجموع دقائق أقل يوم واعلى يوم مشاهدة للتلفاز .....

(٣ _ ٥) التمثيل بالقطاعات الدائرية



استعمل التمثيل وجبة الإفطار للإجابة عن التالي

يتناول اكثر الطلاب ..... ويتناول اقل عدد من الطلاب .....

نصف $\frac{١}{٢}$ الطلاب يفطر ..... ربع $\frac{١}{٤}$ الطلاب يفطر .....

الوجبة التي يتناولها ٦ من الطلاب .....

(٣ _ ٦) الاحتمال

كتبت احرف على بطاقات
(صف احتمال السحب منها دون النظر)

ف	ف	ف	د
أ	أ	ث	ث

ع .....
أ .....
أ أو ث .....
ف أو ث .....
ف أو أ أو د أو ث .....

وضعت احرف كلمة زمزم على بطاقات ، صف بالأعداد احتمال سحب حرف ز دون النظر : .....

بالأعداد ما احتمال سحب حرف ب من كلمة باب .....

نموذج الإجابة

اختبارالفصل ٣ _ رابع ابتدائي _ تنظيم البيانات وعرضها وتفسيرها

التهيئة اضغط

(٣ _ ١) جمع البيانات وتنظيمها

الجدول يوضح الوان السيارات الموجودة في مواقف سيارات المعلمات (قم بتنظيم هذه البيانات في جدول التكرار والاشارات)

الوان السيارات				
بيضاء	بيضاء	بيضاء	سوداء	سوداء
بيضاء	بيضاء	بيضاء	حمراء	حمراء
بيضاء	بيضاء	بيضاء	حمراء	حمراء
بيضاء	بيضاء		حمراء	حمراء

الوان السيارات	
اللون	الاشارة
ابيض	𝍸 𝍸 𝍸 𝍸 I
اسود	II
احمر	𝍸 𝍸 I

الوان السيارات	
اللون	التكرار
ابيض	١١
اسود	٣
احمر	٦

(٣ _ ٢) خطة حل المسألة

يجمع وليد كل أسبوع ١٥ ريالاً لشراء ساعة قيمتها ١٠٢ ريال ، بعد كم أسبوع يستطيع شراؤها ؟

الأسبوع	١	٢	٣	٤	٥	٦	٧
المبلغ	١٥	٣٠	٤٥	٦٠	٧٥	٩٠	١٠٥

عند الجدول يستطيع شراء الساعة في الأسبوع السابع .

(٣ _ ٣) التمثيل بالأعمدة

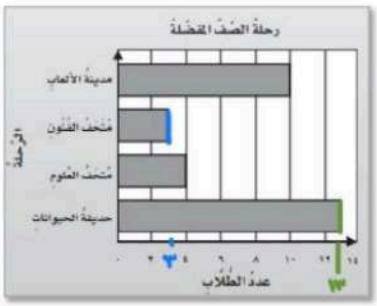

تم سؤال طلاب احد الصفوف عن الرحلة المفضلة (انظر للتمثيل واجب عن التالي)

الرحلة الأقل تفضيلا ..... متحف الفنون ..... وعدد طلابها ..... ٣ طلاب .....

مجموع عدد الطلاب في التمثيل ..... ١٣ + ٤ + ٣ + ١٠ = ٣٠ + ١٠ = ٤٠ طالب .....

كم يزيد عدد اللذين يفضلون مدينة الألعاب على متحف العلوم ..... ١٠ - ٤ = ٦ طلاب .....

(يبحث عن الفرق (الطرح)) ١٠ ٤

الرحلة التي يفضلها ١٣ من الطلاب .....

رحلة حديقة الحيوانات .

(٣ _ ٤) التمثيل بالخطوط

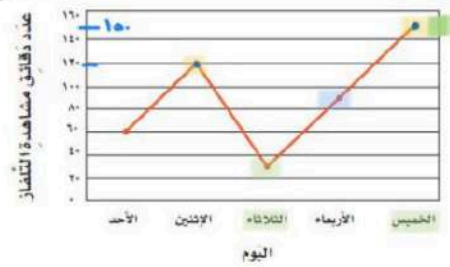

الدقائق التي يشاهد فيها عمر التلفاز خلال الأسبوع (انظر للتمثيل واجب عن التالي)

كم الفرق بين الوقت يومي الخميس والاثنين ..... ١٥٠ - ١٢٠ = ٣٠ دقيقة .....

الفرق = (-) ١٥٠ ١٢٠

اليوم الذي شاهد فيه التلفاز لمدة ٩٠ دقيقة هو ..... يوم الأربعاء .....

مجموع دقائق أقل يوم واعلى يوم مشاهدة للتلفاز ..... ٣٠ + ١٥٠ = ١٨٠ دقيقة .....

٣٠ ١٥٠

(٣ _ ٥) التمثيل بالقطاعات الدائرية



استعمل التمثيل وجبة الإفطار للإجابة عن التالي

يتناول اكثر الطلاب ..... الحليب ..... ويتناول اقل عدد من الطلاب ..... ماء .....

نصف $\frac{١}{٢}$ الطلاب يفطر الحليب . ربع $\frac{١}{٤}$ الطلاب يفطر عصير البرتقال .....

الوجبة التي يتناولها ٦ من الطلاب ..... عصير التفاح .....

(٣ _ ٦) الاحتمال

كتبت احرف على بطاقات (صف احتمال السحب منها دون النظر)

ف	ف	ف	د
أ	أ	ث	ث

ع ..... مستحيل .....

أ ..... أقل احتمالاً .....

أ أو ث ..... متساوي الإمكانية .....

ف أو ث ..... أكثر احتمالاً .....

ف أو أ أو د أو ث ..... مؤكد .....

وضعت احرف كلمة زمزم على بطاقات ، صف بالأعداد

احتمال سحب حرف ز دون النظر : .....

بالأعداد ما احتمال سحب حرف ب من كلمة باب .....

احتمال سحب (ز) = ٢ / ٤ ← المطلوب / الكل

احتمال سحب (ب) = ٢ / ٣ ← الجزء المطلوب / الكل

موقع منهجي
mnhaji.com

رابع ابتدائي _ اختبار الفصل ٤ _ الأنماط والجبر

/ ٢٠

١ : أي من التالي عبارة عددية

أ	٣ + ٦ = ٩	ب	٣ + ٦	ج	٣ > ٦

٢ : ● ● ● ☆ ☆ تمثِل للجملة العددية

أ	٤ + ٢ = ٦	ب	٦ – ٢ = ٤	ج	٤ – ٢ = ٢

٣ : △ × ٢ = ١٤ ؛ △ =

أ	٧	ب	٨	ج	٩

٤ : ٢٢ – ٦ ◯ ١٣ > ٣ نضع في الفراغ لتكون الجملة العددية صحيحة

أ	+	ب	-	ج	×

مثل كلاً من المسائل التالية و اكتب الجمل والعبارات العددية :

كان للنبي ﷺ ٣ أبناء من الذكور و ٤ من الإناث ، فكم يكون مجموع أولاد النبي ﷺ ؟

العبارة العددية :..... الجملة العددية :.....

الرسم : .....

عدد آيات سورة الشمس ١٥ آية ،اذا حفظ عمر في الظهر ٥ آيات وفي العصر ٧ آيات ، فكم آية بقيت عليه لحفظ السورة كاملة ؟

العبارة العددية :..... الجملة العددية:.....

الرسم : .....

اكتشف القاعدة ثم اكمل الجدول :

القاعدة : .....

المدخلة △	المخرجة □
١٢	١٥
.....	١٧
١٦	١٩
١٨	.....

أكمل الجدول :

القاعدة : △ × ٤

المدخلة △	المخرجة □
٤	
٥	
٦	
٧	

اكمل الجدول :

القاعدة : △ ÷ ٢

المدخلة △	المخرجة □
٨	
١٢	
١٦	
٢٠	

صف النمط الذي تلاحظه : .....

اكتب زوج من المدخلات والمخرجات للقاعدة △ × ٥ = □

.....

ضع (+ أو -) لتكون الجملة العددية صحيحة

٣٣٣ + ١٧ = ٣٥٥ ◯ ٥

أنشأ جدول دالة :

يقوم سامي بالتبرع من كل مال يحصل عليه بملغ ٣ ريالات ، فكم يبقى معه بعد التبرع اذا كان معه ١٠ ، ١٢ ، ١٤ ريال ؟

في الاختبار قام سامي بالحل كما التالي ولكن لم يحصل على الدرجة الكاملة مالسبب ؟

القاعدة : △ - ٥			
△	١٩	٢٤	٢٩
□	١٤	١٩	٢٥

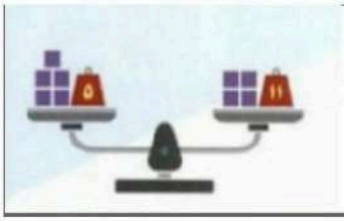

في الميزان المجاور
كم يجب ان يكون وزن المربع الواحد : .....

نموذج الإجابة

رابع ابتدائي _ اختبار الفصل ٤ _ الأنماط والجبر

/ ٢٠

١ : أي من التالي عبارة عددية

أ	٣ + ٦ = ٩	ب	٣ + ٦
ج	٦ > ٣		

٢ : ● ● ● ✿ ✿ تمثل للجملة العددية

أ	٤ + ٢ = ٦	ب	٦ ـ ٢ = ٤
ج	٤ ـ ٢ = ٢		

٣ : △ × ٢ = ١٤ ؛ △ = ٧

أ	٧	ب	٨
ج	٩		

٤ : ٢٢ ـ ٦ > ١٣ (−) ٣ نضع في الفراغ لتكون الجملة العددية صحيحة

أ	+	ب	-
ج	×		

مثل كلاً من المسائل التالية و اكتب الجمل والعبارات العددية :

كان للنبي ﷺ ٣ أبناء من الذكور و ٤ من الإناث ، فكم يكون مجموع أولاد النبي ﷺ ؟

العبارة العددية : ٣ + ٤ ..... الجملة العددية : ٣ + ٤ = ٧

الرسم : □□ ○○ = □□ + ○○○

عدد آيات سورة الشمس ١٥ آية ،اذا حفظ عمر في الظهر ٥ آيات وفي العصر ٧ آيات ، فكم آية بقيت عليه لحفظ السورة كاملة ؟

العبارة العددية : ١٥ ـ ٥ ـ ٧ ..... الجملة العددية : ١٥ ـ ٥ ـ ٧ = ٣

الرسم : ○○○○○○○○○○○○○○○

اكتشف القاعدة ثم اكمل الجدول :

القاعدة : △ + ٣

المدخلة △	المخرجة □
١٢	١٥
١٧	.....
١٦	١٩
١٨	٢١

العملية العكسية للجمع هو الطرح .

أكمل الجدول :

القاعدة : △ × ٤

المدخلة △	المخرجة □
٤	١٦
٥	٢٠
٦	٢٤
٧	٢٨

اكمل الجدول :

القاعدة : △ ÷ ٢

المدخلة △	المخرجة □
٨	٤
١٢	٦
١٦	٨
٢٠	١٠

صف النمط الذي تلاحظه : □ = △ ÷ ٢

يقترض بـ ٣ ريالات ← − ٣

أنشأ جدول دالة :

يقوم سامي بالتبرع من كل مال يحصل عليه بمبلغ ٣ ريالات ، فكم يبقى معه بعد التبرع اذا كان معه ١٠ ، ١٢ ، ١٤ ريال ؟

نعبر عن المبلغ المدخل بـ △

القاعدة : △ ـ ٣

المدخلة △	المخرجة □
١٠	٧
١٢	٩
١٤	١١

اكتب زوج من المدخلات والمخرجات للقاعدة △ × ٥ = □

(٣ ، ١٥) ← ٣ × ٥ = ١٥

ضع (+ أو -) لتكون الجملة العددية صحيحة

٣٣ + ١٧ (−) ٥ = ٣٥٥

٣٣ + ١٧ = ٣٥٥ − ٥ = ٣٥٠

في الاختبار قام سامي بالحل كما التالي ولكن لم يحصل على الدرجة الكاملة مالسبب ؟

القاعدة : △ ـ ٥

△		
١٩ ← ١٤ ✓	٢٤ ← ١٩ ✓	٢٩ ← ٢٥ ✗
□		

الخطأ في تعبئة الخرجة الأخيرة : ٢٩ − ٥ = ٢٤ وليس ٢٥

في الميزان المجاور كم يجب ان يكون وزن المربع الواحد :

الوزن = ٦

نستنتج : التخمين والتجربة .

* نجرب : (□ × ٥) + ٥ = (□ × ٤) + ١١

١١ + ٨ ≠ ١٠ + ٥ ✗

(□ × ٥) + ٥ = (□ × ٤) + ١١

٣٥ = ٣٠ + ٥ = ٢٤ + ١١ ✓

(□ × ٥) + ٥ = (□ × ٤) + ١١

٢٠ + ٥ ≠ ١٦ + ١١ ✗

موقع منهجي
mnhaji.com

الدرجة ٢٠

توقيع ولي الأمر.....

اختبار الفترة الأولى للفصل الدراسي الأول لمادة الرياضيات للصف الرابع الابتدائي للعام الدراسي ١٤٤٨ هـ

الاسم / ..... الفصل /.....

السؤال الأول : اختر الإجابة الصحيحة فيما يلي : ١٠

١- العدد الذي يحتوي على الرقم ٤ في منزلة عشرات الألوف هو :

أ	٤٢٣	ب	٤١٥٨	ج	٤٣٢٦٧	د	٤١٠٥٣٢

٢- يكتب العدد (أربعة ملايين وأربعة وتسعين ألف وثلاث مئة وسبعين) بالصيغة القياسية كالتالي :

أ	٤٩٠٠٣٧	ب	٤٠٩٤٣٧٠	ج	٤٩٤٣٧	د	٤٩٠٣٧٠

٣- أي مما يلي يمثل ترتيبا صحيحا من الأصغر إلى الأكبر

أ	١٣٥٧، ١٥٧٣، ١٧٣٥	ب	١٥٧٣، ١٣٥٧، ١٧٣٥	ج	١٧٣٥، ١٥٧٣، ١٣٥٧	د	١٧٣٥، ١٣٥٧، ١٥٧٣

٤- أي الأعداد قيمة الرقم ٦ فيه هي ٦٠٠٠٠٠

أ	١٢٤٦٧٨	ب	٦١٩٥٢٠	ج	٦١٧٨	د	٢٣٠٩٦٥

٥- يكتب العدد ٦٠٨٤ بالصيغة التحليلية كالتالي :

أ	٤+٨٠+٦٠٠٠٠	ب	٤+٨+٦	ج	٤٠+٨٠٠+٦٠٠٠	د	٤+٨٠+٦٠٠٠

٦- العدد ٤٣٠٣٢ مقربًا إلى أقرب عشرة آلاف هو :

أ	٥٠٠٠٠	ب	٤٠٠٠	ج	٤٠٠٠٠	د	٤٠٠

٧- ناتج جمع ١٧ + ١٤+ ١٣ ذهنيا هو

أ	٤٠	ب	٤٤	ج	٥٤	د	٦٠

٨- العدد الذي يجعل الجملة التالية صحيحة ٥ - ◯ = ٠ هو

أ	٥	ب	صفر	ج	١	د	٤

٩- مع عائشة ٩٥ ريال اذا اشترت هدية لامها ب ٢٥ ريال فكم ريالاً يتبقى معها ؟

أ	٨٠	ب	٧٥	ج	٧٠	د	٥٠

١٠- أي الأعداد التالية هو الأصغر

أ	٦٤٣٢٥	ب	٦٥٤٢٣	ج	٦٢٥٤٣	د	٦٢٣٥٤

السؤال الثاني : أجب عن المطلوب فيما يلي : ١٠

أ) قارن بين العددين في كل مما يأتي مستعملا (< ، > ، =):

٥٩٨٠ ◯ ٥٠٩٠ ٥٠٤٠٢ ◯ ٥٠٤٠٦ ٥٦٧٧ ◯ ٥٦٧٧

.....

ب) أكتب العدد المفقود واذكر الخاصية التي استعملتها

(٤ + ٣) + ٦ = ٤ + (◯ + ٥) خاصية .....

٦٥ + ٤٨ = ◯ + ٦٥ خاصية .....

ج) قدر الناتج بتقريب الأعداد إلى أقرب قيمة منزلية معطاة مما يأتي :

٢٣ + ٧٨ ؛ عشرة ٣٨٣ - ١٤١ ؛ مئة

....

د) أوجد ناتج ما يلي :

٢٩٦١	٥٠٤
+ ١٧٤	- ٣٩٢

هـ) اذا كان عامل يتقاضى ٢٠ ريال في الساعة ، فكم ساعة عليه أن يعمل ليتقاضى ١٢٠ ريال؟

.....

.....

معلم / ة المادة :

موقع منهجي mnhaji.com

اختبار الفترة الأولى ،، الجزء الأول
مادة الرياضيات
للصف الرابع ابتدائي
الفصل الدراسي الأول لعام ١٤٤٨هـ
الاسم /.....

٢٠

السؤال الأول : أختار الإجابة الصحيحة فيما يلي (درجة)

١) اسم منزلة الرقم الذي تحته خط. ٥٩٠٣٢٠	٢) مئة ألف ومئتين وستة وخمسين يكتب بالصيغة القياسية
أ/ آحاد	أ/ ١٢٣٢٤٥٠٠
ب/ عشرات الملايين	ب/ ٢٥٦١٠٠٠
جـ/ مئات الألوف	جـ/ ١٠٠٢٥٦
٣) القيمة المنزلية للرقم الذي تحته خط ٨٣٠٢٣٢١٥	٤) الصيغة اللفظية للعدد ٥٧٣٠٢
أ/ ٨٠٠٠	أ/ خمسون ألفاً وسبع مئة واثنان وثلاثون
ب/ ٨٠٠٠٠٠٠٠	ب/ سبعة وخمسون ألفاً وثلاث مئة واثنان
جـ/ ٨٠	جـ/ خمسة آلاف وسبع مئة وثلاثة وعشرون
٥) ٥٠٤٠٢ ..... ٥٠٤٠٦ الاشارة المناسبة	٦) تقريب العدد ٥٩٣٢٠٥ إلى مئة ألف هو
أ/ >	أ/ ٥٩٠٠٠٠
ب/ <	ب/ ٥٩٣٢٠٠
جـ/ =	جـ/ ٦٠٠٠٠٠
٧) الترتيب الصحيح من الأكبر إلى الأصغر	٨) الرقم المناسب ٨٢٣٥٩ > ٥٩...٨٢
أ/ ٣٤٥٦ ، ٤٣٥٦ ، ٣٤٦٥ ، ٦٥٤٣	أ/ ٠
ب/ ٦٥٤٣ ، ٣٤٦٥ ، ٤٣٥٦ ، ٣٤٥٦	ب/ ٩
جـ/ ٦٥٤٣ ، ٤٣٥٦ ، ٣٤٦٥ ، ٣٤٥٦	جـ/ ٧

السؤال الثاني :أضع ✅أمام الإجابة الصحيحة و❌ أمام الإجابة الخاطئة (درجة)

١	الصيغة اللفظية هي الصيغة التي نستخدم فيها الكلمات لكتابة العدد	
٢	أول خطوة من خطوات حل المساله هي أخطط	
٣	اذا كانت تستغرق مريم ٥ دقائق لتغليف هدية ، فإنها تحتاج ١٠٠ دقيقه لتغليف ١٠ هدايا	
٤	الصيغة القياسية هي الصيغة التي نستخدم فيها الأرقام	

السؤال الثالث : أكتب الحل المناسب بالفراغ (درجتان)

١) يكتب العدد ٦ + ٢٠ + ٥٠٠٠ + ١٠٠٠٠٠ بالصيغة القياسيه .....

٢) وفر أحمد ٥ ريالات بالاسبوع الأول و١٠ ريالات بالأسبوع الثاني و ١٥ ريالاً بالأسبوع الثالث فإذا استمر على هذا النمط فإنه سوف يوفر بالأسبوع السادس .....

٣) اشترت ساره خاتماً ب ١٨٣٤ريالاً ، واشترت نوره خاتماً آخر ب ١٢٨٦ ريالاً ، الخاتم الأكثر سعراً هو .....

٤) إذا كان عامل يتقاضى ٢٠ ريالاً في الساعه ، إذا أراد أن يتقاضى ١٢٠ ريال فإنه سيعمل ..... ساعات

معلم/ة المادة

موقع منهجي
mnhaji.com

بسم الله الرحمن الرحيم

٢٠

اختبار منتصف الفصل الأول

الصف الرابع ( )

اسم الطالب

السؤال الاول :(أ) س١/ ٣درجات

اختر القيمة المنزلية الصحيحة للرقم الذي تحته خط فيما يلي :

٣٠٥٦٤	٥	٥٠	٥٠٠	٥٠٠٠
٨٨٣٢٧١	٨	٨٠٠	٨٠٠٠	٨٠٠٠٠
٦٧٠٥٢	٦٠٠	٦٠٠٠	٦٠٠٠٠	٦

السؤال الاول :(ب) املأ الفراغات التالية :

أ- **العنصر المحايد** في عملية الجمع هو .....

ب- الرقم (٦) في العدد ٦٠٣٩٥ يقع في منزلة .....

ج- عندما نطرح **عدد من نفسه** يكون الناتج دائما .....

السؤال الثاني (أ) : **اختر الصيغة اللفظية الصحيحة لكل عدد مما يأتي :** س٢/ ٤درجات

٤٠٢٠		٣ ٥٣٢ ٠٠١	
أ	أربع مئة وعشرون	أ	ثلاثة ملايين وخمس مئة واثنان وثلاثون ألفا ومئة
ب	اربعة آلاف وعشرون	ب	ثلاثة ملايين وخمس مئة وثلاث وعشرون ألفا وواحد
ج	أربعون ألفا وعشرون	ج	ثلاثة ملايين وخمس مئة واثنان وثلاثون ألفا وواحد

السؤال الثاني (ب) : **اختر الصيغة التحليلية الصحيحة لكل عدد مما يأتي :**

٧٠٢١٣		٨ ٩٠١ ٢٠٤	
أ	٣ + ١٠ + ٢٠ + ٧٠	أ	٤ + ٢٠٠ + ١٠٠٠ + ٩٠٠٠٠٠ + ٨٠٠٠٠٠٠
ب	٣ + ١٠ + ٢٠٠ + ٧٠٠٠	ب	٤ + ٠ + ٢٠ + ١٠٠٠ + ٩٠٠٠٠٠ + ٨٠٠٠٠٠٠
ج	٣ + ١٠ + ٢٠٠ + ٧٠٠٠٠	ج	٤ + ٢٠٠ + ١٠٠٠ + ٩٠٠٠٠ + ٨٠٠٠٠٠٠

اقلب الورقة

السؤال الثالث (أ) : ضع العلامة المناسبة في الفراغ (>، < ، =) : — س ٤/ ٣ درجات

٥٠٠١ ◯ ٥٠١٠ ١٠٠٢٣٤٥ ◯ ١٠٠٢٣٤٥

السؤال الثالث (ب) : رتب الأعداد التالية من **الأكبر** إلى **الأصغر** :

١١٢ ٨٥٨ ١٠٢ ٨٨٥ ٨٠٨٩٩٩ ١٠٠ ٨٨٥

السؤال الرابع (أ) : **قرب** كل عدد مما يلي لأقرب قيمة منزلية معطاه : — س٥/ ٦ درجات

٢٦ لأقرب **عشرة** ..... ٥٨٨٣ لأقرب **مئة** .....

السؤال الرابع (ب) : املأ الفراغ بالعدد المناسب واكتب اسم **الخاصية او القاعدة** التي استعملتها :

أ- ٩ + ☐ = ٥ + ٩ .....

ب- ١١٩ + ٠ = ☐ .....

ج- ٥ + (٤ + ٦) = (٥ + ٤) + ☐ .....

د- ١٥ - ☐ = ٠ .....

السؤال الخامس (أ) : — س٦/ ٤ درجات

مع عائشة ٩٥ ريالا ، اذا اشترت هدية لأمها بـ ٢٥ ريالا .. فكم ريالا يتبقى معها ؟

السؤال الخامس (ب) : أوجد ناتج عمليات **الجمع والطرح** التاليتين :

٢٩٠ + ٦٩٣ =

٦٠٤ − ٤٩٢ =

موقع منهجي
mnhaji.com

انتهت الأسئلة تمنياتي للجميع بالتوفيق ... . توقيع ولي الأمر .....

اختبار الفترة الأولى لمادة الرياضيات الصف (رابع ابتدائي) الفصل الدراسي الأول لعام ١٤٤٨هـ			
اسم الطالبة		الشعبة	رابع .....

السؤال الأول: اختاري الإجابة الصحيحة لكل فقرة؟

١	الصف الذي حصل على أكبر عدد من البطولات هو							
	أ	الثالث	ب	الرابع	ج	الخامس	د	السادس
٢	الصف الذي حصل ٣ البطولات هو							
	أ	الثالث	ب	الرابع	ج	الخامس	د	السادس
٣	عدد الطلاب الذي استقلُّوا الحافلة المدرسيّة عام ١٤٣٧هـ							
	أ	٢٥٠	ب	١٥٠	ج	١٠٠	د	٥٠
٤	العام الذي كان فيه عدد الطلاب الذين استقلُّوا الحافلة المدرسيّة أكبر هو							
	أ	١٤٣٧هـ	ب	١٤٣٨هـ	ج	١٤٣٩هـ	د	١٤٤٠هـ
٥	الفاكهة المفضلة لدى ١١٠ من طلاب المدرسة هي							
	أ	الكمثرى	ب	الموز	ج	التفاح	د	العنب
٦	عدد الطلاب الذين يفضلون البطيخ هو							
	أ	٥٠	ب	٦٠	ج	٣٠	د	٧٥



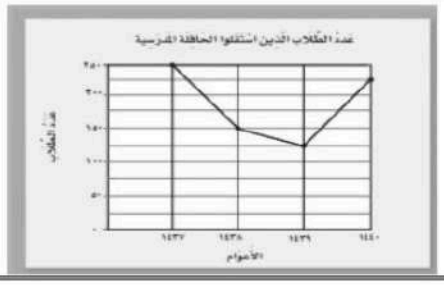



السؤال الثاني: اجيبي عما يلي؟

أ) يبين الجدول المجاور الوسائل المختلفة التي تستعملها مجموعة من الطلاب للوصول الى المدرسة؟

١- نظم البيانات في لوحة أشارات؟

كيف تصل الى المدرسة	
الوسيلة	الإشارات
الحافلة	
السيارة	
المشي	

كيف تصل الى المدرسة	
الوسيلة	التكرار
الحافلة	٨
السيارة	١٢
المشي	٦

٢ - ما الوسيلة التي يستعملها أكبر عدد من الطلاب؟

.....

٣- ما الوسيلة التي يستعملها أقل عدد من الطلاب؟

.....

ب) إذا تم تدوير المؤشر المجاور ، فصفي احتمال النواتج ، استعملي (مُؤكد ، أكثر احتملاً ، متساوي الإمكانية ، أقل احتمالاً ، مستحيل)



عدد فردي	عدد زوجي	عدد أقل من ٣	الأعداد ٥ و ١١ أو ١٣

انتهت الأسئلة... أ. عالة أحد

موقع منهجي
mnhaji.com

		التاريخ: المادة: رياضيات الصف: رابع ابتدائي	الدرجة: ---------- ٢٠

اختبار منتصف الفصل الدراسي الأول من العام ١٤٤٨هـ

اسم الطالب:	الفصل: .....

١ – اكتب القيمة المنزلية للرقم الذي تحته خط: ٥٩٨٣٣	٢ – اكتب العدد ٣٦١٥ بالصيغة اللفظية:
٣ – قارن بين العددين في كل مما يأتي مستعملاً : (= ، > ، <) ١٧٩٨ ☐ ١٧٨٩ ٥٠٤٠٢ ☐ ٥٠٤٠٦	٤ – رتب الأعداد التالية من الأكبر إلى الأصغر: ١٣٨٠٢٣ ، ١٣٨٠٣٢ ، ١٣٩٠٠٦ ، ١٨٣٤٨٧
٥ – قرب كل عدد إلى أقرب قيمة منزلية معطاة: ٥٦٨ ؛ عشرة ٤٩٣٢ ؛ مئة ٤٩٣٥٨٠ ؛ ألف	٦ – لدى سمير ٣ مجموعات من الملصقات في كل منها ٦ ملصقات. ما عدد الملصقات لدى سمير ؟ 
٧ – اكتب العدد المفقود ، واذكر الخاصية أو القاعدة التي استعملتها: ٥ – ☐ = ٥ (٤ + ٣) + ١ = ٣ + (١ + ☐) ٧٢ + ☐ = ٣٣ + ٧٢ ٩ – ☐ = ٠	٨ – قدر الناتج بتقريب الأعداد إلى أقرب قيمة منزلية معطاة: ٢١ + ٧٣ ؛ عشرة ٣٨٣ + ١٢٢ ؛ مئة
٩ – أوجد ناتج الجمع، ثم تحقق من معقولية الإجابة بالتقدير: ٣٩٤ + ١٨٤ _____	١٠ – اطرح ثم تحقق من صحة الطرح مستعملاً الجمع : ٤٧٩ ـ ٢٩٢ = _____ ٣٠٩ ـ ١٥٧ = _____
١١ – إذا مشى عثمان ٢٩٧٠ متراً، ومشى عبدالرحمن ٣٠٥٠ متراً. فكم متراً مشى عبدالرحمن أكثر مما مشاه عثمان؟	١٢ – اجمع ذهنياً: ٢٢ + ٤١ + ٣٣

*كل فقرة درجة.

معلم المادة /

بسم الله الرحمن الرحيم

٢٠

اختبار منتصف الفصل الدراسي الأول لمادة الرياضيات الصف الرابع..... اسم الطالب : .....

المهارة	قراءة الأعداد ضمن الملايين وكتابتها ومقارنتها وترتيبها	درجة السؤال	٥	الدرجة المكتسبة	

السؤال الاول :(أ) اختر الإجابة الصحيحة :

١- الصيغة اللفظية للعدد (٦٥٠١) هي :

- ستّ خمسون ألفاً وخمسُ مئةٍ وواحد .
- خمسٌ وستون ألفاً وخمسُ مئةٍ وواحد .
- خمسٌ وستون ألفاً ومئةٌ وخمسة .

٢- الصيغة القياسية للعدد (ثلاثُة ملايين وأربع مئةٍ و اثنان وعشرون ألفاً وسبعُ مئةٍ وثلاثون) هي :

- ٣ ٤٢٢ ٧٣٠
- ٣١ ٤٢٢ ٧٣٠
- ١٣ ٤٢٠ ٣٠٧

٣- الصيغة التحليلية للعدد (٣٥١٨٠٩) هي :

- ٩ + ٨٠ + ١٠٠٠ + ٥٠٠٠٠ + ٣٠٠٠٠٠
- ٣ + ٥ + ١ + ٨٠ + ٩
- ٩ + ٨٠٠ + ١٠٠٠ + ٥٠٠٠٠ + ٣٠٠٠٠٠

٤- العلامة المناسبة لمقارنة العدد : ١٠٩٨٠١٢ ◯ ١٠٩٨٠٢١ هي :

- <
- >
- =

٥- المجموعة المرتبة من (الأكبر) إلى (الأصغر) فيما يلي هي :

- ١٥٠٢١٨٤ - ١٥١٢٥٤٨ - ١٢٥٢٥٤٨ - ١٠٠٢٥٣٦
- ١٥٥٢٠١٥ - ١٥٢٥١٠٠ - ١٥٢٤١٠٩ - ١٥٠٩٩٩٩
- ١٦٢٠٥٥٥ - ١٥٩٠١٢١ - ١٧٠٢٥٠٠ - ١٥٠٦٠١٢

المهارة	تحديد القيمة المنزلية لعدد ضمن الملايين	درجة السؤال	٣	الدرجة المكتسبة	

السؤال الثاني : ضع دائرة حول القيمة المنزلية لكل رقمٍ تحته خط فيما يلي :

٣٠٥٦٤	٥	٥٠	٥٠٠	٥٠٠٠
٨٨٣٢٠٠٧١	٨	٨٠٠	٨٠٠٠٠٠	٨٠٠٠٠
٦٧٠٥٢	٦٠٠	٦٠٠٠	٦٠٠٠٠	٦

المهارة	تقريب الأعداد ضمن الملايين	درجة السؤال	٢	الدرجة المكتسبة	

السؤال الثالث : قرّب كل عدد فيما يلي لأقرب منزلة معطاة .

٢٦ لأقرب عشرة ..... ٥٨٨٣ لأقرب مئة .....

المهارة	تحديد خاصية الجمع أو قاعدة الطرح	درجة السؤال	٤	الدرجة المكتسبة	

السؤال الرابع : املأ الفراغ بالعدد المناسب ثم اختر الخاصية او القاعدة التي استعملتها :

أ- ٩ + ☐ = ٥ + ٩ (التجميع - العنصر المحايد - الإبدال)

ب- ١١٩ + . = ☐ (التجميع - العنصر المحايد - الإبدال)

ج- ٥ + (٤ + ٦) = (٥ + ٤) + ☐ (التجميع - العنصر المحايد - الإبدال)

د- ١٥ - ☐ = . (طرح صفرٍ من أي عدد - طرح عددٍ من نفسه - العنصر المحايد)

المهارة	جمع أو طرح عددين مع وجود الأصفار	درجة السؤال	٦	الدرجة المكتسبة	

السؤال الخامس : أوجد ناتج العمليات التالية :

١٠٩	٤٥١	٣٣.	٧..
+ ١١٨	+ ١٦٩	- ١٥٨	- ١٠٣
----------	----------	----------	----------

انتهت الأسئلة ، تمنياتي لكم بالتوفيق معلم المادة :

موقع منهجي mnhaji.com "ورقة ٢"

اختبار الفترة الأولى

الفصل الدراسي الأول ١٤٤٨هـ

الرياضيات

المادة : **رياضيات**

الصف : الرابع / .....

اسم الطالب / .....

اختر الإجابة الصحيحة مما يأتي : **كل سؤال درجتان**

م	السؤال	خيارات الإجابة
1	الصيغة االقياسية للعدد (خمسة عشر الفا واربع منة وستون)	١٥٠٤١ ، ١٥٢٤١ ، ١٥٤٦٠
2	ما القيمة المنزلية للرقم ٩ في العدد ٨٥٧٠٩١	٩٠٠٠ ، ٩٠٠ ، ٩٠
3	العدد ٩٣٧١٢ مقربا الى آحاد الألوف؟	٩٣٠٠٠ ، ٣٠٠٠٠ ، ٩٤٠٠٠
4	٦٧٥٣١ ..... ٥٧٤٣١ اختر العلامة المناسبة في الفراغ ؟	> ، = ، <
5	نوع التمثيل المجاور هو تمثيل ؟ 	بالاعمدة ، بالخطوط ، بالنقاط
6	كيس به ٦ كرات حمراء و ٤ كرات خضراء. صف احتمال ظهور اللون الأزرق؟	مستحيل ، اقل احتمالا ، مؤكد
7	يمثل العدد ٥ بالإشارات كالتالي 𝍸	صواب ، خطأ
8	٥ + ٧ = ٧ + ٥ خاصية الابدال ؟	صواب ، خطأ
9	اوجد ناتج الجمع ؟ ٤٩١ + ٧٤	10 اوجد ناتج الطرح ؟ ٥٢٦ − ٤٠٣

تمت الأسئلة ...

موقع منهجي
mnhaji.com

أوراق عمل رياضيات رابع منتصف الفصل الأول

اختر الاجابة الصحيحة مما يأتي:

(١)	ما اسم منزلة الرقم ٩ في العدد : ٩١٣٠٦٢٠٠٣؟			
	(أ) مئات ألوف	(ب) آحاد الملايين	(ج)عشرات الملايين	(د) مئات الملايين
(٢)	ما القيمة المنزلية للرقم ٥ في العدد : ٤٥٨٢٠٠٧؟			
	(أ) ٥٠٠٠	(ب) ٥٠٠٠٠	(ج) ٥٠٠٠٠٠	(د) ٥٠٠٠٠٠٠
(٣)	١٦ مليون و ٣٠ ألف و ٨ = ...			
	(أ) ١٦٣٠٠٨	(ب) ١٦٣٠٠٠٨	(ج) ١٦٠٣٠٠٠٨	(د) ١٦٠٠٣٠٠٨
(٤)	الصيغة القياسية للعدد التالي ٨ + ٢٠ + ٤٠٠ + ٥٠٠٠٠ + ٧٠٠٠٠٠ هي:			
	(أ) ٧٥٠٤٢٨	(ب) ٧٥٤٢٨	(ج) ٧٠٥٤٢٨	(د) ٧٤٥٠٠٢٨
(٥)	١٣٠٥٢ ..... ١٣٥٢٠			
	(أ) >	(ب) <	(ج) =	(د) ≤
(٦)	خمسمائة ألف وتسعمائة ٥٩٠٠٠٠٠			
	(أ) >	(ب) <	(ج) =	(د) ≤
(٧)	العدد ٥٨٦٤٣٢٥ لأقرب عشرة آلاف			
	(أ) ٥٨٧٠٠٠٠	(ب) ١٠٠٠٠٠٠	(ج) ٥٨٦٠٠٠٠	(د) ٥٨٦٥٠٠٠

(٨) خاصية الجمع المستعملة في: ٤٢ + ٠ = ٤٢

(أ) الابدال	(ب) التجميع	(جـ) العنصر المحايد الجمعي	(د) طرح العدد نفسه

(٩) (٥٣ + ٤٥) + ٥٥ = ٥٣ + (..... + ٥٥). العدد المفقود والخاصية هما.....

(أ) ٥٥ الابدال	(ب) ٤٥ التجميع	(جـ) ٥٣ التجميع	(د) ٥٥ التجميع

(١٠) كم يزيد عدد الأهداف في المباراة الرابعة عن الأولى ؟

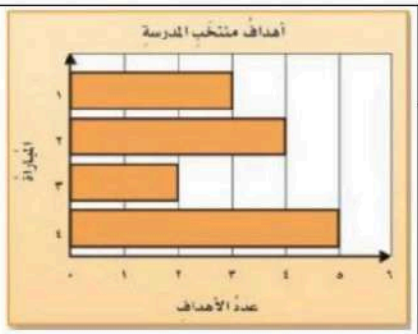

(أ) ١	(جـ) ٢
(ب) ٣	(د) ٤

(١١) المشروب الأكثر تفضيلا لدى الطلاب في القطاعات هو...

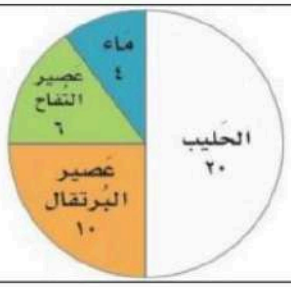

(أ) الحليب	(جـ) عصير التفاح
(ب) عصير البرتقال	(د) ماء

(١٢) العدد المفقود في المسألة:

(٣٢ + ...) + ١٥ = ٣٢ + (٢٦ + ١٥) هو.....

(أ) ٣٢	(ب) ١٥	(جـ) ٢٦	(د) ٤٧

(١٣) اشترى خالد ثوبًا بـ ١٢٨ ريال وشماغ بـ ٨٥ ريال وحقيبة بـ ١٦٧ ريال قدر كم دفع لجميع مشترياته ؟

(أ) ٢٠٠	(ب) ٤٠٠	(جـ) ٣٠٠	(د) ٣٥٠

(١٤)	بلغ عدد زوار أحد المنتزهات خلال الأسبوع الماضي ٣٤٠٠٧ زائر بينما بلغ عدد الزوار هذا الأسبوع ٢١٨٢٩ زائر . كم قل عدد الزوار ؟			
	(أ) ١٢١٧٨	(ب) ١٣١٠٨	(جـ) ١٢٩١٢	(د) ١٣١١٢
(١٥)	صندوق يحتوي علي عشر بطاقات مرقمه من ١ – ١٠ سُحبت بطاقة من الصندوق دون النظر إليها . صف احتمال سحب بطاقة عليها عدد فردي ؟			
	(أ) مؤكد	(ب) أكثر احتمالاً	(جـ) متساوي الامكانية	(د) مستحيل
(١٦)	من السؤال السابق سحب بطاقة عليها عدد أكبر من ١٠ ؟			
	(أ) مؤكد	(ب) أكثر احتمالاً	(جـ) متساوي الامكانية	(د) مستحيل
(١٧)	..... – ٣٨٩ = ٠			
	(أ) صفر	(ب) ١	(جـ) ٣٨٩	(د) ١٠٠
(١٨)	العدد المختلف بين الأعداد هو :			
	(أ) ١٠٠٠٠	(ب) ١٠ مئات	(جـ) عشرة ألاف	(د) ١٠٠ مئة
(١٩)	قدر ناتج: ١٩٢ + ٧٢٠٧ لأقرب مائة			
	(أ) ٧٢٠٠	(ب) ٧٤٠٠	(جـ) ٨٠٠٠	(د) ٩٠٠٠
(٢٠)	في مكتبة المدرسة ١٧ كرسي وفي المطعم ٤٥ كرسي. أي مما يأتي يمثل عدد الكراسي الكلية:			
	(أ) ١٧ + ٤٥	(ب) ١٧ – ٤٥	(جـ) ١٧ × ٤٥	(د) ١٧ ÷ ٤٥

موقع منهجي
mnhaji.com

أوجد ناتج

١)

٤٧٩

− ٢٩٢

.....

٢)

٦٤٨١

+ ٢٧٥٦

.....

٣)

٤٠٨

− ٣٦

.....

قدر ناتج

١)

٢٢ .....

+ ٦٣ + ...

.....

٢)

٥٨٢٥ .....

− ٥٥١ .....

.....

رتب ما يأتي

١) رتب تصاعديًا: ١٢٣٤٥٦٧ ، ١٢٣٤٥٦ ، ١٢٣٤٥٦٧٨٩

..... ، ..... ، .....

٢) رتب تنازليًا: ٧٩٩٢٠ − ٨٢٢٣٤ − ٩٧٩٠٢ − ٩٠١٢٥

..... ، ..... ، ..... ، .....

ضع علامة > أو < أو =

١) ٣٤٧٢ ☐ ٣٤٢٧

٢) ٨ + ٧٠ + ٢٠٠ + ٥٠٠٠٠ ☐ ٥٠٢٧٨

٣) ٥ ملايين و ٣٤٥ ألف و ١٩ ☐ ٥٠٠٠٠٠٠٠

٤) تسعمائة ألف ☐ ٩٠٨٧٦

مستعملاً خطط حل المسألة أجب عما يأتي:

١) مجموعتان من الطلاب عدد الأولى ٩٨ طالب والثانية ١٠٧ طالب أرادو الحضور لحفل في مدرج لـ ٢٠٠ شخص فهل يمكنهم ذلك ؟

.....

٢) لدى أحمد مزرعة مربعة الشكل أراد عمل سياج لها إذا كان طول ضلع المزرعة ٢٠ متر كم متر يحتاج لعمل السياج ؟

.....

٣) عدد سور القرآن ١١٤ سورة حفظت فاطمة ٤٧ سورة.

كم سورة بقيت لتتم حفظ القرآن ؟

.....

٤) إذا كان تكلفة شحن الكتاب الواحد ٤ ريال كم كتاب يمكن شحنه ٣٢ ريال ؟

.....

أجب عن ما يأتي

١) أعلى منازل العدد ٤٠٨١ هي منزلة .....

٢) قيمة الرقم ٨ في العدد ٨٤٣٦٤٦١ هي .....

٣) العدد (تسعمائة وخمسون مليون وأربعمائة وستة آلاف) = ...

٤) العدد ٦٤٧٣٥٠٠ يكتب بالصيغة التحليلية =.....

ضع علامة (√) أمام العبارة الصحيحة، وعلامة (×) أمام العبارة الخاطئة فيما يلي:

١	خمسة وعشرين ألف وأربع مئة وثمانية = ٢٥٤٠٨	( )
٢	العدد ٥٥٠٠٠٠٠ بالصيغة التحليلية = ٥٠٠٠٠٠ + ٥٠٠٠٠٠٠	( )
٣	العدد المفقود في : ٣٩٤٧ = ٧ + ٤٠ + ... + ٣٠٠٠ هو ٩٠	( )
٤	تستغرق مريم ٥ دقائق لتغليف هدية . فإنها تستغرق لتغليف ١٠ هدايا ٥٠ دقيقة.	( )
٥	أصغر عدد يمكن تكوينه من الأرقام (٧،٣،٥،٠،١،٤) هو ٧٥٤٣١٠	( )
٦	عند تقريب العدد ٩٩٩٩٩٩ لأي منزلة فإن الناتج = ١٠٠٠٠٠٠	( )
٧	أصغر عدد إذا قربناه لأقرب ألف = ٨٠٠٠ هو ٧٩٥٠	( )
٨	لدى محمد ٣ أوراق من فئة ١٠ ريال و ٦ أوراق من فئة ٥ ريال و ١٢ ورقة من فئة ريال . فإن لديه المبلغ الكافي لشراء كرة ثمنها ٨٢ ريال	( )
٩	عند طرح أي عدد من نفسه فإن النتيجة تكون (٠)	( )
١٠	عند طرح ٢ − ٢ = ٠ فإننا استعملنا خاصية العنصر المحايد	( )
١١	٢٤٧ ≈ ٢٥٠ لأقرب مئة	( )
١٢	قيمة اشتراك نادي شهريًا ٢٩٣ ريال أراد محمد الاشتراك شهرين فإنه سيدفع تقريبًا ٦٠٠ ريال .	( )
١٣	عند طرح عدد صغير في الآحاد ناقص عدد كبير فإننا نستلف من خانة العشرات ويكون الواحد بعشرة .	( )
١٤	في عملية الطرح نبدأ الطرح من اليسار	( )
١٥	إذا كان عدد الكرات التي اخترناها = عدد الكرات المتبقية. نصف الاحتمال بمتساوي الامكانية	( )

موقع منهجي
mnhaji.com

نموذج الإجابة

اختر الاجابة الصحيحة مما يأتي:

(١)	ما اسم منزلة الرقم ٩ في العدد : ٩١٣٠٦٢٠٠٣؟			
	(أ) مئات ألوف	(ب) آحاد الملايين	(ج)عشرات الملايين	(د) مئات الملايين ✓
(٢)	ما القيمة المنزلية للرقم ٥ في العدد : ٤٥٨٢٠٠٧؟			
	(أ) ٥٠٠٠	(ب) ٥٠٠٠٠	(ج) ٥٠٠٠٠٠ ✓	(د) ٥٠٠٠٠٠٠
(٣)	١٦ مليون و ٣٠ ألف و ٨ = ...			
	(أ) ١٦٣٠٠٨	(ب) ١٦٣٠٠٠٨	(ج) ١٦٠٣٠٠٠٨ ✓	(د) ١٦٠٠٣٠٠٨
(٤)	الصيغة القياسية للعدد التالي ٨ + ٢٠ + ٤٠٠ + ٥٠٠٠٠ + ٧٠٠٠٠٠ هي:			
	(أ) ٧٥٠٤٢٨ ✓	(ب) ٧٥٤٢٨	(ج) ٧٠٥٤٢٨	(د) ٧٤٥٠٠٢٨
(٥)	١٣٠٥٢ ..... ١٣٥٢٠			
	(أ) > ✓	(ب) <	(ج) =	(د) ≤
(٦)	خمسمائة ألف وتسعمائة ٥٩٠٠٠٠٠			
	(أ) > ✓	(ب) <	(ج) =	(د) ≤
(٧)	العدد ٥٨٦٤٣٢٥ لأقرب عشرة آلاف			
	(أ) ٥٨٧٠٠٠٠	(ب) ١٠٠٠٠٠٠	(ج) ٥٨٦٠٠٠٠ ✓	(د) ٥٨٦٥٠٠٠

موقع منهجي
mnhaji.com

(٨) خاصية الجمع المستعملة في: ٤٢ + ٠ = ٤٢

(أ) الابدال	(ب) التجميع	(ج) العنصر المحايد الجمعي ✓	(د) طرح العدد نفسه

(٩) (٥٣ + ٤٥) + ٥٥ = ٥٣ + (..... + ٥٥). العدد المفقود والخاصية هما.....

(أ) ٥٥ الابدال	(ب) ٤٥ التجميع ✓	(ج) ٥٣ التجميع	(د) ٥٥ التجميع

(١٠) كم يزيد عدد الأهداف في المباراة الرابعة عن الأولى ؟

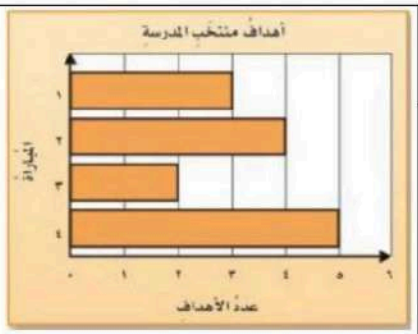

(أ) ١	(ج) ٢ ✓
(ب) ٣	(د) ٤

(١١) المشروب الأكثر تفضيلا لدى الطلاب في القطاعات هو...

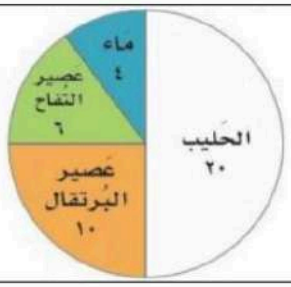

(أ) الحليب ✓	(ج) عصير التفاح
(ب) عصير البرتقال	(د) ماء

(١٢) العدد المفقود في المسألة:

(٣٢ + ...) + ١٥ = ٣٢ + (٢٦ + ١٥) هو.....

(أ) ٣٢	(ب) ١٥	(ج) ٢٦ ✓	(د) ٤٧

(١٣) اشترى خالد ثوبًا بـ ١٢٨ ريال وشماغ بـ ٨٥ ريال وحقيبة بـ ١٦٧ ريال قدر كم دفع لجميع مشترياته ؟

(أ) ٢٠٠	(ب) ٤٠٠ ✓	(ج) ٣٠٠	(د) ٣٥٠

موقع منهجي
mnhaji.com

(١٤)	بلغ عدد زوار أحد المنتزهات خلال الأسبوع الماضي ٣٤٠٠٧ زائر بينما بلغ عدد الزوار هذا الأسبوع ٢١٨٢٩ زائر . كم قل عدد الزوار ؟			
	(أ) ١٢١٧٨ ✓	(ب) ١٣١٠٨	(جـ) ١٢٩١٢	(د) ١٣١١٢

(١٥)	صندوق يحتوي علي عشر بطاقات مرقمه من ١ – ١٠ سُحبت بطاقة من الصندوق دون النظر إليها . صف احتمال سحب بطاقة عليها عدد فردي ؟			
	(أ) مؤكد	(ب) أكثر احتمالاً	(جـ) متساوي الامكانية ✓	(د) مستحيل

(١٦)	من السؤال السابق سحب بطاقة عليها عدد أكبر من ١٠ ؟			
	(أ) مؤكد	(ب) أكثر احتمالاً	(جـ) متساوي الامكانية	(د) مستحيل ✓

(١٧)	..... – ٣٨٩ = ٠			
	(أ) صفر	(ب) ١	(جـ) ٣٨٩ ✓	(د) ١٠٠

(١٨)	العدد المختلف بين الأعداد هو:			
	(أ) ١٠٠٠٠	(ب) ١٠ مئات ✓	(جـ) عشرة ألاف	(د) ١٠٠ مئة

(١٩)	قدر ناتج: ١٩٢ + ٧٢٠٧ لأقرب مائة			
	(أ) ٧٢٠٠	(ب) ٧٤٠٠ ✓	(جـ) ٨٠٠٠	(د) ٩٠٠٠

(٢٠)	في مكتبة المدرسة ١٧ كرسي وفي المطعم ٤٥ كرسي. أي مما يأتي يمثل عدد الكراسي الكلية:			
	(أ) ١٧ + ٤٥ ✓	(ب) ١٧ – ٤٥	(جـ) ١٧ × ٤٥	(د) ١٧ ÷ ٤٥

موقع منهجي
mnhaji.com

أوجد ناتج

١)

٤٧٩

٢٩٢ −

١٨٧

٢)

٦٤٨١

٢٧٥٦ +

٣٧٢٥

٣)

٤٠٨

٣٦ −

٣٧٢

قدر ناتج

١)

٢٢ ٢٠

٦٣ + ٦٠ +

٨٠

٢)

٥٨٢٥ ٥٨٠٠

٥٥١ − ٦٠٠ −

٥٢٠٠

رتب ما يأتي

١) رتب تصاعديًا: ١٢٣٤٥٦٧ ، ١٢٣٤٥٦ ، ١٢٣٤٥٦٧٨٩

١٢٣٤٥٦ ، ١٢٣٤٥٦٧ ، ١٢٣٤٥٦٧٨٩

٢) رتب تنازليًا: ٧٩٩٢٠ − ٨٢٢٣٤ − ٩٧٩٠٢ − ٩٠١٢٥

٩٧٩٠٢ ، ٩٠١٢٥ ، ٨٢٢٣٤ ، ٧٩٩٢٠

ضع علامة > أو < أو =

١) ٣٤٧٢ [<] ٣٤٢٧

٢) ٨ + ٧٠ + ٢٠٠ + ٥٠٠٠٠ [=] ٥٠٢٧٨

٣) ٥ ملايين و ٣٤٥ ألف و ١٩ [>] ٥٠٠٠٠٠٠

٤) تسعمائة ألف [>] ٩٠٨٧٦

موقع منهجي
mnhaji.com

مستعملاً خطط حل المسألة أجب عما يأتي:

١) مجموعتان من الطلاب عدد الأولى ٩٨ طالب والثانية ١٠٧ طالب أرادو الحضور لحفل في مدرج يسع لـ ٢٠٠ شخص فهل يمكنهم ذلك ؟

عدد الطلاب = ٩٨ + ١٠٧ = ٢٠٥ طالب

لا يمكنهم الحضور في المدرج لأن عددهم أكثر من عدد المقاعد

٢) لدى أحمد مزرعة مربعة الشكل أراد عمل سياج لها إذا كان طول ضلع المزرعة ٢٠ متر كم متر يحتاج لعمل السياج ؟

طول السياج = ٢٠ × ٤ = ٨٠ م

٣) عدد سور القرآن ١١٤سورة حفظت فاطمة ٤٧ سورة. كم سورة بقيت لتتم حفظ القرآن ؟

عدد السور = ١١٤ – ٤٧ = ٦٧ سورة

٤) إذا كان تكلفة شحن الكتاب الواحد ٤ ريال كم كتاب يمكن شحنه ٣٢ ريال ؟

عدد الكتب = ٣٢ ÷ ٤ = ٨ كتب

أجب عن ما يأتي

١) أعلى منازل العدد ٤٠٨١ هي منزلة ألف

٢) قيمة الرقم ٨ في العدد ٨٤٣٦٤٦١ هي ٨٠٠٠٠٠٠

٣) العدد (تسعمائة وخمسون مليون وأربعمائة وستة آلاف) = ٩٥٠٤٠٦٠٠٠

٤) العدد ٦٤٧٣٥٠٠ يكتب بالصيغة التحليلية

= ٥٠٠ + ٣٠٠٠٠ + ٧٠٠٠٠ + ٤٠٠٠٠٠ + ٦٠٠٠٠٠٠

موقع منهجي
mnhaji.com

ضع علامة (✓) أمام العبارة الصحيحة، وعلامة (×) أمام العبارة الخاطئة فيما يلي:

١	خمسة وعشرين ألف وأربع مئة وثمانية = ٢٥٤٠٨	(✓)
٢	العدد ٥٥٠٠٠٠٠ بالصيغة التحليلية = ٥٠٠٠٠٠ + ٥٠٠٠٠٠٠	(✓)
٣	العدد المفقود في : ٣٩٤٧ = ٧ + ٤٠ + ... + ٣٠٠٠ هو ٩٠	(×)
٤	تستغرق مريم ٥ دقائق لتغليف هدية . فإنها تستغرق لتغليف ١٠ هدايا ٥٠ دقيقة.	(✓)
٥	أصغر عدد يمكن تكوينه من الأرقام (١،٤،٧،٣،٥،٠) هو ٧٥٤٣١٠	(×)
٦	عند تقريب العدد ٩٩٩٩٩٩ لأي منزلة فإن الناتج = ١٠٠٠٠٠٠	(✓)
٧	أصغر عدد إذا قربناه لأقرب ألف = ٨٠٠٠ هو ٧٩٥٠	(×)
٨	لدى محمد ٣ أوراق من فئة ١٠ ريال و ٦ أوراق من فئة ٥ ريال و ١٢ ورقة من فئة ريال . فإن لديه المبلغ الكافي لشراء كرة ثمنها ٨٢ ريال	(×)
٩	عند طرح أي عدد من نفسه فإن النتيجة تكون (٠)	(✓)
١٠	عند طرح ٢ − ٢ = ٠ فإننا استعملنا خاصية العنصر المحايد	(×)
١١	٢٤٧ ≈ ٢٥٠ لأقرب مئة	(×)
١٢	قيمة اشتراك نادي شهريًا ٢٩٣ ريال أراد محمد الاشتراك شهرين فإنه سيدفع تقريبًا ٦٠٠ ريال .	(✓)
١٣	عند طرح عدد صغير في الآحاد ناقص عدد كبير فإننا نستلف من خانة العشرات ويكون الواحد بعشرة .	(✓)
١٤	في عملية الطرح نبدأ الطرح من اليسار	(×)
١٥	إذا كان عدد الكرات التي اخترناها = عدد الكرات المتبقية. نصف الاحتمال بمتساوي الامكانية	(✓)

موقع منهجي
mnhaji.com